جمهورية مصر العربية
وزارة التربية والتعليم
والتعليم الفنى
الإدارة المركزية لشئون الكتب

# الرياضيات

## الصف الأول الثانوى — الفصل الدراسى الأول

للرياضيات تطبيقات عملية فى مجالات متعددة منها إنشاء الطرق والكبارى وتخطيط المدن وإعداد خرائطها التى تعتمد على توازى المستقيمات و المستقيمات القاطعة لها وفق تناسب بين الطول الحقيقى والطول فى الرسم.

**إعداد**

أ/ عمر فؤاد جاب الله

أ.د/ عفاف أبو الفتوح صالح — أ.د/ نبيل توفيق الضبع

أ.م.د/ عصام وصفى روفائيل — أ/ سيرافيم إلياس إسكندر

أ/ كمال يونس كبشة

**مراجعة**

أ/ سمير محمد سعداوى — أ/ فتحى أحمد شحاتة

**إشراف علمى**

مستشار الرياضيات

**إشراف تربوى**

مركز تطوير المناهج

غير مصرح بتداول هذا الكتاب خارج وزارة التربية والتعليم والتعليم الفنى

٢٠١٩/٢٠٢٠

# المقدمة

## بسم الله الرحمن الرحيم

يسعدنا ونحن نقدم هذا الكتاب أن نوضح الفلسفة التى تم فى ضوئها بناء المادة التعليمية ونوجزها فيمايلى:

١ التأكيد على أن الغاية الأساسية من هذا الكتاب هى مساعدة المتعلم على حل المشكلات واتخاذ القرارات فى حياته اليومية، والتى تساعده على المشاركه فى المجتمع.

٢ التأكيد على مبدأ استمرارية التعلم مدى الحياة من خلال العمل على أن يكتسب الطلاب منهجية التفكير العلمى، وأن يمارسوا التعلم الممتزج بالمتعة والتشويق، وذلك بالاعتماد على تنمية مهارات حل المشكلات وتنمية مهارات الاستنتاج والتعليل، واستخدام أساليب التعلم الذاتى والتعلم النشط والتعلم التعاونى بروح الفريق، والمناقشة والحوار، وتقبل آراء الآخرين، والموضوعية فى إصدار الأحكام، بالإضافة إلى التعريف ببعض الأنشطة والإنجازات الوطنية.

٣ تقديم رؤى شاملة متماسكة للعلاقة بين العلم والتكنولوجيا والمجتمع(STS) تعكس دور التقدُّم العلمى فى تنمية المجتمع المحلى، بالإضافة إلى التركيز على ممارسة الطلاب التصرُّف الواعى الفعّال حيال استخدام الأدوات التكنولوجية.

٤ تنمية اتجاهات إيجابية تجاه الرياضيات ودراستها وتقدير علمائها.

٥ تزويد الطلاب بثقافة شاملة لحسن استخدام الموارد البيئية المتاحة.

٦ الاعتماد على أساسيات المعرفة وتنمية طرائق التفكير، وتنمية المهارات العلمية، والبعد عن التفاصيل والحشو، والابتعاد عن التعليم التلقينى؛ لهذا فالاهتمام يوجه إلى إبراز المفاهيم والمبادئ العامة وأساليب البحث وحل المشكلات وطرائق التفكير الأساسية التى تميز مادة الرياضيات عن غيرها.

**وفى ضوء ما سبق روعى فى هذا الكتاب ما يلى:**

★ تقسيم الكتاب إلى وحدات متكاملة ومترابطة لكل منها مقدمة توضح أهدافها ودروسها ومخطط تنظيمى لها والمصطلحات الواردة بها باللغة العربية والإنجليزية، ومقسمة إلى دروس يوضح الهدف من تدريسها للطالب تحت عنوان سوف تتعلم، ويبدأ كل درس من دروس كل وحدة بالفكرة الأساسية لمحتوى الدرس وروعى عرض المادة العلمية من السهل إلى الصعب ويتضمن مجموعة من الأنشطة التى تتناول الربط بالمواد الأخرى والحياة العملية والتى تناسب القدرات المختلفة للطلاب وتراعى الفروق الفردية بينهم وتؤكد على العمل التعاونى، وتتكامل مع الموضوع.

★ كما قدم فى كل درس أمثلة تبدأ من السهل إلى الصعب، وتشمل مستويات تفكير متنوعة، مع تدريبات عليها تحت عنوان حاول أن تحل وينتهى كل درس ببند «تحقق من فهمك».

★ تنتهى كل وحدة بملخص للوحدة يتناول المفاهيم والتعليمات الواردة بالوحدة.

وأخيرًا ..نتمنى أن نكون قد وفقنا فى إنجاز هذا العمل لما فيه خير لأولادنا، ولمصرنا العزيزة.

والله من وراء القصد، وهو يهدى إلى سواء السبيل

# المحتويات

## الوحدة الأولى
## الجبر والعلاقات والدوال


١ - ١ حل معادلات الدرجة الثانية في متغير واحد. ٤
١ - ٢ مقدمة عن الأعداد المركبة. ٩
١ - ٣ تحديد نوع جذرى المعادلة التربيعية. ١٥
١ - ٤ العلاقة بين جذرى معادلة الدرجة الثانية ومعاملات حدودها. ١٩
١ - ٥ إشارة الدالة. ٢٦
١ - ٦ متباينات الدرجة الثانية فى مجهول واحد. ٣٣
ملخص الوحدة. ٣٧


## الوحدة الثانية
## التشابه


٢ - ١ تشابه المضلعات. ٤٢
٢ - ٢ تشابه المثلثات. ٤٨
٢ - ٣ العلاقة بين مساحتى سطحى مضلعين متشابهين. ٦١
٢ - ٤ تطبيقات التشابه فى الدائرة. ٧١
ملخص الوحدة. ٧٩


## الوحدة الثالثة
## نظريات التناسب فى المثلث


٣ - ١ المستقيمات المتوازية والأجزاء المتناسبة. ٨٢
٣ - ٢ منصفا الزاوية والأجزاء المتناسبة. ٩٤
٣ - ٣ تطبيقات التناسب فى الدائرة. ١٠٣
ملخص الوحدة. ١١٢


## الوحدة الرابعة
## حساب المثلثات


٤ - ١ الزاوية الموجهة. ١١٦
٤ - ٢ القياس الستينى والقياس الدائرى لزاوية. ١٢٤
٤ - ٣ الدوال المثلثية. ١٣١
٤ - ٤ الزاويا المنتسبة. ١٣٩
٤ - ٥ التمثيل البيانى للدوال المثلثية. ١٤٩
٤ - ٦ إيجاد قياس زاوية بمعلومية إحدى نسبها المثلثية. ١٥٣
ملخص الوحدة. ١٥٧

# الجبر والعلاقات والدوال

# Algebra, Relations and Functions

## أهداف الوحدة

**فى نهاية الوحدة من المتوقع أن يكون الطالب قادرًا على أن:**

- يحل معادلة الدرجة الثانية فى متغير واحد جبريًا وبيانيًا.
- يوجد مجموع وحاصل ضرب جَذرى معادلة من الدرجة الثانية فى متغير واحد.
- يوجد بعض معاملات حدود معادلة من الدرجة الثانية فى متغير واحد بمعلومية أحد الجذرين أو كليهما.
- يتعرف المميز لمعادلة الدرجة الثانية فى متغير واحد.
- يبحث نوع جذرى معادلة الدرجة الثانية فى متغير واحد بمعلومية معاملات حدودها.
- يكون معادلة الدرجة الثانية فى متغير واحد بمعلومية معادلة أخرى من الدرجة الثانية فى متغير واحد.
- يبحث إشارة دالة.
- يتعرف مقدمة فى الأعداد المركبة (تعريف العدد المركب، قوى ت، كتابة العدد المركب بالصورة الجبرية، تساوى عددين مركبين).
- يحل متباينات من الدرجةالثانية فى مجهول واحد.

## المصطلحات الأساسية

| | | | | | |
|---|---|---|---|---|---|
| معادلة | Equation | مميز المعادلة | Discriminant of the Equation | عدد مركب | Complex Number |
| جذر المعادلة | Root of the Equation | إشارة دالة | Sign of a function | عدد تخيلى | Imaginary Number |
| معامل الحد | Coefficient of a Term | | | قوى العدد | Powers of a Number |
| | | | | متباينة | Inequality |



تمثال لمحمد بن موسى الخوارزمى

## دروس الوحدة

الدرس (١ - ١): حل معادلات الدرجة الثانية فى متغير واحد.

الدرس (١ - ٢): مقدمة عن الأعداد المركبة.

الدرس (١ - ٣): تحديد نوع جذرى المعادلة التربيعية.

الدرس (١ - ٤): العلاقة بين جذرى معادلة الدرجة الثانية ومعاملات حدودها.

الدرس (١ - ٥): إشارة الدالة.

الدرس (١ - ٦): متباينات الدرجة الثانية فى مجهول واحد.

## الأدوات المستخدمة

آلة حاسبة علمية - ورق مربعات - حاسب آلى - برامج رسومية - بعض المواقع الإلكترونية مثل:

www.phschool.com

## لمحة تاريخية

الجبر كلمة عربية استخدمها محمد بن موسى الخوارزمى (القرن التاسع الميلادى فى عصر الخليفة العباسى المأمون) فى كتابه الذى ألفه، وكان عنوانه «الجبر والمقابلة»، والذى وضع فيه طرقًا أصيلة لحل المعادلات، وبذلك يعتبر الخوارزمى هو مؤسس علم الجبر بعد أن كان الجبر جزءًا من الحساب. وقد تُرجم الكتاب إلى اللغات الأوربية بعنوان «الجبر» ومنها أخذ كلمة «الجبر» (algebra).

والجذر هو الذى نرمز له حاليًا بالرمز س (إشارة إلى حل معادلة الدرجة الثانية) وقد وضع الخوارزمى حلولًا هندسية لحل معادلات الدرجة الثانية التى تتفق مع طريقة إكمال المربع. واشتغل كثير من العلماء العرب بحل المعادلات، ومن أشهرهم عمر الخيام الذى اهتم بحل معادلات الدرجة الثالثة.

وجدير بالذكر أنه ظهر فى بردية أحمس (١٨٦٠ ق.م) بعض المسائل التى يشير حلها إلى أن المصريين فى ذلك الحين قد توصلوا إلى طريقة لإيجاد مجموع المتتابعة الحسابية والمتتابعة الهندسية.

وقد وصل علم الجبر حاليًا إلى درجة كبيرة من التطور والتجريد؛ فبعد أن كان يتعامل مع الأعداد أصبح يتعامل مع كيانات رياضية جديدة مثل: المجموعات، والمصفوفات والمتجهات وغيرها.

والأمل معقود عليكم - أبناءنا الطلاب - فى استعادة مجدنا العلمى فى عصوره الذهبية المصرية الفرعونية والعصور الإسلامية، والتى حمل علماؤنا فيها لواءَ التقدم ومشاعلَ المعرفة إلى العالم شرقًا وغربًا.

## مخطط تنظيمى للوحدة

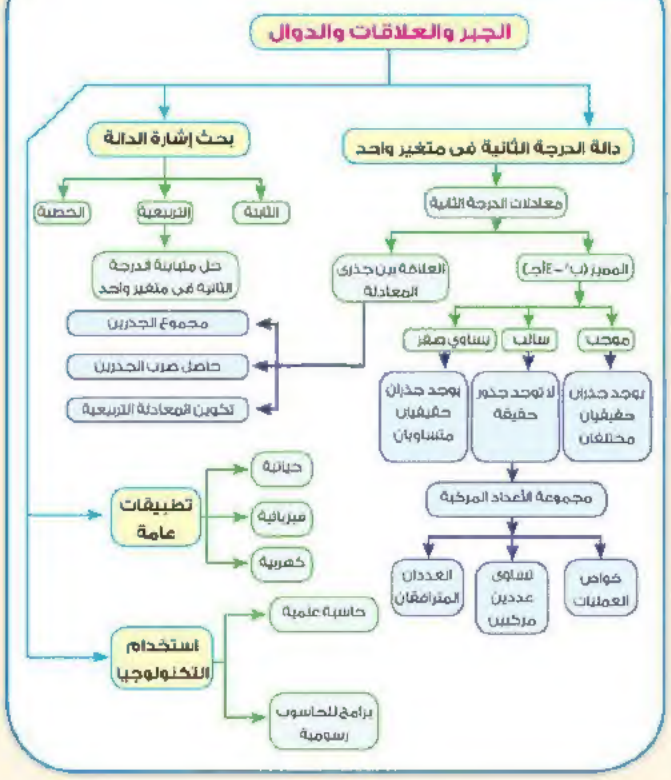

# ١ - ١ حل معادلات الدرجة الثانية فى متغير واحد

## Solving Quadratic Equations in One Variable

### سوف تتعلم

- مفهوم المعادلة الجبرية ذات المتغير الواحد.
- التمييز بين المعادلات والعلاقات والدوال.
- حل معادلة الدرجة الثانية فى متغير واحد جبريًا وبيانيًا.

### المصطلحات الأساسية

| | |
|---|---|
| معادلة | Equation |
| علاقة | Relation |
| دالة | Function |
| عامل | Factor |
| معامل | Coefficient |

### الأدوات والوسائل

- آلة حاسبة علمية
- ورق رسم بيانى

### فكر و ناقش

سبق أن درست المعادلات الجبرية فى متغير واحد، وفي هذا الدرس سوف تدرس المعادلات الجبرية من الدرجة الثانية فى متغير واحد.

والآن سوف نستعرض ما سبق لك دراسته من المعادلات الجبرية ذات المتغير الواحد.

١- تسمى المعادلة: أس + ب = ٠ حيث أ ≠ ٠ بأنها معادلة من الدرجة الأولى فى متغير واحد هو س (لأن أكبر قوى فيها للمتغير س هو العدد ١)

٢- تسمى المعادلة: أس$^{٢}$ + ب س + جـ = ٠ حيث أ ≠ ٠ معادلة من الدرجة الثانية فى متغير واحد هو س (لأن أكبر قوى فيها للمتغير س هو العدد ٢)

وعلى ذلك فالمعادلة: ٢س$^{٣}$ − ٣س$^{٢}$ + ٥ = ٠ تسمى معادلة من الدرجة الثالثة. (لأن أعلى أس فيها للمتغير س هو ٣).

### المعادلات والعلاقات والدوال Equations, relations and functions

سبق أن درست حل معادلة الدرجة الثانية جبريًا كالتالى، بطريقتين:

أولًا: بتحليل المقدار أس$^{٢}$ + ب س + جـ حيث أ، ب، جـ ∈ ح، أ ≠ ٠ (إذا كان ذلك ممكنًا فى صـ).

ثانيًا: باستخدام القانون العام، ويكون جذرا المعادلة أس$^{٢}$ + ب س + جـ = ٠ هما:

$$س = \frac{-ب \pm \sqrt{ب^{٢} - ٤أجـ}}{٢أ}$$

حيث أ معامل س$^{٢}$، ب معامل س، جـ الحد المطلق.

والآن سوف تدرس حل معادلة الدرجة الثانية بيانيًا.

### تعلم

## حل معادلة الدرجة الثانية بيانيًا

**Solving quadratic equation graphically**

**مثال**

(١) حل المعادلة: س$^{٢}$ + س − ٦ = ٠ بيانيًا، ثم تَحقَّقْ من صحة الحل.

**الحل**

لحل المعادلة س$^{٢}$ + س − ٦ = ٠ بيانيًا نتبع الآتي:

★ نرسم الشكل البياني للدالة د حيث د(س) = س$^{٢}$ + س − ٦

**تذكر**

المقدار الثلاثى

أس$^{٢}$ + ب س + جـ

حيث أ، ب، جـ أعداد صحيحة يمكن تحليلة كحاصل ضرب كثيرتي حدود معاملاتها أعداد صحيحة إذا وفقط إذا كان المقدار ب$^{٢}$ − ٤ أجـ مربع كامل

★ نعين مجموعة الإحداثيات السينية لنقط تقاطع منحنى الدالة مع محور السينات، فتكون هى مجموعة حل المعادلة.

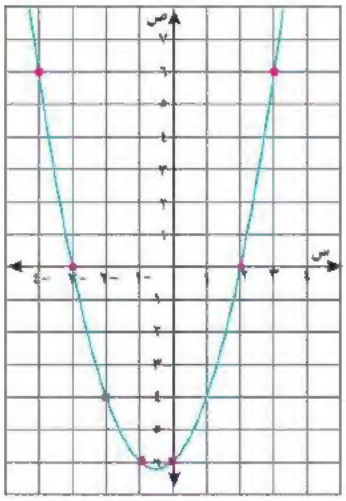


لرسم الدالة د (س) = ص، ص = س$^{٢}$ + س − ٦

ننشىء جدولًا لبعض قيم س، ثم نوجد قيم ص المناظرة لها كالآتي:

| س | −٤ | −٣ | −٢ | −١ | ٠ | ١ | ٢ | ٣ |
|---|---|---|---|---|---|---|---|---|
| ص | ٦ | ٠ | −٤ | −٦ | −٦ | −٤ | ٠ | ٦ |

★ نعين هذه النقاط فى المستوى الإحداثى المتعامد، ونصل بينهما بمنحنى كما فى الشكل المجاور.

ومن الرسم نجد الإحداثيات السينية لنقاط تقاطع منحنى الدالة مع محور السينات وهى س = − ٣، س = ٢ وبذلك تكون مجموعة حل المعادلة س$^{٢}$ + س − ٦ = ٠ هى {−٣، ٢}.

يمكنك استخدام الحل الجبرى لكى تطابقه مع الحل البيانى كالآتى:

المعادلة: س$^{٢}$ + س − ٦ = ٠

تحليل المقدار الثلاثى: (س + ٣)(س − ٢) = ٠

إما س + ٣ = ٠ أو س − ٢ = ٠

أى س = −٣ أو س = ٢ مجموعة الحل هى {−٣، ٢}

**تذكر**

إذا كان أ، ب أعدادًا حقيقية وكان أ × ب = ٠

فإن: أ = ٠ أو ب = ٠

**التحقق من صحة الحل:**

عندما س = − ٣: الطرف الأيمن للمعادلة = (− ٣)$^{٢}$ + (− ٣) − ٦

= ٩ − ٣ − ٦ = ٠ (الطرف الأيسر)

س = − ٣ تحقق المعادلة.

عندما س = ٢ : الطرف الأيمن للمعادلة = (٢)$^{٢}$ + (٢) − ٦

= ٤ + ٢ − ٦ = ٠ (الطرف الأيسر)

س = ٢ تحقق المعادلة.

**لاحظ أن:**

١- فى التمثيل البيانى للعلاقة السابقة ص = س$^{٢}$ + س − ٦

- العلاقة تمثل دالة؛ لأن الخط الرأسى يقطع المنحنى فى نقطة واحدة.
- المجال هو مجموعة الأعداد الحقيقية.
- المدى هو [−٦$\frac{١}{٤}$، ∞[ ؟

٢- للتعبير عن الدالة يستخدم الرمز د(س) بدلًا من ص، ويُقرأ دالة س.

**تفكير ناقد:** ١- هل كل دالة علاقة؟ فسِّر ذلك بأمثلة.

٢- هل يمكن تمثيل العلاقات والدوال بمعادلات؟ فسِّر ذلك.

أحد إلى مفهومك

**اختبار الخط الرأسي**

Vertical line test



دالة

الخط الرأسى يقطع المنحنى فى نقطة واحدة فقط

ليست دالة

الخط الرأسى يقطع المنحنى فى نقطتين أو أكثر

حاول أن تحل

(١) مثل العلاقة ص = س$^{٢}$ − ٤ بيانيًّا، ثم أوجد من الرسم مجموعة حل المعادلة س$^{٢}$ − ٤ = ٠
و إذا كانت ص = د(س) فبيِّن أنَّ د دالة، وحدِّد مجالها ومداها [ ناقش معلمك].

مثال

(٢) الربط بالفيزياء: أطُلِقت قذيفة رأسيًّا بسرعة (ع) تُساوى ٢٤,٥ متر/ث. احسبْ الفترة الزمنية (ن) بالثانية التى تستغرقها القذيفة حتى تصل إلى ارتفاع ف مترًا، حيث (ف) تساوى ١٩,٦ مترًا، علمًا بأن العلاقة بين ف، ن كالآتى:
ف = ع ن − ٤,٩ ن$^{٢}$.

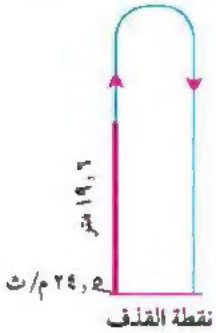


الحل

بالتعويض عن: ف = ١٩,٦ متر، ع = ٢٤,٥ مترًا/ث فى العلاقة ف = ع ن − ٤,٩ ن$^{٢}$

∴ ١٩,٦ = ٢٤,٥ ن − ٤,٩ ن$^{٢}$ وبقسمة الطرفين على ٤,٩

∴ ٤ = ٥ن − ن$^{٢}$ بالتبسيط

∴ ن$^{٢}$ − ٥ن + ٤ = ٠ بتحليل المقدار الثلاثى .

∴ (ن − ١) (ن − ٤) = ٠ أى أن: ن = ١ ثانية أو ن = ٤ ثانية.

تفسير وجود جوابين: القذيفة تصل إلى ارتفاع ١٩,٦ مترًا بعد ثانية واحدة، ثم تستمر فى الحركة لأعلى حتى تصل لأقصى ارتفاع، ثم تعود إلى نفس الارتفاع مرة أخرى بعد ٤ ثوانٍ من لحظة إطلاقها.

حاول أن تحل

(٣) الربط بالألعاب الرياضية: فى إحدى الألعاب الأولمبية قفز متسابق من منصة ارتفاعها ٩,٨ أمتار عن سطح الماء عاليًا مبتعدًا عنها، فإذا كان ارتفاع المتسابق عن سطح الماء ف مترًا بعد زمن قدره ن ثانية يتحدد بالعلاقة:
ف = −٤,٩ن$^{٢}$ + ٢,٤٥ن + ٩,٨ ، فأوجد لأقرب رقمين عشريين متى يصل المتسابق لسطح الماء؟

نشاط

قم بزيارة المواقع الآتية:

## تمارين (١ − ١)

**أولًا: الاختيار من متعدد**

(١) المعادلة: (س − ١) (س + ٢) = ٠ من الدرجة: .....

أ الأولى ب الثانية ج الثالثة د الرابعة

(٢) مجموعة حل المعادلة س$^{٢}$ = س فى ح هى: .....

أ {٠} ب {١} ج {−١، ١} د {٠، ١}

(٣) مجموعة حل المعادلة $س^٢ + ٣ = ٠$ فى ح هى: .....

أ {−٣}  ب {−$\sqrt{٣}$}  ج {$\sqrt{٣}$}  د $\phi$

(٤) مجموعة حل المعادلة $س^٢ - ٢س = -١$ فى ح هى: .....

أ {−١}  ب $\phi$  ج {−١، ١}  د {١}

(٥) يمثل الشكل المقابل المنحنى البيانى لدالة تربيعية د.

مجموعة حل المعادلة د(س) = ٠ فى ح هى: .....

أ {−٢}  ب {٤}

ج $\phi$  د {−٢، ٤}

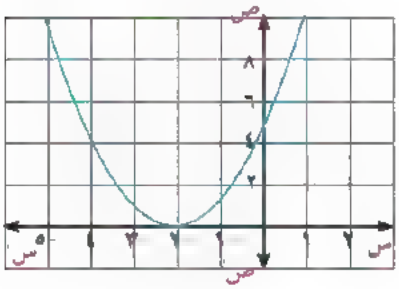


## ثانيًا: أجب عن الأسئلة الآتية:

(٦) أوجد مجموعة حل كل من المعادلات الآتية فى ح:

أ $س^٢ - ١ = ٠$  ب $س^٢ + ٣س = ٠$  ج $(س - ٤)^٢ = ٠$

د $س^٢ - ٦س + ٩ = ٠$  هـ $س^٢ + ٩ = ٠$  و $س(س + ١)(س - ١) = ٠$

(٧) يبين كل شكل من الأشكال الآتية الرسم البيانى لدالة من الدرجة الثانية.

أوجد مجموعة الحل للمعادلة د (س) = ٠ فى كل شكل.

أ

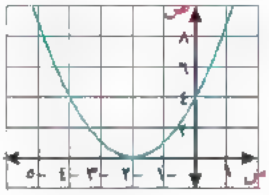


ب

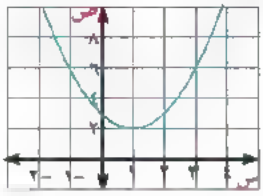


ج

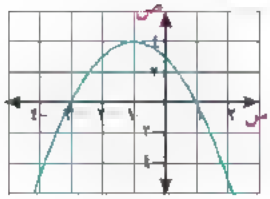


(٨) أوجد مجموعة الحل لكل من المعادلات الآتية فى ح وحقق الناتج بيانيًا:

أ $س^٢ = ٣س + ٤٠$  ب $٢س^٢ = ٣ - ٥س$

ج $٦س^٢ = ٦ - ٥س$  د $(س - ٣)^٢ = ٥$

هـ $س^٢ + ٢س = ١٢$  و $\frac{١}{٢}س^٢ - \frac{٣}{٥}س = ١$

(٩) حل المعادلات الآتية فى ح باستخدام القانون العام مقربًا الناتج لرقم عشرى واحد.

أ $٣س^٢ - ٦٥ = ٠$  ب $س^٢ - ٦س + ٧ = ٠$

ج $س^٢ + ٦س + ٨ = ٠$  د $٢س^٢ + ٣س - ٤ = ٠$

هـ $٥س^٢ - ٣س - ١ = ٠$  و $٣س^٢ - ٦س - ٤ = ٠$

(١٠) أعداد: إذا كان مجموع الأعداد الصحيحة المتتالية (١ + ٢ + ٣ + ... + ن) يعطى بالعلاقة جـ = $\frac{ن}{٢}$ (١ + ن) فكم عددًا صحيحًا متتاليًا بدءًا من العدد ١ يكون مجموعها مساويًا:

أ ٧٨ ب ١٧١

جـ ٢٥٣ د ٤٦٥

(١١) يبين كل شكل من الأشكال الآتية الرسم البياني لدالة من الدرجة الثانية في متغير واحد. أوجد قاعدة كل دالة من هذه الدوال.

أ

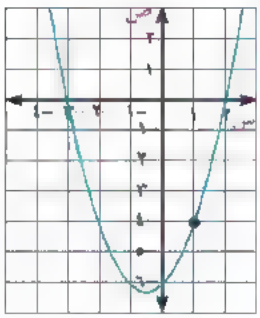

ب

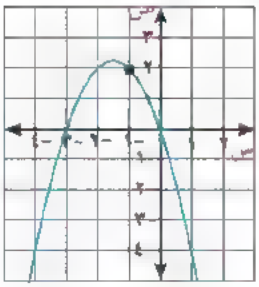

جـ

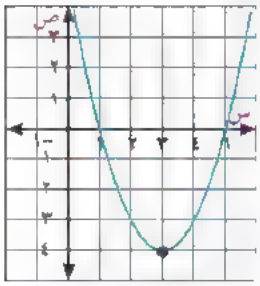

(١٢) اكتشف الخطأ: أوجد مجموعة حل المعادلة (س − ٣)$^{٢}$ = (س − ٣).

**إجابة زياد**

∵ (س − ٣)$^{٢}$ = (س − ٣)

بقسمة الطرفين على (س − ٣) حيث س ≠ ٣

∴ س − ٣ = ١ وبالتبسيط

∴ س = ٤

مجموعة الحل = {٤}

**إجابة كريم**

∵ (س − ٣)$^{٢}$ = (س − ٣)

∴ (س − ٣)$^{٢}$ − (س − ٣) = ٠

∴ (س − ٣)[(س − ٣) − ١] = ٠

بالتبسيط: س − ٣ = ٠ أو س − ٤ = ٠

مجموعة الحل = {٣، ٤}

أي الحلين صحيح؟ لماذا؟

(١٣) تفكير ناقد: قُذفت كرة رأسيًا إلى أعلى بسرعة (ع) تساوى ٢٩,٤ متر/ث. احسُب الفترة الزمنية (ن) بالثانية التى تستغرقها الكرة حتى تصل إلى ارتفاع (ف) مترًا، حيث ف تساوى ٣٩,٢ مترًا علمًا بأن العلاقة بين ف، ن تُعطى كالآتى ف = ع ن − ٤,٩ ن$^{٢}$.

# ١ - ٢ مقدمة عن الأعداد المركبة

## Complex Numbers

### سوف تتعلم

- مفهوم العدد التخيلي
- قوى ت الصحيحة
- مفهوم العدد المركب
- تساوي عددين مركبين
- العمليات على الأعداد المركبة

### المصطلحات الأساسية

- عدد تخيلي Imaginary Number
- عدد مركب Complex Number

### مكر و نامس

سبق أن درست نُظمًا مختلفة للأعداد، وهي نظام الأعداد الطبيعية "ط" ونظام الأعداد الصحيحة "صـ" ونظام الأعداد النسبية "نـ" وغير النسبية "نـ/" وأخيرًا نظام الأعداد الحقيقية "ح" ورأينا أن أي نظام ينشأ كتوسيع للنظام الذي يسبقه لحل معادلات جديدة لم تكن قابلة للحل في النظام السابق، وإذا تأملنا المعادلة $س^٢ = -١$ نجد أنها غير قابلة للحل في ح، إذ لا يوجد عدد حقيقي مربعه يساوي (-١) يحقق المعادلة؛ لذا نحتاج لدراسة مجموعة جديدة من الأعداد تسمى مجموعة الأعداد المركبة.

يبين الشكل المجاور: التمثيل البياني للدالة $ص = س^٢ + ١$ نلاحظ من الرسم أن منحنى الدالة لايقطع محور السينات؛ وبذلك لا يكون للمعادلة $س^٢ + ١ = ٠$ حلول حقيقية.

لذا كان من الضروري التفكير في مجموعة جديدة للأعداد لحل هذا النوع من المعادلات.

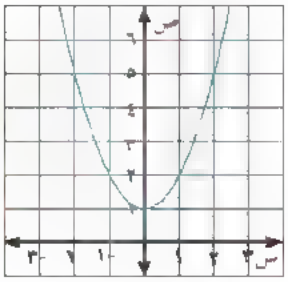


### العدد التخيلي Imaginary number

يعرف العدد التخيلي ت بأنه العدد الذي مربعه يساوي (-١)

أي أن: $ت^٢ = -١$ وله الخاصية $\sqrt{-أ} = ت\sqrt{أ}$ لكل أ ∈ ح+

وتسمى الأعداد التي على الصورة ٢ت، - ٥ت، $\sqrt{٣}$ ت بالأعداد التخيلية

بذلك نكتب $\sqrt{-٣} = \sqrt{٣}$ ت

$\sqrt{-٥} = \sqrt{٥}$ ت وهكذا.....

### الأدوات والوسائل

- آلة حاسبة علمية

**مفكر نامس:** إذا كان أ، ب عددين حقيقيين سالبين، فهل من الممكن أن يكون $\sqrt{أ}\sqrt{ب} = \sqrt{أب}$؟ فسر ذلك بمثال عددي.

## قوى ت الصحيحة: Integer powers of $i$

> **لاحظ:**
> ت يرمز لها بالرمز $i$

العدد ت يحقق قوانين الأسس التى سبق لك دراستها، ويمكن التعبير عن القوى المختلفة للعدد ت كالآتى:

$ت^{١} = ت$ ، $ت^{٢} = -١$ ، $ت^{٣} = ت^{٢} \times ت = -ت$

$ت^{٤} = ت^{٢} \times ت^{٢} = -١ \times -١ = ١$ ، $ت^{٥} = ت^{٤} \times ت = ١ \times ت = ت$

وبوجه عام فإن: $ت^{٤ن} = ١$ ، $ت^{٤ن+١} = ت$ ، $ت^{٤ن+٢} = -١$ ، $ت^{٤ن+٣} = -ت$ حيث ن ∈ ص

**مثال**

(١) أوجد كلًّا مما يأتى فى أبسط صورة:

أ $ت^{٢٠}$ ب $ت^{٤٣}$ جـ $ت^{-٦١}$ د $ت^{٤ن+١٩٠}$

**الحل**

أ $ت^{٢٠} = (ت^{٤})^{٧} \times ت^{٢} = ١ \times -١ = -١$

ب $ت^{٤٣} = (ت^{٤})^{١٠} \times ت^{٣} = ١ \times -ت = -ت$

جـ $ت^{-٦١} = (ت^{٤})^{-١٦} \times ت^{٣} = ١ \times ت^{٣} = ت$

د $ت^{٤ن+١٩٠} = ت^{٤ن} \times ت^{١٩٠} = ١ \times (ت^{٤})^{٤٧} \times ت^{٢} = ١ \times ت^{٢} = -ت$

**حاول أن تحل**

(١) أوجد كلًّا مما يأتى فى أبسط صورة:

أ $ت^{٢٤}$ ب $ت^{٣٧}$ جـ $ت^{٤٣}$ د $ت^{٥١}$ هـ $ت^{٤ن+٣٩}$ و $ت^{٤ن+٤٣}$

## العدد المركب Complex number

العدد المركب هو العدد الذى يمكن كتابته على الصورة $أ + ب ت$ حيث أ، ب عددان حقيقيان.

> **العدد المركب**
> $أ + ب ت$
> أ ← الجزء الحقيقى
> ب ت ← الجزء التخيلى

ويبين الشكل التالى مجموعات الأعداد التى تُشكل جزءًا من نظام العدد المركب.

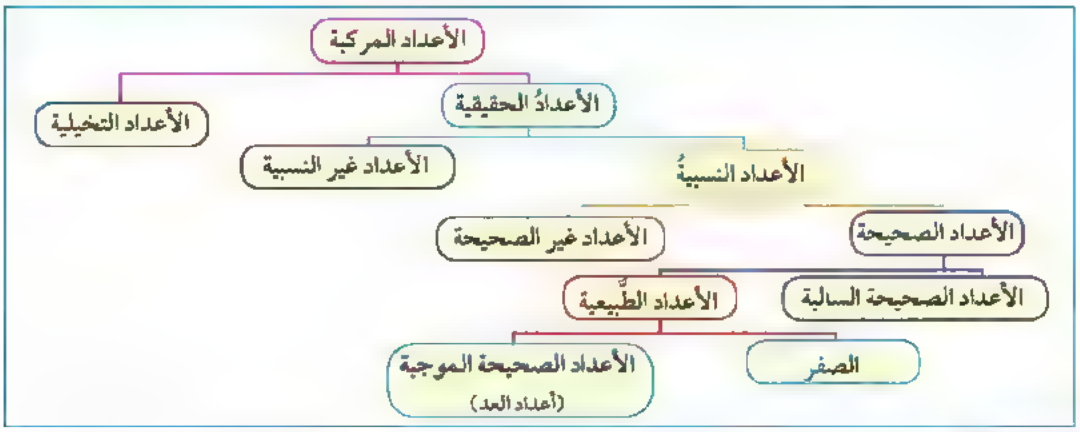

إذا كان أ، ب عددين حقيقيين فإن العدد ع حيث ع = أ + ب ت يسمى عددًا مركبًا، وتسمى أ بالجزء الحقيقي للعدد المركب ع، ب بالجزء التخيلي للعدد المركب ع.

و إذا كانت ب = ٠ فإن العدد ع = أ يكون حقيقيًا، و إذا كانت أ = ٠ فإن العدد ع = ب ت يكون تخيليًا حيث ب ≠ صفر.

**مثال**

(٢) حل المعادلة ٩س$^{٢}$ + ١٢٥ = ٦١

**الحل**

المعادلة ٩س$^{٢}$ + ١٢٥ = ٦١

٩س$^{٢}$ + ١٢٥ − ١٢٥ = ٦١ − ١٢٥ بإضافة (− ١٢٥) إلى طرفي المعادلة

٩س$^{٢}$ = − ٦٤ بقسمة طرفي المعادلة على ٩

س$^{٢}$ = − $\frac{٦٤}{٩}$

س = ± $\sqrt{\frac{-٦٤}{٩}}$ بأخذ الجذر التربيعي

س = ± $\frac{٨}{٣}$ ت تعريف العدد المركب

**حاول أن تحل**

(٢) حل كلًّا من المعادلات الآتية:

أ ٣س$^{٢}$ + ٢٧ = ٠ ب ٥س$^{٢}$ + ٢٤٥ = ٠ جـ ٤س$^{٢}$ + ١٠٠ = ٧٥

## تساوي عددين مركبين Equality of two complex numbers

يتساوى العددان المركبان إذا وفقط إذا تساوى الجزءان الحقيقيان وتساوى الجزءان التخيليان.

إذا كان: أ + ب ت = جـ + ء ت فإن: أ = جـ ، ب = ء والعكس صحيح

**مثال**

(٣) أوجد قيمتي س، ص اللتين تُحققان المعادلة: ٢س − ص + (س − ٢ص)ت = ٥ + ت حيث س، ص ∈ ح، ت$^{٢}$ = −١

**الحل**

بمساواة الجزأين الحقيقين أحدهما بالآخر وكذلك الجزأين التخيليين أحدهما بالآخر

٢ س − ص = ٥ ، س − ٢ ص = ١

بحل المعادلتين ينتج أن س = ٣ ، ص = ١

**حاول أن تحل**

(٣) أوجد قيمتي س، ص اللتين تُحققان كل من المعادلات الآتية:

أ (٢س + ١) + ٤ص ت = ٥ − ١٢ ت ب ٢س − ٣ + (٣ص + ١) ت = ٧ + ١٠ ت

## العمليات على الأعداد المركبة Operations on complex numbers

يمكن استخدام خواص الإبدال والتجميع والتوزيع عند جمع أو ضرب الأعداد المركبة، كما توضح ذلك الأمثلة التالية.

**مثال**

(٤) أوجد فى أبسط صورة ناتج كلٍّ مما يأتى:

أ (٧ – ٤ت) + (٢ + ت)  ب (٢ + ٣ت) (٣ – ٤ت)

**الحل**

أ المقدار = (٧ – ٤ت) + (٢ + ت)

= (٧ + ٢) + (– ٤ + ١) ت  باستخدام خاصيتى الإبدال والتجميع

= ٩ – ٣ ت  بالتبسيط

ب المقدار = (٢ + ٣ت) (٣ – ٤ت)

= ٢ (٣ – ٤ت) + ٣ت (٣ – ٤ت)  باستخدام خاصية التوزيع

= ٦ – ٨ت + ٩ ت – ١٢ ت$^{٢}$  بفك الأقواس

= ٦ – ٨ت + ٩ت + ١٢  حيث ت$^{٢}$ = – ١

= (٦ + ١٢) + (– ٨ + ٩) ت = ١٨ + ت  بالتبسيط

**حاول أن تحل**

(٤) أوجد فى أبسط صورة ناتج كلٍّ مما يأتى:

أ (١٢ – ٥ت) – (٧ – ٩ت)  ب (٤ – ٣ت)(٤ + ٣ت)  ج (٥ – ٦ت)(٣ + ٢ت)

## العددان المترافقان Conjugate Numbers

العددان المركبان أ + ب ت ، أ – ب ت يسميان بالعددين المترافقين فمثلًا ٤ – ٣ت ، ٤ + ٣ت عددان مترافقان، حيث:

(١) (٤ – ٣ت)(٤ + ٣ت) = (٤)$^{٢}$ – (٣ت)$^{٢}$

= ١٦ – ٩ت$^{٢}$ = ١٦ – ٩(–١) = ٢٥  (الناتج عدد حقيقى)

(٢) (٤ – ٣ت) + (٤ + ٣ت) = ٨  (الناتج عدد حقيقى)

**تفكير ناقد:**

هل بالضرورة أن يكون مجموع العددين المترافقين هو دائمًا عددًا حقيقيًّا؟ فسِّر ذلك.

هل بالضرورة أن يكون حاصل ضرب العددين المترافقين هو دائمًا عددًا حقيقيًّا؟ فسِّر ذلك.

**مثال**

⑤ أوجد قيمتي س، ص اللتين تحققان المعادلة:

$$\frac{(٢+ت)(٢-ت)}{٣+٤ت} = س + ت ص$$

**الحل**

$\frac{٤ - ت^٢}{٣+٤ت} = س + ت ص$ بفك الأقواس

$\frac{٤+١}{٣+٤ت} \times \frac{٣-٤ت}{٣-٤ت} = س + ت ص$ بضرب البسط والمقام في مرافق المقام (٣ − ٤ت)

$\frac{٥(٣ - ٤ت)}{٢٥} = س + ت ص$ بالتبسيط

$\frac{٣}{٥} - \frac{٤}{٥}ت = س + ص ت$ بتطبيق تساوي عددين مركبين

أي أن $س = \frac{٣}{٥}$ ، $ص = -\frac{٤}{٥}$

**حاول أن تحل**

⑤ أوجد في أبسط صورة قيمة كلٍّ مما يأتي:

أ $\frac{٤ - ٦ت}{٢ت}$ ب $\frac{٢٦}{٣ ٢ت}$ ج $\frac{٣ - ت}{٢ ت}$ د $\frac{٣ + ٤ت}{٥ ٢ت}$

**مثال**

⑥ كهرباء: أوجد شدة التيار الكهربي الكلية المار في مقاومتين متصلتين على التوازي في دائرة كهربية مغلقة، إذا كانت شدة التيار في المقاومة الأولى ٥ − ٣ت أمبير وفي المقاومة الثانية ٢ + ت أمبير (علمًا بأن شدة التيار الكلية تساوي مجموع شدتي التيار المار في المقاومتين).

**الحل**

∵ شدة التيار الكهربي الكلية = مجموع شدتي التيار المار في المقاومتين.

∴ = (٥ − ٣ت) + (٢ + ت)

= (٥ + ٢) + (−٣ + ١) ت

= ٧ − ٢ت أمبير

**حاول أن تحل**

⑥ إذا كانت شدة التيار الكهربي الكلية المار في مقاومتين متصلتين على التوازي في دائرة كهربية مغلقة تساوي ٦ + ٤ ت أمبير، وكانت شدة التيار المار في إحداهما $\frac{١٧}{٤ - ت}$، فأوجد شدة التيار المار في المقاومة الأخرى.

(١) تفكير ناقد: أوجد فى أبسط صورة $(١ - ت)^{١٠}$

## تمـــارين (أ – ٢)

(١) ضع كلًّا مما يأتى فى أبسط صورة:

أ $ت^{٦٦}$ ب $ت^{-٤٥}$ جـ $ت^{أ+٢٠}$ د $ت^{أ-١٠}$

(٢) بسط كلًّا مما يأتى:

أ $\sqrt{-١٨} \times \sqrt{-١٢}$ ب $٣ت(-٢ت)$ جـ $(-٤ت)(-٦ت)$ د $(-٢ت)^{٢}(-٣ت)^{٢}$

(٣) أوجد ناتج كلٍّ مما يأتى فى أبسط صورة:

أ $(٣ + ٢ت) + (٢ - ٥ت)$ ب $(٢٦ - ٤ت) - (٩ - ٢٠ت)$ جـ $(٢٠ + ٢٥ت) - (٩ - ٢٠ت)$

(٤) ضع كلًّا مما يأتى على صورة أ + ب ت

أ $(٢ + ٣ت) - (١ - ٢ت)$ ب $(١ + ٢ت^{٣})(٢ + ٣ت^{٥} + ٤ت^{٦})$

(٥) ضع كلًّا مما يأتى على صورة أ + ب ت

أ $\frac{٢}{١ + ت}$ ب $\frac{٤ + ت}{ت}$ جـ $\frac{٢ - ٣ت}{٣ + ت}$ د $\frac{(٣ + ت)(٣ - ت)}{٣ - ٤ت}$

(٦) حل كل من المعادلات الآتية:

أ $٣س^{٢} + ١٢ = ٠$ ب $٤ص^{٢} + ٢٠ = ٠$ جـ $٤ع^{٢} + ٧٢ = ٠$ د $\frac{٣}{٥}ص^{٢} + ١٥ = ٠$

(٧) كهرباء: أوجد شدة التيار الكهربى الكلية المار فى مقاومتين متصلتين على التوازى فى دائرة كهربائية مغلقة إذا كانت شدة التيار فى المقاومة الأولى ٤ – ٢ت أمبير، وفى المقاومة الثانية $\frac{٦ + ٣ت}{٢ + ت}$ أمبير

(٨) إكتشف الخطأ: أوجد أبسط صورة للمقدار: $(٢ + ٣ت)^{٢}(٢ - ٣ت)$

**إجابة أحمد**

$(٢ + ٣ت)(٢ + ٣ت)(٢ - ٣ت)$

$= (٢ + ٣ت)(٤ - ٩ت^{٢})$

$= (٢ + ٣ت)(٤ + ٩) = ١٣(٢ + ٣ت)$

$= ٢٦ + ٣٩ت$

**إجابة كريم**

$(٢ + ٣ت)^{٢}(٢ - ٣ت) = (٤ + ٩ت^{٢})(٢ - ٣ت)$

$= (٤ - ٩)(٢ - ٣ت) = -٥(٢ - ٣ت)$

$= -١٠ + ١٥ت$

أى الحلين صحيح؟ لماذا؟ ...

# ١ - ٣ تحديد نوع جذرى المعادلة التربيعية

## Determining the Types of Roots of a Quadratic Equation

**سوف تتعلم**

- كيفية تحديد نوع جذرى المعادلة التربيعية

**المصطلحات الأساسية**

- جذر Root
- مميز Discriminant

**الأدوات والوسائل**

- آلة حاسبة علمية

### مكر و ماس

سبق أن درست حل معادلة الدرجة الثانية (المعادلة التربيعية) فى متغير واحد فى ح؛ وعلمت من خلال حل المعادلة أن عدد حلولها الحقيقية إما أن يكون حلين أو حلًّا وحيدًا مكررًا، أو لا يوجد حل للمعادلة فى ح، فهل يمكنك إيجاد عدد جذور (حلول) معادلة الدرجة الثانية فى ح دون حلها؟

### المميز Discriminant

جذرا المعادلة التربيعية أس$^{٢}$ + ب س + جـ = ٠ حيث أ ≠ ٠، أ، ب، جـ ∈ ح

هما: $\frac{-ب + \sqrt{ب^{٢} - ٤أجـ}}{٢أ}$ ، $\frac{-ب - \sqrt{ب^{٢} - ٤أجـ}}{٢أ}$

وكلا الجذرين يحتوى على المقدار $\sqrt{ب^{٢} - ٤أجـ}$ .

يسمى المقدار ب$^{٢}$ − ٤أجـ مميز المعادلة التربيعية، ويستخدم لتحديد نوع جذرى المعادلة.

**مثال**

(١) حدد نوع جذرى كل من المعادلات الآتية:

أ ٥س$^{٢}$ + س − ٧ = ٠ ب س$^{٢}$ − ٢س + ١ = ٠

جـ − س$^{٢}$ + ٥س − ٣٠ = ٠

**الحل**

لتحديد نوع الجذرين:

أ أ = ٥ ، ب = ١ ، جـ = −٧

المميز = ب$^{٢}$ − ٤أجـ

= ١ − ٤ × ٥ (−٧) = ١٤١

∵ المميز موجب لذلك يوجد جذران حقيقيان مختلفان.

ب أ = ١ ، ب = −٢ ، جـ = ١

المميز = ب$^{٢}$ − ٤أجـ

= ٤ − ٤ × ١ × ١ = ٠

∵ المميز يساوى صفرًا، إذن الجذران حقيقيان ومتساويان.

جـ أ = -١ ، ب = ٥ ، جـ = -٣٠ المميز = ب$^{٢}$ - ٤أجـ

= ٢٥ - ٤ × -١ × -٣٠ = -٩٥

∵ المميز سالب، إذن يوجد جذران مركبان مترافقان (غير حقيقيين).

لاحظ أن

| المميز | نوع الجذرين | شكل تخطيطي للدالة المرتبطة بالمعادلة |
|---|---|---|
| (ب$^{٢}$ - ٤أجـ) > ٠ | جذران حقيقيان مختلفان | |
| ب$^{٢}$ - ٤أجـ = ٠ | جذر حقيقي واحد مكرر (جذران متساويان) | |
| ب$^{٢}$ - ٤أجـ < ٠ | جذران مركبان مترافقان (غير حقيقيين). | |

حاول أن تحل

(١) عيِّن نوع جذري كل معادلة من المعادلات التربيعية الآتية :

أ ٦س$^{٢}$ = ١٩ س - ١٥ ب ١٢س - ٤س$^{٢}$ = ٩

جـ س (س - ٢) = ٥ د س(س + ٥) = ٢(س - ٧)

مثال

(٢) أثبت أن جذري المعادلة ٢س$^{٢}$ - ٣ س + ٢ = ٠ مركبان و غير حقيقيين، ثم استخدم القانون العام لإيجاد هذين الجذرين.

الحل

أ = ٢، ب = - ٣، جـ = ٢

∵ المميز = ب$^{٢}$ - ٤أجـ ∴ المميز = (- ٣)$^{٢}$ - ٤ × ٢ × ٢ = ٩ - ١٦ = - ٧

∵ المميز سالب ∴ يوجد جذران مركبان (غير حقيقيين).

القانون العام: س = $\frac{-ب \pm \sqrt{ب^{٢} - ٤أجـ}}{٢أ}$

س = $\frac{(٣) \pm \sqrt{٧ت^{٢}}}{٢ \times ٢}$ = $\frac{٣ \pm \sqrt{٧}\, ت}{٤}$

جذرا المعادلة هما: $\frac{٣}{٤} + \frac{\sqrt{٧}}{٤}$ ت، $\frac{٣}{٤} - \frac{\sqrt{٧}}{٤}$ ت

**تفكير ناقد:** هل بالضرورة أن يكون جذرا المعادلة التربيعية فى مجموعة الأعداد المركبة عددين مترافقين؟ وضح بمثال من عندك

**حاول أن تحل**

(٢) أثبت أن جذرى المعادلة ٧س$^{٢}$ − ١١ س + ٥ = ٠ مركبان، ثم استخدم القانون العام لإيجاد هذين الجذرين.

**مثال**

٣ إذا كان جذرا المعادلة س$^{٢}$ + ٢(ك − ١) س + ٩ = ٠ متساويين، فأوجد قيم ك الحقيقية، ثم تحقق من صحة الناتج:

**الحل**

ب$^{٢}$ − ٤أجـ = ٠

٤(ك − ١)$^{٢}$ − ٤ × ١ × ٩ = ٠

٤ك$^{٢}$ − ٨ك − ٣٢ = ٠

ك$^{٢}$ − ٢ك − ٨ = ٠

(ك − ٤)(ك + ٢) = ٠

ك = ٤ أو ك = −٢

**التحقيق:** عندما ك = ٤

**تصبح المعادلة:** س$^{٢}$ + ٦س + ٩ = ٠

ويكون لها جذران متساويان هما: −٣، −٣

**التحقيق:** عندما ك = −٢

**تصبح المعادلة:** س$^{٢}$ − ٦س + ٩ = ٠

ويكون لها جذران متساويان هما: ٣،٣

**حاول أن تحل**

(٣) إذا كان جذرا المعادلة س$^{٢}$ − ٢ك س + ٧ك − ٦س + ٩ = ٠ متساويين، فأوجد قيم ك الحقيقية، ثم أوجد الجذرين.

## تمـــاريـن (١ − ٣)

**أولًا: اختيار من متعدد:**

(١) يكون جذرا المعادلة س$^{٢}$ − ٤س + ك = ٠ متساويين إذا كانت:

أ ك = ١ ب ك = ٤ جـ ك = ٨ د ك = ١٦

(٢) يكون جذرا المعادلة س$^{٢}$ − ٢س + م = ٠ حقيقيين مختلفين إذا كانت: .....

أ م = ١ ب م > ١ جـ م < ١ د م = ٤

(٣) يكون جذرا المعادلة ل س$^{٢}$ − ١٢س + ٩ = ٠ مركبين غير حقيقيين إذا كانت: .....

أ ل > ٤ ب ل < ٤ جـ ل = ٤ د ل = ١

**ثانيًا: أجب عن الأسئلة الآتية:**

(٤) حدد عدد الجذور وأنواعها لكل معادلة من المعادلات التربيعية الآتية:

أ س$^{٢}$ − ٢س + ٥ = ٠ ب ٣س$^{٢}$ + ١٠س − ٤ = ٠

جـ س$^{٢}$ − ١٠س + ٢٥ = ٠ د ٦س$^{٢}$ − ١٩س + ٣٥ = ٠

هـ (س − ١١) − س(س − ٦) = ٠ و (س − ١) (س − ٧) = ٢ (س − ٣) (س − ٤)

⑤ أوجد حل كلٍّ من المعادلات الآتية فى مجموعة الأعداد المركبة باستخدام القانون العام.

أ $س^٢ - ٤س + ٥ = ٠$ ب $٢س^٢ + ٦س + ٥ = ٠$

جـ $٣س^٢ - ٧س + ٦ = ٠$ د $٤س^٢ - س + ١ = ٠$

⑥ أوجد قيمة ك فى كل من الحالات الآتية:

أ إذا كان جذرا المعادلة $س^٢ + ٤س + ك = ٠$ حقيقيين مختلفين.

ب إذا كان جذرا المعادلة $س^٢ - ٣س + ٢ + \frac{١}{ك} = ٠$ متساويين.

جـ إذا كان جذرا المعادلة $ك س^٢ - ٨س + ١٦ = ٠$ مركبين غير حقيقيين.

⑦ إذا كان ل، م عددين نسبيين، فأثبت أن جذرى المعادلة : $ل س^٢ + (ل - م) س - م = ٠$ عددان نسبيان.

⑧ يقدر عدد سكان جمهورية مصر العربية عام ٢٠١٣ بالعلاقة:

$ع = ن^٢ + ١,٢ ن + ٩١$ حيث (ع) عدد السكان بالمليون، (ن) عدد السنوات

أ كم كان عدد السكان عام ٢٠١٣؟

ب قدر عدد السكان عام ٢٠٢٣

جـ قدر عدد السنوات التى يبلغ عدد السكان فيها ٣٣٤ مليونًا.

د اكتب مقالًا توضح فيه أسباب الزيادة المطردة فى عدد السكان وكيفية علاجها.

⑨ اكتشف الخطأ: ما عدد حلول المعادلة $٢س^٢ - ٦س = ٥$ فى ح

**إجابة أحمد**

$ب^٢ - ٤أجـ = (-٦)^٢ - ٤ \times ٢ \times ٥$

$= ٣٦ - ٤٠ = -٤$

المميز سالب، فلا توجد حلول حقيقية

**إجابة كريم**

$ب^٢ - ٤أجـ = (-٦)^٢ - ٤ \times ٢ (-٥)$

$= ٣٦ + ٤٠ = ٧٦$

المميز موجب، فيوجد حلّان حقيقيان مختلفان

⑩ إذا كان جذرا المعادلة $س^٢ + ٢ (ك - ١) س + (٢ك + ١) = ٠$ متساويين، فأوجد قيم ك الحقيقية، ثم أوجد الجذر يين.

⑪ تفكير ناقد: حل المعادلة $٣٦ س^٢ - ٤٨ س + ٢٥ = ٠$ فى مجموعة الأعداد المركبة.

# ١ - ٤ العلاقة بين جذرى معادلة الدرجة الثانية ومعاملات حدودها

## The Relation Between Two Roots of the Second Degree Equation and the Coefficients of its Terms

**سوف تتعلم**

- كيفية إيجاد مجموع الجذرين لمعادلة تربيعية معطاة.
- كيفية إيجاد حاصل ضرب الجذرين
- يجد معادلة تربيعية بمعلومية معادلة تربيعية أخرى

**مكرر g ياسين**

تعلم أن جذرى المعادلة ٤س$^{٢}$ − ٨س + ٣ = ٠ هما $\frac{١}{٢}$ ، $\frac{٣}{٢}$

مجموع الجذرين $\frac{١}{٢} + \frac{٣}{٢} = \frac{٣+١}{٢} = ٢$

حاصل ضرب الجذرين $\frac{١}{٢} \times \frac{٣}{٢} = \frac{٣}{٤}$

هل توجد علاقة بين مجموع جَذرى المعادلة ومعاملات حدودها؟

هل توجد علاقة بين حاصل ضرب جَذرى المعادلة ومعاملات حدودها؟

## مجموع الجذرين وحاصل ضربهما

### Sum and multiply of two roots

**المصطلحات الأساسية**

- مجموع جذرين Sum of Two Roots
- حاصل ضرب جذرين Product of Two Roots

جذرا المعادلة التربيعية أ س$^{٢}$ + ب س + جـ = ٠ هما:

$$\frac{-ب + \sqrt{ب^{٢} - ٤أجـ}}{٢أ} \quad ، \quad \frac{-ب - \sqrt{ب^{٢} - ٤أجـ}}{٢أ}$$

وباعتبار أن الجذر الأول = ل، الجذر الثانى = م فإن:

ل + م = $\frac{-ب}{أ}$ (أثبت ذلك) ل م = $\frac{جـ}{أ}$ (أثبت ذلك)

**تعبير شفهى** فى المعادلة التربيعية أ س$^{٢}$ + ب س + جـ = ٠

أوجد ل + م ، ل م فى الحالات الآتية:

أ إذا كان أ = ١ ب إذا كانت ب = أ جـ إذا كان أ = جـ

**مثال**

**الأدوات والوسائل**

- آلة حاسبة علمية

(١) دون حل المعادلة أوجد مجموع وحاصل ضرب جذرى المعادلة:

٢س$^{٢}$ + ٥ س − ١٢ = ٠

**الحل**

أ = ٢ ، ب = ٥ ، جـ = −١٢

مجموع الجذرين = $\frac{-ب}{أ} = \frac{-٥}{٢} = -\frac{٥}{٢}$

حاصل ضرب الجذرين = $\frac{جـ}{أ} = \frac{-١٢}{٢} = -٦$

حاول أن تحل

(١) دون حل المعادلة أوجد مجموع وحاصل ضرب جذرى كل من المعادلات الآتية :

أ ٢ س$^{٢}$ + س − ٦ = ٠ ب ٣ س$^{٢}$ = ٢٣ س − ٣٠ جـ (٢س − ٣) (س + ٢) = ٠

مثال

(٢) إذا كان حاصل ضرب جذرى المعادلة ٢ س$^{٢}$ − ٣ س + ك = ٠ يساوى ١ فأوجد قيمة ك، ثم حل المعادلة.

الحل

حاصل ضرب الجذرين = $\frac{جـ}{أ}$ ∴ $\frac{ك}{٢}$ = ١ ∴ ك = ٢

أ = ٢، ب = − ٣، جـ = ٢

القانون العام: س = $\frac{-ب \pm \sqrt{ب^{٢} - ٤أجـ}}{٢أ}$

= $\frac{٣ \pm \sqrt{٩ - ١٦}}{٤}$ = $\frac{٣ \pm \sqrt{-٧}}{٤}$ = $\frac{٣ \pm \sqrt{٧}ت}{٤}$

مجموعة حل المعادلة هى { $\frac{٣}{٤} + \frac{\sqrt{٧}}{٤}$ ت ، $\frac{٣}{٤} - \frac{\sqrt{٧}}{٤}$ ت }

حاول أن تحل

(٢) إذا كان حاصل ضرب جذرى المعادلة ٣س$^{٢}$ + ١٠س − جـ = ٠ هو $\frac{-٨}{٣}$ فأوجد قيمة جـ، ثم حل المعادلة.

(٣) إذا كان مجموع جذرى المعادلة ٢ س$^{٢}$ + ب س − ٥ = ٠ هو $\frac{-٣}{٢}$ فأوجد قيمة ب، ثم حل المعادلة.

مثال

(٣) إذا كان (١ + ت) هو أحد جذور المعادلة س$^{٢}$ − ٢ س + أ = حيث أ ∈ ح فأوجد:

أ الجذر الآخر ب قيمة أ

الحل

أ = ١ ، ب = −٢ ، جـ = أ

أ ∵ ١ + ت هو أحد جذرى المعادلة

∴ الجذر الآخر = ١ − ت لأن الجذرين مترافقان ومجموعهما = ٢

ب ∵ حاصل ضرب الجذرين = أ

∴ (١ + ت) (١ − ت) = أ

∴ ١ + ١ = أ ∴ أ = ٢

حاول أن تحل

(٤) إذا كان (٢ + ت) هو أحد جذور المعادلة س$^{٢}$ − ٤ س + ب = ٠ حيث ب ∈ ح فأوجد

أ الجذر الآخر. ب قيمة ب

## تكوين المعادلة التربيعية متى عُلم جذراها

**Forming the quadratic equation whose roots are known**

بفرض أن ل، م هما جذرا المعادلة التربيعية: $أس^٢ + ب س + جـ = ٠ ، أ \neq ٠$

بقسمة طرفى المعادلة على أ: $\therefore س^٢ + \frac{ب}{أ} س + \frac{جـ}{أ} = ٠$

أى $س^٢ - (\frac{-ب}{أ}) س + \frac{جـ}{أ} = ٠$

$\because$ ل، م جذرا المعادلة التربيعية ، $ل + م = -\frac{ب}{أ}$ ، $ل م = \frac{جـ}{أ}$

$\therefore$ المعادلة التربيعية التى جذراها ل،م هى: $\boxed{س^٢ - (ل + م) س + ل م = ٠}$

مثال

(٤) كون المعادلة التربيعية التى جذراها ٤، -٣

الحل

ليكن جذرا المعادلة هما ل، م

$\because ل + م = ٤ + (-٣) = ١$ ، $ل م = ٤ (-٣) = -١٢$ ، $\because$ صيغة المعادلة التربيعية هى: $س^٢ - (ل + م) س + ل م = ٠$

$\therefore$ المعادلة هى: $س^٢ - س - ١٢ = ٠$

مثال

(٥) كوِّن المعادلة التربيعية التى جذراها. $\frac{-٢+٢ت}{١+ت}$ ، $\frac{-٢-٤ت}{٣-ت}$

الحل

ليكن جذرا المعادلة هما ل، م

$ل = \frac{-٢+٢ت}{١+ت} \times \frac{١-ت}{١-ت} = \frac{٤ت}{٢} = ٢ت$

$م = \frac{-٢-٤ت}{٣-ت} \times \frac{٣+ت}{٣+ت} = \frac{-١٠ت}{٥} = -٢ت$

$ل + م = ٢ت - ٢ت = ٠$

، $ل م = ٢ت \times -٢ت = -٤ت^٢ = ٤$

$\because$ المعادلة التربيعية التى جذراها ل ، م : $س^٢ - (ل + م) س + ل م = ٠$

$\therefore س^٢ + ٤ = ٠$

حاول أن تحل

(٥) كوِّن المعادلة التربيعية فى كل مما يأتى بمعلومية جذريها:

أ ٣ ، -٥ ب -٩ت ، ٩ت جـ $\frac{٣}{ت}$ ، $\frac{٣+٣ت}{١-ت}$

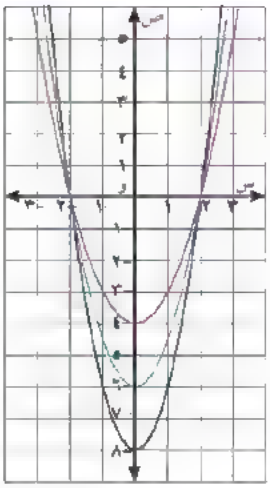

**تفكير ناقد:** الشكل المجاور يمثل مجموعة من منحنيات بعض الدوال التربيعية التي يمر كل منها بالنقطتين (٠، −٢) ، (٠، ٣).
أوجد قاعدة كل دالة من هذه الدوال

## تكوين معادلة تربيعية بمعلومية معادلة تربيعية أخرى

**Forming a quadratic equation from the roots of another equation**

**مثال**

(٦) إذا كان ل، م جذرى المعادلة ٢ س$^{٢}$ − ٣ س − ١ = ٠ فكون المعادلة التربيعية التى جذراها ل$^{٢}$، م$^{٢}$.

**الحل**

المعادلة المعلومة بالتعويض عن أ = ٢، ب = −٣، جـ = −١: ل + م = $\frac{-٣}{٢}$ = $\frac{٣}{٢}$، ل م = −$\frac{١}{٢}$

المعادلة المطلوبة بالتعويض عن ل + م = $\frac{٣}{٢}$، ل م = −$\frac{١}{٢}$ فى الصيغة ل$^{٢}$ + م$^{٢}$ = (ل + م)$^{٢}$ − ٢ ل م

∴ ل$^{٢}$ + م$^{٢}$ = (ل + م)$^{٢}$ − ٢ ل م = $(\frac{٣}{٢})^{٢}$ − ٢ × (−$\frac{١}{٢}$)

= $\frac{٩}{٤}$ + ١ = $\frac{٩}{٤}$ + $\frac{٤}{٤}$ = $\frac{١٣}{٤}$

∵ ل$^{٢}$م$^{٢}$ = (ل م)$^{٢}$

∴ ل$^{٢}$م$^{٢}$ = (−$\frac{١}{٢}$)$^{٢}$ = $\frac{١}{٤}$

**لاحظ أن**

ل$^{٢}$ + م$^{٢}$ = (ل + م)$^{٢}$ − ٢ل م

(ل − م)$^{٢}$ = (ل + م)$^{٢}$ − ٤ل م

بالتعويض فى صيغة المعادلة التربيعية: س$^{٢}$ − (مجموع الجذرين) س + حاصل ضربهما = ٠

س$^{٢}$ − $\frac{١٣}{٤}$ س + $\frac{١}{٤}$ = ٠ بضرب طرفى المعادلة فى ٤

∴ المعادلة التربيعية المطلوبة هى: ٤ س$^{٢}$ − ١٣ س + ٤ = ٠

**حاول أن تحل**

(٦) فى المعادلة السابقة ٢ س$^{٢}$ − ٣ س − ١ = ٠ كوّن المعادلات التربيعية التى جذرا كل منها كالآتى:

أ $\frac{١}{ل}$، $\frac{١}{م}$ ب $\frac{ل}{م}$، $\frac{م}{ل}$ جـ ل + م، ل م

**تمارين**

(١) فى كل مما يأتي كون المعادلة التربيعية التى جذراها:

أ $\frac{٢}{٣}$، $\frac{٤}{٣}$ ب ٥ $\sqrt{٣}$ ، ٢ $\sqrt{٣}$ جـ ٣ + $\sqrt{٢}$ ت ، ٣ − $\sqrt{٢}$ ت

(٢) إذا كان ل، م هما جذرا المعادلة س$^{٢}$ + ٣س − ٥ = ٠ فكوّن المعادلة التربيعية التى جذراها ل$^{٢}$، م$^{٢}$.

## تمـــارين (١ – ٤)

**أولًا: أكمل ماياتى:**

(١) إذا كان س = ٣ أحد جذرى المعادلة س$^{٢}$ + م س – ٢٧ = ٠ فإن م = ..... ، الجذر الآخر = .....

(٢) إذا كان حاصل ضرب جذرى المعادلة : ٢ س$^{٢}$ + ٧ س + ٣ ك = ٠ يساوى مجموع جذرى المعادلة: س$^{٢}$ – (ك + ٤) س = ٠ فإن ك = .....

(٣) المعادلة التربيعية التى كل من جذريها يزيد ١ عن كل من جذرى المعادلة س$^{٢}$ – ٣ س + ٢ = ٠ هى .....

(٤) المعادلة التربيعية التى كل من جذريها ينقص ١ عن كل من جذرى المعادلة س$^{٢}$ – ٥ س + ٦ = ٠ هى .....

**ثانيًا: الاختيار من متعدد**

(٥) إذا كان أحد جذرى المعادلة س$^{٢}$ – ٣ س + جـ = ٠ ضعف الآخر فإن جـ تساوى

أ -٤ ب -٢ جـ ٢ د ٤

(٦) إذا كان أحد جذرى المعادلة أ س$^{٢}$ – ٣س + ٢ = ٠ معكوسًا ضربيًا للآخر، فإن أ تساوى

أ $\frac{١}{٢}$ ب $\frac{١}{٢}$ جـ ٢ د ٣

(٧) إذا كان أحد جذرى المعادلة س$^{٢}$ – (ب – ٣) س + ٥ = ٠ معكوسًا جمعيًا للآخر، فإن ب تساوى

أ -٥ ب -٣ جـ ٣ د ٥

**ثالثًا: أجب عن الأسئلة الآتية**

(٨) أوجد مجموع وحاصل ضرب جذرى كل معادلة فيما يأتى:

أ ٣ س$^{٢}$ + ١٩ س – ١٤ = ٠ ب ٤ س$^{٢}$ + ٤ س – ٣٥ = ٠

(٩) أوجد قيمة أ ثم أوجد الجذر الآخر للمعادلة فى كل مما يأتى:

أ إذا كان: س = – ١ أحد جذرى المعادلة س$^{٢}$ – ٢ س + أ = ٠

ب إذا كان: س = ٢ أحد جذرى المعادلة أ س$^{٢}$ – ٥ س + أ = ٠

(١٠) أوجد قيمة أ، ب فى كل من المعادلات الآتية إذا كان:

أ ٢، ٥ جذرا المعادلة س$^{٢}$ + أ س + ب = ٠

ب -٣، ٧ جذرا المعادلة أس$^{٢}$ – ب س - ٢١ = ٠

جـ -١، $\frac{٣}{٢}$ جذرا المعادلة أ س$^{٢}$ – س + ب = ٠

د $\sqrt{٣}$ ت ، - $\sqrt{٣}$ ت جذرا المعادلة س$^{٢}$ + أ س + ب = ٠

(١١) ابحث نوع الجذرين لكل من المعادلات الآتية، ثم أوجد مجموعة حل كل منها:

أ $س^٢ + ٢س - ٣٥ = ٠$ ب $٢س^٢ + ٣س + ٧ = ٠$

جـ $س(س - ٤) + ٥ = ٠$ د $٣س(٣س - ٨) + ١٦ = ٠$

(١٢) أوجد قيمة جـ التي تجعل جذري المعادلة $جـ س^٢ - ١٢س + ٩ = ٠$ متساويين.

(١٣) أوجد قيمة أ التي تجعل جذري المعادلة $س^٢ - ٣س + ٢ + \frac{١}{أ} = ٠$ متساويين.

(١٤) أوجد قيمة جـ التي تجعل جذري المعادلة $٣س^٢ - ٥س + جـ = ٠$ متساويين، ثم أوجد الجذرين.

(١٥) أوجد قيمة ك التي تجعل أحد جذري المعادلة $س^٢ + (ك - ١)س - ٣ = ٠$ هو المعكوس الجمعي للجذر الآخر.

(١٦) أوجد قيمة ك التي تجعل أحد جذري المعادلة : $٤ك س^٢ + ٧س + ك^٢ + ٤ = ٠$ هو المعكوس الضربي للجذر الآخر.

(١٧) كون معادلة الدرجة الثانية التي جذراها كالآتي:

أ $-٢، ٤$ ب $-٥ت، ٥ت$ جـ $\frac{٢}{٣}، \frac{٣}{٢}$

د $١ - ٣ت ، ١ + ٣ت$ هـ $٣ - ٢\sqrt{٢}ت ، ٣ + ٢\sqrt{٢}ت$

(١٨) أوجد المعادلة التربيعية التي جذراها ضعفا جذري المعادلة $٢س^٢ - ٨س + ٥ = ٠$

(١٩) أوجد المعادلة التربيعية التي كل من جذريها يزيد بمقدار ١ عن كل من جذري المعادلة : $س^٢ - ٧س - ٩ = ٠$

(٢٠) أوجد المعادلة التربيعية التي كل من جذريها يساوي مربع نظيره من جذري المعادلة : $س^٢ + ٣س - ٥ = ٠$

(٢١) إذا كان ل، م جذري المعادلة $س^٢ - ٧س + ٣ = ٠$ فأوجد معادلة الدرجة الثانية التي جذراها:

أ ٢ل، ٢م ب ل + ٢، م + ٢ جـ $\frac{٢}{ل}، \frac{٢}{م}$ د ل + م، ل م

(٢٢) مساحات. قطعة أرض على شكل مستطيل بعداه ٦، ٩ من الأمتار، يراد مضاعفة مساحة هذه القطعة وذلك بزيادة طول كل بعد من أبعادها بنفس المقدار. أوجد المقدار المضاف.

(٢٣) تفكير ناقد: أوجد مجموعة قيم جـ في المعادلة التربيعية ٧ س$^{٢}$ + ١٤ س + جـ = ٠ بحيث يكون للمعادلة:

أ جذران حقيقيان مختلفان.

ب جذران حقيقيان متساويان.

جـ جذران مركبان.

(٢٤) اكتشف الخطأ. إذا كان ل + ١، م + ١ هما جذرا المعادلة س$^{٢}$ + ٥س + ٣ = ٠ فأوجد المعادلة التربيعية التي جذراها ل، م.

**حل يوسف**

∵ (ل + ١) + (م+١) = −٥

∴ ل + م + ٢ = −٥ ∴ ل + م = −٧،

∵ (ل + ١)(م + ١) = ٣ ∴ ل م + (ل + م) + ١ = ٣

∴ ل م − ٧ + ١ = ٣ ∴ ل م = ٩

المعادلة هي: س$^{٢}$ + ٧س + ٩ = ٠

**حل أميرة**

∵ ل + م = −٥، ل م = ٣

∴ (ل + ١) + (م + ١) = ل + م + ٢

= −٥ + ٢ = −٣،

∵ (ل+١)(م + ١) = ل م + (ل + م) + ١

= ٣ − ٣ + ١ = ١

المعادلة هي: س$^{٢}$ + ٣س + ١ = ٠

(٢٥) تفكير ناقد: إذا كان الفرق بين جذرى المعادلة س$^{٢}$ + ك س + ٢ك = ٠ يساوى ضعف حاصل ضرب جذرى المعادلة س$^{٢}$ + ٣ س + ك = ٠ فأوجد ك.

# ١ - ٥ إشارة الدالة

## Sign of the Function

**سوف تتعلم**

- بحث إشارة كل من الدالة الثابتة - دالة الدرجة الأولى - دالة الدرجة الثانية

**فكر g تأمل**

سبق أن درست التمثيل البياني لدالة الدرجة الأولى ودالة الدرجة الثانية، وتعرفت على الشكل العام لمنحنى كل دالة. فهل يمكنك بحث إشارة كل من هذه الدوال؟

المقصود ببحث إشارة الدالة هو تحديد قيم المتغير س (مجال س) التي تكون عندها قيم الدالة د على النحو الآتي:

موجبة، أي د(س) > ٠

سالبة، أي د(س) < ٠

مساوية للصفر د(س) = ٠

**المصطلحات الأساسية**

- إشارة دالة Sign of a function
- دالة ثابتة Constant Function
- دالة خطية (دالة الدرجة الأولى) Linear Function
- دالة تربيعية (دالة الدرجة الثانية) Quadratic Function

**تعلم**

### أولاً: إشارة الدالة الثابتة First: The sign of the Constant Function

إشارة الدالة الثابتة د حيث د(س) = جـ (جـ ≠ ٠) هي نفس إشارة جـ لكل س ∈ ح.

والشكل التالي يوضح إشارة الدالة د.

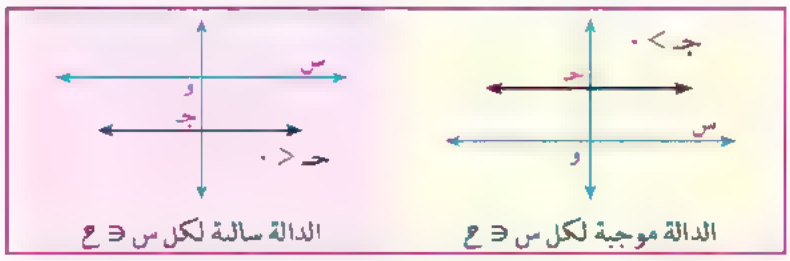


الدالة موجبة لكل س ∈ ح — الدالة سالبة لكل س ∈ ح

**الأدوات والوسائل**

- آلة حاسبة علمية

**مثال**

(١) عين إشارة كل من الدوال الآتية.

أ د(س) = ٥ ب د(س) = -٧

**الحل**

أ ∵ د(س) > ٠ ∴ إشارة الدالة موجبة لكل س ∈ ح

ب ∵ د(س) < ٠ ∴ إشارة الدالة سالبة لكل س ∈ ح

**حاول أن تحل**

(١) عين إشارة كل من الدوال الآتية:

أ د(س) = $-\frac{٢}{٣}$ ب د(س) = $\frac{٥}{٢}$

## ثانيًا: إشارة دالة الدرجة الأولى (الدالة الخطية) Second: Sign of the Linear Function

قاعدة الدالة د هى د(س) = ب س + جـ ، ب ≠ ٠ ، س = $-\frac{جـ}{ب}$ عندما د(س) = ٠

والشكل البيانى التالى يوضح إشارة الدالة د.

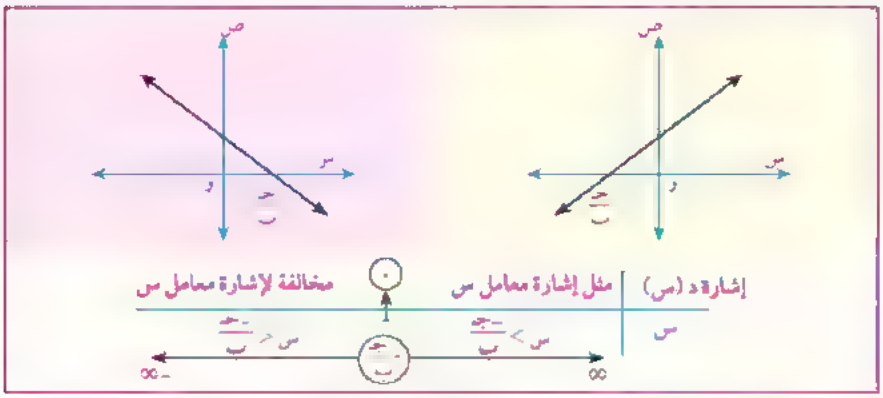


**مثال**

(٢) عين إشارة الدالة د حيث د(س) = س − ٢ مع توضيح ذلك بيانيًا:

**الحل**

قاعدة الدالة: د(س) = س − ٢

رسم الدالة:

عندما د(س) = ٠ فإن س = ٢

عندما س = ٠ فإن د(س) = −٢

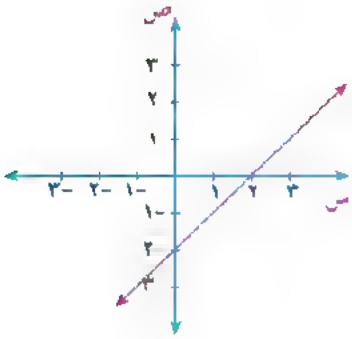


**من الرسم نجد أن:**

- الدالة موجبة عندما س > ٢
- الدالة د(س) = ٠ عندما س = ٢
- الدالة سالبة عندما س < ٢

**حاول أن تحل**

(٢) عين إشارة الدالة د(س) = −٢س − ٤ مع توضيح ذلك بيانيًا.

## ثالثًا: إشارة الدالة التربيعية Third: Sign of the Quadratic Function.

لتعيين إشارة الدالة التربيعية د، حيث د(س) = أ س$^{٢}$ + ب س + جـ

نوجد مميز المعادلة أ س$^{٢}$ + ب س + جـ = ٠ فإذا كان:

أولًا: ب$^{٢}$ − ٤ أ جـ > ٠ فإنه يوجد للمعادلة جذران حقيقيان ل، م، وبفرض أن ل < م تكون إشارة الدالة كما فى الأشكال الآتية:

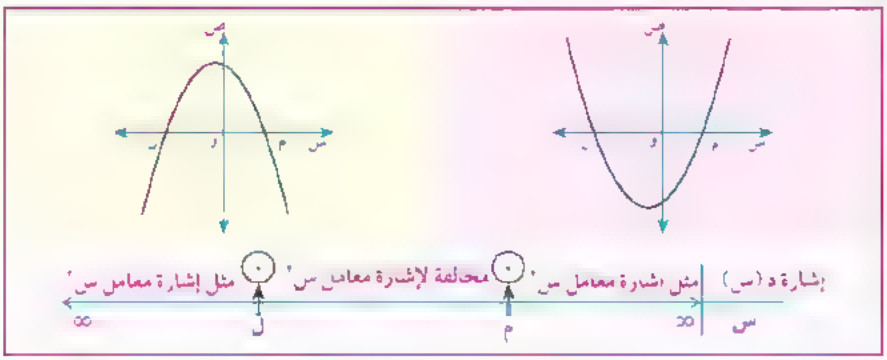


**مثال**

(٣) مثل بيانيًّا د، حيث د(س) = س$^{٢}$ − ٢ س − ٣ ثم عين إشارة الدالة د.

**الحل**

بتحليل المعادلة: س$^{٢}$ − ٢ س − ٣ = ٠

(س − ٣) (س + ١) = ٠

فيكون جذرا المعادلة. −١، ٣

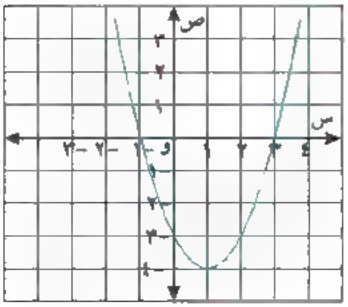


من الرسم نجد أن:

- د(س) > ٠ عندما س ∈ ح − [−١، ٣]
- د(س) < ٠ عندما س ∈ ]−١، ٣[
- د(س) = ٠ عندما س ∈ {−١، ٣}

**حاول أن تحل**

(٣) مثل بيانيًّا د، حيث د(س) = س$^{٢}$ − س + ٦ ثم عين إشارة الدالة د.

**ثانيًا** إذا كان ب$^{٢}$ − ٤أ جـ < ٠ فإنه لاتوجد جذور حقيقية، وتكون إشارة الدالة د مثل إشارة معامل س$^{٢}$، والأشكال التالية توضح ذلك.

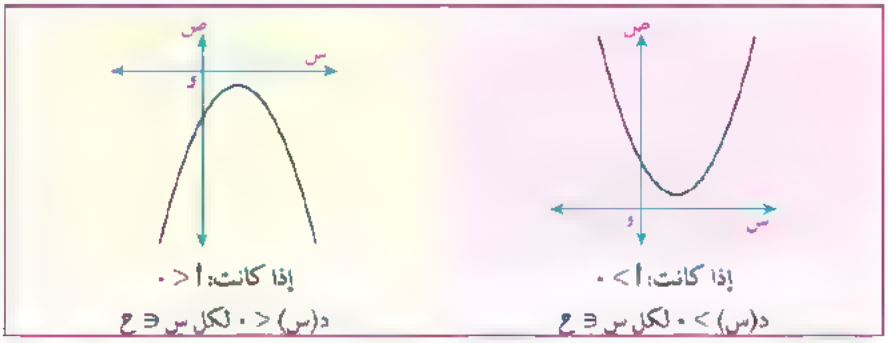


**مثال**

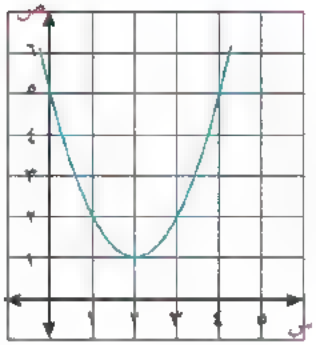


(٤) مثل بيانيًّا د حيث د(س) = س$^{٢}$ − ٤س + ٥ ثم عين إشارة الدالة د.

**الحل**

المميز (ب$^{٢}$ − ٤ أ جـ) = (−٤)$^{٢}$ − ٤ × ١ × ٥

= ١٦ − ٢٠ = −٤ < ٠

لذلك فإن المعادلة س$^{٢}$ − ٤س + ٥ = ٠ ليس لها جذور حقيقية

إشارة الدالة موجبة لكل س ∈ ح (لأن معامل س$^{٢}$ > ٠)

**حاول أن تحل**

(٤) مثل بيانيًّا د، حيث د(س) = − س$^{٢}$ − ٢س − ٤ ثم عين إشارة الدالة د.

**ثالثًا** إذا كان: ب$^{٢}$ − ٤أ جـ = ٠ فإنه يوجد للمعادلة جذران متساويان، وليكن كل منهما يساوى ل، وتكون إشارة الدالة د كالآتي:

- مثل إشارة أ عندما س ≠ ل
- د(س) = ٠ عندما س = ل

والأشكال الآتية توضح ذلك.

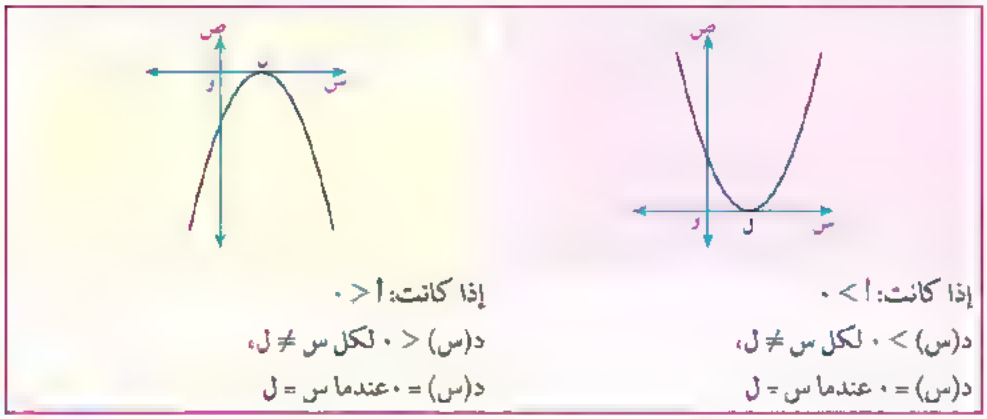

**مثال**

(٥) مثل بيانيًّا د حيث د(س) = ٤ س$^{٢}$ − ٤س + ١ ، ثم عين إشارة الدالة د.

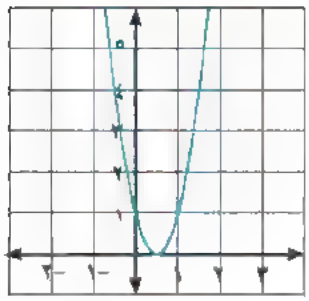

**الحل**

المميز (ب$^{٢}$ − ٤أ جـ) = (−٤)$^{٢}$ − ٤ × ٤ × ١

= ١٦ − ١٦ = ٠

لذلك فإن المعادلة ٤ س$^{٢}$ − ٤س + ١ = ٠ لها جذران متساويان.

**بالتحليل:** (٢س − ١)$^{٢}$ = ٠

**بوضع:** ٢س − ١ = ٠ تكون س = $\frac{١}{٢}$

د(س) > ٠ عندما س ≠ $\frac{١}{٢}$ ، د(س) = ٠ عندما س = $\frac{١}{٢}$

**حاول أن تحل**

(٥) مثل بيانيًّا د، حيث د(س) = − ٤ س$^{٢}$ − ١٢س − ٩ ثم عين إشارة الدالة د.

**مثال**

(٦) اثبت أنه لجميع قيم س ∈ ح يكون جذرا المعادلة ٢س$^{٢}$ − ك س + ك − ٣ = صفر حقيقيين مختلفين

**الحل**

المميز (ب$^{٢}$ − ٤أجـ) = (−ك)$^{٢}$ − ٤ × ٢ × (ك − ٣) = ك$^{٢}$ − ٨ك + ٢٤

**يكون جذرا المعادلة حقيقيين مختلفين إذا كان المميز موجبًا**

نبحث إشارة المقدار ص = ك$^{٢}$ − ٨ك + ٢٤

فيكون مميز المعادلة ك$^{٢}$ − ٨ك + ٢٤ = ٠ هو:

(−٨)$^{٢}$ − ٤ × ١ × ٢٤ = ٦٤ − ٩٦ = −٣٢ < ٠

لذلك فإن المعادلة ك$^{٢}$ − ٨ك + ٢٤ = ٠ ليس لها جذور حقيقية

∴ إشارة المقدار ص = ك$^{٢}$ − ٨ك + ٢٤ موجبة لكل س ∈ ح (لماذا؟)

فيكون مميز المعادلة ٢س$^{٢}$ − ك س + ك − ٣ = صفر موجب لكل س ∈ ح

∴ جذرا المعادلة ٢س$^{٢}$ − ك س + ك − ٣ = ٠ حقيقيان مختلفان لكل س ∈ ح

## تدرب

(١) عين إشارة كل دالة من الدوال الآتية:

أ د(س) = ٢س − ٣ ب د(س) = ٤ − س جـ د(س) = س$^{٢}$ − ٤

د د(س) = ١ − س$^{٢}$ هـ د(س) = − ٤ + ٤س + س$^{٢}$ و د(س) = ٣س − ٢س$^{٢}$ + ٤

## تمـــارين (١ – ٥)

**أولًا: أكمل ما يأتي:**

(١) الدالة د، حيث د(س) = - ٥ إشاراتها ..... في الفترة

(٢) الدالة د، حيث د(س) = س$^{٢}$ + ١ إشاراتها ..... في الفترة

(٣) الدالة د، حيث د(س) = س$^{٢}$ – ٦ س + ٩ موجبة في الفترة .....

(٤) الدالة د، حيث د(س) = س – ٢ موجبة في الفترة .....

(٥) الدالة د، حيث د(س) = ٣ – س سالبة في الفترة .....

(٦) الدالة د، حيث د(س) = – (س – ١) (س +٢) موجبة في الفترة .....

(٧) الدالة د، حيث د(س) = س$^{٢}$ + ٤ س – ٥ سالبة في الفترة .....

(٨) الشكل المرسوم يمثل دالة من الدرجة الأولى في س:

أ د(س) موجبة في الفترة .....

ب د(س) سالبة في الفترة .....

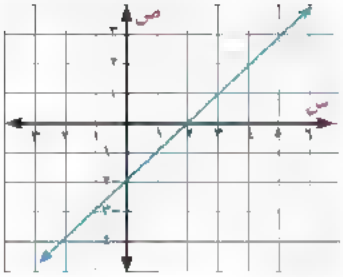


(٩) الشكل المرسوم يمثل دالة من الدرجة الثانية في س:

أ د(س) = ٠ عندما س ∈ .....

ب د(س) > ٠ عندما س ∈ .....

جـ د(س) < ٠ عندما س ∈ .....

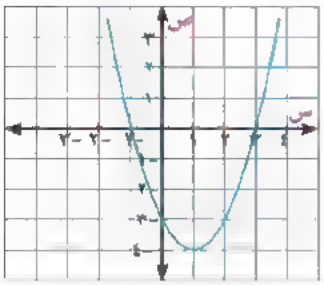


**ثانيًا: أجب عن الأسئلة الآتية:**

(١٠) في التمارين من أ إلى ن عين إشارة كل من الدوال الآتية:

أ د(س) = ٢ .....

ب د(س) = ٢س .....

جـ د(س) = – ٣س .....

د د(س) = –٢س+٤ .....

هـ د(س) = ٣ – ٢س .....

و د(س) = س$^{٢}$ .....

ز د(س) = ٢س$^{٢}$ .....

ح د(س) = س$^{٢}$ – ٤ .....

ط د(س) = ١ − س$^{٢}$ .....

ى د(س) = (س − ٢) (س + ٣)

ك د(س) = (٢ س − ٣)$^{٢}$ .....

ل د(س) = س$^{٢}$ − س − ٢

م د(س) = س$^{٢}$ − ٨ س + ١٦ .....

ن د(س) = − ٤ س$^{٢}$ + ١٠ س − ٢٥ .....

(١١) ارسم منحنى الدالة د(س) = س$^{٢}$ − ٩ فى الفترة [ − ٣، ٤ ]، ومن الرسم عين إشارة د(س).

(١٢) ارسم منحنى الدالة د(س) = − س$^{٢}$ + ٢ س + ٤ فى الفترة [− ٣، ٥]، ومن الرسم عين إشارة د(س).

(١٣) اكتشف الخطأ: إذا كانت د(س) = س + ١، ر(س) = ١ − س$^{٢}$ فعين الفترة التى تكون فيها الدالتان موجبتين معًا.

**حل يوسف**

س = − ١ تجعل د(س) = ٠

د(س) موجبة فى الفترة ] ١، ∞[،

س = ± ١ تجعل ر(س) = ٠

ر(س) موجبة فى الفترة ]− ١، ١[

لذلك فإن الدالتين تكونان موجبتين معًا فى الفترة

]- ١، ∞[ ∪ ]− ١، ١[ = ]− ١، ∞[

**حل أميرة**

س = − ١ تجعل د(س) = ٠

د(س) موجبة فى الفترة ] ١، ∞[،

س = ± ١ تجعل ر(س) = ٠

ر(س) موجبة فى الفترة ]− ١، ١[

لذلك فإن الدالتين تكونان موجبتين معًا فى الفترة

]- ١، ∞[ ∩ ]− ١، ١[ = ]− ١، ١[

أى الإجابتين يكون صحيحًا؟ مثِّل كلًّا من الدالتين بيانيًّا وتأكد من صحة الإجابة.

(١٤) منجم الذهب: فى الفترة من عام ١٩٩٠ إلى ٢٠١٠ كان إنتاج أحد مناجم الذهب مقدرًا بالألف أوقية يتحدد بالدالة د : د(ن) = ١٢ ن$^{٢}$ − ٩٦ ن + ٤٨٠ حيث ن عدد السنوات، د(ن) انتاج الذهب

أولًا: ابحث إشارة دالة الإنتاج د.

ثانيًا: أوجد إنتاج منجم الذهب مقدرًا بالألف أوقية فى كل من العامين ١٩٩٠، ٢٠٠٥

ثالثًا: فى أى عام كان إنتاج المنجم مساويًا ٢٠١٦ ألف أوقية؟

# ١ - ٦ متباينات الدرجة الثانية فى مجهول واحد

## Quadratic Inequalities

**سوف تتعلم**

- حل متباينة التربيعية فى متغير واحد

**المصطلحات الأساسية**

- متباينة Inequality

**الأدوات والوسائل**

- آلة حاسبة علمية

### المتباينات التربيعية: Quadratic Inequalities

فكر و ناقش

سبق أن درست متباينة الدرجة الأولى فى مجهول واحد، وعلمت أن حل المتباينة معناه إيجاد جميع قيم المجهول التى تحقق هذه المتباينة، وتكتب على صورة فترة، فهل يمكنك حل متباينة الدرجة الثانية فى مجهول واحد؟

لاحظ أن:

$س^٢ - س - ٢ > ٠$ هى متباينة تربيعية كما هو موضح بالشكل التالى

بينما $د(س) = س^٢ - س - ٢$ هى الدالة التربيعية المرتبطة بهذه المتباينة.

من الشكل المقابل نجد أن:

- مجموعة حل المتباينة $س^٢ - س - ٢ > ٠$ فى ح هى $]-\infty ، -١[ \cup ]٢ ، \infty[$
- مجموعة حل المتباينة $س^٢ - س - ٢ < ٠$ فى ح هما $]-١ ، ٢[$

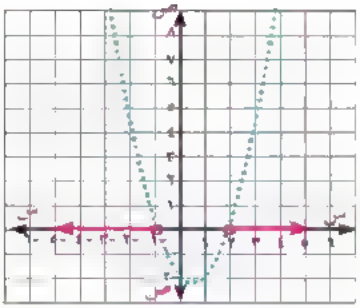

### حل المتباينة التربيعية

مثال

(١) حل المتباينة: $س^٢ - ٥س + ٦ > ٠$

**الحل**

لحل هذه المتباينة نتبع الخطوات التالية:

**خطوة (١):** نكتب الدالة التربيعية المرتبطة بالمتباينة وذلك كالآتي:

د(س) = س$^{٢}$ − ٥س − ٦

**خطوة (٢):** ندرس إشارة الدالة د حيث د(س) = س$^{٢}$ ٥س ٦،

ونوضحها على خط الأعداد بوضع د(س) = ٠

س$^{٢}$ − ٥س − ٦ = ٠

∴ (س − ٦)(س + ١) = ٠

س = ٦ أ، س = −١

**خطوة (٣):** تحدد الفترات التي تحقق المتباينة س$^{٢}$ − ٥س − ٦ > ٠

فيكون مجموعة حل المتباينة هي: ]−∞، −١[ ∪ ]٦، ∞[

**دون أن تحل**

(١) حل كلًا من المتباينات الآتية:

أ س$^{٢}$ + ٢س − ٨ > ٠ ب س$^{٢}$ + س + ١٢ > ٠

**مثال**

(٢) حل المتباينة: (س + ٣)$^{٢}$ ≥ ١٠ − ٣(س + ٣).

**الحل**

★ ∵ (س + ٣)$^{٢}$ ≥ ١٠ − ٣(س + ٣)

∴ س$^{٢}$ + ٦س + ٩ ≥ ١٠ − ٣س − ٩

∴ س$^{٢}$ + ٩س + ٨ ≥ ٠

المعادلة المرتبطة بالمتباينة هي: س$^{٢}$ + ٩س + ٨ = ٠

بالتحليل إلى عوامل: (س + ٨)(س + ١) = ٠

مجموعة حل المعادلة: {−٨، −١}

★ ويوضح خط الأعداد التالي إشارة الدالة د(س) = س$^{٢}$ + ٩س + ٨

وعلى ذلك فإن: مجموعة حل المتباينة هى : [ ٨، ١]

**حاول أن تحل**

(٢) حل المتباينات الآتية:

أ ٥س$^{٢}$ + ١٢س ≤ ٤٤ ب (س + ٣)$^{٢}$ + ٣(س + ٣) − ١٠ ≤ ٠

(١) ما الفرق بين معادلة الدرجة الثانية فى متغير واحد ومتباينة الدرجة الثانية فى متغير واحد؟

(٢) ما علاقة بحث إشارة الدالة التربيعية بحل متباينات الدرجة الثانية فى متغير واحد؟

(٣) **اكتشف الخطأ:** أوجد مجموعة حل المتباينة (س + ١)$^{٢}$ < ٤(٢س − ١)$^{٢}$

**حل يوسف**

∵ (س + ١)$^{٢}$ < ٤(٢س − ١)$^{٢}$

∴ س + ١ < ٢(٢س − ١) وذلك بأخذ الجذر التربيعى للطرفين

∴ ٤س + س + ٢ + ١ < ٠

∴ −٣س + ٣ < ٠

المعادلة المرتبطة بالمتباينة هى:

−٣س + ٣ = ٠

مجموعة الحل هى {١}

★ بحث إشارة الدالة د حيث

د(س) = −٣س + ٣

مجموعة حل المتباينة هى ]١ ، ∞[

**حل نور**

∵ (س + ١)$^{٢}$ < ٤(٢س − ١)$^{٢}$

∴ س$^{٢}$ + ٢س + ١ < ١٦س$^{٢}$ − ١٦س + ٤

∴ ١٥س$^{٢}$ − ١٨س + ٣ < ٠

المعادلة المرتبطة بالمتباينة هى :

∴ ٣(٥س − ١)(س − ١) = ٠

مجموعة الحل هى {١، $\frac{١}{٥}$}

★ بحث إشارة الدالة د حيث

د(س) = ١٥ س$^{٢}$ − ١٨ س + ٣

نجد أن:

مجموعة حل المتباينة هى ح = [$\frac{١}{٥}$، ١]

(٤) **تفكير ناقد:** أوجد مجموعة حل المتباينة (س + ٣)$^{٢}$ < ١٠ − ٣ (س + ٣)

## تمـــارين (١ – ٦)

أوجد مجموعة الحل للمتباينات التربيعية الآتية:

(١) $س^٢ \geqslant ٩$

(٢) $س^٢ - ١ \geqslant ٠$

(٣) $٢س - س^٢ < ٠$

(٤) $س^٢ + ٥ \geqslant ١$

(٥) $(س - ٢)(س - ٥) < ٠$

(٦) $س(س + ٢) - ٣ \geqslant ٠$

(٧) $(س - ٢)^٢ \geqslant -٥$

(٨) $٥ - ٢س \geqslant س^٢$

(٩) $س^٢ \leqslant ٦س - ٩$

(١٠) $٣س^٢ \geqslant ١١س + ٤$

(١١) $س^٢ - ٤س + ٤ \leqslant ٠$

(١٢) $٧ + س^٢ - ٤س < ٠$


دار الكتب الجامعية

# ملخص الوحدة

(١) حل المعادلة: أس$^{٢}$+ب س +جـ = ٠ حيث أ،ب،جـ ∈ ح، أ ≠ ٠

| الطريقة |
|---|
| التحليل إلى العوامل |
| إكمال المربع |
| استخدام القانون العام |
| التمثيل البياني |

(٢) بحث نوع جذرى المعادلة التربيعية

يسمى المقدار (ب$^{٢}$ - ٤أجـ) بمميز المعادلة التربيعية الذى يبين نوع جذور المعادلة وعدد حلولها كالآتى :

★ (ب$^{٢}$ - ٤أجـ) > ٠ يوجد جذران حقيقيان مختلفان.

★ ب$^{٢}$ - ٤أجـ = ٠ يوجد جذر حقيقى واحد مكرر (جذران متساويان).

★ ب$^{٢}$ - ٤أجـ < ٠ يوجد جذران مركبان غير حقيقيين.

(٣) الأعداد المركبة.

العدد المركب هو الذى يمكن كتابته على الصورة أ + ب ت، حيث أ، ب عددان حقيقيان، ب هو الجزء التخيلى، والجدول التالى يبين قوى ت للأسس الصحيحة الموجبة:

| ت$^{٤ن+١}$ | ت$^{٤ن+٢}$ | ت$^{٤ن+٣}$ | ت$^{٤ن}$ |
|---|---|---|---|
| ت | ١ | ت | ١ |

**تساوى عددين مركبين:** إذا كان : أ + ب ت = جـ + ء ت فإن أ = جـ، ب = ء والعكس صحيح

**خواص العمليات:** يمكن استخدام خواص الإبدال والتجميع والتوزيع عند جمع أو ضرب الأعداد المركبة، وعند جمع أو طرح الأعداد المركبة تجمع الأجزاء الحقيقية معًا وتجمع الأجزاء التخيلية معًا.

**العددان المترافقان:** يسمى العددان أ + ب ت ، أ ب ت بالعددين المترافقين

حيث ناتج جمعهما عدد حقيقى، وحاصل ضربهما عدد حقيقى أيضًا.

٤) مجموع وحاصل ضرب جذرى المعادلة التربيعية:

إذا كان جذرا المعادلة أ س$^{٢}$ + ب س + جـ = ٠ هما ل، م فإن: ل + م = $\frac{-ب}{أ}$ ، ل م = $\frac{جـ}{أ}$

٥) تكوين المعادلة التربيعية متى علم جذراها:

إذا كانت ل، م جذرى المعادلة التربيعية، فإن المعادلة التربيعية تكون على الصورة الآتية:

★ (س − ل) (س − م) = ٠

★ إذا كان ل + م = $\frac{ب}{أ}$ ، ل م = $\frac{جـ}{أ}$ فإن المعادلة هى س$^{٢}$ − (ل + م) س + ل م = ٠

٦) بحث إشارة الدالة:

★ إشارة الدالة الثابتة د، حيث د(س) = جـ ، (جـ ≠ ٠) هى نفس إشارة جـ لكل س ∈ ح.

★ قاعدة الدالة الخطية د هى د(س) = ب س + جـ ، ب ≠ ٠

فتكون س = − $\frac{جـ}{ب}$ عندما د(س) = ٠ والشكل التالى يمثل إشارة الدالة د:

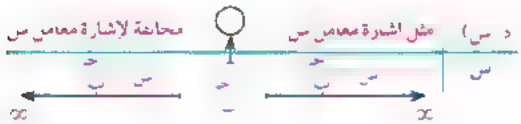


★ لتعين إشارة الدالة د، حيث د(س) = أ س$^{٢}$ + ب س + جـ، أ ≠ ٠ فإننا نوجد المميز

★ إذا كان: ب$^{٢}$ − ٤أجـ > ٠ فإن إشارة الدالة د تتحدد حسب الشكل التالى:

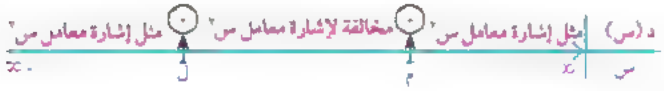


★ إذا كان: ب$^{٢}$ − ٤أجـ = ٠ فإنه يوجد للمعادلة جذران متساويان، وليكن كل منهما يساوى ل، وتكون إشارة الدالة د كالآتى: مثل إشارة أ عندما س ≠ ل ، د(س) = ٠ عندما س = ل

★ إذا كان: ب$^{٢}$ − ٤أجـ < ٠ فإنه لاتوجد جذور حقيقية، وتكون إشارة الدالة د مثل إشارة معامل س$^{٢}$.

⑦ حل متباينات الدرجة الثانية فى مجهول واحد:

لحل المتباينة التربيعية نتبع الخطوات الآتية :

١- نكتب الدالة التربيعية المرتبطة بالمتباينة ص = د(س) فى الصورة العامة.

٢- ندرس اشارة الدالة د المرتبطة بالمتباينة ونوضحها على خط الأعداد.

٣- تحديد مجموعة حل المتباينة طبقًا للفترات التى تحققها.

معلومات إثرائية

قم بزيارة المواقع الآتية:

## أهداف الوحدة

**في نهاية الوحدة من المتوقع أن يكون الطالب قادرًا على:**

- يستدعي ما سبق دراسته بالمرحلة الإعدادية على موضوع التشابه.
- يتعرف تشابه مضلعين.
- يتعرف ويبرهن النظرية التي تنص على: (إذا تناسبت أطوال الأضلاع المتناظرة في مثلثين فإنهما يتشابهان).
- يتعرف ويبرهن النظرية التي تنص على: (إذا طابقت زاوية من مثلث زاوية من مثلث آخر، وتناسبت أطوال الأضلاع التي تحتويها هاتان الزاويتان، كان المثلثان متشابهين).
- يتعرف ويبرهن النظرية التي تنص على: (النسبة بين مساحتي سطحي مثلثين متشابهين تساوي ...)
- يتعرف ويستنتج الحقيقة التي تنص على: (المضلعان المتشابهان يمكن أن ينقسما إلى ...)
- يتعرف ويبرهن النظرية التي تنص على: (النسبة بين مساحتي مضلعين متشابهين تساوي ...)
- يتعرف ويستنتج التمرين المشهور الذي ينص على : (إذا تقاطع المستقيمان الحاويان للوترين في دائرة في نقطة فإن ...) وعكسه ونتائج عليه.

## المصطلحات الأساسية

| | | | | | |
|---|---|---|---|---|---|
| نسبة | Ratio | أضلاع متناظرة | Corresponding Sides | مماس | Tangent |
| تناسب | Proportion | زوايا متطابقة | Congruent Angles | قطر | Diameter |
| قياس زاوية | Measure of an Angle | مضلع منتظم | Regular Polygon | مماس خارجي مشترك | Common External Tangent |
| طول | Length | شكل رباعي | Quadrilateral | مماس داخلي مشترك | Common Internal Tangent |
| مساحة | Area | شكل خماسي | Pentagon | دوائر متحدة المركز | Concentric Circles |
| ضرب تبادلي | Cross Product | بديهية | Postulate/Axiom | نسبة التشابه (معامل التشابه) | Similarity Ratio |
| طرف | Extreme | محيط | Perimeter | | |
| وسط | Mean | مساحة مضلع | Area of polygon | | |
| مضلعات متشابهة | Similar Polygons | وتر | Chord | | |
| مثلثات متشابهة | Similar Triangles | قاطع | Secant | | |



## الدروس المستفادة

الدرس (٢ – ١): تشابه المضلعات.

الدرس (٢ – ٢): تشابه المثلثات.

الدرس (٢ - ٣): العلاقة بين مساحتى سطحى مضلعين متشابهين.

الدرس (٢ – ٤): تطبيقات التشابه فى الدائرة.

## الأدوات المستخدمة

حاسب آلي - جهاز عرض بيانات - برامج رسومية - ورق مربعات - مرآة مستوية - أدوات قياس - آلة حاسبة.

## خريطة التعلم بالمفاهيم

## خلفية تاريخية

عند البناء على قطعة من الأرض نحتاج إلى عمل رسم تخطيطي للمبنى، ومن البديهي أنه لا يمكن عمل هذا الرسم الهندسى على قطعة من الورق تطابق قطعة الأرض، وإنما نلجأ إلى عمل صورة مصغرة تشابه الصورة الطبيعية للمبنى، وذلك باتخاذ مقياس رسم مناسب للحصول على هذا التصغير، وقياسات زوايا على الرسم، بحيث تساوى قياسات نظائرها فى الواقع.

إذا تأملت الشكل الموضح فى بداية الصفحة تلاحظ أن الطبيعة مليئة بأشكال تحتوى على أنماط تكرر نفسها بمقاييس مختلفة، ومن أمثلة ذلك أوراق الشجر، ورأس زهرة القرنبيط، وتَعرُّجات ساحل البحر. ملاحظة هذه الأنماط المتكررة أدى إلى ظهور هندسة جديدة منذ قرابة 40 عامًا، والتي تهتم بدراسة الأشكال ذاتية التماثل والتي تتكرر بغير انتظام، وقد أطلق عليها اسم هندسة الفتافيت أو هندسة الكسوريات fractals والتي سوف تدرسها في مراحل تعليمية تالية.

# ٢ - ١ تشابه المضلعات

## Similarity of Polygons

### سوف تتعلم

- مفهوم التشابه.
- تشابه المضلعات.
- مقياس الرسم
- استخدام النسبة الذهبية

### المصطلحات الأساسية

- مضلعات متشابهة Similar Polygons
- مثلثات متشابهة Similar Triangles
- أضلاع متناظرة Corresponding Sides
- زوايا متطابقة Congruent Angles
- مضلع منتظم Regular Polygon
- شكل رباعي Quadrilateral
- شكل خماسي Pentagon
- نسبة التشابه (معامل التشابه) Similarity Ratio

### الأدوات والوسائل

- حاسب آلي
- جهاز عرض بيانات
- برامج رسومية
- ورق مربعات
- أدوات قياس
- آلة حاسبة

**فكر و ناقش**

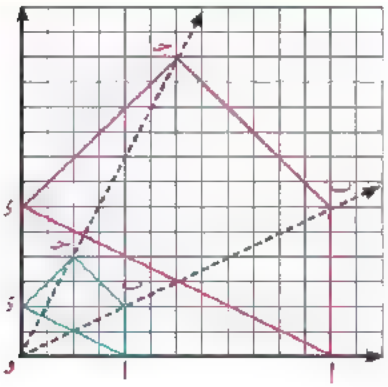


يوضح الشكل المقابل المضلع ا ب جـ ء وصورته ا/ ب/ جـ/ ء/ بتحويل هندسي.

أ قارن بين قياسات الزوايا المتناظرة:

∠ا ، ∠ا/ – ∠ب ، ∠ب/

∠جـ ، ∠جـ/ – ∠ء ، ∠ء/

ماذا تستنتج؟

ب أوجد النسبة بين أطوال الأضلاع المتناظرة $\frac{\text{ا/ب/}}{\text{اب}}$ ، $\frac{\text{ب/جـ/}}{\text{بجـ}}$ ، $\frac{\text{جـ/ء/}}{\text{جـء}}$ ، $\frac{\text{ء/ا/}}{\text{ءا}}$

ماذا تلاحظ؟

عندما يكون للمضلعات الشكل نفسه، وإن اختلفت في أطوال أضلاعها، فإنها تسمى مضلعات متشابهة.

### المضلعان المتشابهان Similar polygons

**تعريف** «يتشابه مضلعان لهما نفس العدد من الأضلاع إذا كانت الزوايا المتناظرة متطابقة وأطوال الأضلاع المتناظرة متناسبة».

**لاحظ أن:**

١- في الشكل الموضح بند فكر وناقش نجد:

أ الزوايا المتناظرة متطابقة: ∠ا/ = ∠ا ، ∠ب/ = ∠ب

∠جـ/ ≡ ∠جـ ، ∠ء/ ≡ ∠ء

ب الأضلاع المتناظرة متناسبة: $\frac{\text{ا/ب/}}{\text{اب}} = \frac{\text{ب/جـ/}}{\text{بجـ}} = \frac{\text{جـ/ء/}}{\text{جـء}} = \frac{\text{ء/ا/}}{\text{ءا}}$

ولذلك يمكننا القول أن الشكل ا/ ب/ جـ/ ء/ يشابه الشكل ا ب جـ ء

٢- نستخدم الرمز (~) للتعبير عن تشابه مضلعين، ويراعى ترتيب كتابة رؤوسهما المتناظرة حتى يسهل كتابة التناسب بين الأضلاع المتناظرة.

إذا كان المضلع أ ب جـ ء ~ المضلع س ص ع ل فإن:

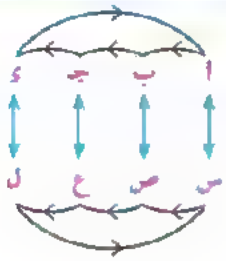


أ ∠ أ ≡ ∠ س ، ∠ ب ≡ ∠ ص ، ∠ جـ ≡ ∠ ع ، ∠ ء ≡ ∠ ل

ب $\frac{\text{أب}}{\text{س ص}} = \frac{\text{ب جـ}}{\text{ص ع}} = \frac{\text{جـ ء}}{\text{ع ل}} = \frac{\text{ء أ}}{\text{ل س}}$ = ك (نسبة التشابه)، ك ≠ ٠

ويكون معامل تشابه المضلع أ ب جـ ء للمضلع س ص ع ل = ك،

و معامل تشابه المضلع س ص ع ل للمضلع أ ب جـ ء = $\frac{١}{\text{ك}}$

**مثال**

(١) في الشكل المقابل: المضلع أ ب جـ ء ~ المضلع هـ و ز ح.

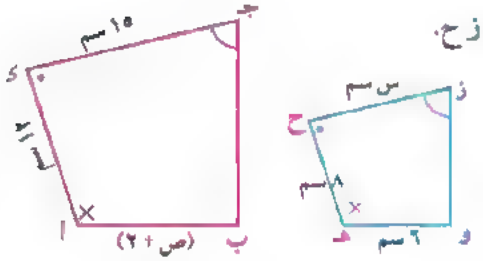


أ أوجد معامل تشابه المضلع أ ب جـ ء للمضلع هـ و ز ح.

ب أوجد قيم س، ص.

**الحل**

∵ المضلع أ ب جـ د ~ المضلع هـ و ز ح

فيكون: $\frac{\text{أب}}{\text{هـ و}} = \frac{\text{ب جـ}}{\text{و ز}} = \frac{\text{جـ ء}}{\text{ز ح}} = \frac{\text{ء أ}}{\text{ح هـ}}$ = معامل التشابه.

$\frac{\text{ص} + ٢}{٦} = \frac{\text{ب جـ}}{\text{و ز}} = \frac{١٥}{\text{س}} = \frac{١٢}{٨}$

أ معامل التشابه = $\frac{١٢}{٨} = \frac{٣}{٢}$

ب $\frac{١٥}{\text{س}} = \frac{٣}{٢}$ ⟵ س = ١٠ سم ، $\frac{\text{ص} + ٢}{٦} = \frac{٣}{٢}$ ⟵ ص = ٧ سم

**حاول أن تحل**

(١) بيِّن أيًّا من أزواج المضلعات التالية تكون متشابهة، واكتب المضلعات المتشابهة بترتيب الرؤوس المتناظرة وحدِّد نسبة التشابه.

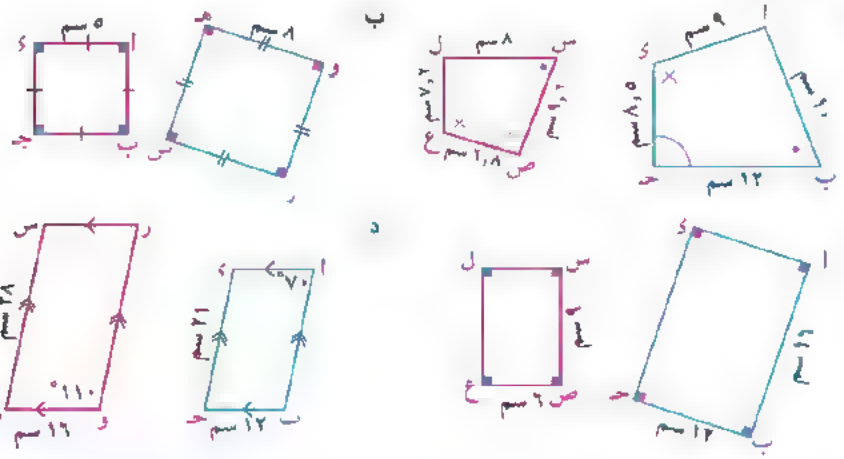

## فكر

هل جميع المربعات متشابهة؟ هل جميع المعينات متشابهة؟

هل جميع المستطيلات متشابهة؟ هل جميع متوازيات الأضلاع متشابهة؟ فسر إجابتك.

## لاحظ أن

١- لكي يتشابه مضلعان يجب أن يتوافر الشرطان معًا، ولا يكفي توافر أحدهما دون الآخر.

المضلع م١ ≡ المضلع م٢

٢- المضلعان المتطابقان يكونان متشابهين، وذلك لتوافر شرطا التشابه (المضلع م١ ~ المضلع م٢) ويكون معامل التشابه لهما عندئذٍ مساويًا (واحد) ولكن ليس من الضروري أن يكون المضلعان المتشابهان متطابقين (المضلع م٢ ≢ المضلع م١) كما في الشكل المقابل.

المضلع م٢ ~ المضلع م١

٣- المضلعان المشابهان لثالث متشابهان

فإذا كان المضلع م ~ المضلع م١،

المضلع م٢ ~ المضلع م٢

فإن: المضلع م١ ~ المضلع م٢

٤- كل المضلعات المنتظمة التي لها نفس العدد من الأضلاع تكون متشابهة. لماذا؟

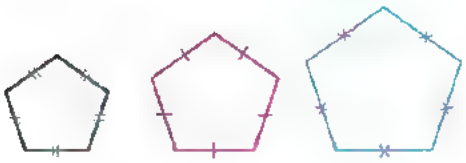

## مثال

(٢) في الشكل المقابل: △أ ب جـ ~ △ء هـ و،

ء هـ = ٨سم ، هـ و = ٩سم ، و ء = ١٠سم

إذا كان محيط △أ ب جـ = ٨١سم.

أوجد أطوال أضلاع △أ ب جـ

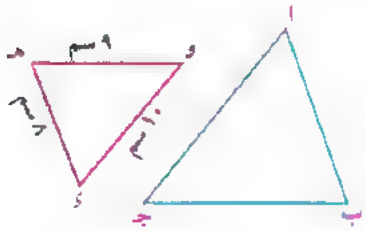


### الحل

∵ △أ ب جـ ~ △ء هـ و

∴ $\frac{\text{أ ب}}{\text{ء هـ}} = \frac{\text{ب جـ}}{\text{هـ و}} = \frac{\text{جـ أ}}{\text{و ء}} = \frac{\text{أ ب + ب جـ + جـ أ}}{\text{ء هـ + هـ و + و ء}} = \frac{\text{محيط △ أ ب جـ}}{\text{محيط △ ء هـ و}}$ (خواص التناسب)

ويكون: $\frac{\text{أ ب}}{٨} = \frac{\text{ب جـ}}{٩} = \frac{\text{جـ أ}}{١٠} = \frac{٨١}{٢٧}$

∴ أ ب = ٨ × $\frac{٨١}{٢٧}$ = ٢٤سم ، ب جـ = ٩ × ٣ = ٢٧ ، جـ أ = ١٠ × ٣ = ٣٠سم

**لاحظ أن:**

إذا كان المضلع م١ ~ المضلع م٢، فإن $\frac{\text{محيط المضلع م١}}{\text{محيط المضلع م٢}}$ = نسبة التشابه (معامل التشابه)

**حاول أن تحل**

(٢) في الشكل المقابل:

المضلع أ ب جـ ء ~ المضلع س ص ع ل

أ احسب ق (∠ س ل ع)، طول $\overline{\text{أ ء}}$

ب إذا كان محيط المضلع أ ب جـ ء = ١٩,٥سم

أوجد محيط المضلع س ص ع ل.

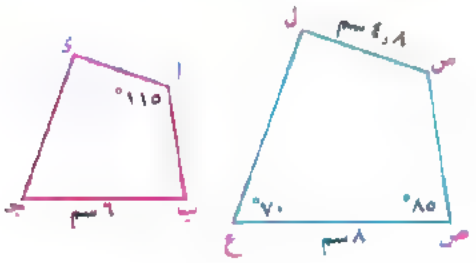


**معامل التشابه لمضلعين:** **Similarity ratio of two polygons**

ليكن ك معامل تشابه المضلع م١ للمضلع م٢

إذا كان: ك > ١ فإن المضلع م١ هو تكبير للمضلع م٢

٠ < ك < ١ فإن المضلع م١ هو تصغير للمضلع م٢

ك = ١ فإن المضلع م١ يطابق المضلع م٢

وبصفة عامة يمكن استخدام معامل التشابه في حساب أبعاد الأشكال المتشابهة.

## تمـــاريـن ٢ – أ

(١) بين أيًّا من أزواج المضلعات التالية تكون متشابهة، واكتب المضلعات المتشابهة بترتيب الرؤوس المتناظرة، وحدد معامل التشابه (الأطوال مقدرة بالسنتيمترات).

أ

ب

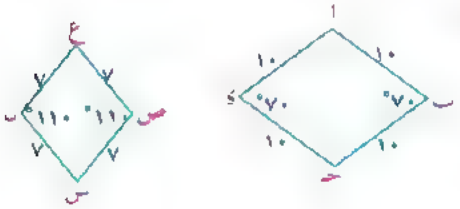


جـ

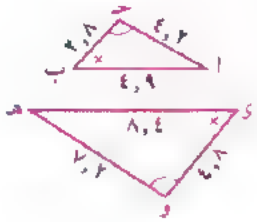


د

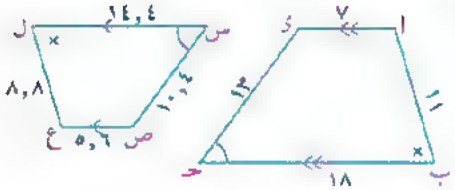


(٢) إذا كان المضلع أ ب جـ ء ~ المضلع س ص ع ل، أكمل:

أ $\frac{\text{أ ب}}{\text{ب جـ}} = \frac{\text{ص ع}}{\text{.....}}$

ب أ ب × ع ل = س ص ×

جـ $\frac{\text{ب جـ + ص ع}}{\text{ص ع}} = \frac{\text{..... + ل س}}{\text{ل س}}$

د $\frac{\text{محيط المضلع .....}}{\text{محيط المضلع .....}} = \frac{\text{س ص}}{\text{أ ب}}$

(٣) المضلع أ ب جـ ء ~ المضلع س ص ع ل. فإذا كان: أ ب = ٣٢سم، ب جـ = ٤٠سم، س ص = ٣م – ١، ص ع = ٣م + ١. أوجد قيمة م العددية.

(٤) مستطيل بعداه ١٠سم، ٦سم. أوجد محيط ومساحة مستطيل آخر مشابه له إذا كان:

أ معامل التشابه ٣ ب معامل التشابه ٠,٤

⑤ فى كل من الأشكال التالية المضلع م١ ~ المضلع م٢ ~ المضلع م٣.
أوجد معامل تشابه كل من المضلع م١، المضلع م٢ للمضلع م٣.

أ

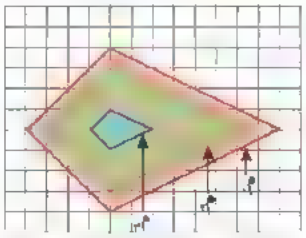


ب

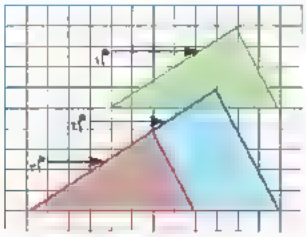


⑥ المضلعات الثلاثة التالية متشابهة. أوجد القيمة العددية للرمز المستخدم فى القياس.

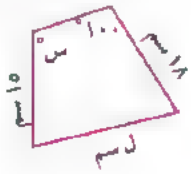


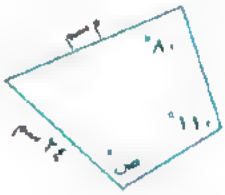


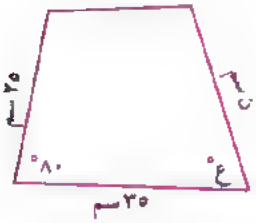


⑦ مستطيلان متشابهان بُعدا الأول ٨سم، ١٢سم، ومحيط الثانى ٢٠٠سم. أوجد طول المستطيل الثانى ومساحته.

**نشاط**

⑧ **هندسة معمارية:** يوضح الشكل المقابل مخططًا لإحدى الوحدات السكنية بمقياس رسم ١ : ١٥٠ أوجد:

أ أبعاد حجرة الاستقبال.

ب أبعاد حجرة النوم.

جـ مساحة حجرة المعيشة.

د مساحة الوحدة السكنية.

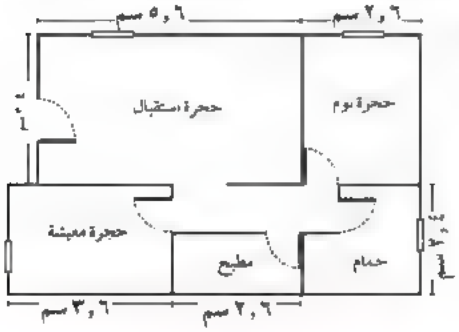

# ٢ - ٢ تشابه المثلثات

## Similarity of Triangles

### سوف تتعلم

- حالات تشابه المثلثات.
- خصائص العمود المرسوم من رأس القائمة على الوتر فى المثلث لقائم الزاوية

### المصطلحات الأساسية

- بديهية Postulate /Axiom

### الأدوات والوسائل

- حاسب آلى
- جهاز عرض بيانات
- برامج رسومية
- ورق مربعات
- مرآة مستوية
- أدوات قياس
- آلة حاسبة

### فكر و ناقش

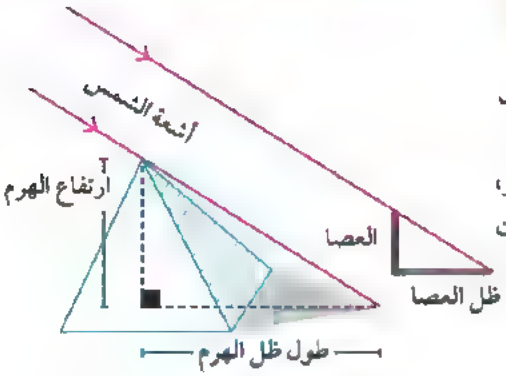


طلب أحد ملوك الفراعنة إلى الرياضى طاليس (٦٠٠ ق.م) أن يوجد ارتفاع الهرم الأكبر، ولم تكن هناك أجهزة أو آلات أو طريقة لإيجاد ارتفاع الهرم مباشرة.

ثبت طاليس عصا رأسيًا وبدأ يقيس ظل العصا ويقارنه بطول العصا نفسها إلى أن جاء وقت وجد فيه أن طول ظل العصا يساوي الطول الحقيقى للعصا نفسها. فقام بقياس طول ظل الهرم، وكان هو ارتفاع الهرم نفسه.

إذا طلب منك قياس ارتفاع سارية العلم باستخدام عصا وشريط مدرج فهل تنتظر حتى يصبح طول ظل العصا مساويًا لطول العصا نفسها أو يمكنك قياس ارتفاع سارية العلم فى أي وقت من يوم مشمس؟ فسّر إجابتك.

١- ارسم △ أ ب جـ الذي فيه:
ق(∠أ) = ٥٠°، ق(∠ب) = ٧٠°، أ ب = ٤سم

٢- ارسم △ ء هـ و الذي فيه:
ق(∠ء) = ٥٠°، ق(∠هـ) = ٧٠°، ء هـ = ٥سم

٣- أوجد بالقياس لأقرب ملليمتر أطوال كل من: $\overline{\text{أ جـ}}$ ، $\overline{\text{ب جـ}}$ ، $\overline{\text{ء و}}$ ، $\overline{\text{هـ و}}$

٤- استخدم الآلة الحاسبة لإيجاد النسب $\frac{\text{أ جـ}}{\text{ء و}}$ ، $\frac{\text{ب جـ}}{\text{هـ و}}$ ، $\frac{\text{أ ب}}{\text{ء هـ}}$

هل النسب متساوية؟ ماذا تستنتج عن هذين المثلثين؟

قارن نتائجك مع نتائج المجموعات الأخرى واكتب ملاحظاتك.

**مسلمة** postulate (or axiom)

**إذا طابقت زاويتان فى مثلث نظائرهما فى مثلث آخر كان المثلثان متشابهين.**

**فى الشكل المقابل:**

إذا كان ∠ أ = ∠ ء ، ∠ ب = ∠ هـ

فإن △ أ ب جـ ~ △ ء هـ و

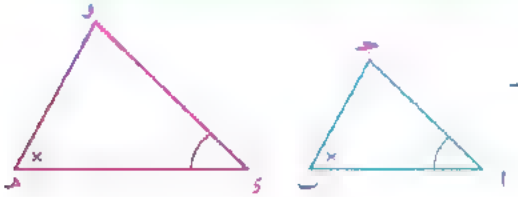


**حاول أن تحل**

(١) بيِّن أيًّا من أزواج المثلثات التالية تكون متشابهة. اكتب المثلثات المتشابهة بترتيب الرؤوس المتناظرة.

أ.

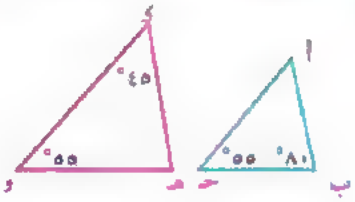


ب

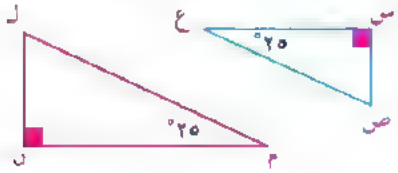


جـ

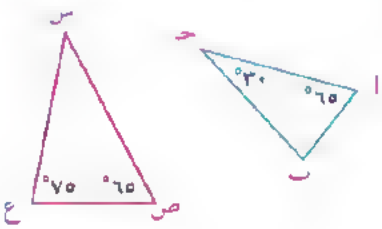


د

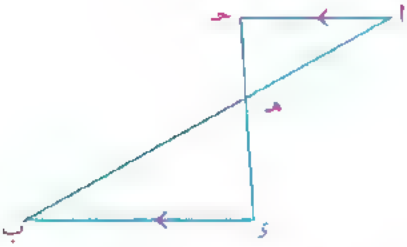


هـ

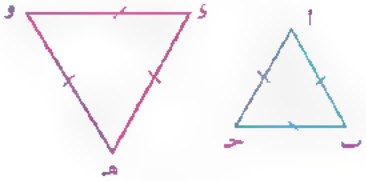


و

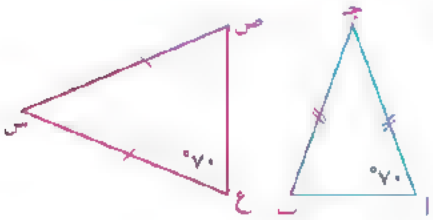


**لاحظ أن**

١- المثلثان المتساويا الأضلاع متشابهان. (كما فى هـ)

٢- يتشابه المثلثان متساويا الساقين إذا ساوى قياس إحدى زاويتى القاعدة فى أحدهما قياس إحدى زاويتى القاعدة فى المثلث الآخر: (كما فى و) أو إذا تساوى قياسا زاويتي رأسيهما.

٣- يتشابه المثلثان القائما الزاوية إذا ساوى قياس إحدى الزاويتين الحادتين فى أحدهما قياس إحدى الزاويتين الحادتين فى المثلث الآخر (كما فى ب).

## مثال

(١) في المثلث أ ب جـ، ء ∈ $\overline{أب}$ ، هـ ∈ $\overline{أجـ}$ حيث $\overline{ءهـ}$ // $\overline{ب جـ}$،
ب ء = ١,٢سم ، أ هـ = ٣سم ، أ جـ = ٤سم ، ء هـ = ٤,٢سم.

أ أثبت أن △ أ ء هـ ~ △ أ ب جـ

ب أوجد طول كل من: $\overline{أء}$ ، $\overline{ب جـ}$

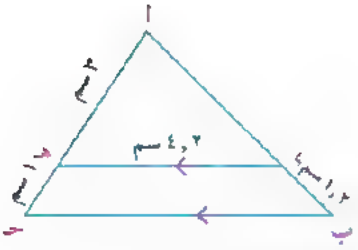


**الحل**

أ ∵ $\overline{ءهـ}$ // $\overline{ب جـ}$ ، $\overleftrightarrow{أب}$ قاطع لهما. (برهانًا)

∴ ∠ أ ء هـ ≡ ∠ أ ب جـ (زاوية مشتركة في المثلثين)

في المثلثين أ ء هـ ، أ ب جـ

∵ ∠ أ ء هـ ≡ ∠ أ ب جـ

∠ ء أ هـ = ∠ ب أ جـ

∴ △ أ ء هـ ~ △ أ ب جـ (مسلمة التشابه)

ب ∵ △ أ ء هـ ~ △ أ ب جـ

∴ $\frac{أء}{أب} = \frac{أهـ}{أجـ} = \frac{ءهـ}{ب جـ}$ ويكون:

$\frac{أء}{أء + ١,٢} = \frac{٣}{٤} = \frac{٤,٢}{ب جـ}$

٤ أء = ٣(أء + ١,٢) ، ٣ ب جـ = ٤ × ٤,٢

= ٣أء + ٣,٦ ، $\frac{٤ \times ٤,٢}{٣}$ =

أء = ٣,٦سم ، ب جـ = ٥,٦سم

**حاول أن تحل**

(٢) في كل من الأشكال التالية، أثبت أن △ أ ب جـ ~ △ أ ء هـ ثم أوجد قيمة س.

أ

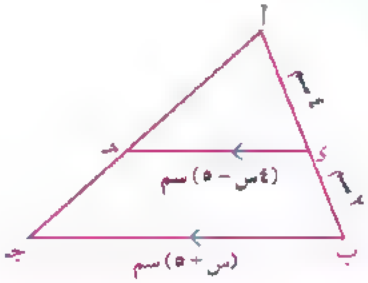


ب

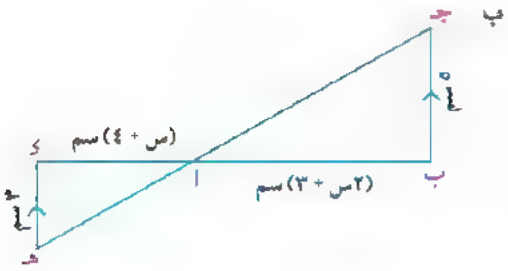


## نتائج هامة

**نتيجة ١** إذا رسم مستقيم يوازي أحد أضلاع مثلث ويقطع الضلعين الآخرين أو المستقيمين الحاملين لهما فإن المثلث الناتج يشابه المثلث الأصلي.

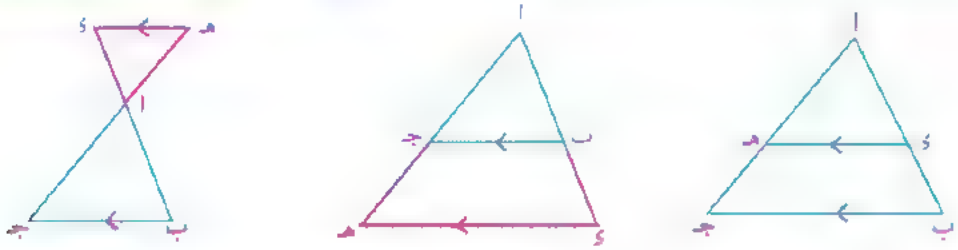


إذا كان $\overleftarrow{\text{ء هـ}}$ // $\overline{\text{ب جـ}}$ ويقطع $\overleftarrow{\text{ا ب}}$ ، $\overleftarrow{\text{ا جـ}}$ فى ء ، هـ على الترتيب كما فى الأشكال الثلاثة السابقة

فإن: △ ا ء هـ ~ △ ا ب جـ

**مثال**

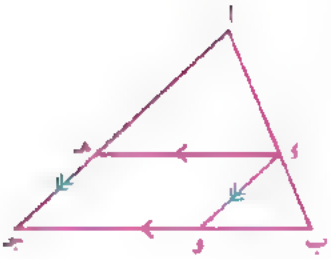


(٢) فى الشكل المقابل: ا ب جـ مثلث، ء ∈ $\overline{\text{ا ب}}$ ، رسم $\overleftarrow{\text{ء هـ}}$ // $\overline{\text{ب جـ}}$ ويقطع $\overline{\text{ا جـ}}$ فى هـ، $\overleftarrow{\text{ء و}}$ // $\overline{\text{ا جـ}}$ ويقطع $\overline{\text{ب جـ}}$ فى و.

برهن أن: △ ا ء هـ ~ △ ء ب و

**الحل**

∵ $\overline{\text{ء هـ}}$ // $\overline{\text{ب جـ}}$ ∴ △ ا ء هـ ~ △ ا ب جـ (١)

∵ $\overline{\text{ء و}}$ // $\overline{\text{ا جـ}}$ ∴ △ ء ب و ~ △ ا ب جـ (٢)

من (١)، (٢) ينتج أن: △ ا ء هـ ~ △ ء ب و (وهو المطلوب)

**حاول أن تحل**

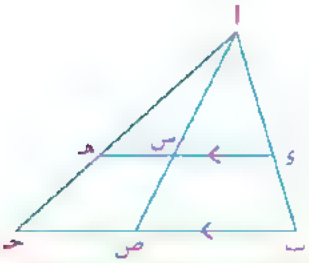


(٣) فى الشكل المقابل: ا ب جـ مثلث، ء ∈ $\overline{\text{ا ب}}$ ، رسم $\overleftarrow{\text{ء هـ}}$ // $\overline{\text{ب جـ}}$ ويقطع $\overline{\text{ا جـ}}$ فى هـ، رسم $\overleftarrow{\text{ا س}}$ يقطع $\overline{\text{ء هـ}}$ ، $\overline{\text{ب جـ}}$ فى س، ص على الترتيب.

أ اذكر ثلاثة أزواج من المثلثات المتشابهة.

ب أثبت أن: $\frac{\text{ء س}}{\text{ب ص}} = \frac{\text{س هـ}}{\text{ص جـ}} = \frac{\text{ء هـ}}{\text{ب جـ}}$

**نتيجة ٢**

إذا رسم من رأس القائمة فى المثلث القائم الزاوية عمود على الوتر انقسم المثلث إلى مثلثين متشابهين، وكلاهما يشابه المثلث الأصلى.

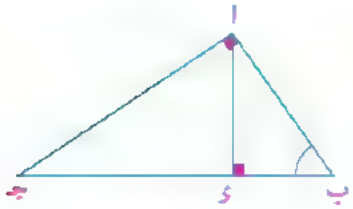


فى الشكل المقابل: ا ب جـ مثلث قائم الزاوية فى ا ، $\overline{\text{ا ء}}$ ⊥ $\overline{\text{ب جـ}}$

△ ء ب ا، △ ا ب جـ فيهما

ق(∠ ا ء ب) = ق(∠ جـ ا ب) = ٩٠° ، ∠ ب مشتركة فى المثلثين.

∴ △ ء ب ا ~ △ ا ب جـ (مسلمة التشابه) (١)

وبالمثل △ ء ا جـ ~ △ ا ب جـ (٢)

∵ المثلثان المشابهان لثالث متشابهان

∴ △ ء ب ا ~ △ ء ا جـ ~ △ ا ب جـ

**مثال**

(٣) أ ب جـ مثلث قائم الزاوية في أ، $\overline{\text{أ د}} \perp \overline{\text{ب جـ}}$ أثبت أن د أ وسط متناسب بين د ب، د جـ

**الحل**

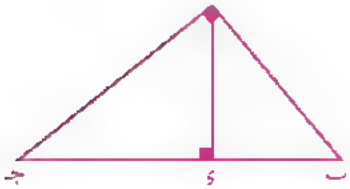


**المعطيات:** في △أ ب جـ: ق (∠أ) = ٩٠°، $\overline{\text{أ د}} \perp \overline{\text{ب جـ}}$

**المطلوب:** إثبات أن (د أ)$^{٢}$ = د ب × د جـ

**البرهان:** في △أ ب جـ

∵ ق (∠أ) = ٩٠°، $\overline{\text{أ د}} \perp \overline{\text{ب جـ}}$

∴ △د ب أ ~ △د أ جـ (نتيجة)

ويكون: $\frac{\text{د أ}}{\text{د جـ}} = \frac{\text{د ب}}{\text{د أ}}$ أي أن (د أ)$^{٢}$ = د ب × د جـ

**حاول أن تحل**

(٤) في كل من الأشكال التالية أوجد قيمة س العددية:

أ

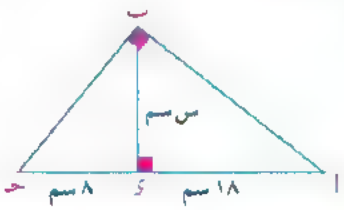


ب

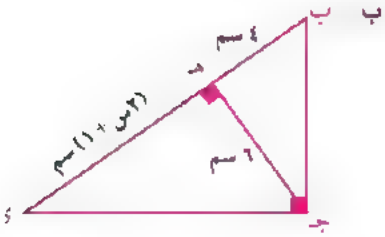


**مثال**

(٤) في الشكل المقابل أ ب جـ مثلث قائم الزاوية في أ،

$\overline{\text{أ د}} \perp \overline{\text{ب جـ}}$ أثبت أن:

أ (أ ب)$^{٢}$ = ب جـ × ب د

ب (أ جـ)$^{٢}$ = جـ ب × جـ د

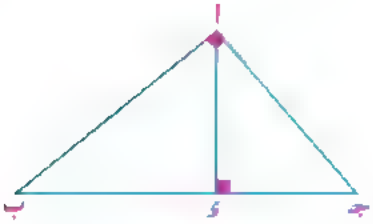


**الحل**

في △أ ب جـ:

∵ ق (∠أ) = ٩٠°، $\overline{\text{أ د}} \perp \overline{\text{ب جـ}}$

∴ △أ ب د ~ △جـ ب أ (نتيجة)

∴ $\frac{\text{أ ب}}{\text{جـ ب}} = \frac{\text{ب د}}{\text{ب أ}}$ ويكون: (أ ب)$^{٢}$ = ب جـ × ب د

، △أ جـ د ~ △ب جـ أ (نتيجة)

∴ $\frac{\text{أ جـ}}{\text{ب جـ}} = \frac{\text{جـ د}}{\text{جـ أ}}$ ويكون: (أ جـ)$^{٢}$ = جـ ب × جـ د

**هل تعلم**

تعد النتائج التي تم إثبات صحتها في مثالي ٣، ٤ برهانًا لنظرية أقليدس التي سبق لك دراستها في المرحلة الإعدادية.

**حاول أن تحل**

(٥) أوجد قيمة س، ص العددية في أبسط صورة (الأبعاد مقدرة بالسنتيمترات)

أ

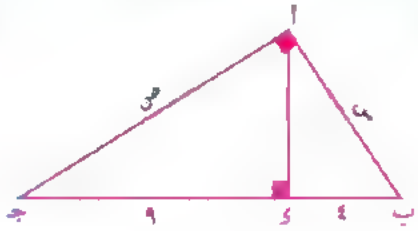


ب

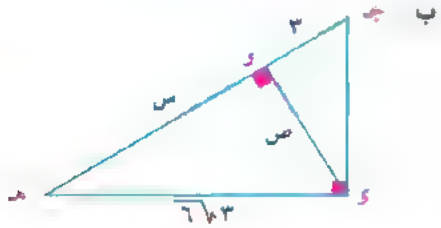


## القياس غير المباشر Indirect measarement

في بعض الحالات يصعب قياس مسافة أو ارتفاع معين مباشرة، وفي هذه الحالة يمكنك استخدام تشابه المثلثات لإيجاد هذا القياس بطريقة غير مباشرة.

إحدى الطرق تستخدم خاصية انعكاس الضوء في المرآة المستوية، كما في المثال التالي.

**مثال**

(٥) **فيزياء:** أراد يوسف أن يعرف ارتفاع إحدى الأشجار فوضع مرآة على مسافة ٦ أمتار من قاعدة الشجرة، ثم تحرك إلى الخلف حتى استطاع أن يرى قمة الشجرة في وسط المرآة - عند هذه النقطة كان يوسف قد تحرك بعيدًا عن المرآة مسافة ١,٢ متر وكانت عيناه على ارتفاع ١,٥ متر فوق سطح الأرض. فإذا كانت قدماه والمرآة وقاعدة الشجرة على استقامة واحدة أوجد ارتفاع الشجرة. علمًا بأن قياس زاوية السقوط = قياس زاوية الانعكاس.

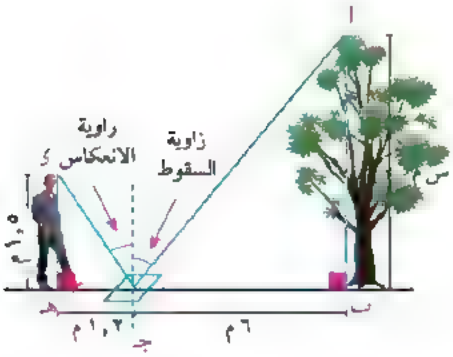


**الحل**

بفرض أن ارتفاع الشجرة س مترًا، قياس زاوية السقوط = $\theta$°

∴ قياس زاوية الانعكاس = $\theta$°

في المثلثين أ ب جـ، ء هـ جـ

ق (∠ب) - ق (∠جـ) = ٩٠°

ق (∠أ جـ ب) = ق (∠ء جـ هـ) = (٩٠ - $\theta$)°

∴ △أ ب جـ ~ △ء هـ جـ ويكون: $\frac{\text{أ ب}}{\text{ء هـ}} = \frac{\text{ب جـ}}{\text{هـ جـ}}$

∴ $\frac{\text{س}}{١,٥} = \frac{٦}{١,٢}$ ويكون س = ٧,٥ متر

أي أن ارتفاع الشجرة يساوي ٧,٥ مترًا.

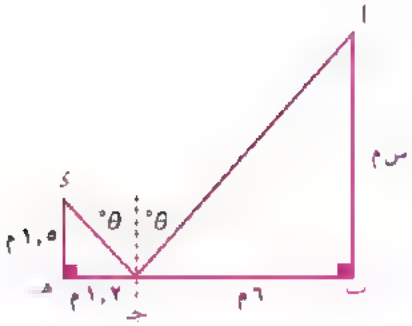

**حاول أن تحل**

(٦) أوجد المسافة س فى كل من الحالات الآتية:

أ

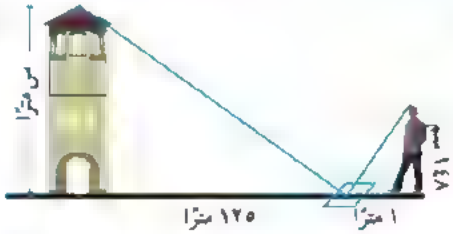


ب

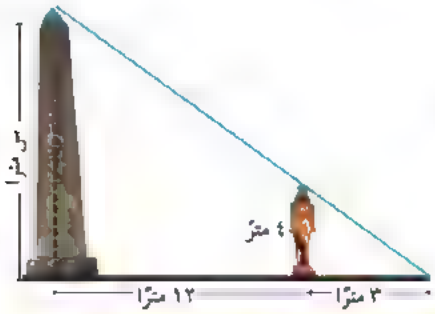


جـ

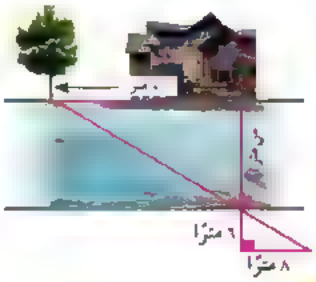


د

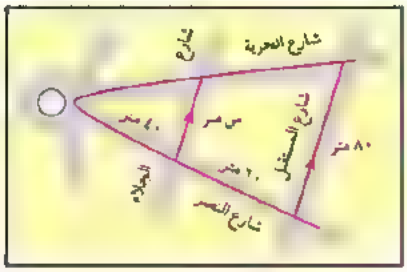


**نظرية:** إذا تناسبت أطوال الأضلاع المتناظرة فى مثلثين فإنهما يتشابهان.

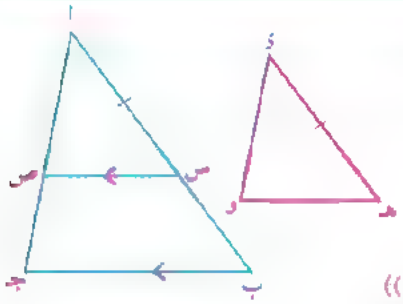


**المعطيات:** المثلثان أ ب جـ ، ء هـ و فيهما $\frac{\text{أ ب}}{\text{ء هـ}} = \frac{\text{ب جـ}}{\text{هـ و}} = \frac{\text{جـ أ}}{\text{و ء}}$

**المطلوب:** △ أ ب جـ ~ △ ء هـ و

**البرهان:** عين س ∈ $\overline{\text{أ ب}}$ حيث أ س = ء هـ ،

ارسم $\overline{\text{س ص}}$ // $\overline{\text{ب جـ}}$ ويقطع $\overline{\text{أ جـ}}$ فى ص.

∵ $\overline{\text{س ص}}$ // $\overline{\text{ب جـ}}$

∴ △ أ ب جـ ~ △ أ س ص (نتيجة (١))

ويكون $\frac{\text{أ ب}}{\text{أ س}} = \frac{\text{ب جـ}}{\text{س ص}} = \frac{\text{جـ أ}}{\text{ص أ}}$

∵ أ س = ء هـ (معطًى)

∴ $\frac{\text{أ ب}}{\text{ء هـ}} = \frac{\text{ب جـ}}{\text{س ص}} = \frac{\text{جـ أ}}{\text{ص أ}}$ (١)

∵ $\frac{\text{أ ب}}{\text{ء هـ}} = \frac{\text{ب جـ}}{\text{هـ و}} = \frac{\text{جـ أ}}{\text{و ء}}$ (معطيات) (٢)

من (١)، (٢) ينتج أن: س ص = هـ و ، ص أ = و ء

ويكون △ أ س ص ≡ △ ء هـ و (تطابق الأضلاع الثلاثة لنظائرها فى الآخر)

∴ △ ء هـ و ~ △ أ س ص

∵ △ أ ب جـ ~ △ أ س ص (برهانًا)

∴ △ أ ب جـ ~ △ ء هـ و (وهو المطلوب)

**مثال**

(٦) في الشكل المقابل: ب، ص، جـ على استقامة واحدة. أثبت أن:

أ △ا ب جـ ~ △س ب ص

ب $\overleftarrow{\text{ب جـ}}$ ينصف ∠ا ب س

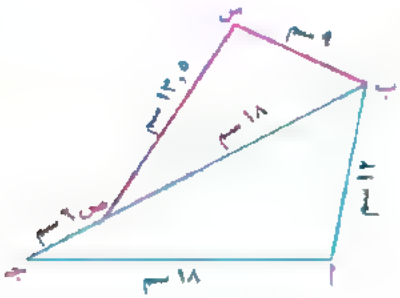


**الحل**

أ في المثلثين ا ب جـ، س ب ص نجد أن:

$\frac{\text{اب}}{\text{س ب}} = \frac{١٢}{٩} = \frac{٤}{٣}$ ، $\frac{\text{ب جـ}}{\text{ب ص}} = \frac{١٨+٦}{١٨} = \frac{٤}{٣}$

$\frac{\text{ا جـ}}{\text{س ص}} = \frac{١٨}{١٣,٥} = \frac{٤}{٣}$

ويكون $\frac{\text{اب}}{\text{س ب}} = \frac{\text{ب جـ}}{\text{ب ص}} = \frac{\text{ا جـ}}{\text{س ص}}$ أي أن الأضلاع المتناظرة متناسبة

∴ △ا ب جـ ~ △س ب ص

ب ∵ △ا ب جـ ~ △س ب ص ∴ ق (∠ ا ب جـ) = ق (∠ س ب ص)

أي أن $\overleftarrow{\text{ب جـ}}$ ينصف ∠ ا ب س

(٧) في الشكل المقابل: $\overline{\text{اب}} \cap \overleftarrow{\text{جـ ء}} = \{\text{هـ}\}$ حيث $\frac{\text{اهـ}}{\text{جـ هـ}} = \frac{\text{ب هـ}}{\text{ء هـ}}$، $\frac{\text{ا جـ}}{\text{جـ هـ}} = \frac{\text{ب ء}}{\text{ء هـ}}$ أثبت أن $\overleftrightarrow{\text{ا جـ}} // \overleftrightarrow{\text{ب ء}}$

**الحل**

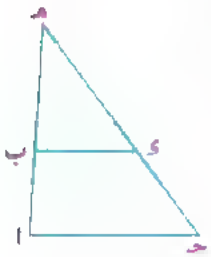


∵ $\frac{\text{اهـ}}{\text{جـ هـ}} = \frac{\text{ب هـ}}{\text{ء هـ}}$ ∴ $\frac{\text{اهـ}}{\text{ب هـ}} = \frac{\text{جـ هـ}}{\text{ء هـ}}$ (من خواص التناسب) (١)

∵ $\frac{\text{ا جـ}}{\text{جـ هـ}} = \frac{\text{ب ء}}{\text{ء هـ}}$ ∴ $\frac{\text{ا جـ}}{\text{ب ء}} = \frac{\text{جـ هـ}}{\text{ء هـ}}$ (من خواص التناسب) (٢)

من (١)، (٢) ينتج أن: $\frac{\text{اهـ}}{\text{ب هـ}} = \frac{\text{جـ هـ}}{\text{ء هـ}} = \frac{\text{جـ ا}}{\text{ء ب}}$

أي أن △ ا هـ جـ ~ △ ب هـ ء

∴ ق (∠ ا جـ هـ) = ق (∠ ب ء هـ)

وهما في وضع تناظر بالنسبة للقاطع $\overleftrightarrow{\text{جـ هـ}}$

∴ $\overleftrightarrow{\text{ا جـ}} // \overleftrightarrow{\text{ب ء}}$

**حاول أن تحل**

(٧) ا ب جـ ء شكل رباعي، هـ ∈ $\overline{\text{ب ء}}$ حيث:

$\frac{\text{اب}}{\text{ء ا}} = \frac{\text{جـ هـ}}{\text{ب جـ}}$، $\frac{\text{ب ء}}{\text{ء ا}} = \frac{\text{هـ ب}}{\text{ب جـ}}$ أثبت أن:

أ $\overline{\text{ا ء}} // \overline{\text{ب جـ}}$ ب $\overline{\text{ا ب}} // \overline{\text{جـ هـ}}$

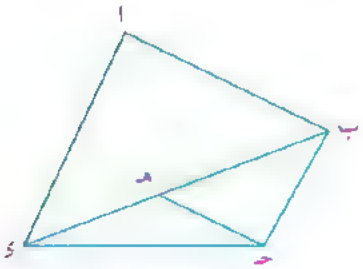

**نظرية ٢** إذا طابقت زاوية من مثلث زاوية من مثلث آخر، وتناسبت أطوال الأضلاع التي تحتويها هاتان الزاويتان، كان المثلثان متشابهين.

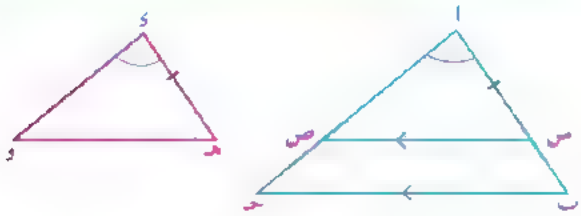


**المعطيات:** ∠ أ ≡ ∠ ء ، $\frac{\text{أب}}{\text{ء هـ}} = \frac{\text{أجـ}}{\text{ء و}}$

**المطلوب:** △ أ ب جـ ~ △ ء هـ و

**البرهان:** خذ س ∈ $\overline{\text{أب}}$ حيث أ س = ء هـ

وارسم $\overleftarrow{\text{س ص}}$ // $\overline{\text{ب جـ}}$

ويقطع $\overline{\text{أجـ}}$ في ص

∵ $\overline{\text{س ص}}$ // $\overline{\text{ب جـ}}$ ∴ △ أ ب جـ ~ △ أ س ص (نتيجة) (١)

ويكون $\frac{\text{أب}}{\text{أس}} = \frac{\text{أجـ}}{\text{أص}}$

∵ $\frac{\text{أب}}{\text{ء هـ}} = \frac{\text{أجـ}}{\text{ء و}}$ (معطى) ، أ س = ء هـ (عملا)

∴ $\frac{\text{أب}}{\text{أس}} = \frac{\text{أجـ}}{\text{ء و}}$ ويكون أ ص = ء و

∴ △ أ س ص ≡ △ ء هـ و (ضلعان وزاوية محصورة)

ويكون △ أ س ص ~ △ ء هـ و (٢)

من (١)، (٢) ينتج أن: △ أ ب جـ ~ △ ء هـ و وهو المطلوب.

**مثال**

(٨) أ ب جـ مثلث، أ ب = ٨سم ، أ جـ = ١٠سم ، ب جـ = ١٢سم ، هـ ∈ $\overline{\text{أب}}$ حيث أ هـ = ٢سم ، ء ∈ $\overline{\text{ب جـ}}$ حيث ب ء = ٤سم.

أ برهن أن △ ب ء هـ ~ △ ب أ جـ واستنتج طول $\overline{\text{ء هـ}}$.

ب برهن أن الشكل أ جـ ء هـ رباعي دائري.

**الحل**

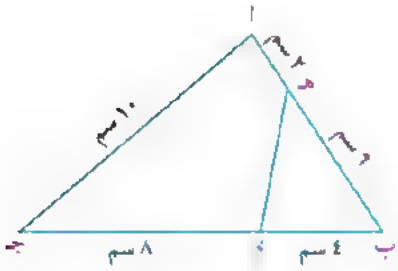


∵ أ ب = ٨سم ، أ هـ = ٢سم ∴ ب هـ = ٦سم

أ المثلثان ب ء هـ ، ب أ جـ فيهما:

∠ ء ب هـ = ∠ أ ب جـ (١)

، $\frac{\text{ب ء}}{\text{ب أ}} = \frac{٤}{٨} = \frac{١}{٢}$ ، $\frac{\text{ب هـ}}{\text{ب جـ}} = \frac{٦}{١٢} = \frac{١}{٢}$

∴ $\frac{\text{ب ء}}{\text{ب أ}} = \frac{\text{ب هـ}}{\text{ب جـ}}$ (٢)

من (١)، (٢) ∴ △ ب ء هـ ~ △ ب أ جـ (نظرية)

من التشابه $\frac{\text{ء هـ}}{\text{أجـ}} = \frac{١}{٢}$ ∴ ء هـ = $\frac{١}{٢}$ أ جـ ، ء هـ = $\frac{١}{٢} \times ١٠ = ٥$سم

ب من التشابه أيضًا ∠ب ء هـ ≡ ∠ب أ جـ ∴ ق(∠ب ء هـ) = ق(∠ب أ جـ)

∵ ∠ب ء هـ خارجة عن الشكل الرباعي أ جـ ء هـ ∴ الشكل أ جـ ء هـ رباعي دائري.

حاول أن تحل

(٨) في كل من الأشكال التالية أوجد قيمة الرمز المستخدم في القياس مفسرًا إجابتك.

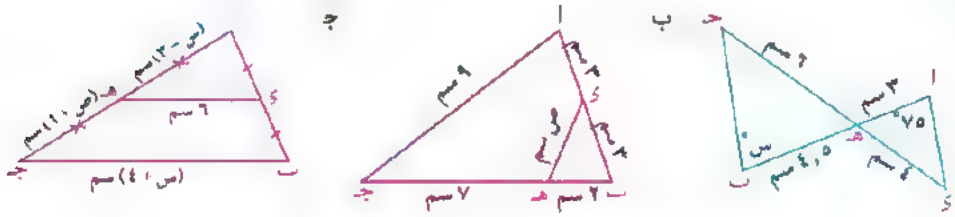


مثال

(٩) أ ب جـ مثلث، ء ∈ $\overline{ب جـ}$ حيث (أ جـ)² = جـ ء × جـ ب أثبت أن: △ أ جـ ء ~ △ ب جـ أ

الحل

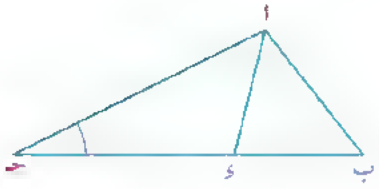

المثلثان أ ب جـ، ء أ جـ فيهما ∠جـ مشتركة (١)

∵ (أ جـ)² = جـ ء × جـ ب

∴ $\frac{أ جـ}{جـ ب} = \frac{جـ ء}{أ جـ}$ (٢)

من (١)، (٢) ينتج أن △ أ جـ ء ~ △ ب جـ أ (نظرية)

حاول أن تحل

(٩) أ ب جـ، ء هـ و مثلثان متشابهان، س منتصف $\overline{ب جـ}$، ص منتصف $\overline{هـ و}$ أثبت أن.

أ △ أ ب س ~ △ ء هـ ص ب أ س × ء هـ = أ ب × ء ص

في كل من الأشكال التالية أوجد قيمة س.



## تمـــارين ٢ – ٢

(١) اذكر أى الحالات يكون فيها المثلثان متشابهين، وفى حالة التشابه اذكر سبب التشابه.

أ

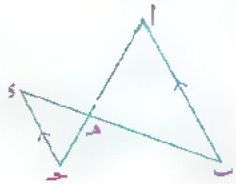

ب

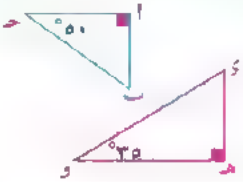


جـ

د




هـ

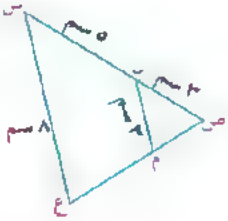


و

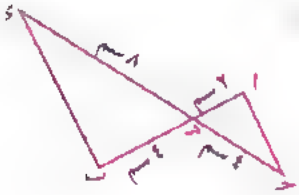


(٢) أوجد قيمة الرمز المستخدم فى القياس:

أ

ب

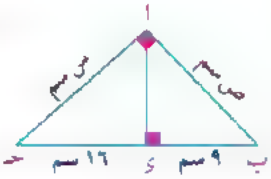


جـ

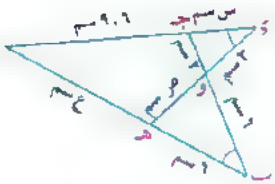


(٣) فى الشكل المقابل: أ ب جـ مثلث قائم الزاوية $\overline{أ د} \perp \overline{ب جـ}$

أولًا: أكمل: $\Delta$ أ ب جـ ~ $\Delta$ ..... ~ $\Delta$ .....

ثانيًا: إذا كان س، ص، ع، ل، م، ن هى أطوال القطع المستقيمة بالسنتيمترات والمعينة بالشكل: فأكمل التناسبات التالية:

أ $\frac{س}{ع} = \frac{م}{.....}$ ب $\frac{س}{ع} = \frac{ل}{.....}$ جـ $\frac{م}{ل} = \frac{س}{.....}$ د $\frac{ن}{.....} = \frac{ل}{س}$

هـ $\frac{س}{.....} = \frac{.....}{س}$ و $\frac{.....}{ص} = \frac{ص}{.....}$ ز $\frac{ل}{س} = \frac{.....}{ع}$ ح $\frac{ل}{س} = \frac{.....}{ص}$

(٤) $\overline{أ ب}$ ، $\overline{د جـ}$ وتران فى دائرة، $\overleftarrow{أ ب} \cap \overleftarrow{د جـ} = \{هـ\}$ حيث هـ خارج الدائرة، أ ب = ٤سم، د جـ = ٧سم، ب هـ = ٦سم. أثبت أن $\Delta$ أ د هـ ~ $\Delta$ جـ ب هـ، ثم أوجد طول $\overline{جـ هـ}$

(٥) أ ب جـ د هـ و مثلثان متشابهان. رسم $\overleftarrow{أ س} \perp \overline{ب جـ}$ ليقطعه فى س، ورسم $\overleftarrow{د ص} \perp \overline{هـ و}$ ليقطعه فى ص. أثبت أن ب س × ص و = جـ س × ص هـ

(٦) فى المثلث أ ب جـ، أ جـ > أ ب، م $\in \overline{أ جـ}$ حيث و(∠ أ ب م) = و (∠ جـ) أثبت أن (أ ب)$^2$ = أ م × أ جـ

(٧) أ ب جـ مثلث قائم الزاوية في أ، رسم $\overleftarrow{\text{أ ء}}$ ⊥ $\overline{\text{ب جـ}}$ ليقطعه في ء. إذا كان $\frac{\text{ب ء}}{\text{ء جـ}} = \frac{١}{٣}$، أ ء = ٦$\sqrt{٣}$ سم
أوجد طول كل من $\overline{\text{ب ء}}$، $\overline{\text{أ ب}}$، $\overline{\text{أ جـ}}$.

(٨) في الشكل المقابل: أ ب جـ مثلث قائم الزاوية في أ،
$\overline{\text{أ ء}}$ ⊥ $\overline{\text{ب جـ}}$، $\overline{\text{ء هـ}}$ ⊥ $\overline{\text{أ ب}}$، $\overline{\text{ء و}}$ ⊥ $\overline{\text{أ جـ}}$
أثبت أن:
أ △أ ء هـ ~ △جـ ء و
ب مساحة المستطيل أ هـ ء و = $\sqrt{\text{أ هـ} \times \text{هـ ب} \times \text{أ و} \times \text{و جـ}}$

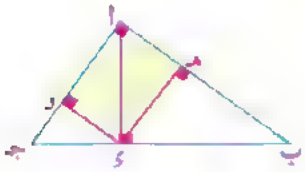


(٩) في الشكل المقابل: أ ب جـ مثلث منفرج الزاوية في أ،
أ ب = أ جـ. رسم $\overleftarrow{\text{أ ء}}$ ⊥ $\overline{\text{أ ب}}$ ويقطع $\overline{\text{ب جـ}}$ في ء.
أثبت أن: ٢(أ ب)$^{٢}$ = ب ء × ب جـ

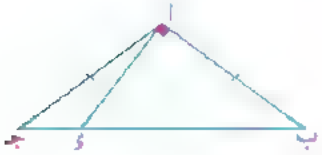


(١٠) تعبر المجموعتان أ، ب عن أطوال أضلاع مثلثات مختلفة بالسنتيمترات.
اكتب أمام كل مثلث من المجموعة أ رمز المثلث الذي يشابهه من المجموعة ب

مجموعة (أ)

| | | | |
|---|---|---|---|
| ١ | ٦ ، | ٦ ، | ٦ |
| ٢ | ٥ ، | ٧ ، | ١١ |
| ٣ | ٥ ، | ٨ ، | ١٠ |
| ٤ | ٧ ، | ٨ ، | ١٢ |
| ٥ | ١٦ ، | ٢٧ ، | ٣٨ |

مجموعة (ب)

| | | | |
|---|---|---|---|
| أ | ٢,٥ ، | ٤ ، | ٥ |
| ب | ٨ ، | ١٣,٥ ، | ١٤ |
| جـ | ٢٥ ، | ٣٥ ، | ٥٥ |
| ء | ١١ ، | ١١ ، | ١١ |
| هـ | ٣,٥ ، | ٤ ، | ٦ |
| و | ٨ ، | ٦ ، | ١٠ |
| ز | ٣٢ ، | ٥٤ ، | ٤٢ |

(١١) في الشكل المقابل: أ ب جـ مثلث فيه أ ب = ٦سم، ب جـ = ٩سم،
أ جـ = ٧,٥سم، ء نقطة خارجة عن المثلث أ ب جـ
حيث ء ب = ٤سم، ء أ = ٥سم. أثبت أن:
أ △أ ب جـ ~ △ء ب أ
ب $\overline{\text{ب أ}}$ ينصف ∠ ء ب جـ

(١٢) من الشكل المقابل أكمل:
△ أ ب جـ ~ △
ومعامل التشابه =

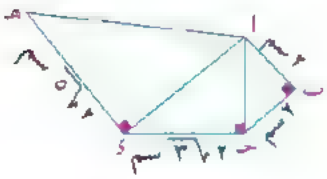

(١٣) في الشكل المقابل: أ ب جـ ~ س ص ع، هـ منتصف $\overline{\text{ب جـ}}$،

م منتصف $\overline{\text{ص ع}}$، $\overline{\text{جـ ى}}$ ⊥ $\overline{\text{أ ب}}$، $\overline{\text{ع ل}}$ ⊥ $\overline{\text{س ص}}$ أثبت أن:

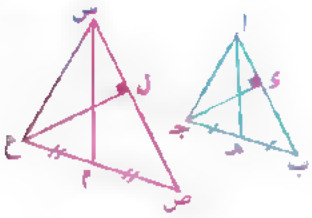


أ △ أ هـ جـ ~ △ س م ع

ب $\frac{\text{جـ ى}}{\text{ع ل}} = \frac{\text{أ هـ}}{\text{س م}}$

(١٤) أ ب جـ، س ص ع مثلثان متشابهان، حيث أ ب > أ جـ، س ص > س ع.

هـ، ل منتصفي $\overline{\text{ب جـ}}$، $\overline{\text{ص ع}}$ على الترتيب، رسم $\overline{\text{أ و}}$ ⊥ $\overline{\text{ب جـ}}$، $\overline{\text{س م}}$ ⊥ $\overline{\text{ص ع}}$

أثبت أن △ أ هـ و ~ △ س ل م

(١٥) أ ب جـ مثلث، ى ∈ $\overline{\text{ب جـ}}$ حيث $(\text{أ ى})^2 = \text{ب ى} \times \text{ى جـ}$، ب أ × أ ى = ب ى × أ جـ أثبت أن:

أ △ أ ب ى ~ △ جـ أ ى ب $\overline{\text{أ ى}}$ ⊥ $\overline{\text{ب جـ}}$ جـ ق (∠ ب أ جـ) = ٩٠°

(١٦) يبين المخطط المقابل موقع محطة خدمة وتموين سيارات يراد إقامتها على الطريق السريع عند تقاطع طريق جانبي يؤدى إلى المدينة جـ وعموديًا على الطريق السريع بين المدينتين أ، ب.

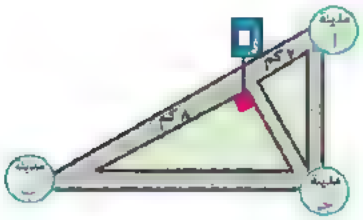


أ كم ينبغي أن تبعد المحطة عن المدينة جـ؟

ب ما البعد بين المدينتين ب، جـ؟

**نشاط**

استخدام برنامج خرائط (*Google Earth*) لحساب أقصر بعد بين عواصم محافظات جمهورية مصر العربية

# ٢ - ٣

# العلاقة بين مساحتي سطحى مضلعين متشابهين

## The Relation Between the Area of two Similar Polygons

**سوف تتعلم**

- العلاقة بين محيطى مضلعين متشابهين ومعامل (نسبة) التشابه.
- العلاقة بين مساحتى سطحى مضلعين متشابهين ومعامل (نسبة) التشابه

**المصطلحات الأساسية**

- محيط Perimeter
- مساحة Area
- مساحة مضلع Area of a Polygon
- أضلاع متناظرة Corresponding Sides

**الأدوات والوسائل**

- حاسب آلي
- جهاز عرض بيانات
- برامج رسومية
- ورق مربعات
- آلة حاسبة

**فكر و ناقش**

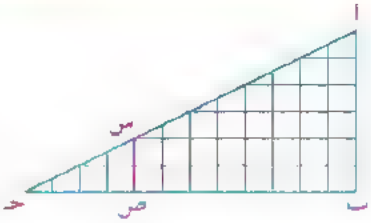


على ورق مربعات رسم كل من المثلثين أ ب جـ ، س ص جـ.

١- بين لماذا يكون:

△ س ص جـ ~ △ أ ب جـ؟ أوجد معامل التشابه عندئذٍ.

٢- احسب النسبة بين مساحة المثلث س ص جـ إلى مساحة المثلث الأصلى أ ب جـ

٣- عين نقطة أخرى مثل ء ∈ $\overline{\text{أجـ}}$، ثم ارسم $\overleftarrow{\text{ء ء'}}$ // $\overline{\text{أب}}$ ويقطع $\overline{\text{ب جـ}}$ فى ء' لتحصل على المثلث ء ء' جـ، هل △ ء ء' جـ ~ △ س ص جـ؟

٤- أكمل الجدول التالي:

| المثلثات | معامل التشابه | مساحة المثلث الأول | مساحة المثلث الثاني | النسبة بين مساحة المثلث الأول إلى مساحة المثلث الثاني |
|---|---|---|---|---|
| △ س ص جـ ~ △ أ ب جـ | $\frac{١}{٣}$ | ٤ | ٣٦ | $\frac{٤}{٣٦} = \frac{١}{٩}$ |
| △ ء ء' جـ ~ △ أ ب جـ | | | | |
| △ س ص جـ ~ △ ء ء جـ | | | | |

٥- ماذا تعنى النسب التي حصلت عليها مقارنة بمعامل التشابه (نسبة التشابه)؟

### أولاً: النسبة بين مساحتي سطحى مثلثين متشابهين:

**نظرية ٣**

النسبة بين مساحتى سطحى مثلثين متشابهين تساوى مربع النسبة بين طولى أي ضلعين متناظرين فيهما.

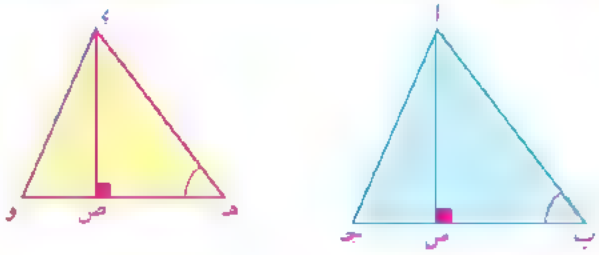


المعطيات: △ أ ب جـ ~ △ ء هـ و

**المطلوب:** $\frac{\text{م}(\triangle \text{ا ب جـ})}{\text{م}(\triangle \text{ء هـ و})} = \left(\frac{\text{ا ب}}{\text{ء هـ}}\right)^2 = \left(\frac{\text{ب جـ}}{\text{هـ و}}\right)^2 = \left(\frac{\text{جـ ا}}{\text{و ء}}\right)^2$

> **لاحظ**
> الرمز م يعبر عن مساحة سطح المضلع

**البرهان:** ارسم $\overleftrightarrow{\text{ا س}} \perp \overline{\text{ب جـ}}$ حيث $\overleftrightarrow{\text{ا س}} \cap \overline{\text{ب جـ}} = \{\text{س}\}$،

$\overleftrightarrow{\text{ء ص}} \perp \overline{\text{هـ و}}$ حيث $\overleftrightarrow{\text{ء ص}} \cap \overline{\text{هـ و}} = \{\text{ص}\}$

$\because \triangle \text{ا ب جـ} \sim \triangle \text{ء هـ و}$

$\therefore \text{ق}(\angle \text{ب}) = \text{ق}(\angle \text{هـ})$، $\frac{\text{ا ب}}{\text{ء هـ}} = \frac{\text{ب جـ}}{\text{هـ و}} = \frac{\text{جـ ا}}{\text{و ء}}$ (١)

في المثلثين ا ب س، ء هـ ص:

$\text{ق}(\angle \text{س}) = \text{ق}(\angle \text{ص}) = ٩٠°$ ، $\text{ق}(\angle \text{ب}) = \text{ق}(\angle \text{هـ})$

$\therefore \triangle \text{ا ب س} \sim \triangle \text{ء هـ ص}$ (مسلمة التشابه)

ويكون: $\frac{\text{ا ب}}{\text{ء هـ}} = \frac{\text{ا س}}{\text{ء ص}}$ (٢)

$$\frac{\text{م}(\triangle \text{ا ب جـ})}{\text{م}(\triangle \text{ء هـ و})} = \frac{\frac{١}{٢}\text{ب جـ} \times \text{ا س}}{\frac{١}{٢}\text{هـ و} \times \text{ا ص}} = \frac{\text{ب جـ}}{\text{هـ و}} \times \frac{\text{ا س}}{\text{ء ص}}$$

بالتعويض من (١)، (٢) ينتج أن:

$\frac{\text{م}(\triangle \text{ا ب جـ})}{\text{م}(\triangle \text{ء هـ و})} = \frac{\text{ا ب}}{\text{ء هـ}} \times \frac{\text{ا ب}}{\text{ء هـ}} = \left(\frac{\text{ا ب}}{\text{ء هـ}}\right)^2 = \left(\frac{\text{ب جـ}}{\text{هـ و}}\right)^2 = \left(\frac{\text{جـ ا}}{\text{و ء}}\right)^2$ وهو المطلوب.

**لاحظ أن:** $\frac{\text{م}(\triangle \text{ا ب جـ})}{\text{م}(\triangle \text{ء هـ و})} = \left(\frac{\text{ا ب}}{\text{ء هـ}}\right)^2$ ، $\frac{\text{ا ب}}{\text{ء هـ}} = \frac{\text{ا س}}{\text{ء ص}}$

فيكون: $\frac{\text{م}(\triangle \text{ا ب جـ})}{\text{م}(\triangle \text{ء هـ و})} = \left(\frac{\text{ا س}}{\text{ء ص}}\right)^2$

أي أن النسبة بين مساحتي سطحي مثلثين متشابهين تساوي مربع النسبة بين ارتفاعين متناظرين فيهما.

**تفكير ناقد:**

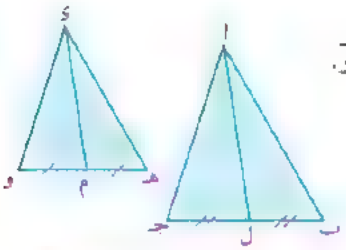


١- إذا كان $\triangle \text{ا ب جـ} \sim \triangle \text{ء هـ و}$، ل منتصف $\overline{\text{ب جـ}}$، م منتصف $\overline{\text{هـ و}}$.

هل $\frac{\text{م}(\triangle \text{ا ب جـ})}{\text{م}(\triangle \text{ء هـ و})} = \left(\frac{\text{ا ل}}{\text{ء م}}\right)^2$؟

فسر إجابتك واكتب استنتاجك.

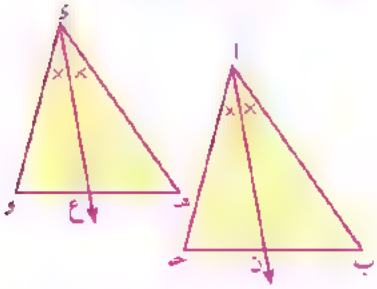


٢- إذا كان $\triangle \text{ا ب جـ} \sim \triangle \text{ء هـ و}$،

$\overleftarrow{\text{ا ن}}$ ينصف $\angle \text{ا}$ ويقطع $\overline{\text{ب جـ}}$ في ن،

$\overleftarrow{\text{ء ع}}$ ينصف $\angle \text{ء}$ ويقطع $\overline{\text{هـ و}}$ في ع.

هل $\frac{\text{م}(\triangle \text{ا ب جـ})}{\text{م}(\triangle \text{ء هـ و})} = \left(\frac{\text{ا ن}}{\text{ء ع}}\right)^2$؟

فسر إجابتك واكتب استنتاجك.

**مثال**

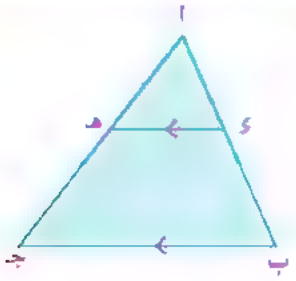


(١) في الشكل المقابل: أ ب جـ مثلث، ء ∈ $\overline{\text{أ ب}}$

حيث $\frac{\text{أ ء}}{\text{ء ب}} = \frac{٣}{٤}$ ، $\overleftarrow{\text{ء هـ}}$ // $\overline{\text{ب جـ}}$ ويقطع $\overline{\text{أ جـ}}$ في هـ

إذا كانت مساحة △ أ ب جـ = ٧٨٤سم². أوجد:

أ مساحة △ أ ء هـ

ب مساحة شبه المنحرف ء ب جـ هـ

**الحل**

في △ أ ء جـ: ∵ $\overline{\text{ء هـ}}$ // $\overline{\text{ب جـ}}$

∴ △ أ ء هـ ~ △ أ ب جـ (نتيجة)

∴ $\frac{\text{م}(\triangle \text{أ ء هـ})}{\text{م}(\triangle \text{أ ب جـ})} = \left(\frac{\text{أ ء}}{\text{أ ب}}\right)^2$ (نظرية)

ويكون $\frac{\text{م}(\triangle \text{أ ء هـ})}{٧٨٤} = \left(\frac{٣}{٧}\right)^2$ ∴ م(△ أ ء هـ) = ٧٨٤ × $\frac{٩}{٤٩}$ = ١٤٤سم²

∵ مساحة شبه المنحرف ء ب جـ هـ = مساحة △ أ ب جـ − مساحة △ أ ء هـ

∴ مساحة شبه المنحرف ء ب جـ هـ = ٧٨٤ − ١٤٤ = ٦٤٠سم²

**حاول أن تحل**

(١) في الشكل المقابل:

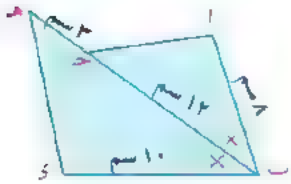


$\overleftarrow{\text{ب هـ}}$ منصف ∠ أ ب ء

، م(△ أ ب جـ) = ٤٨ سم²

أوجد: م(△ هـ ب ء)

**مثال**

(٢) النسبة بين مساحتي مثلثين متشابهين هي ٤ : ٩ فإذا كان محيط المثلث الأكبر ٩٠سم أوجد محيط المثلث الأصغر.

**الحل**

بفرض أن △ أ ب جـ ~ △ ء هـ و

∴ $\frac{\text{م}(\triangle \text{أ ب جـ})}{\text{م}(\triangle \text{ء هـ و})} = \left(\frac{\text{أ ب}}{\text{ء هـ}}\right)^2 = \frac{٤}{٩}$ ويكون $\frac{\text{أ ب}}{\text{ء هـ}} = \frac{٢}{٣}$

∴ $\frac{\text{محيط } \triangle \text{ أ ب جـ}}{\text{محيط } \triangle \text{ ء هـ و}} = \frac{\text{أ ب}}{\text{ء هـ}} = \frac{٢}{٣}$

ويكون $\frac{\text{محيط } (\triangle \text{ أ ب جـ})}{٩٠} = \frac{٢}{٣}$ ∴ محيط △ أ ب جـ = ٦٠سم

حاول أن تحل

(٢) أ ب جـ ، ء هـ و مثلثان متشابهان ، $\frac{\text{م}(\triangle \text{أ ب جـ})}{\text{م}(\triangle \text{ء هـ و})} = \frac{٣}{٤}$

أ إذا كان محيط المثلث الأصغر ٤٥$\sqrt{٣}$ سم، أوجد محيط المثلث الأكبر.

ب إذا كان هـ و = ٢٨سم أوجد طول $\overline{\text{ب جـ}}$.

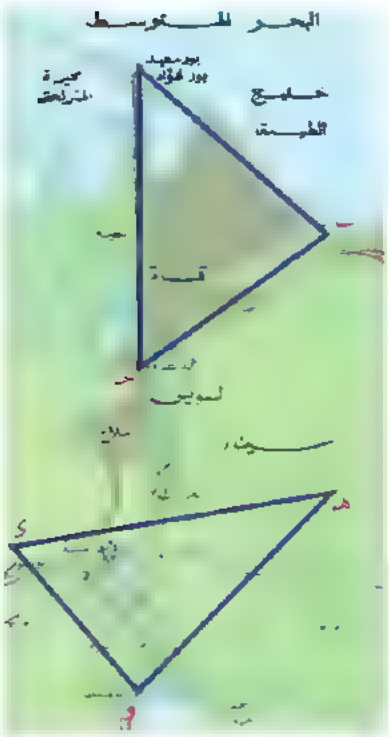


مثال

(٣) إذا كان كل ١ سم على الخريطة يمثل ١٠ كيلومترًا.
أوجد المساحة الحقيقية التي يمثلها المثلث أ ب جـ لأقرب كيلو متر مربع إذا كان م (△أ ب جـ) = ٦,٤سم$^{٢}$

الحل

مقياس الرسم = معامل التشابه = $\frac{١}{١٠ \times ١٠^{٥}}$

$\frac{\text{مساحة } \triangle \text{أ ب جـ}}{\text{المساحة الحقيقية}}$ = مربع معامل التشابه

$\frac{٦,٤}{\text{المساحة الحقيقية}} = \left(\frac{١}{١٠ \times ١٠^{٥}}\right)^{٢}$

المساحة الحقيقة = ٦,٤ × ١٠ × ١٠ × ١٠$^{٥}$ × ١٠$^{٥}$ سم$^{٢}$

≃ ٦٤٠ كم$^{٢}$

حاول أن تحل

(٣) أ في الخريطة المبينة أعلاه احسب مساحة المثلث ء هـ و بالسنتيمترات المربعة واستخدامها في تقدير المساحة الحقيقية التي يمثلها لأقرب كيلو مربع.

ب باستخدام إحدى خرائط جمهورية مصر العربية احسب مساحة شبه جزيرة سيناء لأقرب مائة كيلو متر مربع - قارن إجابتك مع زملائك.

## ثانيًا النسبة بين مساحتى سطحى مضلعين متشابهين The ratio between the area of two similar polygons

اعمل مع زميل لك لبحث إمكانية تقسيم المضلعين المتشابهين إلى نفس العدد من المثلثات التي يشابه كل منها نظيره.

١- ارسم مضلعات متشابهة كما في شكل (١)، شكل (٢).

٢- في شكل (١) ارسم $\overleftrightarrow{\text{أ جـ}}$. ماذا تلاحظ؟

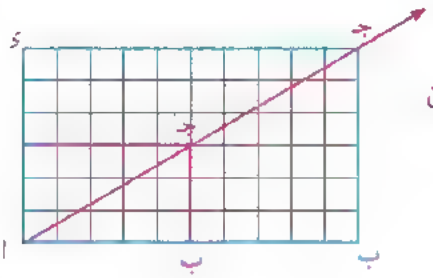

شكل (١)

**٣-** في شكل (٢) إرسم $\overleftarrow{\text{أ و}}$ . ماذا تلاحظ؟ هل تجد تفسيرًا لذلك؟

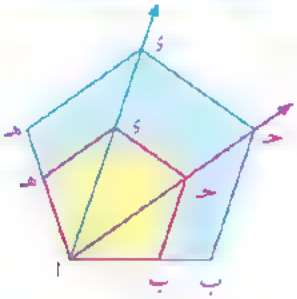

شكل (٢)

**لاحظ أن**

في المثلثين أ ب' جـ' ، أ ب جـ

ق(∠ أ ب' جـ') = ق(∠ ب) من تشابه المضلعين

فيكون $\overline{\text{ب' جـ'}}$ // $\overline{\text{ب جـ}}$

∴ △ أ ب' جـ' ~ △ أ ب جـ (نتيجة)

وبالمثل ق (∠ $\overline{\text{هـ' و'}}$) = ق(∠ هـ)

∴ $\overline{\text{هـ' و'}}$ // $\overline{\text{هـ و}}$ ويكون △ أ هـ' و' ~ △ أ هـ و وهكذا.

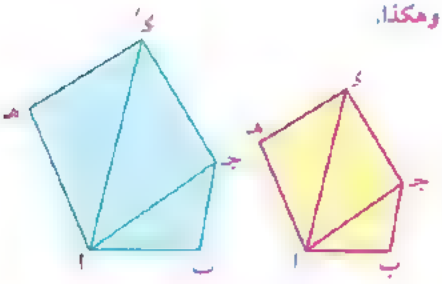


**حقيقة:** المضلعان المتشابهان يمكن أن ينقسما إلى نفس العدد من المثلثات التي يشابه كل منها نظيره.

**ملاحظة:** الحقيقة السابقة صحيحة مهما كان عدد الأضلاع في المضلعين المتشابهين، (المضلعان المتشابهان لهما نفس العدد من الأضلاع) فإذا كان عدد أضلاع المضلع = ن ضلعًا فإن عدد المثلثات التي يمكن أن ينقسم إليها المضلع (عن طريق أقطاره المشتركة في نفس الرأس) = ن − ٢ مثلثًا.

**نظرية ٤** النسبة بين مساحتي سطحي مضلعين متشابهين تساوي مربع النسبة بين طولي أي ضلعين متناظرين فيهما.

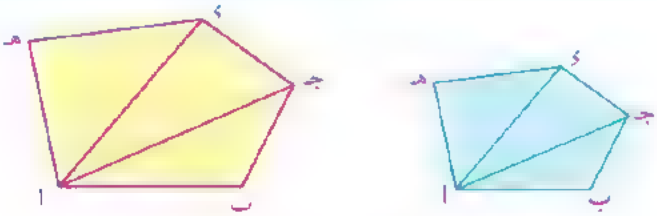


**المعطيات:** المضلع أ ب جـ و هـ ~ المضلع أ' ب' جـ' و' هـ'

**المطلوب:** $\frac{\text{م (المضلع أ ب جـ و هـ)}}{\text{م (المضلع أ' ب' جـ' و' هـ')}} = \left(\frac{\text{أ ب}}{\text{أ' ب'}}\right)^2$

**البرهان:** من أ ، أ' نرسم $\overline{\text{أ جـ}}$ ، $\overline{\text{أ و}}$ ، $\overline{\text{أ' جـ'}}$ ، $\overline{\text{أ' و'}}$

∵ المضلع أ ب جـ و هـ ~ المضلع أ' ب' جـ' و' هـ'

∴ فهما ينقسمان إلى نفس العدد من المثلثات، كل يشابه نظيره (حقيقة). ويكون:

$\frac{\text{م(△ أ ب جـ)}}{\text{م(△ أ' ب' جـ')}} = \left(\frac{\text{ب جـ}}{\text{ب' جـ'}}\right)^2$ ، $\frac{\text{م(△ أ جـ و)}}{\text{م(△ أ' جـ' و')}} = \left(\frac{\text{جـ و}}{\text{جـ' و'}}\right)^2$ ، $\frac{\text{م(△ أ و هـ)}}{\text{م(△ أ' و' هـ')}} = \left(\frac{\text{و هـ}}{\text{و' هـ'}}\right)^2$

∵ $\frac{\text{ب جـ}}{\text{ب' جـ'}} = \frac{\text{جـ و}}{\text{جـ' و'}} = \frac{\text{و هـ}}{\text{و' هـ'}} = \frac{\text{أ ب}}{\text{أ' ب'}}$ (من تشابه المضلعين)

$\therefore \frac{\text{م}(\triangle \text{أ ب جـ})}{\text{م}(\triangle \text{أ}' \text{ب}' \text{جـ}')} = \frac{\text{م}(\triangle \text{أ جـ ى})}{\text{م}(\triangle \text{أ}' \text{جـ}' \text{ى}')} = \frac{\text{م}(\triangle \text{أ ى هـ})}{\text{م}(\triangle \text{أ}' \text{ى}' \text{هـ}')} = \left(\frac{\text{أ ب}}{\text{أ}' \text{ب}'}\right)^2$

ومن خواص التناسب

$\frac{\text{م}(\triangle \text{أ ب جـ}) + \text{م}(\triangle \text{أ جـ ى}) + \text{م}(\triangle \text{أ ى هـ})}{\text{م}(\triangle \text{أ}' \text{ب}' \text{جـ}') + \text{م}(\triangle \text{أ}' \text{جـ}' \text{ى}') + \text{م}(\triangle \text{أ ى هـ}')} = \left(\frac{\text{أ ب}}{\text{أ}' \text{ب}'}\right)^2$

ويكون: $\frac{\text{م (المضلع أ ب جـ ى هـ)}}{\text{م (المضلع أ}' \text{ب}' \text{جـ ى}' \text{هـ}')} = \left(\frac{\text{أ ب}}{\text{أ}' \text{ب}'}\right)^2$ وهو المطلوب

**ملاحظة**

$\left(\frac{\text{أ ب}}{\text{أ}' \text{ب}'}\right)^2 = \frac{(\text{أ ب})^2}{(\text{أ}' \text{ب}')^2}$

**حاول أن تحل**

٤ أ إذا كان المضلع أ ب جـ ى ~ المضلع أ′ ب′ جـ′ ى′، $\frac{\text{أ ب}}{\text{أ}' \text{ب}'} = \frac{1}{3}$ فاكتب ما يساويه كلٌّ من:

$\frac{\text{م (المضلع أ ب جـ ى)}}{\text{م (المضلع أ}' \text{ب}' \text{جـ}' \text{ى}')}$ ، $\frac{\text{محيط المضلع أ ب جـ ى}}{\text{محيط المضلع أ}' \text{ب}' \text{جـ}' \text{ى}'}$

ب إذا كان المضلعان أ ب جـ ى هـ، أ′ ب′ جـ′ ى′ هـ′ متشابهان والنسبة بين مساحتي سطحيهما ٤ : ٢٥ فاكتب ما يساويه كل من: $\frac{\text{أ ب}}{\text{أ}' \text{ب}'}$ ، $\frac{\text{محيط المضلع أ ب جـ ى هـ}}{\text{محيط المضلع أ}' \text{ب}' \text{جـ}' \text{ى}' \text{هـ}'}$

جـ إذا كانت النسبة بين محيطي مضلعين متشابهين ١ : ٤، مساحة المضلع الأول ٢٥سم$^2$ .أوجد مساحة المضلع الثاني.

٥ إذا كان طولا ضلعين متناظرين في مضلعين متشابهين هما ١٢سم، ١٦سم، وكانت مساحة المضلع الأصغر = ١٣٥سم$^2$. فأوجد مساحة المضلع الأكبر.

**مثال**

٤ أ ب جـ ى، س ص ع ل مضلعان متشابهان فيهما: ق(∠أ) = ٤٠° ، س ص = $\frac{3}{4}$ أ ب ، جـ ى = ١٦سم.

احسب: أولًا: ق(∠س) ثانيًا: طول $\overline{\text{ع ل}}$ ثالثًا: م(المضلع أ ب جـ ى) : م (المضلع س ص ع ل)

**الحل**

∵ المضلع أ ب جـ ى ~ المضلع س ص ع ل

∴ ق(∠أ) = ق(∠س) فيكون ق(∠س) = ٤٠° (المطلوب أولًا)

∵ س ص = $\frac{3}{4}$ أ ب ∴ $\frac{\text{أ ب}}{\text{س ص}} = \frac{4}{3}$ (من خواص التناسب)

من تشابه المضلعين نجد أيضًا $\frac{\text{أ ب}}{\text{س ص}} = \frac{\text{جـ ى}}{\text{ع ل}}$

∴ $\frac{4}{3} = \frac{16}{\text{ع ل}}$ فيكون ع ل = $\frac{3 \times 16}{4}$ = ١٢سم (المطلوب ثانيًا)

م(المضلع أ ب جـ ى) : م (المضلع س ص ع ل) = (أ ب)$^2$ : (س ص)$^2$

= ١٦ك$^2$ : ٩ك$^2$

١٦ : ٩ (المطلوب ثالثًا)

**لاحظ أن**

أ ب = ٤ك

س ص = ٣ك

ك ≠ ٠

**مثال**

(٥) النسبة بين محيطي مضلعين متشابهين ٣ : ٤. إذا كان مجموع مساحتي سطحيهما ٢٢٥سم² فأوجد مساحة كل منهما.

**الحل**

∵ النسبة بين محيطي مضلعين متشابهين = ٣ : ٤

∴ النسبة بين طولي ضلعين متناظرين فيهما = ٣ : ٤

بفرض أن مساحة المضلع الأول = ٩س سم² ، مساحة المضلع الثاني = ١٦س سم²

∴ ٩س + ١٦س = ٢٢٥ ويكون س = $\frac{٢٢٥}{٩ + ١٦}$ = ٩

∴ مساحة المضلع الأول = ٩ × ٩ = ٨١ سم²

∴ مساحة المضلع الثاني = ١٦ × ٩ = ١٤٤ سم²

**حاول أن تحل**

(٥) **لربط مع الزراعة:** مزرعتان على شكل مضلعين متشابهين، النسبة بين طولي ضلعين متناظرين فيهما ٥ : ٣ ، إذا كان الفرق بين مساحتيهما ٣٢ فدانًا، فأوجد مساحة كل منهما.

**مثال**

(٦) أ ب جـ ء، س ص ع ل مضلعان متشابهان. تقاطع قُطرى الأول فى م وتقاطع قُطرى الثاني فى ن.
أثبت أن مـ(المضلع أ ب جـ ء) : مـ(المضلع س ص ع ل) = (م جـ)² : (ن ع)²

**الحل**

∵ المضلع أ ب جـ ء ~ المضلع س ص ع ل

∴ △ أ ب جـ ~ △ س ص ع (حقيقة)

، △ ء ب جـ ~ △ ل ص ع (لماذا)

∴ △ م ب جـ ~ △ ن ص ع

ويكون $\frac{ب جـ}{ص ع} = \frac{م جـ}{ن ع}$ (١)

∵ المضلع أ ب جـ ء ~ المضلع س ص ع ل

∴ $\frac{مـ(المضلع أ ب جـ ء)}{مـ(المضلع س ص ع ل)} = \left(\frac{ب جـ}{ص ع}\right)^2$ (٢)

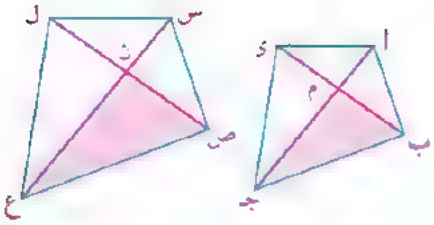


من (١)، (٢) نستنتج أن:

مـ(المضلع أ ب جـ ء) : مـ(المضلع س ص ع ل) = (م جـ)² : (ن ع)²

حاول أن تحل

(٦) أ ب جـ ء، س ص ع ل مضلعان متشابهان فإذا كانت م منتصف $\overline{\text{ب جـ}}$، ن منتصف $\overline{\text{ص ع}}$ فأثبت أن:

مـ(المضلع أ ب جـ ء) : مـ(المضلع س ص ع ل) = (م ء)$^{٢}$ : (ن ل)$^{٢}$

## مثال

(٧) أ ب جـ مثلث قائم الزاوية في ب، فإذا كانت $\overline{\text{أ ب}}$ ، $\overline{\text{ب جـ}}$، $\overline{\text{أ جـ}}$ أضلاع متناظرة لثلاثة مضلعات متشابهة منشأة على أضلاع المثلث أ ب جـ و هي على الترتيب: المضلع سـ، المضلع صـ، المضلع ع.

فأثبت أن مـ(المضلع سـ) + مـ(المضلع صـ) = مـ(المضلع ع)

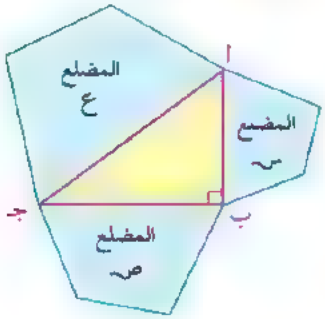


الحل

∵ المضلع سـ ~ المضلع ع ∴ $\frac{\text{مـ (المضلع سـ)}}{\text{مـ (المضلع ع)}} = \frac{(\text{أ ب})^{٢}}{(\text{أ جـ})^{٢}}$

∵ المضلع صـ ~ المضلع ع ∴ $\frac{\text{مـ (المضلع صـ)}}{\text{مـ (المضلع ع)}} = \frac{(\text{ب جـ})^{٢}}{(\text{أ جـ})^{٢}}$

∴ $\frac{\text{مـ (المضلع سـ)}}{\text{مـ (المضلع ع)}} + \frac{\text{مـ (المضلع صـ)}}{\text{مـ (المضلع ع)}} = \frac{(\text{أ ب})^{٢}}{(\text{أ جـ})^{٢}} + \frac{(\text{ب جـ})^{٢}}{(\text{أ جـ})^{٢}}$

$= \frac{(\text{أ ب})^{٢} + (\text{ب جـ})^{٢}}{(\text{أ جـ})^{٢}}$ (١)

∵ ق(∠ب) = ٩٠° $(\text{أ ب})^{٢} + (\text{ب جـ})^{٢} = (\text{أ جـ})^{٢}$ (٢)

من (١)، (٢) ينتج أن $\frac{\text{مـ (المضلع سـ)}}{\text{مـ (المضلع ع)}} + \frac{\text{مـ (المضلع صـ)}}{\text{مـ (المضلع ع)}} = ١$

ويكون مـ(المضلع سـ) + مـ(المضلع صـ) = مـ(المضلع ع)

حاول أن تحل

(٧) أ ب جـ مثلث قائم الزاوية في أ، فيه أ ب = ٥سم، ب جـ = ١٣ سم، حيث $\overline{\text{أ ب}}$ ، $\overline{\text{ب جـ}}$، $\overline{\text{أ جـ}}$ أضلاع متناظرة لثلاثة مضلعات متشابهة ل، م، ن منشأة على أضلاع المثلث أ ب جـ من الخارج على الترتيب.

فإذا كانت مساحة سطح المضلع ل تساوي ١٠٠سم$^{٢}$ أوجد مساحة سطح كل من المضلعين م، ن.

## تحقق من فهمك

في الشكل المقابل: أ ب جـ ء متوازي أضلاع،

هـ ∈ $\overline{\text{أ ب}}$ حيث $\frac{\text{أ هـ}}{\text{هـ ب}} = \frac{٢}{٣}$، $\overleftarrow{\text{ء هـ}}$ ∩ $\overleftarrow{\text{جـ ب}}$ = {و}

(١) أثبت أن △ ء جـ و ~ △ هـ أ ء

(٢) أوجد $\frac{\text{مـ (△ ء جـ و)}}{\text{مـ (△ هـ أ ء)}}$

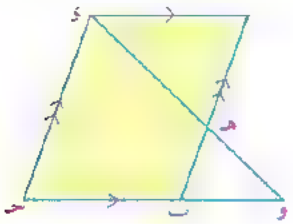

## تمـــارين ٢ - ٣

(١) أكمل:

أ إذا كان △ا ب جـ ~ △س ص ع، وكان ا ب = ٣ س ص فإن $\frac{\text{م}(\triangle \text{س ص ع})}{\text{م}(\triangle \text{ا ب جـ})}$ = .....

ب إذا كان △ ا ب جـ ~ △ ى هـ و، م (△ ا ب جـ) = ٩ م (△ ى هـ و) وكان ى هـ = ٤سم فإن:

ا ب = ..... سم

(٢) ادرس كلًّا من الأشكال التالية، حيث ك ثابت تناسب، ثم أكمل:

أ

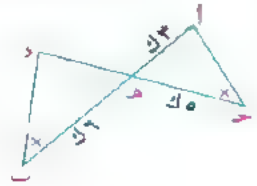


$\overline{\text{ا ب}} \cap \overline{\text{جـ ى}}$ = {هـ}

م (△ ا جـ هـ) = ٩٠٠ سم²

فإن: م (△ ى هـ ب) = ..... سم²

ب

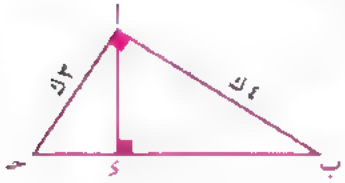


ق(∠ب ا جـ) = ٩٠°، $\overline{\text{ا ى}} \perp \overline{\text{ب جـ}}$

م (△ ا ى جـ) = ١٨٠ سم² فإن:

م (△ ا ب جـ) = ..... سم²

(٣) ا ب جـ مثلث، ى ∈ $\overline{\text{ا ب}}$ حيث ا ى = ٢ ب ى، هـ ∈ $\overline{\text{ا جـ}}$ حيث $\overline{\text{ى هـ}}$ // $\overline{\text{ب جـ}}$

إذا كانت مساحة △ ا ى هـ = ٦٠سم². أوجد مساحة شبه المنحرف ى ب جـ هـ.

(٤) ا ب جـ مثلث قائم الزاوية في ب، رسمت المثلثات المتساوية الأضلاع ا ب س، ب جـ ص، ا جـ ع

أثبت أن: م (△ا ب س) + م (△ب جـ ص) = م (△ا جـ ع).

(٥) ا ب جـ مثلث فيه $\frac{\text{ا ب}}{\text{ب جـ}} = \frac{٤}{٣}$، رسمت الدائرة المارة برؤوسه. من نقطة ب رسم المماس لهذه الدائرة فقطع $\overleftarrow{\text{ا جـ}}$ في هـ أثبت أن: $\frac{\text{م}(\triangle \text{ا ب جـ})}{\text{م}(\triangle \text{ا ب هـ})} = \frac{٧}{١٦}$

(٦) ا ب جـ ى متوازي أضلاع س ∈ $\overleftarrow{\text{ا ب}}$، س ∉ $\overline{\text{ا ب}}$ حيث ب س = ٢ ا ب، ص ∈ $\overleftarrow{\text{جـ ب}}$، ص ∉ $\overline{\text{جـ ب}}$

حيث ب ص = ٢ ب جـ، رسم متوازي الأضلاع ب س ع ص أثبت أن: $\frac{\text{م}(\text{ا ب جـ ى})}{\text{م}(\text{س ب ص ع})} = \frac{١}{٤}$

(٧) أ ب جـ مثلث قائم الزاوية في ب، $\overline{ب ء}$ ⊥ $\overline{أ جـ}$ يقطعة في ء، رُسم على $\overline{أ ب}$ ، $\overline{ب جـ}$ المربعان أ س ص ب، ب م ن جـ خارج المثلث أ ب جـ

أ أثبت أن المضلع ء أ س ص ب ~ المضلع ء ب م ن جـ

ب إذا كان أ ب = ٦سم، أ جـ = ١٠سم. أوجد النسبة بين مساحتى سطحى المضلعين.

(٨) أ ب جـ مثلث، $\overline{أ ب}$ ، $\overline{ب جـ}$ ، $\overline{أ جـ}$ أضلاع متناظرة لثلاثة مضلعات متشابهة مرسومة خارج المثلث، وهى المضلعات بين س، ص، ع على الترتيب.

فإذا كانت مساحة المضلع س = ٤٠سم$^{٢}$، ومساحة المضلع ص =٨٥ سم$^{٢}$، ومساحة المضلع ع = ١٢٥سم$^{٢}$.

أثبت أن المثلث أ ب جـ قائم الزاوية.

(٩) أ ب جـ ء مربع قسمت $\overline{أ ب}$ ، $\overline{ب جـ}$ ، $\overline{جـ ء}$ ، $\overline{ء أ}$ بالنقاط س، ص، ع، ل على الترتيب بنسبة ١ : ٣

أثبت أن:

أ الشكل س ص ع ل مربع

ب $\frac{\text{مـ المربع س ص ع ل}}{\text{مـ المربع أ ب جـ ء}} = \frac{٥}{٨}$

(١٠) صالة ألعاب مستطيلة الشكل أبعادها ٨ متر، ١٢ متر، تم تغطية أرضيتها بالخشب، فكلفت ٣٢٠٠ جنيه. احسب (باستخدام التشابه) تكاليف تغطية أرضية صالة مستطيلة أكبر بنفس نوع الخشب وبنفس الأسعار، إذا كان أبعادها ١٤، ٢١ من الأمتار.

# ٢ - ٤

# تطبيقات التشابه فى الدائرة

## Applications of Similarity in the circle

### سوف تتعلم

- العلاقة بين وترين متقاطعين فى دائرة.
- العلاقة بين قاطعين لدائرة من نقطة خارجها
- العلاقة بين طول مماس وطولى جزأي قاطع لدائرة مرسومين من نقطة خارجها
- نمذجة وحل مشكلات وتطبيقات حياتية باستخدام تشابه المضلعات فى الدائرة.

### المصطلحات الأساسية

- وتر Chord
- قاطع Secant
- مماس Tangent
- قطر Diameter
- مماس خارجى مشترك Common External Tangent
- مماس داخلى مشترك Common Internal Tangent
- دوائر متحدة المركز Concentric Circles

**فكر و ناقش**

فى كل من الأشكال الآتية مثلثان متشابهان. اكتب المثلثين بترتيب تطابق زواياهما واستنتج تناسب الأضلاع المتناظرة.

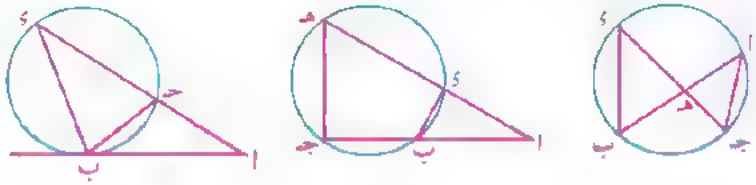


شكل (١) شكل (٢) شكل (٣)

- فى شكل (١): هل توجد علاقة بين هـ أ × هـ ب ، هـ جـ × هـ ء؟
- فى شكل (٢): هل توجد علاقة بين أ هـ × أ ء ، أ جـ × أ ب؟
- فى شكل (٣): هل توجد علاقة بين أ ء × أ جـ ، (أ ب)$^2$؟

**تمرين مشهور**

إذا تقاطع المستقيمان الحاويان للوترين $\overline{\text{أب}}$ ، $\overline{\text{جـ ء}}$ لدائرة فى نقطة هـ فإن:

هـ أ × هـ ب = هـ جـ × هـ ء

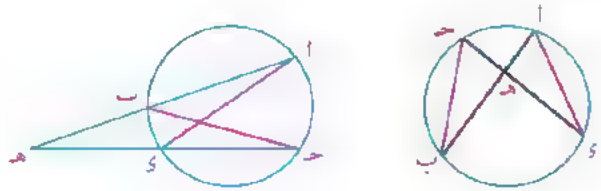


شكل (١) شكل (٢)

**لاستنتاج ذلك.**

- ارسم $\overline{\text{أء}}$ ، $\overline{\text{ب جـ}}$
- فى كل من الشكلين أثبت أن المثلثين هـ أ ء ، هـ جـ ب متشابهان فيكون:

$\frac{\text{هـ أ}}{\text{هـ جـ}} = \frac{\text{هـ ء}}{\text{هـ ب}}$ ∴ هـ أ × هـ ب = هـ جـ × هـ ء

## مثال

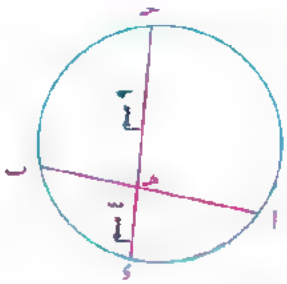


(١) في الشكل المقابل: $\overline{\text{أب}} \cap \overline{\text{جـ ء}} = \{\text{هـ}\}$

وإذا كان $\frac{\text{هـ أ}}{\text{هـ ب}} = \frac{٤}{٣}$، هـ جـ = ٩سم ، هـ ء = ٤سم

أوجد طول $\overline{\text{هـ ب}}$

**الحل**

$\because \frac{\text{هـ أ}}{\text{هـ ب}} = \frac{٤}{٣}$ $\therefore$ هـ أ = ٤ك ، هـ ب = ٣ك حيث ك ≠ ٠

$\because \overline{\text{أب}} \cap \overline{\text{جـ ء}} = \{\text{هـ}\}$ $\therefore$ هـ أ × هـ ب = هـ جـ × هـ ء (تمرين مشهور)

فيكون: ٤ك × ٣ك = ٩ × ٤

١٢ك$^{٢}$ = ٣٦

ك$^{٢}$ = ٣

ك = $\sqrt{٣}$ ، هـ ب = ٣$\sqrt{٣}$ سم

**حاول أن تحل**

(١) أوجد قيمة س في كل من الأشكال الآتية (الأطوال مقدرة بالسنتيمترات)

أ

ب

جـ

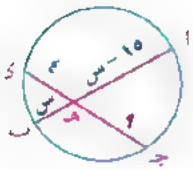


## مثال

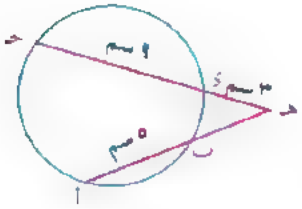


(٢) في الشكل المقابل: $\overleftrightarrow{\text{أب}} \cap \overleftrightarrow{\text{جـ ء}} = \{\text{هـ}\}$ ، أب = ٥سم،

جـ ء = ٩سم ، هـ ء = ٣سم. أوجد طول $\overline{\text{ب هـ}}$

**الحل**

بفرض أن ب هـ = س سم.

$\because \overleftrightarrow{\text{أب}} \cap \overleftrightarrow{\text{جـ ء}} = \{\text{هـ}\}$ $\therefore$ هـ ب × هـ أ = هـ ء × هـ جـ (تمرين مشهور)

فيكون: س (س + ٥) = ٣ (٣ + ٩)

س$^{٢}$ + ٥س − ٣٦ = صفر

(س − ٤) (س + ٩) = صفر

$\therefore$ س = ٤ ، س = −٩ مرفوض

$\therefore$ طول $\overline{\text{ب هـ}}$ = ٤سم.

**حاول أن تحل**

(٢) أوجد قيمة س فى كل من الأشكال الآتية (الأطوال مقدرة بالسنتيمترات)

أ

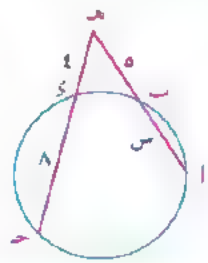


ب

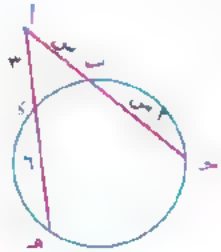


جـ

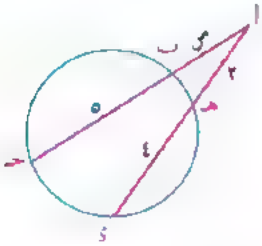


**نتيجة ١**

إذا كانت م نقطة خارج دائرة، $\overleftarrow{\text{م جـ}}$ يمس الدائرة فى جـ، $\overleftarrow{\text{م ب}}$ يقطعها فى أ ، ب فإن (م جـ)$^{٢}$ = م أ × م ب.

فى الشكل المقابل: $\overleftarrow{\text{م جـ}}$ مماس للدائرة

، $\overleftarrow{\text{م ب}}$ يقطع الدائرة فى أ، ب

∴ (م جـ)$^{٢}$ = م أ × م ب




**مثال**

(٣) فى الشكل المقابل: $\overleftarrow{\text{هـ أ}}$ مماس للدائرة،

$\overleftarrow{\text{هـ جـ}}$ يقطع الدائرة فى ى، جـ على الترتيب.

حيث هـ ى = ٤سم ، جـ ى = ٥سم ، أوجد طول $\overline{\text{هـ أ}}$

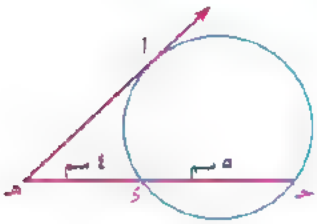


**الحل**

∵ $\overleftarrow{\text{هـ أ}}$ مماس، $\overleftarrow{\text{هـ جـ}}$ قاطع للدائرة

∴ (هـ أ)$^{٢}$ = هـ ى × هـ جـ (نتيجة)

(هـ أ)$^{٢}$ = ٤(٤ + ٥) = ٣٦

∴ هـ أ = ٦سم

**حاول أن تحل**

(٣) فى كل من الأشكال التالية $\overleftarrow{\text{هـ أ}}$ مماس للدائرة. أوجد قيم س، ص، ع العددية (الأطوال مقدرة بالسنتيمترات)

أ

ب

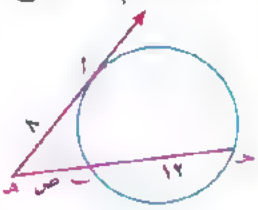


جـ

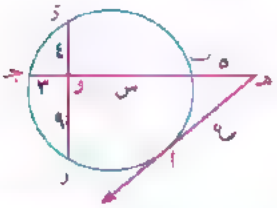

## عكس تمرين مشهور

إذا تقاطع المستقيمان الحاويان للقطعتين $\overline{\text{أب}}$ ، $\overline{\text{جـ ء}}$ في نقطة هـ (مختلفة عن أ، ب، جـ، ء)
وكان هـ أ × هـ ب = هـ جـ × هـ ء فإن : النقط أ، ب، جـ، ء تقع على دائرة واحدة.

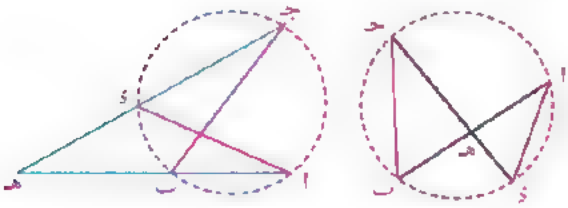


### لاحظ أن:

هـ أ × هـ ب = هـ جـ × هـ ء

فيكون $\frac{\text{هـ أ}}{\text{هـ جـ}} = \frac{\text{هـ ء}}{\text{هـ ب}}$

- هل △ هـ أ ء ~ △ هـ جـ ب؟ لماذا؟
- هل ق (∠ أ) = ق (∠ جـ)؟ لماذا؟
- هل النقط أ، ء، ب، جـ تقع على دائرة واحدة؟ فسِّر إجابتك.

### مثال

(٤) أ ب جـ مثلث فيه أ ب = ١٥سم، أ جـ = ١٢سم. ء ∈ $\overline{\text{أب}}$ حيث أ ء = ٤سم، هـ ∈ $\overline{\text{أجـ}}$ حيث أ جـ = ٥سم.
أثبت أن الشكل ء ب جـ هـ رباعي دائري.

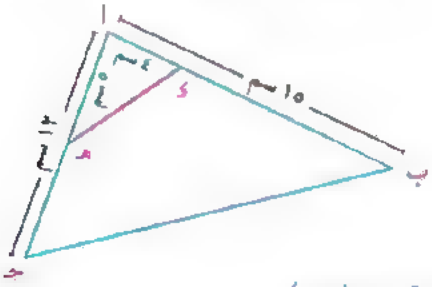


**الحل**

∵ أ ء × أ ب = ٤ × ١٥ = ٦٠،

أ هـ × أ جـ = ٥ × ١٢ = ٦٠

∴ أ ء × أ ب = أ هـ × أ جـ

∵ $\overleftarrow{\text{ب ء}}$ ∩ $\overleftarrow{\text{جـ هـ}}$ = {أ} ، أ ء × أ ب = أ هـ × أ جـ

∴ النقط ء، ب، جـ، هـ تقع على دائرة واحدة (عكس تمرين مشهور)

ويكون الشكل ء ب جـ هـ رباعيًا دائريًا

### حاول أن تحل

(٤) في أيٍّ من الأشكال التالية تقع النقط أ، ب، جـ، ء على دائرة واحدة؟ فسر إجابتك.




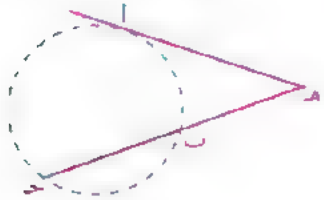


**نتيجة**

إذا كان (هـ أ)$^2$ = هـ ب × هـ جـ
فإن $\overline{\text{هـ أ}}$ تمس الدائرة المارة بالنقط أ، ب، جـ

مثال

(٥) أ ب جـ مثلث فيه أ ب = ٨سم، أ جـ = ٤سم، ء ∈ $\overleftarrow{\text{أ جـ}}$، ء ∉ $\overline{\text{أ جـ}}$ حيث جـ ء = ١٢سم.
أثبت أن $\overline{\text{أ ب}}$ تمس الدائرة المارة بالنقط ب، جـ، ء

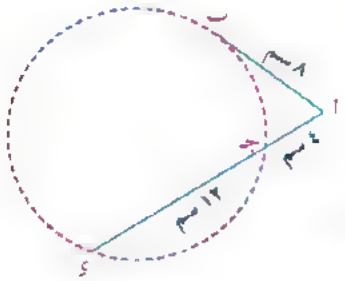


الحل

∵ أ جـ × أ ء = ٤ (٤ + ١٢) = ٦٤

، (أ ب)$^{٢}$ = (٨)$^{٢}$ = ٦٤

∴ (أ ب)$^{٢}$ = أ جـ × أ ء

∴ $\overline{\text{أ ب}}$ تمس الدائرة المارة بالنقط ب، جـ، ء عند النقطة ب

حاول أن تحل

(٥) في أيٍّ من الأشكال الآتية يكون $\overline{\text{أ ب}}$ مماسًا للدائرة المارة بالنقط ب، جـ، ء

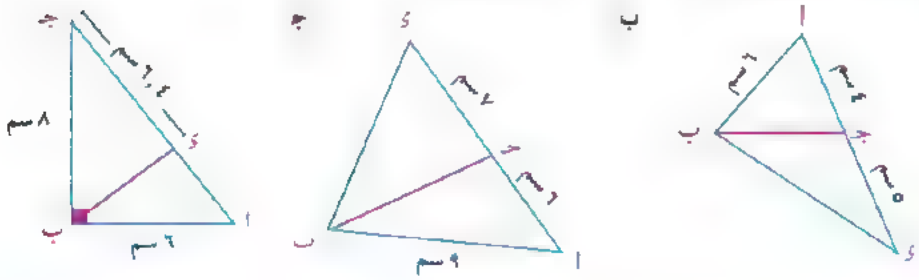


مثال

(٦) تطبيقات حياتية: الربط مع الجيولوجيا: في إحدى المناطق الساحلية توجد طبقة أرضية على شكل قوس طبيعي. وجد الجيولوجيون أنه قوس دائرة كما في الشكل المقابل. أوجد طول نصف قطر دائرة القوس.



الحل

بفرض أن طول نصف قطر دائرة القوس = س مترًا

∵ $\overline{\text{أ ب}}$، $\overline{\text{جـ ء}}$ وتران متقاطعان في هـ

∴ هـ أ × هـ ب = هـ جـ × هـ ء

٢٧ × ٢٧ = ٩ × (٢س − ٩)

٢س − ٩ = ٨١

س = ٤٥

أي أن طول نصف قطر دائرة القوس يساوي ٤٥ مترًا.

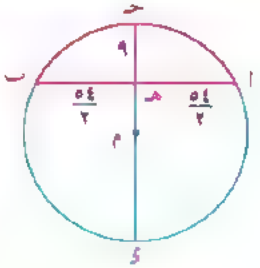

## تمـــارين ٢ – ٤

(١) باستخدام الآلة الحاسبة أو الحساب العقلى، أوجد قيمة س العددية فى كل من الأشكال التالية.
(الأطوال مقدرة بالسنتيمترات)

أ
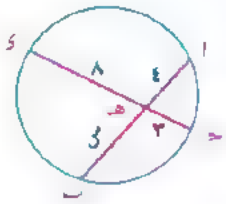


ب
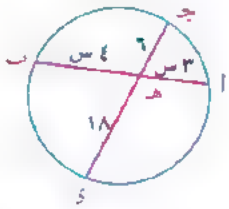


ج
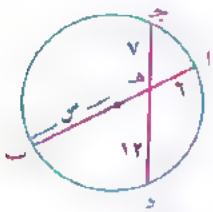


د

هـ

و
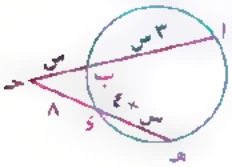


ز
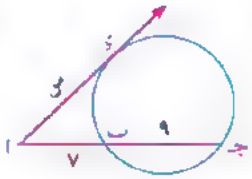


ح
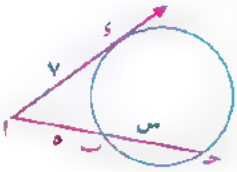


ط
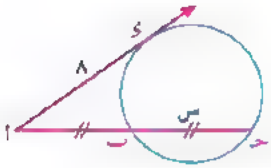


ى
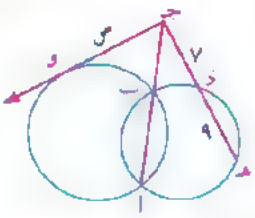


ك
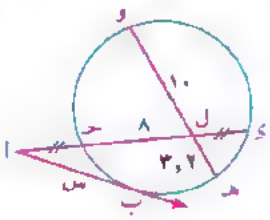


ل

(٢) فى أىٍّ من الأشكال التالية تقع النقط أ، ب، جـ، ء على دائرة واحدة؟ فسِّر إجابتك.
(الأطوال مقدرة بالسنتيمترات)

أ
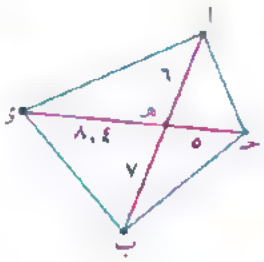


ب
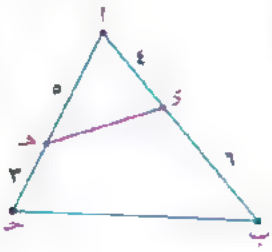


جـ
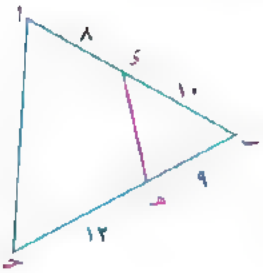

(٣) في أيٍّ من الأشكال التالية $\overline{\text{أب}}$ مماس للدائرة المارة بالنقط ب، جـ، ء.

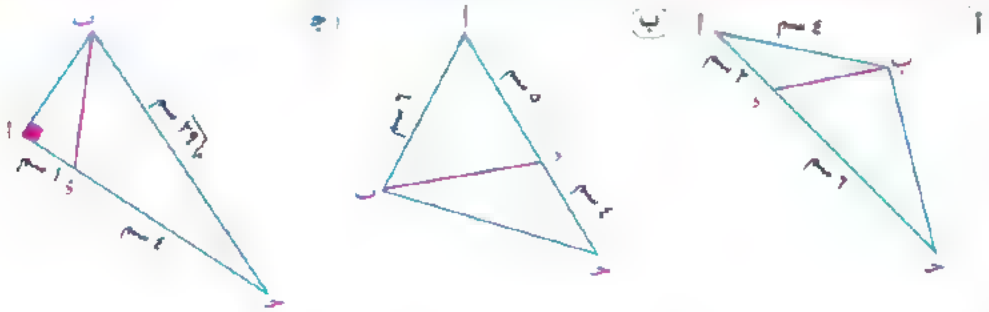


(٤) دائرتان متقاطعتان في ا، ب . جـ ∈ $\overleftarrow{\text{أب}}$ ، جـ ∉ $\overline{\text{أب}}$ رُسِمَ من جـ القطعتان $\overline{\text{جـ س}}$، $\overline{\text{جـ ص}}$ مماستان للدائرتين عند س، ص. أثبت أن جـ س = جـ ص

(٥) في الشكل المقابل: الدائرتان م، ن متماستان عند هـ
$\overleftarrow{\text{أجـ}}$ يمس الدائرة م عند ب، ويمس الدائرة ن عند جـ
$\overleftarrow{\text{أهـ}}$ يقطع الدائرتين عند و، ء على الترتيب
حيث أ و = ٤سم، و هـ = ٥سم، هـ ء = ٧سم.
أثبت أن ب منتصف $\overline{\text{أجـ}}$

(٦) في الشكل المقابل: ل ∈ $\overline{\text{س ص}}$ حيث س ل = ٤سم،
ص ل = ٨سم ، م ⊂ $\overline{\text{س ع}}$ حيث س م = ٦سم ، ع م = ٢سم
أثبت أن:
أ △س ل م ~ △س ع ص
ب الشكل ل ص ع م رباعي دائري.

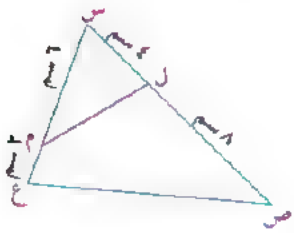


(٧) $\overline{\text{أب}}$ ∩ $\overline{\text{جـ ء}}$ = {هـ}، ا هـ = $\frac{٥}{١٢}$ ب هـ، ء هـ = $\frac{٣}{٥}$ هـ جـ، إذا كان ب هـ = ٦سم، جـ هـ = ٥سم.
أثبت أن النقط ا، ب، جـ، ء تقع على دائرة واحدة.

(٨) ا ب جـ مثلث، ء ∈ $\overline{\text{ب جـ}}$ حيث ء ب = ٥سم، ء جـ = ٤سم. إذا كان ا جـ = ٦سم. أثبت أن:
أ $\overline{\text{أجـ}}$ مماسة للدائرة التي تمر بالنقط ا، ب، ء.
ب △ا جـ ء ~ △ب جـ ا
جـ هـ (△ا ب ء) : هـ (△ا ب جـ) = ٥ : ٩

(٩) دائرتان متحدتا المركز م، طولا نصفي قطريهما ١٢سم، ٧سم، رسم الوتر $\overline{\text{أء}}$ في الدائرة الكبرى ليقطع الدائرة الصغرى في ب ، جـ على الترتيب. أثبت أن: ا ب × ب ء = ٩٥

(١٠) أ ب جـ ء مستطيل فيه أ ب = ٦سم، ب جـ = ٨سم. رسم $\overleftarrow{\text{ب هـ}}$ ⊥ $\overline{\text{أ جـ}}$ فقطع $\overline{\text{أ جـ}}$ في هـ، $\overline{\text{أ ء}}$ في و.

أ أثبت أن $(\text{أ ب})^2 = \text{أ و} \times \text{أ ء}$.  ب أوجد طول $\overline{\text{أ و}}$.

(١١) **الربط مع الصناعة:** كُسر أحد تروس آلة ولاستبداله مطلوب معرفة طول نصف قطر دائرته. يبين الشكل المقابل جزءًا من هذا الترس، والمطلوب تعيين طول نصف قطر دائرته

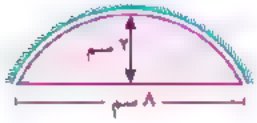


(١٢) **الربط مع البيئة:** يبين الشكل المقابل مخططًا لحديقة على شكل دائرة بها طريقان يتقاطعان عند نافورة المياه. أوجد بُعْد نافورة المياه عند المدخل جـ.

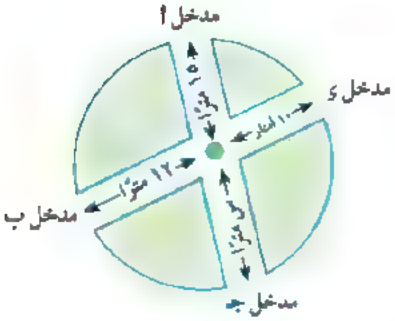


(١٣) **الربط مع المنزل:** تستخدم هدى شبكة لشي اللحوم على شكل دائرة من السلك، طول قطرها ٥٠سم، يدعمها من الوسط سلكان متوازيان ومتساويان في الطول كما في الشكل المقابل، والبعد بينهما ١٠سم.

احسب طول كل من سلكي الدعامة.

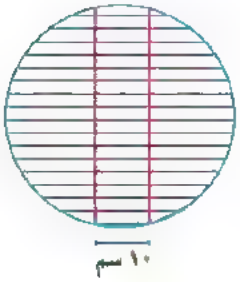


(١٤) **الربط مع الاتصال:** تنقل الأقمار الصناعية البرامج التليفزيونية إلى كافة مناطق الأرض، وتستخدم أطباق خاصة لاستقبال إشارات البث التليفزيوني، وهي أطباق مقعرة على شكل جزء من سطح كرة.

يبين الشكل المقابل مقطعًا في أحد هذه الأطباق، طول قطره ١٨٠سم، والمطلوب حساب طول نصف قطر كرة تقعره $\overline{\text{م أ}}$.

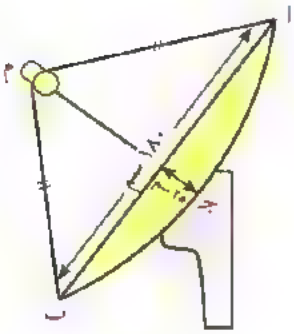

# ملخص الوحدة

## المضلعان المتشابهان Two Similar Polygons

يتشابه مضلعان لهما نفس العدد من الأضلاع إذا كانت الزوايا المتناظرة متطابقة وأطوال الأضلاع المتناظرة متناسبة

## نسبة التشابه (معامل التشابه) Similarity Ratio

إذا كان المضلع أ ب جـ ء ~ المضلع أ ب جـ ء يكون ك معامل تشابه المضلع أ ب جـ ء للمضلع أ ب جـ ء

حيث $\frac{\text{أ ب}}{\text{أ ب}} = \frac{\text{ب جـ}}{\text{ب جـ}} = \frac{\text{جـ ء}}{\text{جـ ء}} = \frac{\text{أ ء}}{\text{أ ء}} = \text{ك}$ ، ك ≠ ٠

النسبة بين محيطى مضلعين متشابهين تساوى معامل تشابهما

مسلمة: قضية أو عبارة رياضية يسلم بصحتها دون برهان ويستنتج منها حقائق تتعلق بالنظام، مثل:
«إذا طابقت زاويتان فى مثلث نظائرها فى مثلث آخر كان المثلثان متشابهين».

نتيجة (١): إذا رسم مستقيم يوازى أحد أضلاع مثلث ويقطع الضلعين الآخرين أو المستقمين الحاملين لهما فإن المثلث الناتج يشابه المثلث الأصلى.

نتيجة (٢): إذا رسم من رأس القائمة فى المثلث القائم الزاوية عمود على الوتر انقسم المثلث إلى مثلثين، وكلاهما يشابه المثلث الأصلى.

نظرية ١: إذا تناسبت الأضلاع المتناظرة فى مثلثين فإنهما يتشابهان.

نظرية ٢: إذا طابقت زاوية من مثلث زاوية من مثلث آخر، وتناسبت أطوال الأضلاع التي تحتويها هاتان الزاويتان كان المثلثان متشابهين.

## العلاقة بين مساحتى سطحى مضلعين متشابهين The relation between the area of two similar polygons

نظرية ٣: النسبة بين مساحتى سطحين مثلثين متشابهين تساوى مربع النسبة بين طولى أى ضلعين متناظرين فيهما.

حقيقة: المضلعان المتشابهان يمكن أن ينقسما إلى نفس العدد من المثلثات التي يشابه كل منها نظيره.

نظرية ٤: النسبة بين مساحتى سطحى مضلعين متشابهين تساوى مربع النسبة بين طولى أى ضلعين متناظرين فيهما.

**معلومات إثرائية**

قم بزيارة المواقع الآتية:

## أهداف الوحدة

**فى نهاية الوحدة يكون الطالب قادرًا على أن:**

- يتعرف ويبرهن النظرية التى تنص على (إذا رسم مستقيم يوازى أحد أضلاع المثلث ويقطع الضلعين الآخرين فإنه يقسمهما إلى قطع أطوالها متناسبة) وعكسها، ونتائج عليها.
- يتعرف ويبرهن نظرية تاليس العامة التى تنص على: (إذا قطع مستقيمان عدة مستقيمات متوازية فإن أطوال القطع الناتجة على أحد القاطعين تكون متناسبة مع أطوال القطع الناتجة على القاطع الآخر.) وحالات خاصة منها.
- يتعرف ويبرهن النظرية التى تنص على: (إذا نصفت زاوية رأس مثلث أو الزاوية الخارجة للمثلث عند هذا الرأس، قسم المنصف قاعدة المثلث من الداخل أو الخارج إلى جزأين النسبة بين طوليهما تساوى النسبة بين طولى الضلعين الآخرين) وحالات خاصة منها.
- يوجد قوة نقطة بالنسبة لدائرة (القواطع والمماسات).
- يستنتج قياسات الزوايا الناتجة من تقاطع الأوتار والمماسات فى دائرة.
- يحل تطبيقات تشمل إيجاد طول المنصف الداخلى والخارجى.

## المصطلحات الأساسية

- نسبة Ratio
- تناسب Proportion
- يوازي Parallel
- نقطة تنصيف Midpoint
- متوسط Median
- قاطع Transversal
- منصف Bisector
- منصف داخلى Interior Bisector
- منصف خارجى Exterior Bisector
- عمودى على Perpendicular

## دروس الوحدة

الدرس (٣ – ١): المستقيمات المتوازية والأجزاء المتناسبة.

الدرس (٣ – ٢): منصفا الزاوية والأجزاء المتناسبة.

الدرس (٣ – ٣): تطبيقات التناسب فى الدائرة.

## الأدوات والوسائل المستخدمة

أدوات هندسية للرسم والقياس – حاسب آلى – برامج رسومية جهاز عرض بيانات ورق مربعات – خيوط – مقص

## الخلفية العلمية

الرياضيات نشاط فكرى ممتع يجعل الذهن متفتحًا، والعقل صحوًا، وتُسهم فى حل كثير من المشكلات والتحديات العملية والعلمية والحياتية، من خلال تمثيلها أو نمذجتها بعلاقات بلغة الرياضيات ورموزها، ليتم حلها، ثم إعادتها إلى أصولها المادية.

فطن قدماء المصريين لذلك فأقاموا المعابد والأهرامات وفق خطوط مستقيمة بعضها متوازى والآخر قاطع لها، كما حرثوا الأراضى الزراعية فى خطوط مستقيمة متوازية، وقد أخذ الإغريق الهندسة عن المصريين القدماء فوضع إقليدس (٣٠٠ ق.م) نظاما هندسيًّا متكاملًا عرف بالهندسة الإقليدية وتقوم على مسلمات خمس، أهمها: مسلمة التوازى وهى "من نقطة خارج مستقيم يمكن رسم مستقيم واحد فقط يمر بتلك النقطة ويوازى مستقيمًا معلومًا". وتُعْنى الهندسة الإقليدية بالأشكال المستوية (المثلثات – المضلعات – الدوائر) والأشكال ثلاثية الأبعاد، كما أن لها تطبيقات عملية فى مجالات متعددة منها إنشاء الطرق والكبارى وتخطيط المدن وإعداد خرائطها التى تعتمد على توازى المستقيمات و المستقيمات القاطعة لها وفق تناسب بين الطول الحقيقى والطول فى الرسم (مقياس الرسم).

## خريطة التعلم

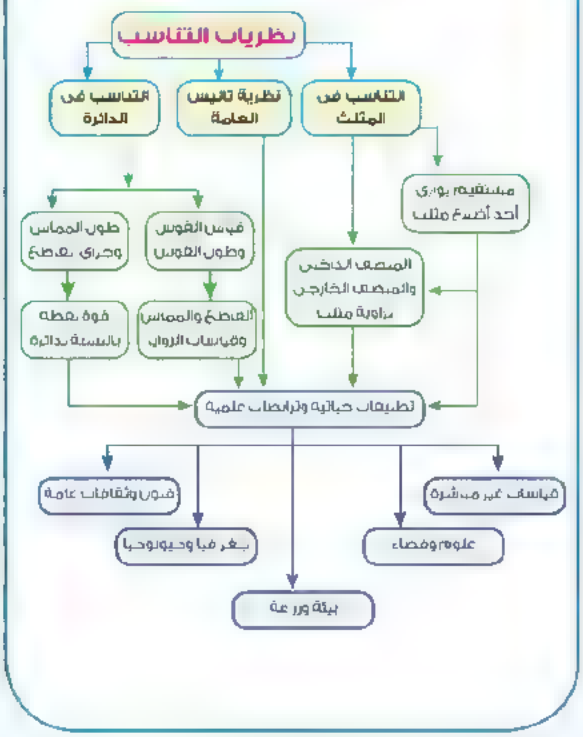

# ٣ - ١ المستقيمات المتوازية والأجزاء المتناسبة

## Parallel Lines and Proportional Parts

### سوف تتعلم

- خصائص المستقيم الموازى لأى ضلع من أضلاع مثلث.
- استخدام التناسب فى حساب أطوال وبرهنة علاقات لقطع مستقيمة ناتجة عن قواطع لمستقيمات متوازية.
- نمذجة وحل مشكلات حياتية تتضمن المستقيمات المتوازية وخواصها.

### المصطلحات الأساسية

- يوازى Parallel
- منتصف Midpoint
- متوسط Median
- قاطع Transversal

### الأدوات والوسائل

- أدوات هندسية للرسم والقياس.
- حاسب آلى.
- برامج رسومية.
- جهاز عرض بيانات.

### فكر و ناقش

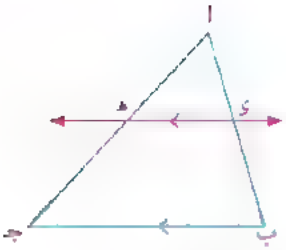


١- ارسم المثلث أ ب جـ، عين نقطة ى ∈ $\overline{أب}$ ثم ارسم $\overleftrightarrow{ى هـ}$ // $\overline{ب جـ}$ ويقطع $\overline{أجـ}$ فى هـ

٢- أوجد بالقياس طول كل من:

$\overline{أى}$ ، $\overline{ى ب}$ ، $\overline{أهـ}$ ، $\overline{هـ جـ}$

٣- احسب النسبتين $\frac{أى}{ى ب}$ ، $\frac{أهـ}{هـ جـ}$ وقارن بينهما. ماذا تلاحظ؟

إذا تغير موقع $\overleftrightarrow{ى هـ}$ محافظًا على توازيه مع $\overline{ب جـ}$.

هل تتغير العلاقة بين $\frac{أى}{ى ب}$ ، $\frac{أهـ}{هـ جـ}$؟ ماذا نستنتج؟

### نظرية ١

إذا رسم مستقيم يوازى أحد أضلاع المثلث ويقطع الضلعين الآخرين فإنه يقسمهما إلى قطع أطوالها متناسبة.

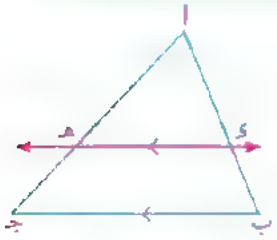


**المعطيات:** أ ب جـ مثلث، $\overleftrightarrow{ى هـ}$ // $\overline{ب جـ}$

**المطلوب:** $\frac{أى}{ى ب} = \frac{أهـ}{هـ جـ}$

**البرهان:** ∵ $\overleftrightarrow{ى هـ}$ // $\overline{ب جـ}$

∴ △أ ب جـ ~ △أ ى هـ (مسلمة التشابه)

ويكون: $\frac{أب}{أى} = \frac{أجـ}{أهـ}$ (١)

∵ ى ∈ $\overline{أب}$ ، هـ ∈ $\overline{أجـ}$

∴ أ ب = أ ى + ى ب ، أ جـ = أ هـ + هـ جـ (٢)

من (١)، (٢) ينتج أن:

$\frac{أى + ى ب}{أى} = \frac{أهـ + هـ جـ}{أهـ}$

ويكون: $\frac{أى}{أى} + \frac{ى ب}{أى} = \frac{أهـ}{أهـ} + \frac{هـ جـ}{أهـ}$

$١ + \frac{ى ب}{أى} = ١ + \frac{هـ جـ}{أهـ}$

∴ $\frac{ى ب}{أى} = \frac{هـ جـ}{أهـ}$

ومن خواص التناسب نجد أن: $\frac{أى}{ى ب} = \frac{أهـ}{هـ جـ}$ (وهو المطلوب)

لاحظ أن: ∵ $\frac{\text{أ ء}}{\text{ء ب}} = \frac{\text{أ هـ}}{\text{هـ جـ}}$ ∴ $\frac{\text{أ ء} + \text{ء ب}}{\text{ء ب}} = \frac{\text{أ هـ} + \text{هـ جـ}}{\text{هـ جـ}}$

أي أن: $\frac{\text{أ ب}}{\text{ء ب}} = \frac{\text{أ جـ}}{\text{هـ جـ}}$

**مثال**

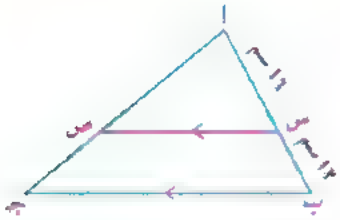


(١) في الشكل المقابل: $\overline{\text{س ص}}$ // $\overline{\text{ب جـ}}$، أ س = ١٦سم، ب س = ١٢سم.

أ إذا كان أ ص = ٢٤سم، أوجد ص جـ.

ب إذا كان جـ ص = ٢١سم، أوجد أ جـ.

**الحل**

أ ∵ $\overline{\text{س ص}}$ // $\overline{\text{ب جـ}}$ ∴ $\frac{\text{أ س}}{\text{س ب}} = \frac{\text{أ ص}}{\text{ص جـ}}$

ويكون: $\frac{١٦}{١٢} = \frac{٢٤}{\text{ص جـ}}$ ∴ ص جـ = $\frac{٢٤ \times ١٢}{١٦}$ = ١٨سم.

ب ∵ $\overline{\text{س ص}}$ // $\overline{\text{ب جـ}}$ ∴ $\frac{\text{أ ب}}{\text{ب س}} = \frac{\text{أ جـ}}{\text{جـ ص}}$

ويكون: $\frac{١٦ + ١٢}{١٢} = \frac{\text{أ جـ}}{٢١}$ ∴ أ جـ = $\frac{٢٨ \times ٢١}{١٢}$ = ٤٩سم.

**حاول أن تحل**

(١) في كل من الأشكال التالية: $\overline{\text{ء هـ}}$ // $\overline{\text{ب جـ}}$. أوجد قيمة س العددية (الأطوال مقدرة بالسنتيمترات)

أ

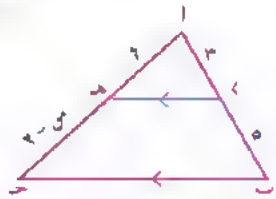


ب

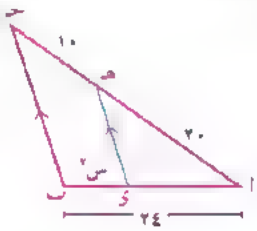


جـ

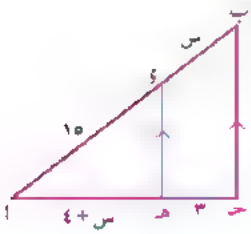


**نتيجة**

إذا رسم مستقيم خارج مثلث أ ب جـ يوازي ضلعًا من أضلاع المثلث، وليكن $\overline{\text{ب جـ}}$، ويقطع $\overline{\text{أ ب}}$، $\overline{\text{أ جـ}}$ في ء، هـ على الترتيب فإن: $\frac{\text{أ ب}}{\text{ب ء}} = \frac{\text{أ جـ}}{\text{جـ هـ}}$ (كما في الشكل).

بتطبيق خواص التناسب نستنتج أن:

$\frac{\text{أ ء}}{\text{أ ب}} = \frac{\text{أ هـ}}{\text{أ جـ}}$ ، $\frac{\text{أ ء}}{\text{ب ء}} = \frac{\text{أ هـ}}{\text{جـ هـ}}$

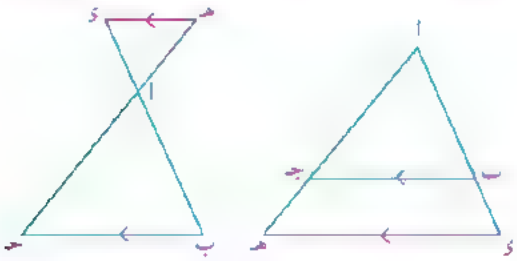

**مثال**

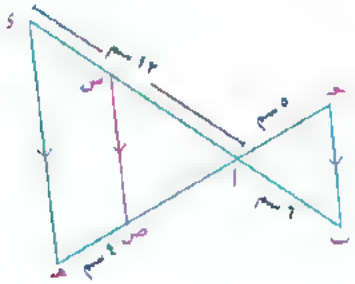


(٢) في الشكل المقابل: $\overline{\text{جـ هـ}} \cap \overline{\text{ب ى}} = \{\text{أ}\}$، س $\in \overline{\text{أ ى}}$

ص $\in \overline{\text{أ هـ}}$ حيث $\overline{\text{س ص}} \parallel \overline{\text{ب جـ}} \parallel \overline{\text{هـ ى}}$.

فإذا كان أ ب = ٦سم، أ جـ = ٥سم، أ ى = ١٢سم، هـ ص = ٤سم.

أوجد طول كل من $\overline{\text{أ هـ}}$ ، $\overline{\text{ى س}}$ .

**الحل**

∵ $\overline{\text{هـ ى}} \parallel \overline{\text{ب جـ}}$ ، $\overline{\text{جـ هـ}} \cap \overline{\text{ب ى}} = \{\text{أ}\}$

∴ $\frac{\text{أ ى}}{\text{أ ب}} = \frac{\text{أ هـ}}{\text{أ جـ}}$ ويكون: $\frac{١٢}{٦} = \frac{\text{أ هـ}}{٥}$ ∴ أ هـ = ١٠سم

في △ أ هـ ى

∵ $\overline{\text{س ص}} \parallel \overline{\text{هـ ى}}$ ∴ $\frac{\text{أ هـ}}{\text{هـ ص}} = \frac{\text{أ ى}}{\text{ى س}}$

ويكون $\frac{١٠}{٤} = \frac{١٢}{\text{ى س}}$ ∴ ى س = ٤,٨سم

**حاول أن تحل**

(٢) في الشكل المقابل: $\overline{\text{ى هـ}} \parallel \overline{\text{أ جـ}}$ ، $\overline{\text{أ هـ}} \cap \overline{\text{جـ ى}} = \{\text{ب}\}$

أ إذا كان: أ ب = ٨سم، ب جـ = ٩سم، ب هـ = ١٢سم.

أوجد طول $\overline{\text{ب ى}}$.

ب إذا كان: أ ب = ٦سم، ب هـ = ٩سم، جـ ى = ١٨سم.

أوجد طول $\overline{\text{ب جـ}}$.

**عكس نظرية ١**

إذا قطع مستقيم ضلعين من أضلاع مثلث، وقسمهما إلى قطع أطوالها متناسبة فإنه يوازي الضلع الثالث.

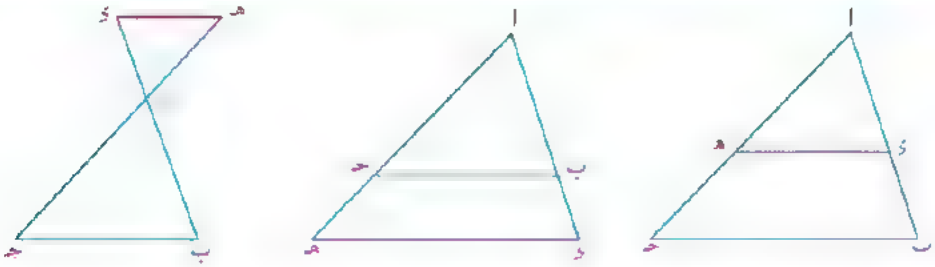


في الأشكال الثلاثة السابقة: أ ب جـ مثلث، $\overleftrightarrow{\text{ى هـ}}$ يقطع $\overleftrightarrow{\text{أ ب}}$ في ى، $\overleftrightarrow{\text{أ جـ}}$ في هـ. وكان $\frac{\text{أ ى}}{\text{ى ب}} = \frac{\text{أ هـ}}{\text{هـ جـ}}$

فإن $\overleftrightarrow{\text{ى هـ}} \parallel \overleftrightarrow{\text{ب جـ}}$

**تفكير منطقي:** هل △ أ ى هـ ~ △ أ ب جـ؟ ولماذا؟ - هل ∠ أ ى هـ ≡ ∠ ب؟ فسر إجابتك.

اكتب برهانًا لعكس النظرية.

**مثال**

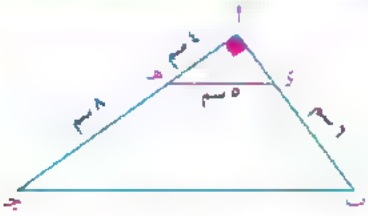


(٣) في الشكل المقابل: أ ب جـ مثلث قائم الزاوية في أ

أ أثبت أن: $\overline{ء هـ}$ // $\overline{ب جـ}$.  ب أوجد طول $\overline{ب جـ}$.

**الحل**

أ ∵ المثلث أ ء هـ قائم الزاوية في أ

∴ أ ء = $\sqrt{٢٥ - ١٦}$ = ٣سم  (نظرية فيثاغورث)

∴ $\frac{أ ء}{ء ب} = \frac{٣}{٦} = \frac{١}{٢}$ ، $\frac{أ هـ}{هـ جـ} = \frac{٤}{٨} = \frac{١}{٢}$

∴ $\frac{أ ء}{ء ب} = \frac{أ هـ}{هـ جـ}$ ويكون $\overline{ء هـ}$ // $\overline{ب جـ}$

ب ∵ △أ ء هـ ~ △أ ب جـ (لماذا)  ∴ $\frac{أ ء}{أ ب} = \frac{ء هـ}{ب جـ} = \frac{١}{٣}$

ويكون $\frac{٥}{ب جـ} = \frac{١}{٣}$  ∴ ب جـ = ١٥سم

**حاول أن تحل**

(٣) في كل من الأشكال التالية حدد ما إذا كان $\overline{ء هـ}$ // $\overline{ب جـ}$ أم لا.

أ

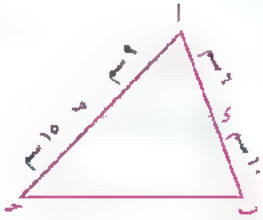


ب

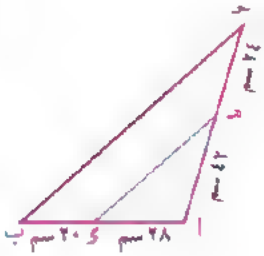


جـ

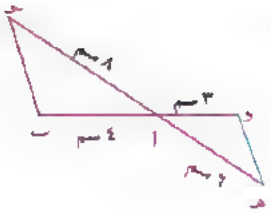


**مثال**

(٤) أ ب جـ ء شكل رباعي فيه س ∈ $\overline{أ ب}$ ، ص ∈ $\overline{أ جـ}$ حيث $\overline{س ص}$ // $\overline{ب جـ}$،

رسم $\overleftarrow{ص ع}$ // $\overline{جـ ء}$ ويقطع $\overline{أ ء}$ في ع. أثبت أن $\overline{س ع}$ // $\overline{ب ء}$ .

**الحل**

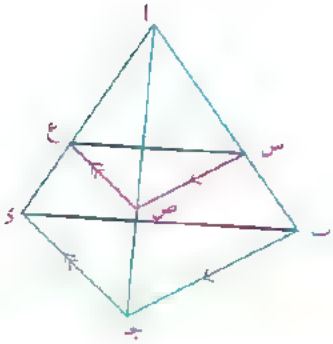


في △ أ ب جـ:

∵ $\overline{س ص}$ // $\overline{ب جـ}$  ∴ $\frac{أ س}{س ب} = \frac{أ ص}{ص جـ}$  (١)

في △ أ ء جـ:

∵ $\overline{ص ع}$ // $\overline{جـ ء}$  ∴ $\frac{أ ع}{ع ء} = \frac{أ ص}{ص جـ}$  (٢)

من (١)، (٢) نستنتج أن: $\frac{أ س}{س ب} = \frac{أ ع}{ع ء}$

في △ أ ب ء:

∴ $\frac{أ س}{س ب} = \frac{أ ع}{ع ء}$  ∴ $\overline{س ع}$ // $\overline{ب ء}$

حاول أن تحل

(٤) أ ب جـ ء شكل رباعي تقاطع قطراه في م. رسم $\overline{\text{م هـ}}$ // $\overline{\text{أ ء}}$ ويقطع $\overline{\text{أ ب}}$ في هـ، رسم $\overline{\text{م و}}$ // $\overline{\text{جـ ء}}$ ويقطع $\overline{\text{ب جـ}}$ في و. أثبت أن: $\overline{\text{هـ و}}$ // $\overline{\text{أ جـ}}$

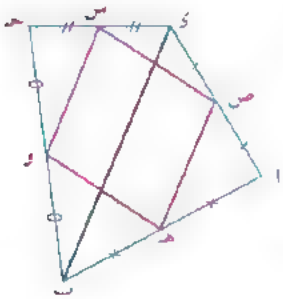


**تفكير منطقي:** إذا كان هـ، و، س، ص منتصفات الأضلاع $\overline{\text{أ ب}}$ ، $\overline{\text{ب جـ}}$ ، $\overline{\text{جـ ء}}$ ، $\overline{\text{ء أ}}$ في الشكل الرباعي أ ب جـ ء.

هل الشكل هـ و س ص متوازي أضلاع؟

**افهم:** ما المطلوب؟ متى يكون الشكل متوازي أضلاع؟

**خطط:** كون مثلثات برسم $\overline{\text{ب ء}}$ التي تقسم الشكل إلى مثلثين.

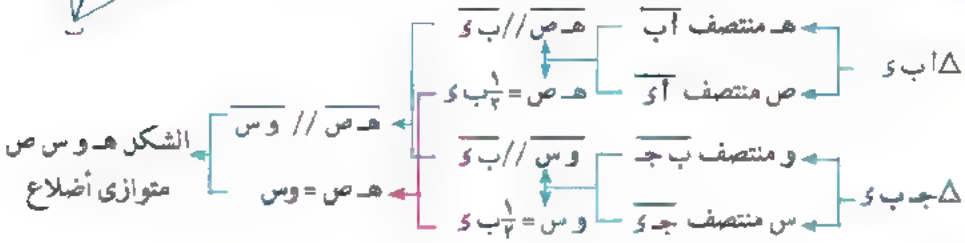


**حل:** اكتب العبارات الرياضية المناسبة للبرهان ومبرراتها.

**تحقق:** ابحث هل $\overline{\text{هـ و}}$ // $\overline{\text{س ص}}$ ؟ فسِّر إجابتك.

حاول أن تحل

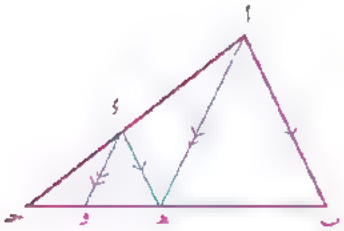


(٥) في الشكل المقابل: أ ب جـ مثلث، ء ∈ $\overline{\text{أ جـ}}$ ،

ء هـ // $\overline{\text{أ ب}}$ ، ء و // $\overline{\text{أ هـ}}$

ارسم مخططًا يوضح كيفية إثبات أن $(\text{جـ هـ})^2 = \text{جـ و} \times \text{جـ ب}$.

**مثال**

(٥) **تحديد المواقع:** لتحديد الموقع جـ، قام المساحون بالقياس وإعداد المخطط المقابل.

أوجد بُعد الموقع جـ عن الموقع أ

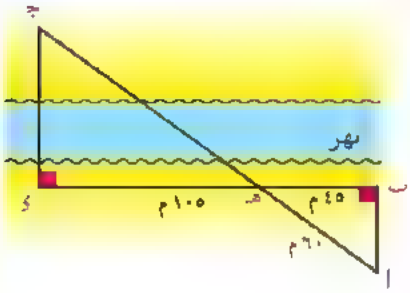


**الحل**

$\overline{\text{أ ب}} \perp \overline{\text{ب ء}}$ ، $\overline{\text{جـ ء}} \perp \overline{\text{ب ء}}$ ∴ $\overline{\text{أ ب}}$ // $\overline{\text{جـ ء}}$

∵ $\overline{\text{أ جـ}} \cap \overline{\text{ب ء}} = \{\text{هـ}\}$ ، $\overline{\text{أ ب}}$ // $\overline{\text{جـ ء}}$

∴ $\frac{\text{هـ أ}}{\text{أ جـ}} = \frac{\text{هـ ب}}{\text{ب ء}}$ ويكون $\frac{٦٠}{\text{أ جـ}} = \frac{٤٥}{١٠٥ + ٤٥}$

∴ أ جـ = $\frac{٦٠ \times ١٥٠}{٤٥}$ = ٢٠٠ متر.

حاول أن تحل

٦ **مكافحة التلوث:** قام فريق مكافحة التلوث بتحديد موقع بقعة زيت على أحد الشواطئ كما فى الشكل المقابل. احسب طول بقعة الزيت.

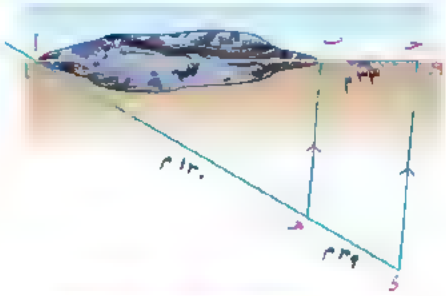


## فكر و ناقش

لعلك لاحظت إمكانية استخدام توازى مستقيم لأحد أضلاع مثلث فى تطبيقات حياتية كثيرة.

يوضح الشكل المقابل بوابة أحد المشاتل الزراعية، وهى مكونه من قطع خشبية متوازية وأخرى قاطعة لها.

هل توجد علاقة بين أطوال أجزاء قواطع هذه القطع المتوازية؟

نمذجه

لبحث وجود علاقة أم لا. نمذج المشكلة (ضع نموذجًا رياضيًا للمشكلة) كما يلى:

١- ارسم المستقيمات ل١ // ل٢ // ل٣ // ل٤، م، م/ قاطعان لها فى أ، ب، جـ، ء ، أ/، ب/، جـ/، ء/ على الترتيب كما بالشكل المقابل.

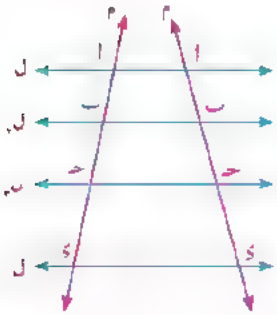


٢- قس أطوال القطع المستقيمة وقارن النسب التالية:

$\frac{\text{أب}}{\text{أ/ب/}}$ ، $\frac{\text{ب جـ}}{\text{ب/جـ/}}$ ، $\frac{\text{جـ ء}}{\text{جـ/ء/}}$ ، $\frac{\text{أ جـ}}{\text{أ/جـ/}}$ ،

ماذا نستنتج؟

## نظرية تاليس العامة Talis' Theorem

**نظرية ٢** إذا قطع مستقيمان عدة مستقيمات متوازية، فإن أطوال القطع الناتجة على أحد القاطعين تكون متناسبة مع أطوال القطع الناتجة على القاطع الآخر.

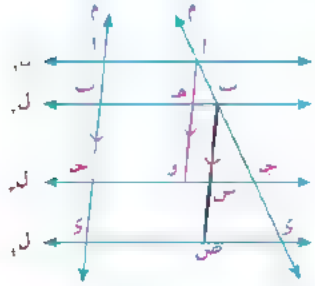


**المعطيات:** ل١ // ل٢ // ل٣ // ل٤ ، م، م/ قاطعان لها

**المطلوب:** أب : ب جـ : جـ ء = أ/ب/ : ب/جـ/ : جـ/ء/

**البرهان:** ارسم $\overleftarrow{\text{أو}}$ // م/، ويقطع ل٣ فى هـ، ل٤ فى و، $\overleftarrow{\text{ب ص}}$ // م/، ويقطع ل٣ فى س، ل٤ فى ص.

∵ $\overline{\text{أأ/}}$ // $\overline{\text{هـ ب/}}$ ، $\overline{\text{أهـ}}$ // $\overline{\text{أ/ب/}}$

∴ أ هـ ب/ أ/ متوازى أضلاع ويكون: أهـ = أ/ب/

بالمثل: هـ و = ب′ جـ′ ، ب س = ب′ جـ′ ، س ص = جـ′ ء′

فى △ا جـ و:

∵ $\overline{\text{ب هـ}}$ // $\overline{\text{جـ و}}$ ∴ $\frac{\text{ا ب}}{\text{ب جـ}} = \frac{\text{ا هـ}}{\text{هـ و}}$

ويكون: $\frac{\text{ا ب}}{\text{ب جـ}} = \frac{\text{ا′ ب′}}{\text{ب′ جـ′}}$ ، $\frac{\text{ا ب}}{\text{ا′ ب′}} = \frac{\text{ب جـ}}{\text{ب′ جـ′}}$ (إبدال الوسطين) (١)

بالمثل △ب ء ص.

∴ $\frac{\text{ب جـ}}{\text{جـ ء}} = \frac{\text{ب جـ′}}{\text{جـ ء}}$ ، $\frac{\text{ب جـ}}{\text{ب′ جـ′}} = \frac{\text{جـ ء}}{\text{جـ′ ء′}}$ (إبدال الوسطين) (٢)

من (١)، (٢) ينتج أن

$\frac{\text{ا ب}}{\text{ا′ ب′}} = \frac{\text{ب جـ}}{\text{ب′ جـ′}} = \frac{\text{جـ ء}}{\text{جـ′ ء′}}$

∴ ا ب : ب جـ : جـ ء = ا′ ب′ : ب′ جـ′ : جـ′ ء′ وهو المطلوب.

**حاول أن تحل**

(٧) اكتب ما تساويه كل من النسب التالية مستخدمًا الشكل السابق:

أ $\frac{\text{ا جـ}}{\text{جـ ء}}$ ب $\frac{\text{ا جـ}}{\text{جـ ب}}$ جـ $\frac{\text{ب ء}}{\text{ء ا}}$ د $\frac{\text{ا′ ء′}}{\text{ا′ ب′}}$ هـ $\frac{\text{ا ب}}{\text{ا′ ب′}}$

**مثال**




(٦) فى الشكل المقابل: $\overline{\text{ا ب}}$ // $\overline{\text{جـ ء}}$ // $\overline{\text{هـ و}}$ // $\overline{\text{س ص}}$ ،

ا جـ = ٢٨سم، جـ هـ = ٢٠سم، ء و = ١٥سم، و ص = ٣٣سم.

أوجد طول كل من: $\overline{\text{ب ء}}$ ، $\overline{\text{هـ س}}$

**الحل**

∵ $\overline{\text{ا ب}}$ // $\overline{\text{جـ ء}}$ // $\overline{\text{هـ و}}$ // $\overline{\text{س ص}}$

∴ $\frac{\text{ا جـ}}{\text{ب ء}} = \frac{\text{جـ هـ}}{\text{ء و}} = \frac{\text{هـ س}}{\text{و ص}}$

$\frac{٢٨}{\text{ب ء}} = \frac{٢٠}{١٥} = \frac{\text{هـ س}}{٣٣}$ ∴ ب ء = ٢١سم ، هـ س = ٤٤سم.

**حاول أن تحل**

(٨) فى كل من الأشكال التالية، المستقيمات الحمراء تقطع مستقيمات متوازية. احسب قيم س، ص العددية (الأطوال مقدرة بالسنتيمترات)

أ)

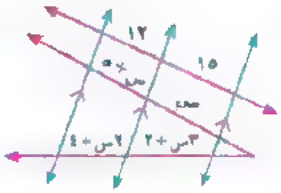


ب

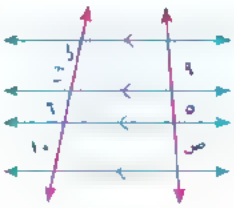


جـ

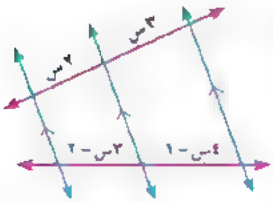

## حالات خاصة

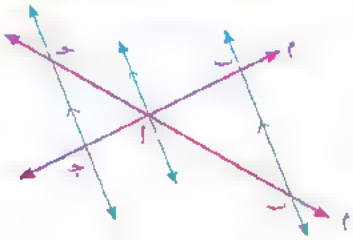

١- إذا تقاطع المستقيمان م ، م/ في النقطة أ

وكان: $\overleftrightarrow{ب ب'}$ // $\overleftrightarrow{جـ جـ'}$، فإن: $\frac{اب}{اجـ} = \frac{اب'}{اجـ'}$

وبالعكس: إذا كان: $\frac{اب}{اجـ} = \frac{اب'}{اجـ'}$

فإن: $\overleftrightarrow{ب ب'}$ // $\overleftrightarrow{جـ جـ'}$

### نظرية تاليس الخاصة

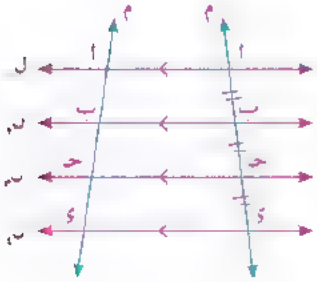

٢- إذا كانت أطوال القطع الناتجة على أحد القاطعين متساوية فإن أطوال القطع الناتجة على القاطع الآخر تكون متساوية كذلك.

في الشكل المقابل $ل_١$ // $ل_٢$ // $ل_٣$ // $ل_٤$، قطعها المستقيمان م، م/

وكان: أ ب = ب جـ = جـ ء فإن: أ/ ب/ = ب/ جـ/ = جـ/ ء/

**مثال**

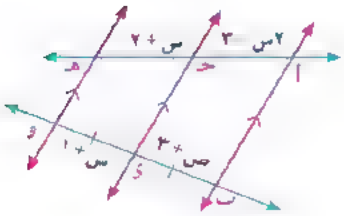

(٧) في الشكل المقابل أوجد القيمة العددية لكل من س، ص.

**الحل**

∵ $\overline{اب}$ // $\overline{جـ ء}$ // $\overline{هـ و}$ ، ب ء = ء و

∴ أ جـ = جـ هـ

ويكون: ٢س − ٣ = س + ٢ ∴ س = ٥

∵ ب ء = ء و ، س = ٥ ∴ ص + ٣ = ٥ + ١ ∴ ص = ٣

### حاول أن تحل

(٩) في كل مما يأتي أوجد قيمة س، ص العددية. (الأطوال مقدرة بالسنتيمترات)

أ

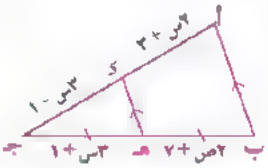

ب



جـ

### فكر

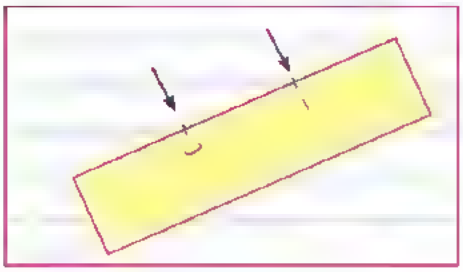

أراد يوسف تقسيم شريط من الورق إلى ٣ أجزاء متساوية في الطول، فقام بوضعها على صفحة كراسته كما بالشكل المقابل وحدد نقطتي التقسيم أ، ب.

هل تقسيم يوسف للشريط صحيحًا؟ فسر إجابتك.

استخدم أدواتك الهندسية لتتحقق من صحة إجابتك

مثال

(٨) **الربط بالصناعة:** تنقل عبوات الأسمدة من إنتاج أحد المصانع بانزلاقها عبر أنبوب مائل لتحملها السيارات إلى مراكز التوزيع كما فى الشكل المقابل.

فإذا كانت ى، هـ، و مساقط النقط أ، ب، جـ على الأفقى بنفس الترتيب، أب = ١,٢م، ى هـ = ٨٠سم، هـ و = ١٢مترًا أوجد طول الأنبوب لأقرب متر.

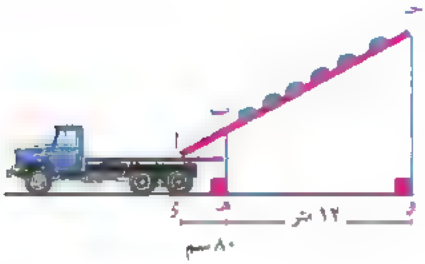


**الحل**

∵ ى، هـ، و مساقط النقط أ، ب، جـ على الأفقى ∴ $\overline{\text{أى}}$ // $\overline{\text{ب هـ}}$ // $\overline{\text{جـ و}}$

∵ $\overline{\text{أى}}$ // $\overline{\text{ب هـ}}$ // $\overline{\text{جـ و}}$ ، $\overleftrightarrow{\text{أجـ}}$ ، $\overleftrightarrow{\text{ى و}}$ قاطعان لها ∴ $\frac{\text{أجـ}}{\text{أب}} = \frac{\text{ى و}}{\text{ى هـ}}$

ويكون: $\frac{\text{أجـ}}{١,٢} = \frac{١٢ + ٠,٨}{٠,٨}$

∴ أجـ = $\frac{١٢,٨ \times ١,٢}{٠,٨}$ = ١٩,٢ مترًا ∴ أجـ ≃ ١٩ مترًا

حاول أن تحل

(١٠) أ **الربط بالإنشاءات:**

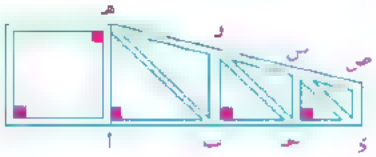


إذا كان أب = ١٨٠سم، هـ و = ٢متر

أب : ب جـ : جـ ى = ٥ : ٤ : ٣

أوجد طول كل من $\overline{\text{هـ ص}}$، $\overline{\text{جـ ى}}$

ب **تفكير ناقد**

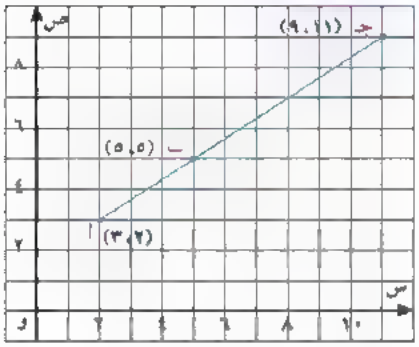


أوجد من الشكل $\frac{\text{أب}}{\text{ب جـ}}$ بعدة طرق مختلفة، كلما أمكنك ذلك. هل حصلت على نفس الناتج؟

تحقق من تقدمك

**حل مشكلات:** أ ب سلم طوله ٤,١ أمتار يستند بطرفه العلوى أ على حائط رأسى وبطرفه السفلى ب على أرض أفقية خشنة. إذا كان بعد الطرف السفلى عن الحائط ٩٠سم. فاحسب المسافة التى يصعدها رجل على السلم ليصبح على ارتفاع ٢,٤متر من الأرض.

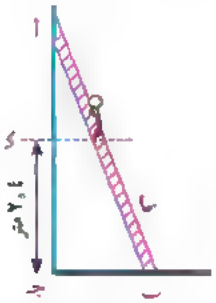

## تمـــارين ٣ – أ

① في الشكل المقابل $\overline{\text{ء هـ}}$ // $\overline{\text{ب جـ}}$ أكمل:

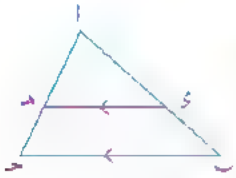


أ إذا كان $\frac{\text{أ ء}}{\text{ء ب}} = \frac{٥}{٣}$ فإن: $\frac{\text{أ ب}}{\text{ب ء}} =$ ..... ، $\frac{\text{جـ هـ}}{\text{هـ أ}} =$ .....

ب إذا كان $\frac{\text{أ هـ}}{\text{أ جـ}} = \frac{٤}{٧}$ فإن: $\frac{\text{جـ هـ}}{\text{هـ أ}} =$ ..... ، $\frac{\text{ب ء}}{\text{أ ب}} =$ .....

② في الشكل المقابل $\overline{\text{ء هـ}}$ // $\overline{\text{ب جـ}}$. حدد العبارات الصحيحة من ما يلي:

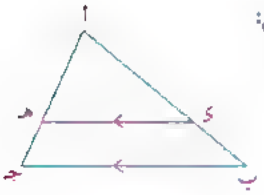


أ $\frac{\text{أ ب}}{\text{ء ب}} = \frac{\text{أ هـ}}{\text{هـ جـ}}$ ب $\frac{\text{أ ء}}{\text{أ هـ}} = \frac{\text{ب ء}}{\text{هـ جـ}}$

جـ $\frac{\text{أ ب}}{\text{ب ء}} = \frac{\text{أ جـ}}{\text{أ هـ}}$ د $\frac{\text{أ ب}}{\text{ب ء}} = \frac{\text{أ جـ}}{\text{جـ هـ}}$

هـ $\frac{\text{أ جـ}}{\text{أ ء}} = \frac{\text{أ ب}}{\text{أ هـ}}$ و $\frac{\text{جـ هـ}}{\text{ب ء}} = \frac{\text{أ جـ}}{\text{أ ب}}$

③ في كل من الأشكال التالية $\overline{\text{ء هـ}}$ // $\overline{\text{ب جـ}}$. أوجد قيمة س العددية (الأطوال بالسنتيمترات).

أ

ب

جـ

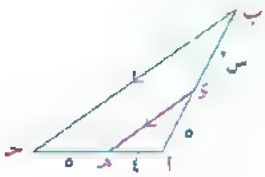


د

هـ

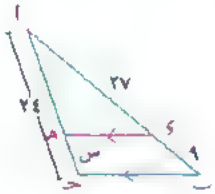


و




④ في الشكل المقابل: $\overline{\text{أ ب}}$ // $\overline{\text{ء هـ}}$ ، $\overline{\text{أ هـ}} \cap \overline{\text{ب ء}} = \{\text{جـ}\}$

أ جـ = ٦سم، ب جـ = ٤سم، جـ ء = ٣سم

أوجد طول $\overline{\text{جـ هـ}}$

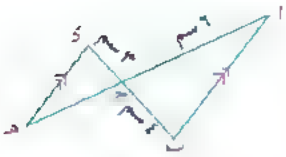

(٥) $\overline{\text{س ص}} \cap \overline{\text{ع ل}} = \{\text{م}\}$، حيث $\overline{\text{س ع}} \parallel \overline{\text{ل ص}}$، فإذا كان س م = ٩سم، ص م = ١٥سم، ع ل = ٣٦ سم.
أوجد طول $\overline{\text{ع م}}$.

(٦) لكل مما يأتي: استخدم الشكل المقابل والبيانات المعطاة لإيجاد قيمة س:

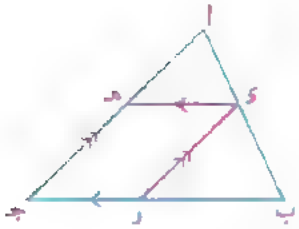


أ أ ء = ٤ ، ب ء = ٨ ، جـ هـ = ٦ ، أ هـ = س.

ب أ هـ = س ، هـ جـ = ٥ ، أ ء = س − ٢ ، ء ب = ٣.

جـ أ ب = ٢١ ، ب و = ٨ ، و جـ = ٦ ، أ ء = س.

د أ ء = س ، ب و = س + ٥ ، ٢ء ب = ٣و جـ = ١٢.

(٧) في كل من الأشكال التالية، حدد ما إذا كان $\overline{\text{س ص}} \parallel \overline{\text{ب جـ}}$

أ




ب

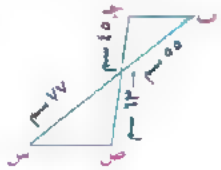


جـ

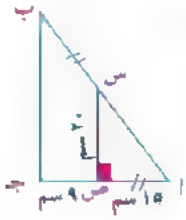


(٨) س ص ع مثلث فيه س ص = ١٤سم، س ع = ٢١سم، ل ∈ $\overline{\text{س ص}}$ بحيث س ل = ٦,٥سم،
م ∈ $\overline{\text{س ع}}$ حيث س م = ٨,٤سم. أثبت أن $\overline{\text{ل م}} \parallel \overline{\text{ص ع}}$

(٩) في المثلث أ ب جـ، ء ∈ $\overline{\text{أ ب}}$، هـ ∈ $\overline{\text{أ جـ}}$، ٥أ هـ = ٤ هـ جـ
إذا كان أ ء = ١٠ سم، ء ب = ٨سم. حدد ما إذا كان $\overline{\text{ء هـ}} \parallel \overline{\text{ب جـ}}$. فسر إجابتك.

(١٠) أ ب جـ ء شكل رباعي تقاطع قطراه في هـ فإذا كان أ هـ = ٦سم، ب هـ = ١٣سم، هـ و = ١٠سم،
هـ ء = ٧,٨سم. أثبت أن الشكل أ ب جـ ء شبه منحرف.

(١١) أثبت أن القطعة المستقيمة المرسومة بين منتصفي ضلعين في مثلث يوازي ضلعه الثالث، وطولها يساوي نصف طول هذا الضلع.

(١٢) أ ب جـ مثلث، ء ∈ $\overline{\text{أ ب}}$ حيث ٣أ ء = ٢ ء ب، هـ ∈ $\overline{\text{أ جـ}}$ حيث ٥ جـ هـ = ٣ أ جـ، رسم $\overline{\text{أ س}}$ يقطع $\overline{\text{ب جـ}}$ في س. إذا كان أ و = ٨سم، أ س = ٢٠سم، حيث و ∈ $\overline{\text{أ س}}$. أثبت أن النقط ء، و، هـ على استقامة واحدة.

(١٣) أ ب جـ مثلث، ء ∈ $\overline{\text{ب جـ}}$، بحيث $\frac{\text{ب ء}}{\text{ء جـ}} = \frac{٣}{٤}$، هـ ∈ $\overline{\text{أ ء}}$، بحيث $\frac{\text{أ هـ}}{\text{أ ء}} = \frac{٣}{٧}$، رسم $\overleftarrow{\text{جـ هـ}}$ فقطع $\overline{\text{أ ب}}$ في س،
رسم $\overleftarrow{\text{ء ص}} \parallel \overleftarrow{\text{جـ س}}$ فقطع $\overline{\text{أ ب}}$ في ص. أثبت أن أ س = ب ص.

(١٤) أ ب جـ ء مستطيل تقاطع قطراه في م. هـ منتصف $\overline{\text{أ م}}$، و منتصف $\overline{\text{م جـ}}$. رسم $\overleftarrow{\text{ء هـ}}$ يقطع $\overline{\text{أ ب}}$ في س،
ورسم $\overleftarrow{\text{ء و}}$ يقطع $\overline{\text{ب جـ}}$ في ص. أثبت أن: $\overline{\text{س ص}} \parallel \overline{\text{أ جـ}}$.

(١٥) اكتب ما تساويه كل من النسب التالية مستخدمًا الشكل المقابل:

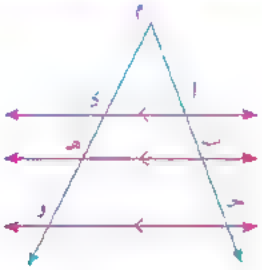


أ $\frac{\text{اب}}{\text{ب جـ}} = \frac{\text{ك هـ}}{\text{هـ و}}$

ب $\frac{\text{اجـ}}{\text{ب جـ}} = \frac{\text{هـ و}}{\text{م ب}}$

جـ $\frac{\text{م ا}}{\text{اب}} = \frac{\text{م ك}}{\text{ك هـ}}$

د $\frac{\text{اجـ}}{\text{اب}} = \frac{\text{ك هـ}}{\text{م و}}$

هـ $\frac{\text{م ب}}{\text{اب}} = \frac{\text{ك هـ}}{\text{اجـ}}$

و $\frac{\text{م جـ}}{\text{اجـ}} = \frac{\text{م و}}{\text{ك و}}$

ز $\frac{\text{ب جـ}}{\text{م ب}} = \frac{\text{هـ و}}{\text{اجـ}}$

ح $\frac{\text{ك و}}{\text{م و}} = \frac{\text{اجـ}}{\text{ب جـ}}$

(١٦) في كل من الأشكال التالية، احسب قيم س، ص العددية (الأطوال مقدرة بالسنتيمترات)

أ

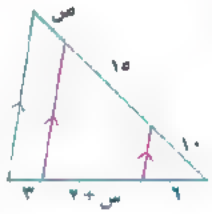


ب

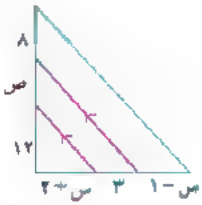


جـ

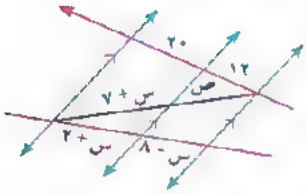


(١٧) في الشكل المقابل:

$\overline{\text{اب}} \cap \overline{\text{جـ ك}} = \{\text{م}\}$، $\text{هـ} \in \overline{\text{م ب}}$،

$\text{و} \in \overline{\text{م ك}}$، $\overline{\text{اجـ}} // \overline{\text{و هـ}} // \overline{\text{ك ب}}$

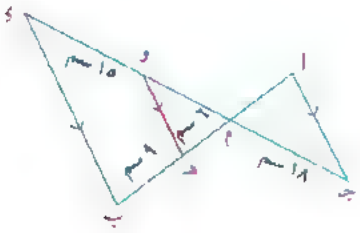


أوجد:

أ طول $\overline{\text{م و}}$

ب طول $\overline{\text{اجـ}}$

(١٨) $\overleftrightarrow{\text{اب}} \cap \overleftrightarrow{\text{جـ ك}} = \{\text{هـ}\}$، $\text{س} \in \overline{\text{اب}}$، $\text{ص} \in \overline{\text{جـ ك}}$، وكان $\overline{\text{س ص}} // \overline{\text{ب ك}} // \overline{\text{اجـ}}$

أثبت أن: ا س × هـ ك = جـ ص × هـ ب

(١٩) في كل من الأشكال التالية، احسب قيم س، ص العددية:

أ

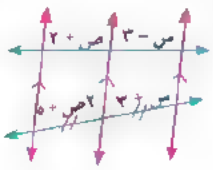


ب

جـ




(٢٠) ا ب جـ ك شكل رباعي فيه $\overline{\text{اب}} // \overline{\text{جـ ك}}$، تقاطع قطراه في م، نصف $\overline{\text{ب جـ}}$ في هـ

ورسم $\overleftarrow{\text{هـ و}} // \overline{\text{ب ا}}$، ويقطع $\overline{\text{ب ك}}$ في س، $\overline{\text{اجـ}}$ في ص، $\overline{\text{ا ك}}$ في و.

أثبت أن:

أ هـ ص = $\frac{١}{٢}$ اب.

ب $\frac{\text{ا ص}}{\text{جـ م}} = \frac{\text{ب س}}{\text{ك م}}$

# ٣ - ٢ منصفا الزاوية والأجزاء المتناسبة

## Angle Bisectors and Proportional Parts

### سوف تتعلم

- خصائص منصفات زوايا المثلث.
- استخدام التناسب في حساب أطوال القطع المستقيمة الناتجة عن تنصيف زاوية في مثلث
- نمذجة وحل مشكلات حياتية تتضمن منصفات زوايا المثلث

### المصطلحات الأساسية

- منصف Bisector
- منصف داخلي Interior Bisector
- منصف خارجي Exterior Bisector
- عمودي Perpendicular

### الأدوات والوسائل

- أدوات هندسية للرسم.
- حاسب آلي وبرامج رسومية.
- جهاز عرض بيانات

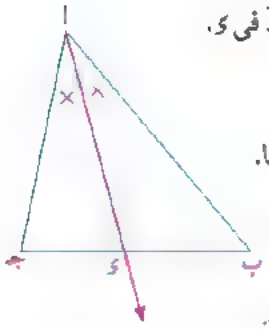


١- ارسم المثلث أ ب جـ، و إرسم $\overleftarrow{\text{أ ء}}$ ليقطع $\overline{\text{ب جـ}}$ في ء.

٢- قس كلًّا من $\overline{\text{ب ء}}$، $\overline{\text{جـ ء}}$، $\overline{\text{أ ب}}$، $\overline{\text{أ جـ}}$.

٣- احسب كل من النسبتين $\frac{\text{ب ء}}{\text{ء جـ}}$، $\frac{\text{ب أ}}{\text{أ جـ}}$ وقارن بينهما.
ماذا تستنتج؟

٤- كرر العمل السابق عدة مرات.
هل يتحقق استنتاجك؟ عبر عن استنتاجك بلغتك.

## منصف زاوية مثلث Bisector of an Angle of a Triangle

**نظرية ٣**

إذا نصفت زاوية رأس مثلث أو الزاوية الخارجة للمثلث عند هذا الرأس، وقسم المنصف قاعدة المثلث من الداخل أو الخارج إلى جزأين فإن النسبة بين طوليهما تساوي النسبة بين طولي الضلعين الآخرين

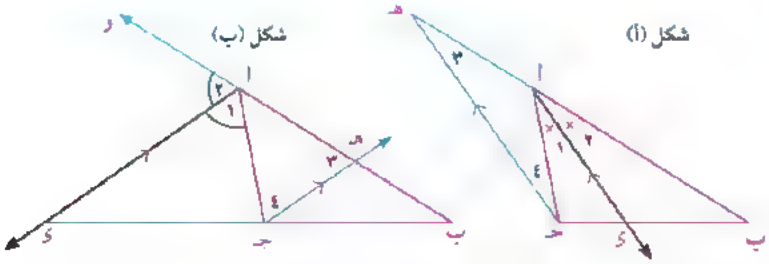


**المعطيات:** أ ب جـ مثلث، $\overleftarrow{\text{أ ء}}$ ينصف ∠ ب أ جـ
(من الداخل في شكل أ، من الخارج في شكل ب).

**المطلوب:** $\frac{\text{ب ء}}{\text{ء جـ}} = \frac{\text{أ ب}}{\text{أ جـ}}$

**البرهان:** ارسم $\overleftarrow{\text{جـ هـ}}$ // $\overleftarrow{\text{أ ء}}$ ويقطع $\overleftarrow{\text{ب أ}}$ في هـ. اتبع المخطط التالي واكتب البرهان.

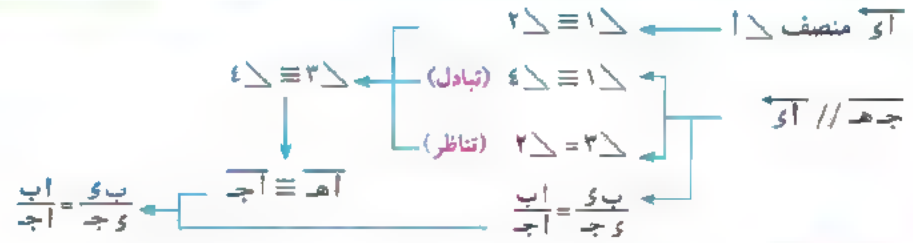


**مثال**

(١) أ ب جـ مثلث فيه أ ب = ٨سم، أ جـ = ٦سم، ب جـ = ٧سم، رسم $\overleftarrow{أو}$ ينصف ∠ب أ جـ ويقطع $\overline{ب جـ}$ في و. أوجد طول كل من $\overline{ب و}$ ، $\overline{و جـ}$

**الحل**

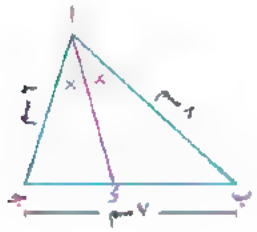


∵ $\overleftarrow{أو}$ ينصف ∠ب أ جـ ∴ $\frac{ب و}{و جـ} = \frac{أب}{أجـ}$ (نظرية)

∵ أ ب = ٨سم، أ جـ = ٦سم ∴ $\frac{ب و}{و جـ} = \frac{٨}{٦} = \frac{٤}{٣}$

∵ ب جـ = ب و + و جـ = ٧سم ∴ $\frac{ب و}{٧ - ب و} = \frac{٤}{٣}$

٣ب و = ٢٨ − ٤ ب و (ضرب تبادلي)

٧ب و = ٢٨ ∴ ب و = ٤سم ، جـ و = ٣سم

**حاول أن تحل**

(١) في كل من الأشكال التالية أوجد قيمة س العددية (الأطوال مقدرة بالسنتيمترات)

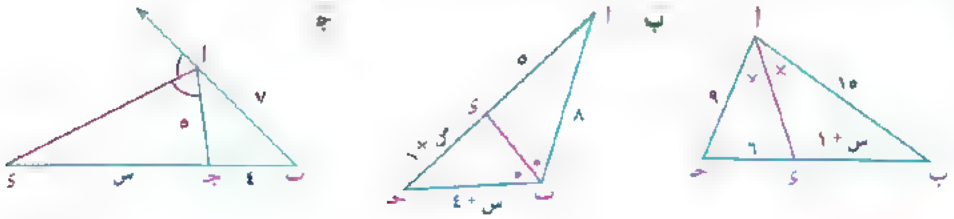


**مثال**

(٢) أ ب جـ مثلث. رسم $\overleftarrow{ب و}$ ينصف ∠ب ، ويقطع $\overline{أجـ}$ في و، حيث أو = ١٤سم، و جـ = ١٨سم. إذا كان محيط △ أ ب جـ = ٨٠سم، فأوجد طول كل من: $\overline{ب جـ}$، $\overline{أب}$ .

**الحل**

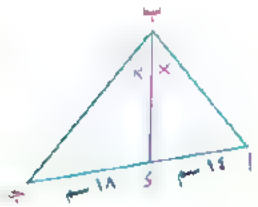


في △ أ ب جـ

∵ $\overleftarrow{ب و}$ ينصف ∠ب ∴ $\frac{أب}{ب جـ} = \frac{أو}{و جـ}$

∴ $\frac{أب}{ب جـ} = \frac{١٤}{١٨} = \frac{٧}{٩}$

∵ محيط △ أ ب جـ = ٨٠سم، أ جـ = ١٤ + ١٨ = ٣٢سم

∴ أ ب + ب جـ = ٨٠ − ٣٢ = ٤٨سم

∵ $\frac{\text{أب}}{\text{ب جـ}} = \frac{٧}{٩}$ ∴ $\frac{\text{أب + ب جـ}}{\text{ب جـ}} = \frac{٧+٩}{٩}$ (خواص التناسب)

ويكون $\frac{٤٨}{\text{ب جـ}} = \frac{١٦}{٩}$ ∴ ب جـ = ٢٧سم ، أب = ٢١سم

### حاول أن تحل

(٢) أ ب جـ مثلث قائم الزاوية في ب. رسم $\overleftarrow{\text{أ ء}}$ ينصف ∠أ، ويقطع $\overline{\text{ب جـ}}$ في ء.
إذا كان طول $\overline{\text{ب ء}}$ = ٢٤سم، ب أ : أ جـ = ٣ : ٥ فأوجد محيط △ أ ب جـ

### ملاحظة هامة

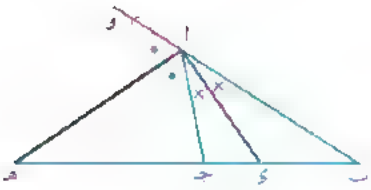


١- في المثلث أ ب جـ حيث أ ب ≠ أ جـ
إذا كان $\overleftarrow{\text{أ ء}}$ ينصف ∠ب أ جـ
$\overleftarrow{\text{أ هـ}}$ ينصف الزاوية الخارجة للمثلث عند أ.
فإن: $\frac{\text{ب ء}}{\text{ء جـ}} = \frac{\text{ب أ}}{\text{أ جـ}}$ ، $\frac{\text{ب هـ}}{\text{هـ جـ}} = \frac{\text{ب أ}}{\text{أ جـ}}$
ويكون $\frac{\text{ب ء}}{\text{ء جـ}} = \frac{\text{ب هـ}}{\text{هـ جـ}}$
أي أن $\overline{\text{ب جـ}}$ تنقسم من الداخل في ء ومن الخارج في هـ بنسبة واحدة
ويكون المنصفين $\overleftarrow{\text{أ ء}}$ ، $\overleftarrow{\text{أ هـ}}$ متعامدين. (لماذا)؟

٢- إذا كان أ ب > أ جـ قطع منصف ∠أ الضلع $\overline{\text{ب جـ}}$ في ء حيث ب ء > ء جـ، أما منصف الزاوية الخارجة عند أ فيقطع $\overleftarrow{\text{ب جـ}}$ في هـ حيث ب هـ > هـ جـ

### تفكير ناقد

- كلما كبر أ جـ ماذا يحدث للنقطة ء؟
- إذا كان أ جـ = أ ب أين تقع النقطة ء؟ وما وضع $\overleftarrow{\text{أ هـ}}$ بالنسبة إلى $\overline{\text{ب جـ}}$ عندئذٍ؟
- عندما يصبح أ جـ > أ ب ما العلاقة بين ء جـ، ء ب؟ وأين تقع هـ عندئذٍ؟ قارن إجابتك مع زملائك.

### مثال

(٣) أ ب جـ مثلث فيه أ ب = ٦سم، أ جـ = ٤سم ، ب جـ = ٥سم. رسم $\overleftarrow{\text{أ ء}}$ ينصف ∠أ ويقطع $\overline{\text{ب جـ}}$ في ء، ورسم $\overleftarrow{\text{أ هـ}}$ ينصف ∠أ الخارجة ويقطع $\overleftarrow{\text{ب جـ}}$ في هـ احسب طول $\overline{\text{ء هـ}}$.

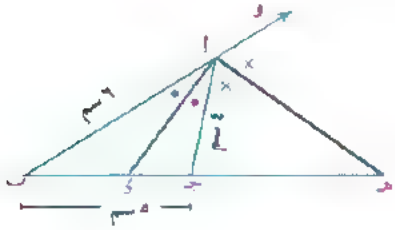


**الحل**

∵ $\overleftarrow{\text{أ ء}}$ ينصف ∠أ، $\overleftarrow{\text{أ هـ}}$ ينصف ∠أ الخارجة

∴ ء، هـ تقسمان $\overline{\text{ب جـ}}$ من الداخل ومن الخارج بنفس النسبة.

أي أن: $\frac{\text{ب ء}}{\text{ء جـ}} = \frac{\text{ب هـ}}{\text{هـ جـ}} = \frac{\text{ب أ}}{\text{أ جـ}}$

∴ $\frac{\text{ب ء}}{\text{ء جـ}} = \frac{\text{ب هـ}}{\text{هـ جـ}} = \frac{٦}{٤} = \frac{٣}{٢}$

∵ ب جـ = ب ء + ء جـ = ٥ ، ب هـ − هـ جـ = ب جـ = ٥

من خواص التناسب نجد

$\frac{ب ء + ء جـ}{ء جـ} = \frac{٣+٢}{٢}$ ، $\frac{٥}{ء جـ} = \frac{٥}{٢}$ ∴ ء جـ = ٢

$\frac{ب هـ - هـ جـ}{هـ جـ} = \frac{٣ - ٢}{٢}$ ، $\frac{٥}{هـ جـ} = \frac{١}{٢}$ ∴ هـ جـ = ١٠

ويكون ء هـ = ء جـ + جـ هـ ، ء هـ = ٢ + ١٠ = ١٢سم

حاول أن تحل

(٢) أ ب جـ مثلث فيه أ ب = ٣سم، ب جـ = ٧سم، جـ أ = ٦سم. رسم $\overleftarrow{أ ء}$ ينصف ∠ أ، ويقطع $\overline{ب جـ}$ في ء، ورسم $\overline{أ هـ}$ ينصف ∠ أ الخارجة ويقطع $\overleftrightarrow{جـ ب}$ في هـ.

أ أثبت أن $\overline{أ ب}$ متوسط في المثلث أ جـ هـ.

ب أوجد النسبة بين مساحة المثلث أ ء هـ و مساحة المثلث أ جـ هـ.

**إيجاد طول المنصف الداخلي والمنصف الخارجي لزاوية رأس مثلث.**

**تمرين مشهور**

إذا كان $\overleftarrow{أ ء}$ ينصف ∠ أ في △ أ ب جـ من الداخل ويقطع $\overline{ب جـ}$ في ء

فإن: $أ ء = \sqrt{أ ب \times أ جـ - ب ء \times ء جـ}$

**المعطيات:** أ ب جـ مثلث، $\overleftarrow{أ ء}$ ينصف ∠ب أ جـ من الداخل، $\overleftarrow{أ ء} \cap \overline{ب جـ} = \{ء\}$

**المطلوب:** $(أ ء)^٢ = أ ب \times أ جـ - ب ء \times ء جـ$

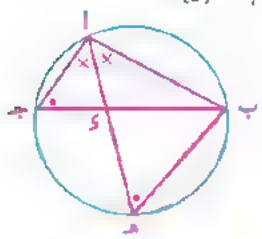


**البرهان** : ارسم دائرة تمر برؤوس المثلث أ ب جـ وتقطع $\overleftarrow{أ ء}$ في هـ، ارسم $\overline{ب هـ}$

فيكون: △أ جـ ء ~ △أ هـ ب (لماذا؟) $\frac{أ ء}{أ ب} = \frac{أ جـ}{أ هـ}$

∴ أ ء × أ هـ = أ ب × أ جـ

أ ء × (أ ء + ء هـ) = أ ب × أ جـ

$(أ ء)^٢ = أ ب \times أ جـ - أ ء \times ء هـ$

$(أ ء)^٢ = أ ب \times أ جـ - ب ء \times ء جـ$

أي أن: $أ ء = \sqrt{أ ب \times أ جـ - ب ء \times ء جـ}$

**تذكر**

أ ء × ء هـ = ب ء × ء جـ

**مثال**

(٤) أ ب جـ مثلث فيه أ ب = ٢٧سم، أ جـ = ١٥سم. رسم $\overleftarrow{أ ء}$ ينصف ∠أ ويقطع $\overline{ب جـ}$ في ء.

إذا كان ب ء = ١٨سم احسب طول $\overline{أ ء}$.

**الحل**

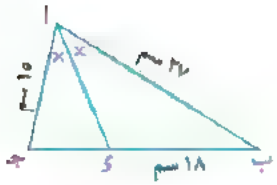


∵ $\overleftarrow{أ ء}$ ينصف ∠ب أ جـ ∴ $\frac{ب ء}{ء جـ} = \frac{أ ب}{أ جـ}$

ويكون $\frac{١٨}{ء جـ} = \frac{٢٧}{١٥}$ ∴ ء جـ = ١٠سم

∵ $أ ء = \sqrt{أ ب \times أ جـ - ب ء \times ء جـ}$

∴ $أ ء = \sqrt{٢٧ \times ١٥ - ١٨ \times ١٠} = \sqrt{٢٢٥} = ١٥$ سم

حاول أن تحل

(٤) فى كل من الأشكال التالية (الأبعاد مقدرة بالسنتيمترات) احسب قيمة س وطول $\overline{\text{أ ء}}$

أ)

ب)

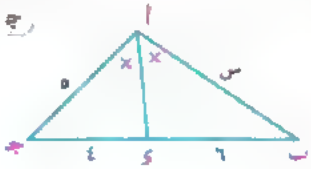


جـ)

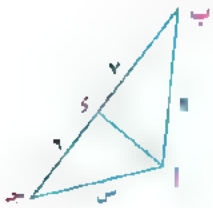


**لاحظ أن:** فى الشكل المقابل: $\overleftarrow{\text{أ هـ}}$ ينصف ∠ ب أ جـ من الخارج

ويقطع $\overleftarrow{\text{ب جـ}}$ فى هـ فإن: أ هـ = $\sqrt{\text{ب هـ × هـ جـ − أ ب × أ جـ}}$

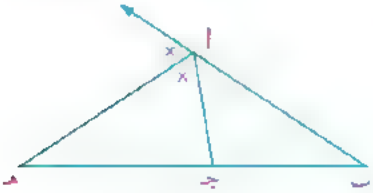


حاول أن تحل

(٥) فى كل من الأشكال التالية (الأبعاد مقدرة بالسنتيمترات) احسب قيمة س، وطول $\overline{\text{أ هـ}}$

أ

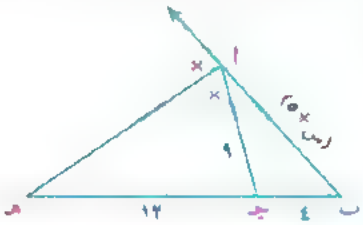


ب

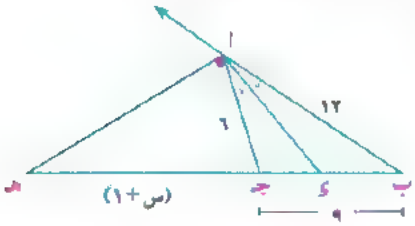


**مثال**

(٥) فى الشكل المقابل: $\overline{\text{أ ء}}$ متوسط فى △ أ ب جـ

$\overleftarrow{\text{ء س}}$ ينصف ∠ أ ء ب. ويقطع $\overline{\text{أ ب}}$ فى س.

$\overleftarrow{\text{ء ص}}$ ينصف ∠ أ ء جـ ويقطع $\overline{\text{أ جـ}}$ فى ص.

أثبت أن: $\overline{\text{س ص}}$ // $\overline{\text{ب جـ}}$.

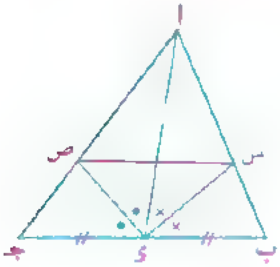


**الحل**

فى △ أ ء ب: ∵ $\overleftarrow{\text{ء س}}$ ينصف ∠ أ ء ب ∴ $\frac{\text{أ ء}}{\text{ء ب}} = \frac{\text{أ س}}{\text{س ب}}$ (١)

فى △ أ ء جـ: ∵ $\overleftarrow{\text{ء ص}}$ ينصف ∠ أ ء جـ ∴ $\frac{\text{أ ء}}{\text{ء جـ}} = \frac{\text{أ ص}}{\text{ص جـ}}$ (٢)

فى △ أ ب جـ: ∵ $\overline{\text{أ ء}}$ متوسط ∴ ء ب = ء جـ (٣)

من (١)، (٢)، (٣) $\frac{\text{أ س}}{\text{س ب}} = \frac{\text{أ ص}}{\text{ص جـ}}$ ويكون $\overline{\text{س ص}}$ // $\overline{\text{ب جـ}}$.

**حاول أن تحل**

(٦) في كل من الأشكال التالية أثبت أن: $\overline{هـ و}$ // $\overline{ب جـ}$

أ

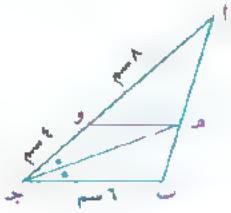


ب

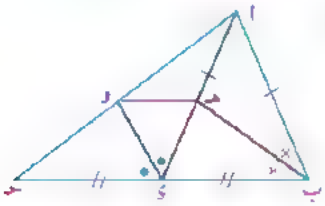


**تفكير منطقي**

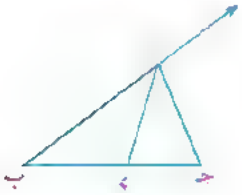


في الشكل المقابل: ء ∈ $\overline{ب جـ}$.

كيف يمكن رسم $\overleftrightarrow{جـ هـ}$ يقطع $\overline{ب أ}$ في هـ لحساب النسبة $\frac{ب ء}{ء جـ}$،

إذا كان $\frac{ب ء}{ء جـ} = \frac{ب أ}{أ جـ}$ ماذا نستنتج؟

**حالات خاصة**

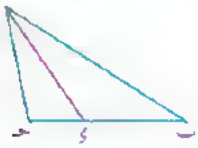


١- في △ أ ب جـ:

إذا كان ء ∈ $\overline{ب جـ}$، حيث $\frac{ب ء}{ء جـ} = \frac{ب أ}{أ جـ}$

فإن: $\overleftarrow{أ ء}$ ينصف ∠ ب أ جـ

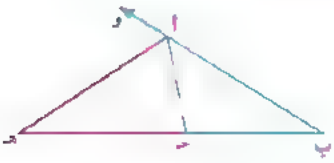


وإذا كان هـ ∈ $\overleftarrow{ب جـ}$، هـ ∉ $\overline{ب جـ}$، حيث $\frac{ب هـ}{هـ جـ} = \frac{ب أ}{أ جـ}$

فإن: $\overleftarrow{أ هـ}$ ينصف ∠ أ الخارجة عن المثلث أ ب جـ

ويعرف هذا بعكس النظرية السابقة.

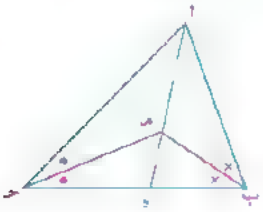


٢- في الشكل المقابل:

$\overleftarrow{ب هـ}$، $\overleftarrow{جـ هـ}$ منصفا زاويتا ب، جـ

يتقاطعا في نقطة هـ ∈ $\overleftarrow{أ ء}$. ماذا تستنتج؟

**حقيقة:** منصفات زوايا المثلث تتقاطع في نقطة واحدة.

**مثال**

(٦) أ ب جـ مثلث فيه أ ب = ١٨سم، ب جـ = ١٥سم، أ جـ = ١٢سم، ء ∈ $\overline{ب جـ}$، حيث ب ء = ٩سم

رسم $\overleftarrow{أ هـ}$ ⊥ $\overline{أ ء}$ فقطع $\overleftarrow{ب جـ}$ في هـ. أثبت أن $\overleftarrow{أ ء}$ ينصف ∠ ب أ جـ ثم أوجد طول $\overline{جـ هـ}$.

**الحل**

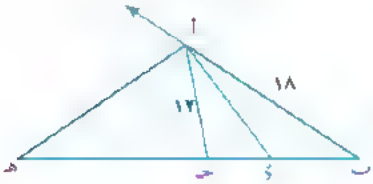


في △ أ ب جـ $\frac{أ ب}{أ جـ} = \frac{١٨}{١٢} = \frac{٣}{٢}$

جـ ء = ب جـ − ب ء = ١٥ − ٩ = ٦سم

∴ $\frac{ب ء}{ء جـ} = \frac{٩}{٦} = \frac{٣}{٢}$

∴ $\frac{ب ء}{ء جـ} = \frac{ب أ}{أ جـ}$ $\overleftarrow{أ ء}$ ينصف ∠ ب أ جـ

∵ $\overleftarrow{\text{اهـ}} \perp \overline{\text{اى}}$ ويقطع $\overleftarrow{\text{ب جـ}}$ فى هـ

∴ $\overleftarrow{\text{اهـ}}$ ينصف ∠ا الخارجة عن △ ا ب جـ ويكون $\frac{\text{ب هـ}}{\text{هـ جـ}} = \frac{\text{ا ب}}{\text{ا جـ}}$

∵ ب هـ = ب جـ + جـ هـ ∴ $\frac{١٥ + \text{جـ هـ}}{\text{جـ هـ}} = \frac{١٨}{١٢}$ جـ هـ = ٣٠سم

**حاول أن تحل**

(٧) ا ب جـ ى شكل رباعى فيه ا ب = ١٨سم، ب جـ = ١٢سم. هـ ∈ $\overline{\text{اى}}$ بحيث ٢ ا هـ = ٣ هـ ى

رسم $\overleftarrow{\text{هـ و}}$ // $\overline{\text{ى جـ}}$ فقطع $\overline{\text{ا جـ}}$ فى و. أثبت أن $\overrightarrow{\text{ب و}}$ ينصف ∠ ا ب جـ

**مثال**

(٧) $\overline{\text{ا ب}}$ قطر فى دائرة، $\overline{\text{ا جـ}}$ وتر فيها. رسم $\overleftarrow{\text{جـ ى}}$ مماس للدائرة عند جـ فقطع $\overleftarrow{\text{ا ب}}$ فى ى.

إذا كانت هـ ∈ $\overline{\text{ا ب}}$ بحيث $\frac{\text{ى ب}}{\text{ب هـ}} = \frac{\text{ى جـ}}{\text{جـ هـ}}$ أثبت أن:

أ $\overleftarrow{\text{ا جـ}}$ ينصف الزاوية الخارجة للمثلث جـ ى هـ عند جـ. ب $\frac{\text{ى ا}}{\text{ى ب}} = \frac{\text{ا هـ}}{\text{ب هـ}}$

**الحل**

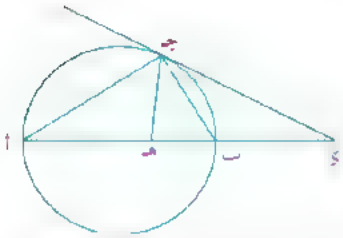


∵ $\frac{\text{ى ب}}{\text{ب هـ}} = \frac{\text{ى جـ}}{\text{جـ هـ}}$ (١)

∴ $\overleftarrow{\text{جـ ب}}$ ينصف ∠ جـ فى △ ى جـ هـ.

∵ $\overline{\text{ا ب}}$ قطر فى الدائرة

∴ ق (∠ ا جـ ب) = ٩٠° ويكون $\overleftarrow{\text{جـ ا}} \perp \overleftarrow{\text{جـ ب}}$

∵ $\overleftarrow{\text{جـ ب}}$ ينصف ∠ جـ فى △ ا ب جـ

∴ $\overleftarrow{\text{جـ ا}}$ منصف للزاوية الخارجة عند جـ (منصفا الزاوية متعامدان) (وهو المطلوب أولًا)

ويكون $\frac{\text{ى ا}}{\text{ا هـ}} = \frac{\text{ى جـ}}{\text{جـ هـ}}$ (٢)

من (١)، (٢) ينتج أن: $\frac{\text{ى ا}}{\text{ا هـ}} = \frac{\text{ى ب}}{\text{ب هـ}}$ ∴ $\frac{\text{ى ا}}{\text{ا هـ}} = \frac{\text{ا هـ}}{\text{ب هـ}}$ (وهو المطلوب ثانيًا)

**حاول أن تحل**

(٨) دائرتان م، ن متماستان من الخارج فى ا. رسم مستقيم يوازى $\overline{\text{م ن}}$ فقطع الدائرة م فى ب، جـ، والدائرة ن فى ى، هـ على الترتيب. فإذا تقاطع $\overrightarrow{\text{ب م}}$، $\overrightarrow{\text{هـ ن}}$ فى النقطة و. أثبت أن $\overrightarrow{\text{ا و}}$ ينصف ∠ م و ن.

## تحقق من فهمك

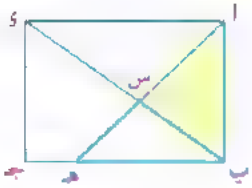


**حل مشكلات:** يبين الشكل المقابل تقسيمًا لقطعة أرض مستطيلة الشكل إلى أربعة أقسام مختلفة بالمستقيمين $\overleftrightarrow{\text{ب ى}}$، $\overleftrightarrow{\text{اهـ}}$، حيث هـ ∈ $\overline{\text{ب جـ}}$، $\overleftrightarrow{\text{ب ى}} \cap \overleftrightarrow{\text{اهـ}}$ = {س}.

فإذا كان ا ب = ب هـ = ٤٢مترًا، ا ى = ٥٦ مترًا.

احسب مساحة القطعة ا ب س بالأمتار المربعة و طول $\overline{\text{اس}}$

## تمـــارين ٣ - ٢

① في الشكل المقابل: $\overleftarrow{\text{أ د}}$ ينصف ∠ أ. أكمل:

أ) $\frac{\text{ب د}}{\text{د جـ}}$ = .....

ب) $\frac{\text{أ جـ}}{\text{أ ب}}$ = .....

جـ) $\frac{\text{ب د}}{\text{ب أ}}$ = .....

د) أ ب × جـ د = .....

② في كل من الأشكال التالية، أوجد قيمة س (الأطوال مقدرة بالسنتيمترات)

أ

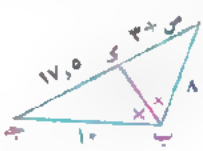


ب

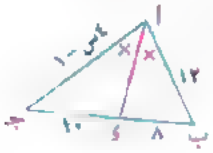


جـ




د




③ أ ب جـ مثلث محيطه ٢٧سم، رسم $\overleftarrow{\text{ب د}}$ ينصف ∠ ب ويقطع $\overline{\text{أ جـ}}$ في د.
إذا كان أ د = ٤سم، جـ د = ٥سم، أوجد طول كل من $\overline{\text{أ ب}}$ ، $\overline{\text{ب جـ}}$ ، $\overline{\text{أ د}}$

④ في كل من الأشكال التالية أوجد قيمة س، ثم أوجد محيط △ أ ب جـ.

أ)

ب)

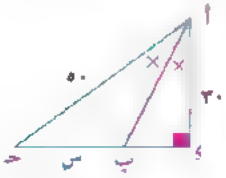


جـ)

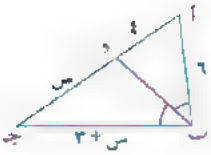


⑤ أ ب جـ مثلث فيه أ ب = ٨سم، أ جـ = ٤سم، ب جـ = ٦سم، رسم $\overleftarrow{\text{أ د}}$ ينصف ∠ أ ويقطع $\overline{\text{ب جـ}}$ في د،
ورسم $\overleftarrow{\text{أ هـ}}$ ينصف ∠ أ الخارجة ويقطع $\overleftarrow{\text{ب جـ}}$ في هـ أوجد طول كل من $\overline{\text{د هـ}}$ ، $\overline{\text{أ د}}$ ، $\overline{\text{أ هـ}}$.

⑥ فى كل من الأشكال التالية: أثبت أن $\overline{\text{س ص}}$ // $\overline{\text{ب جـ}}$

أ

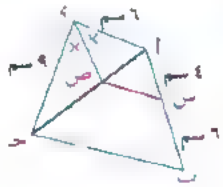


ب

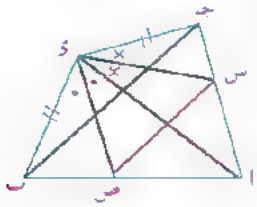

⑦ فى كل من الأشكال التالية، أثبت أن $\overleftarrow{\text{ب هـ}}$ ينصف ∠ أ ب جـ

أ

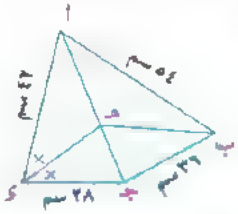


ب

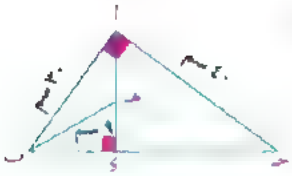


⑧ فى الشكل المقابل: $\overline{\text{هـ ى}}$ // $\overline{\text{س ص}}$ // $\overline{\text{ب جـ}}$،
ا ى × ب س = ا جـ × هـ س.
أثبت أن $\overleftarrow{\text{ا ص}}$ ينصف ∠ جـ ا ى.

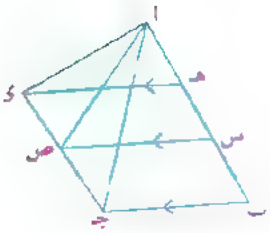

⑨ ا ب جـ مثلث ى ∈ $\overline{\text{ب جـ}}$ ، ى ∉ $\overline{\text{ب جـ}}$ حيث جـ ى = ا ب. رسم $\overline{\text{جـ هـ}}$ // $\overline{\text{ى ا}}$ ويقطع $\overline{\text{ا ب}}$ فى هـ، ورسم $\overleftarrow{\text{هـ و}}$ // $\overleftarrow{\text{ب جـ}}$ ويقطع $\overline{\text{ا جـ}}$ فى و أثبت أن $\overrightarrow{\text{ب و}}$ ينصف ∠ ا ب جـ

⑩ فى الشكل المقابل: ا ب جـ مثلث فيه ا ب = ٦سم، ا جـ = ٩سم،
ب جـ = ١٠سم. ى ∈ $\overline{\text{ب جـ}}$ بحيث ب ى = ٤سم .
رسم $\overleftarrow{\text{ب هـ}}$ ⊥ $\overline{\text{ا ى}}$ ويقطع $\overline{\text{ا ى}}$ ، $\overline{\text{ا ب}}$ فى هـ، و على الترتيب.

أ أثبت أن $\overleftarrow{\text{ا ى}}$ ينصف ∠ ا.

ب أوجد هـ (△ا ب و) : هـ (△جـ ب و)

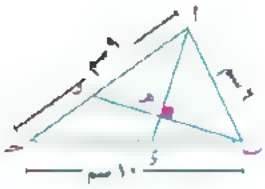

# ٣ - ٣

# تطبيقات التناسب فى الدائرة

## Applications of Proportionality in the Circle

### سوف تتعلم

- إيجاد قوة نقطة بالنسبة لدائرة.
- تحديد موقع نقطة بالنسبة لدائرة.
- إيجاد قياسات الزوايا الناتجة من تقاطع الأوتار والمماسات فى الدائرة.
- نمذجة وحل تطبيقات تشمل إيجاد طول المنصف الداخلى والخارجى لزاوية

### المصطلحات الأساسية

- قوة نقطة Power of a point
- دائرة Circle
- وتر Chord
- مماس Tangent
- قاطع Secant
- قطر Diameter
- دوائر متحدة المركز Concentric Circles
- مماس خارجى مشترك Common External Tangent
- مماس داخلى مشترك Common Internal Tangent

### الأدوات والوسائل

- أدوات هندسية للرسم والقياس

**فكر و ناقش**

كيف يمكن إنشاء قطعة مستقيمة يكون طولها ل وسطًا متناسبًا بين طولين س، ص لقطعتين معلومتين؟

فى كل من الشكلين التاليين أ ب = س ، أ جـ = ص ، أ ء = ل

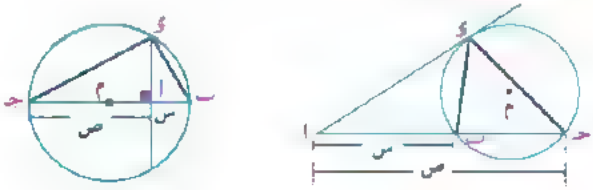


∵ △ أ ء ب ~ △ أ جـ ء (لماذا؟) ∴ $\frac{\text{أ ب}}{\text{أ ء}} = \frac{\text{أ ء}}{\text{أ جـ}}$

ويكون $\frac{\text{س}}{\text{ل}} = \frac{\text{ل}}{\text{ص}}$ ، ل$^{٢}$ = س × ص أى أن ل وسط متناسب بين س، ص

أنشئ قطعًا مستقيمة أطوالها $\sqrt{٣}$ ، $\sqrt{١٥}$ ، $\sqrt{٢٤}$

قارن رسمك مع زملائك وتحقق من صحة إجابتك مستخدمًا الآلة الحاسبة والقياس.

## أولاً: قوة نقطة بالنسبة لدائرة Power of a point

**تعريف** قوة النقطة أ بالنسبة للدائرة م التى طول نصف قطرها ق هو العدد الحقيقى ق$_{م}$(أ) حيث: ق$_{م}$(أ) = (أ م)$^{٢}$ − ق$^{٢}$

### ملاحظات هامة

**ملاحظة ١**

يمكن التنبؤ بموقع نقطة أ بالنسبة للدائرة م

فإذا كان: ق$_{م}$(أ) > ٠ فإن أ تقع خارج الدائرة.

ق$_{م}$(أ) = ٠ فإن أ تقع على الدائرة.

ق$_{م}$(أ) < ٠ فإن أ تقع داخل الدائرة.

## مثال

(١) حدِّد موقع كلٍّ من النقط أ، ب، جـ بالنسبة للدائرة م التى طول نصف قطرها ٥سم إذا كان:

ق$_م$ (أ) = ١١ ، ق$_م$ (ب) = صفر ، ق$_م$ (جـ) = ١٦، ثم احسب بعد كل نقطة عن مركز الدائرة.

**الحل**

∵ ق$_م$ (أ) = ١١ > ٠ ∴ أ تقع خارج الدائرة

∵ ق$_م$ (أ) = (أم)$^2$ − ن$^2$ ∴ ١١ = (أم)$^2$ − ٢٥ ∴ أم = ٦سم

∵ ق$_م$ (ب) = صفر ∴ ب تقع على الدائرة ∴ ب م = ٥سم

∵ ق$_م$ (جـ) = −١٦ ∴ جـ تقع داخل الدائرة

∵ ق$_م$ (جـ) = (جـم)$^2$ − ن$^2$ ∴ −١٦ = (جـم)$^2$ − ٢٥ ∴ جـم = ٣سم

**حاول أن تحل**

(١) حدِّد موقع كلٍّ من النقط أ، ب، جـ بالنسبة للدائرة ن التى طول نصف قطرها ٣سم، ثم احسب بعد كل نقطة عن مركز الدائرة فى كل من الحالات الآتية:

أ ق$_ن$ (أ) = ١٥ ب ق$_ن$ (ب) = صفر جـ ق$_ن$ (جـ) = −٤

### ملاحظة ٢

إذا وقعت النقطة أ خارج الدائرة م فإن: ق$_م$ (أ) = (أم)$^2$ − ن$^2$

= (أم − ن) (أم + ن)

= أب × أجـ = (أى)$^2$

∴ طول المماس المرسوم من النقطة أ للدائرة م = $\sqrt{\text{ق}_م(\text{أ})}$

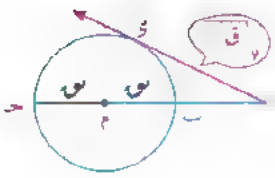


### ملاحظة ٣

إذا وقعت النقطة أ داخل الدائرة م فإن: ق$_م$ (أ) = (أم)$^2$ − ن$^2$

= (أم − ن)(أم + ن)

= − (ن − أم)(أم + ن)

= − أب × أجـ

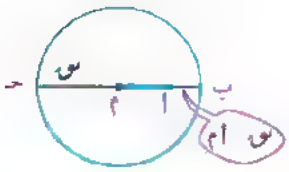


**وبصفة عامة**

أ خارج الدائرة م

ق$_م$ (أ) = أب × أجـ = أب′ × أجـ′ = (أى)$^2$

أ داخل الدائرة م

ق$_م$ (أ) = − أب × أجـ = − أب′ × أجـ′

## مثال

(٢) الدائرة م طول نصف قطرها ٣١سم. النقطة أ تبعد عن مركزها ٢٣سم، رسم الوتر $\overline{ب جـ}$ حيث أ ∈ $\overline{ب جـ}$، أ ب = ٣ أ جـ احسب:

أ طول الوتر $\overline{ب جـ}$ ب بعد الوتر $\overline{ب جـ}$ عن مركز الدائرة.

**الحل**

في الدائرة م:

أ ∵ نق = ٣١سم، أ م = ٢٣سم، أ ∈ $\overline{ب جـ}$ ∴ أ تقع داخل الدائرة ويكون

ق$_م$(أ) = (أ م)$^2$ − نق$^2$ = −أ ب × أ جـ

(٢٣)$^2$ − (٣١)$^2$ = −٣أ جـ × أ جـ ∴ أ جـ = ١٢سم

∴ طول الوتر $\overline{ب جـ}$ = ٤ أ جـ = ١٢ × ٤ = ٤٨سم

ب بفرض أن بعد الوتر عن مركز الدائرة = م ء حيث $\overline{م ء}$ ⊥ $\overline{ب جـ}$

∵ $\overline{م ء}$ ⊥ $\overline{ب جـ}$ ∴ ء منتصف $\overline{ب جـ}$ ويكون ب ء = ٢٤سم

∴ (م ء)$^2$ = (٣١)$^2$ − (٢٤)$^2$ = ٣٨٥ ∴ م ء = $\sqrt{٣٨٥}$ ≃ ١٩,٦سم

**حاول أن تحل**

(٢) الدائرة ن طول نصف قطرها ٨سم. النقطة ب تبعد ١٢سم عن مركز الدائرة، رسم مستقيم يمر بالنقطة ب ويقطع الدائرة في نقطتين جـ، ء، حيث جـ ب = جـ ء، احسب طول الوتر $\overline{جـ ء}$ وبعده عن النقطة ن.

## مثال

(٣) دائرتان م، ن متقاطعتان في أ، ب. جـ ∈ $\overline{ب أ}$، جـ ∉ $\overline{ب أ}$، رسم $\overline{جـ ء}$ فقطع الدائرة م في ء، هـ حيث جـ ء = ٩سم، ء هـ = ٧سم، ورسم $\overleftarrow{جـ و}$ يمس الدائرة ن عند و.

أ أثبت أن ق$_م$(جـ) = ق$_ن$(جـ). ب إذا كان أ ب = ١٠سم. أوجد طول كل من $\overline{أ جـ}$، $\overline{جـ و}$.

**الحل**

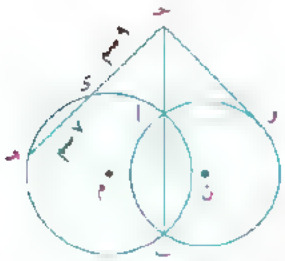


أ ∵ جـ تقع خارج الدائرة م، $\overleftarrow{جـ هـ}$، $\overleftarrow{جـ ب}$ قاطعان للدائرة م.

∴ ق$_م$(جـ) = جـ ء × جـ هـ = جـ أ × جـ ب (١)

∵ جـ تقع خارج الدائرة ن، $\overleftarrow{جـ ب}$ قاطع، $\overline{جـ و}$ مماس لها.

∴ ق$_ن$(جـ) = جـ أ × جـ ب = (جـ و)$^2$ (٢)

من (١)، (٢) ∴ ق$_م$(جـ) = ق$_ن$(جـ) = ٩ × ١٦ = ١٤٤

ب ∵ أ ب = ١٠سم ∴ ق$_ن$(جـ) = جـ أ (جـ أ + ١٠) = (جـ و)$^2$ = ١٤٤

∵ (جـ أ)$^2$ + ١٠ جـ أ = ١٤٤ ∴ جـ أ = ٨سم

∵ (جـ و)$^2$ = ١٤٤ ∴ جـ و = ١٢سم

**ملاحظة هامة**

تسمى مجموعة النقاط التى لها نفس القوة بالنسبة لدائرتين مختلفتين بالمحور الأساسى للدائرتين.

فإذا كان $ق_م$ (أ) = $ق_ن$ (أ) فإن أ تقع على المحور الأساسى للدائرتين م، ن.

فى المثال السابق لاحظ أن: $ق_م$ (جـ) = $ق_ن$ (جـ) ، $ق_م$ (أ) = $ق_ن$ (أ) = صفرًا ، $ق_م$ (ب) = $ق_ن$ (ب) = صفرًا

∴ $\overleftrightarrow{أب}$ محور أساسى للدائرتين م، ن.

**حاول أن تحل**

(٣) الدائرتان م، ن متماستان من الخارج فى أ، $\overleftrightarrow{أب}$ مماس مشترك للدائرتين م، ن، $\overleftrightarrow{ب جـ}$ يقطع الدائرة م فى جـ، ء، $\overleftrightarrow{ب هـ}$ يقطع الدائرة ن فى هـ، و على الترتيب.

أ أثبت أن: $\overleftrightarrow{أب}$ محور أساسى للدائرتين م، ن

ب إذا كان $ق_م$ (ب) = ٣٦ ، ب جـ = ٤سم ، هـ و = ٩سم. أوجد طول كل من $\overline{جـ ء}$ ، $\overline{أب}$ ، $\overline{ب هـ}$.

## ثانيًا: القاطع والمماس وقياسات الزوايا

سبق ودرست:

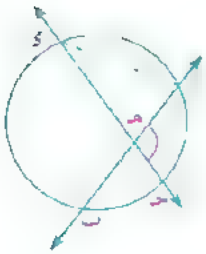


١- إذا تقاطع قاطعان داخل دائرة فإن قياس زاوية تقاطعهما يساوى نصف مجموع قياسى القوس المقابل لهذه الزاوية والقوس المقابل للزاوية التى تقابلها بالرأس.

فى الشكل المقابل: $\overleftrightarrow{أب}$ ∩ $\overleftrightarrow{جـ ء}$ = {هـ}

فإن: ق (∠ أ هـ جـ) = $\frac{١}{٢}$ [ق ($\overset{\frown}{أجـ}$) + ق ($\overset{\frown}{ء ب}$)]

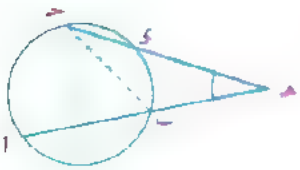


٢- إذا تقاطع قاطعان خارج دائرة فإن قياس زاوية تقاطعهما يساوى نصف الفرق الموجب بين قياسي القوسين المقابلين لها.

فى الشكل المقابل: $\overleftrightarrow{أب}$ ∩ $\overleftrightarrow{جـ ء}$ = {هـ}

فإن: ق (∠ أ هـ جـ) = $\frac{١}{٢}$ [ق ($\overset{\frown}{أجـ}$) − ق ($\overset{\frown}{ء ب}$)]

**حاول أن تحل**

(٤) فى كل من الأشكال الآتية: أوجد قيمة الرمز المستخدم فى القياس.

أ

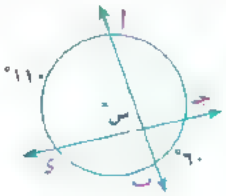


ب

جـ

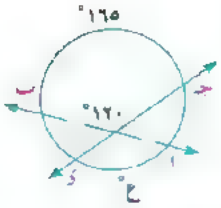


د

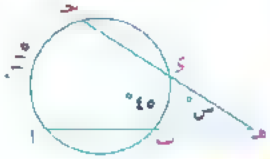


هـ

و

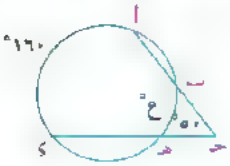

**استنتاج قياس الزاوية الناتجة من تقاطع قاطع ومماس (أو مماسين) لدائرة.**

**نمرين مشهور**

**القاطع والمماس (أو المماسان) لدائرة المتقاطعان خارج الدائرة، يكون قياس زاوية تقاطعهما مساويًا نصف الفرق الموجب بين قياسي القوسين المقابلين لها.**

البرهان

**الحالة الأولى:** تقاطع القاطع والمماس لدائرة.




∵ ∠ ء جـ ب خارجة عن △ أ ب جـ

∴ ق(∠ أ) = ق(∠ ب جـ ء) - ق(∠ جـ ب أ)

= $\frac{1}{2}$ ق($\widehat{ب ء}$) - $\frac{1}{2}$ ق($\widehat{ب جـ}$)

= $\frac{1}{2}$ [ق($\widehat{ب ء}$) - ق($\widehat{ب جـ}$)]

**الحالة الثانية:** تقاطع مماسين لدائرة.

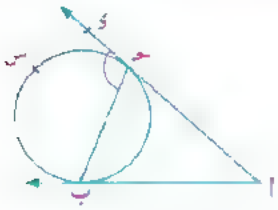


∵ ∠ ء جـ ب خارجة عن △ أ ب جـ

∴ ق(∠ أ) = ق(∠ ب جـ ء) - ق(∠ جـ ب أ)

= $\frac{1}{2}$ ق($\widehat{ب س جـ}$) - $\frac{1}{2}$ ق($\widehat{ب جـ}$)

= $\frac{1}{2}$ [ق($\widehat{ب س جـ}$) - ق($\widehat{ب جـ}$)]

**حاول أن تحل**

(٥) مستعينًا بمعطيات الشكل، أوجد قيمة الرمز المستخدم في القياس.

أ

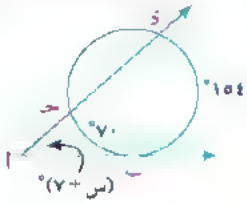


ب

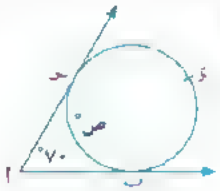


جـ




**مثال**

(٤) **الربط بالأقمار الصناعية:** يدور قمر صناعي في مدار، محافظًا في أثناء دورانه على ارتفاع ثابت فوق منطقة خط الاستواء، وتستطيع آلة التصوير به رصد قوس طوله ٦٠١١ كم على سطح الأرض. إذا كان قياس هذا القوس ٥٤°. فأوجد:

أ قياس زاوية آلة التصوير الموضوعة على القمر الصناعي.

ب طول نصف قطر الأرض عند دائرة خط الاستواء.

**الحل**

نمذجة المشكلة: باعتبار الدائرة م هي دائرة خط الاستواء يكون ق(ب جـ) = ٥٤°، وطول $\overset{\frown}{\text{ب جـ}}$ = ٦٠١١ كم.

أ ∵ قياس الدائرة = ٣٦٠°

∴ ق($\overset{\frown}{\text{ب ء جـ}}$) = ٣٦٠° − ٥٤° = ٣٠٦°

ويكون ق(∠أ) = $\frac{١}{٢}$ [ق($\overset{\frown}{\text{ب ء جـ}}$) − ق($\overset{\frown}{\text{ب جـ}}$)]

= $\frac{١}{٢}$ (٣٠٦° − ٥٤°) = ١٢٦°

ب في الدائرة يتناسب طول القوس مع قياسه

$\frac{٦٠١١}{٢ \times \pi \times \text{نق}} = \frac{٥٤°}{٣٦٠°}$ ∴ نق = ٦٣٧٧,٨٧ كم

∴ طول نصف قطر الأرض عند خط الاستواء ≃ ٦٣٧٨ كم.

**تذكر**

$\frac{\text{طول القوس}}{\text{محيط دائرته}} = \frac{\text{قياس القوس}}{\text{قياس الدائرة}}$

**حاول أن تحل**

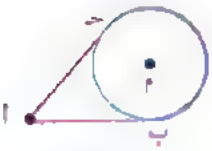


٦ تدور بكرة عند محور م بواسطة سير يمر على بكرة صغيرة عند أ. فإذا كان قياس الزاوية بين جزئي السير ٤٠°. فأوجد طول $\overset{\frown}{\text{ب جـ}}$ الأكبر، علمًا بأن طول نصف قطر البكرة الكبرى ٩سم.

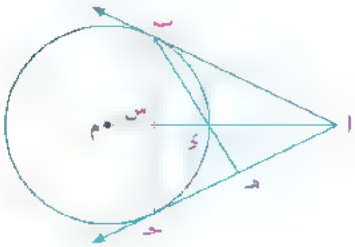


٧ في الشكل المقابل: دائرة م طول نصف قطرها ٩سم، $\overleftarrow{\text{أب}}$ ، $\overleftarrow{\text{أجـ}}$ مماسان للدائرة عند ب، جـ. $\overline{\text{أم}}$ يقطع الدائرة في ء، $\overline{\text{ب جـ}}$ في س رسم $\overleftarrow{\text{ب ء}}$ فقطع $\overline{\text{أجـ}}$ في هـ إذا كان ق$_{م}$ (أ) = ١٤٤ أوجد:

أ طول $\overline{\text{أب}}$

ب طول $\overline{\text{أس}}$.

## تحقق من فهمك

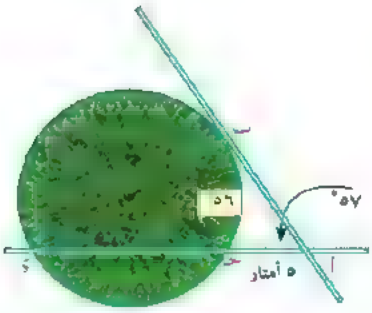


حل مشكلات: يبين الشكل المقابل مخططًا لحديقة على شكل دائرة. أنشئ ممرين للمشاة أحدهما خارج الحديقة يمسها في النقطة ب والآخر يقطع الحديقة في نقطتي جـ، ء ويتقاطع الممران عند أ.

إذا كان ق$_{م}$ (أ) = ١٠٠، أجـ = ٥ أمتار.

أوجد طول كل من $\overline{\text{أب}}$ ، $\overline{\text{جـ ء}}$ ، ثم أوجد ق($\overset{\frown}{\text{ب ء}}$).

## تمـــارين ٣ - ٣

(١) حدد موقع كل من النقط التالية بالنسبة إلى الدائرة م، والتى طول نصف قطرها ١٠سم، ثم احسب بُعدَ كل نقطة عن مركز الدائرة.

أ . $ق_م$(أ) = -٣٦ ب $ق_م$(ب) = ٩٦ جـ $ق_م$(جـ) = صفر

(٢) أوجد قوة النقطة المعطاة بالنسبة إلى الدائرة م، والتى طول نصف قطرها ن:

أ النقطة أ حيث أ م = ١٢سم ، ن = ٩ سم

ب النقطة ب حيث ب م = ٨ سم، ن = ١٥ سم

جـ النقطة جـ حيث جـ م = ٧ سم ، ن = ٧ سم

د النقطة ء حيث ء م = $\sqrt{١٧}$ سم، ن = ٤ سم

(٣) إذا كان بعد نقطة عن مركز دائرة يساوى ٢٥سم وقوة هذه النقطة بالنسبة إلى الدائرة يساوى ٤٠٠. أوجد طول نصف قطر هذه الدائرة.

(٤) الدائرة م طول نصف قطرها ٢٠سم. أ نقطة تبعد عن مركز الدائرة مسافة ١٦سم، رسم الوتر $\overline{ب جـ}$ حيث أ ∈ $\overline{ب جـ}$ ، أ ب = ٢ أ جـ إحسب طول الوتر $\overline{ب جـ}$.

(٥) فى الشكل المقابل: الدائرتان م، ن متقاطعتان فى أ، ب

حيث $\overleftrightarrow{أب}$ ∩ $\overleftrightarrow{جـ ء}$ ∩ $\overleftrightarrow{هـ و}$ = {س}، س ء = ٢ ء جـ ، هـ و = ١٠سم، $ق_ن$(س) = ١٤٤.

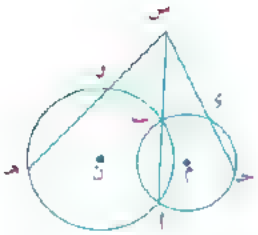


أ أثبت أن $\overleftrightarrow{أب}$ محور أساسى للدائرتين م، ن.

ب أوجد طول كل من $\overline{س جـ}$، $\overline{س و}$

جـ أثبت أن الشكل جـ ء و هـ رباعى دائرى.

(٦) مستعينًا بمعطيات الشكل، أوجد قيمة الرمز المستخدم فى القياس.

أ

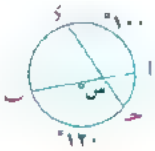


ب

جـ

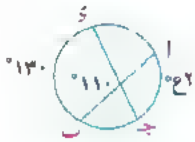


د

هـ




و

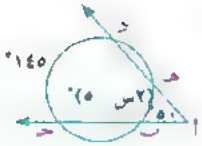


ز

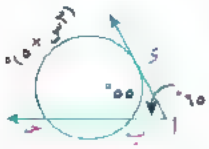


ح

ط

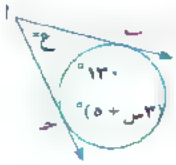

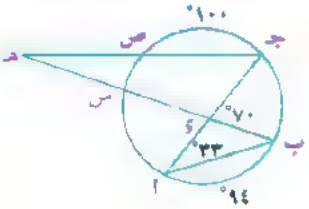


(٧) في الشكل المقابل: ق(∠ب أ جـ) = ٣٣°، ق(∠ب ء جـ) = ٧٠°، ق(أب) = ٩٤°، ق(جـ ص) = ١٠٠° أوجد قياس كل من:

أ) س ص

ب) أ س

جـ) ∠ب هـ جـ

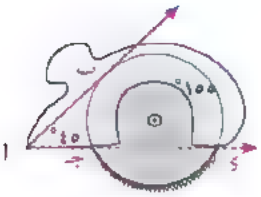


(٨) **الربط مع الصناعة:** منشار دائرى لقطع الخشب طول نصف قطر دائرته ١٠سم. يدور داخل حافظة حماية، فإذا كان ق(∠ب أ ء) = ٤٥°، ق(ب ء) = ١٥٥° أوجد طول قوس قرص المنشار خارج حافظة الحماية.

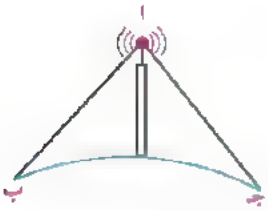


(٩) **اتصالات:** تتبع الإشارات التى تصدر عن برج الاتصالات فى مسارها شعاعًا، نقطة بدايته على قمة البرج، ويكون مماسًا لسطح الأرض، كما فى الشكل المقابل. حدد قياس القوس المحصور بالمماسين بفرض أن البرج يقع على مستوى سطح البحر، ق(∠جـ أ ب) = ٨٠°

**معلومات إثرائية**

قم بزيارة المواقع الآتية:

# ملخص الوحدة

**نظرية ١** : إذا رسم مستقيم يوازى أحد أضلاع المثلث ويقطع الضلعين الآخرين فإنه يقسمهما إلى قطع متناسبة.

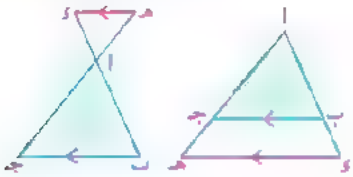

**نتيجة**: إذا رسم مستقيم خارج مثلث أ ب جـ يوازى ضلعًا من أضلاع المثلث وليكن $\overline{ب جـ}$ ويقطع $\overleftrightarrow{أ ب}$ ، $\overleftrightarrow{أ جـ}$ فى ى، هـ على الترتيب (كما فى الشكل)

فإن: $\frac{أ ب}{ب ى} = \frac{أ جـ}{هـ جـ}$

$\frac{أ ى}{أ ب} = \frac{أ هـ}{أ جـ}$

$\frac{أ ى}{ب ى} = \frac{أ هـ}{جـ هـ}$

**عكس نظرية ١** : إذا قطع مستقيم ضلعين من أضلاع مثلث، وقسمهما إلى قطع أطوالها متناسبة فإنه يوازى الضلع الثالث.

**نظرية تاليس العامة** Talis Theorem: إذا قطع مستقيمان عدة مستقيمات متوازية، فإن أطوال القطع الناتجة على أحد القاطعين تكون متناسبة مع أطوال القطع الناتجة على القاطع الآخر.

**حالات خاصة**

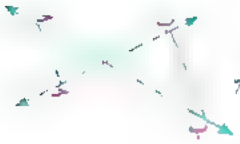

١- إذا تقاطع المستقيمان م ، م/ فى النقطة أ وكان: $\overleftrightarrow{ب ب/} // \overleftrightarrow{جـ جـ/}$ ، فإن: $\frac{أ ب}{أ جـ} = \frac{أ ب/}{أ جـ/}$

وبالعكس: إذا كان: $\frac{أ ب}{أ جـ} = \frac{أ ب/}{أ جـ/}$ فإن: $\overleftrightarrow{ب ب/} // \overleftrightarrow{جـ جـ/}$

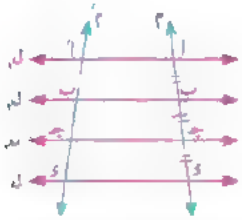

٢- إذا كان $ل_1 // ل_2 // ل_3 // ل_4$

وقطعها المستقيمان م، م/ وكان: أ ب = ب جـ = جـ ى

فإن: أ/ ب/ = ب/ جـ/ = جـ/ ى/

**نظرية ٣ منصف زاوية مثلث** Triangle- Angle - Bisector: إذا نصفت زاوية رأس مثلث أو الزاوية الخارجة للمثلث عند هذا الرأس، قسم المنصف قاعدة المثلث من الداخل أو الخارج إلى جزأين النسبة بين طوليهما تساوي النسبة بين طولى الضلعين الآخرين

**ملاحظة هامَّة**: فى الشكل المقابل



١- $\overline{ب جـ}$ تنقسم من الداخل فى ى ومن الخارج فى هـ بنسبة واحدة فيكون $\frac{ب ى}{ى جـ} = \frac{ب هـ}{هـ جـ}$

٢- المنصف الداخلى والمنصف الخارجى لزاوية فى مثلث متعامدان؛ أى أن : $\overleftrightarrow{أ ى} \perp \overleftrightarrow{أ هـ}$

٣- إذا كان أ ب > أ جـ قطع منصف ∠أ الضلع $\overline{ب جـ}$ فى ى، حيث ب ى > ى جـ ،أما منصف الزاوية الخارجة عند أ فيقطع $\overleftrightarrow{ب جـ}$ فى هـ، حيث ب هـ > هـ جـ

٤- $أ ى = \sqrt{ب أ \times أ جـ - ب ى \times ى جـ}$

٥- $أ هـ = \sqrt{ب هـ \times هـ جـ - ب أ \times أ جـ}$

# ملخص الوحدة

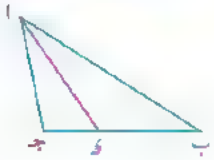


**حالات خاصة عكس نظرية (٣)**

**١- في △ أ ب جـ:**

إذا كان ء ∈ $\overline{ب جـ}$ حيث $\frac{ب ء}{ء جـ} = \frac{ب أ}{أ جـ}$

فإن: $\overleftarrow{أ ء}$ ينصف ∠ب أ جـ

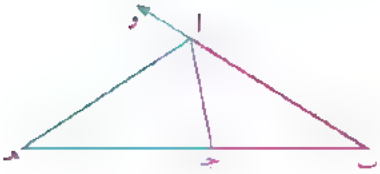


وإذا كان هـ ∈ $\overleftarrow{ب جـ}$، هـ ∉ $\overline{ب جـ}$، حيث $\frac{ب هـ}{هـ جـ} = \frac{ب أ}{أ جـ}$

فإن: $\overleftarrow{أ هـ}$ ينصف ∠أ الخارجة عن المثلث أ ب جـ

**٢ - حقيقة: منصفات زوايا المثلث تتقاطع في نقطة واحدة.**

**أولًا: قوة نقطة بالنسبة لدائرة** Power of a point

قوة النقطة أ بالنسبة للدائرة م التي طول نصف قطرها نق هو العدد الحقيقي ق$_م$(أ) حيث:

ق$_م$(أ) = (أ م)$^2$ − نق$^2$

فإذا كان ق$_م$(أ) > ٠ فإن أ تقع خارج الدائرة م

ق$_م$(أ) = ٠ أ تقع على الدائرة م

ق$_م$(أ) < ٠ أ تقع داخل الدائرة م

**ثانيًا. القاطع والمماس وقياسات الزاوية.**

**١- قياس الزاوية الناتجة من تقاطع قاطعين داخل دائرة:**

أ داخل الدائرة

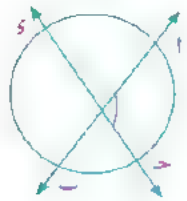


ق(∠أ هـ جـ) = $\frac{1}{2}$[ق($\overset{\frown}{أ جـ}$) + ق($\overset{\frown}{ء ب}$)]

ب خارج الدائرة:




ق(∠أ هـ جـ) = $\frac{1}{2}$[ق($\overset{\frown}{أ جـ}$) − ق($\overset{\frown}{ب ء}$)]

**٢- قياس الزاوية الناتجة من تقاطع قاطع ومماس للدائرة**

ق(∠أ) = $\frac{1}{2}$[ق($\overset{\frown}{ب ء}$) − ق($\overset{\frown}{ب جـ}$)]




**٣- قياس الزاوية الناتجة من تقاطع مماسين لدائرة.**

ق(∠أ) = $\frac{1}{2}$[ق($\overset{\frown}{ب س جـ}$) − ق($\overset{\frown}{ب جـ}$)]

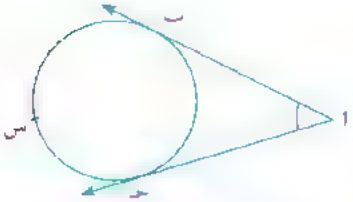

## أهداف الوحدة

**في نهاية الوحدة من المتوقع أن يكون الطالب قادرًا على أن:**

- يتعرف الزاوية الموجهة.
- يتعرف الوضع القياسي للزاوية الموجهة.
- يتعرف القياس الموجب والقياس السالب للزاوية الموجهة
- يتعرف نوع قياس الزوايا بالتقديرين (الستيني والدائري).
- يتعرف القياس الدائري للزوايا المركزية في دائرة.
- يستخدم الآلة الحاسبة في إجراء العمليات الحسابية الخاصة بالتحويل من القياس الدائري إلى القياس الستيني و العكس.
- يتعرف الدوال المثلثية .
- يحدد إشارات الدوال المثلثية في الأرباع الأربعة
- يستنتج أن مجموعة الزوايا المتكافئة لها نفس الدوال المثلثية.
- يتعرف النسب المثلثية للزاوية الحادة ولأي زاوية.
- يستنتج النسب المثلثية لبعض الزوايا الخاصة
- يتعرف الزوايا المنتسبة (١٨٠° ± θ)، (٣٦٠° ± θ)، (٩٠° ± θ)، (٢٧٠° ± θ).
- يعطى الحل العام للمعادلات المثلثية على الصورة:
  - جا اس = جتا ب س ، ظا اس = ظتا ب س
  - قا اس = قتا ب س
- يوجد قياس زاوية معلوم إحدى قيم النسب المثلثية لها.
- يتعرف التمثيل البياني لدوال الجيب وجيب التمام ويستنتج خواص كل منهما.
- يستخدم الآلة الحاسبة العلمية في حساب النسب المثلثية لبعض الزوايا الخاصة.
- ينمذج بعض الظواهر الفيزيائية والحياتية والتي تمثلها دوال مثلثية.
- يستخدم تكنولوجيا المعلومات في التعرف على التطبيقات المتعددة للمفاهيم الأساسية لحساب المثلثات

## المصطلحات الأساسية

- قياس ستيني Degree Measure
- قياس دائري Radian Measure
- زاوية موجهة Directed Angle
- زاوية نصف قطرية (راديان) Radian
- وضع قياسي Standard Position
- قياس موجب Positive Measure
- قياس سالب Negative Measure
- زاوية مكافئة Equivalent Angle
- زاوية ربعية Quadrant Angle
- دالة مثلثية Trigonometric Function
- جيب Sine
- جيب تمام Cosine
- ظل Tangent
- قاطع تمام Cosecant
- قاطع Secant
- ظل تمام Cotangent
- دالة دائرية Circular Function
- الزوايا المنتسبة Related Angles

## دروس الوحدة

الدرس (٤ – ١): الزاوية الموجهة.

الدرس (٤ – ٢): القياس الستينى والقياس الدائرى لزاوية.

الدرس (٤ – ٣): الدوال المثلثية.

الدرس (٤ – ٤): الزوايا المنتسبة.

الدرس (٤ – ٥): التمثيل البيانى للدوال المثلثية.

الدرس (٤ – ٦): إيجاد قياس زاوية بمعلومية إحدى نسبه المثلثية

## الأدوات المستخدمة

آلة حاسبة علمية – ورق مربعات – حاسب آلى – برامج رسم بيانى

## [illegible]

حساب المثلثات هو أحد فروع علم الرياضيات، فهو يختص بالحسابات الخاصة بين قياسات زوايا المثلث وأطوال أضلاعه. وقد نشأ هذا العلم ضمن الرياضيات القديمة خصوصا فيما يتعلق بحسابات علم الفلك التى اهتم بها الإنسان القديم لما يتأمله ويشاهده فى الكون من حركة الشمس والقمر و لنجوم والكواكب

ويعد الرياضى العربى نصير الدين الطوسى هو أول من فصل حساب المثلثات عن الفلك.

وكان لحساب المثلثات نصيبه من اهتمامات العرب، ويذكر أن اصطلاح (الظل) قد وصفه العالم العربى أبو الوفا البوزجانى (٩٤٠ – ٩٩٨م) فى القرن العاشر الميلادى، وهذا الاصطلاح مأخوذ من ظلال الأجسام التى تتكون نتيجة سير الضوء المنبعث من الشمس فى خطوط مستقيمة

كما أن للعرب إضافات عديدة فى حساب المثلثات المستوى والكروى (نسبة إلى سطح الكرة) وعنهم أخذ الغربيون المعلومات المهمة، وأضافوا إليها أيضا الكثير.

حتى أصبح حساب المثلثات متضمنًا العديد من الأبحاث الرياضية، وأصبحت تطبيقاته فى شتى المعارف العلمية والعملية، وساهم فى دفع عجلة التقدم والازدهار.

## [illegible]

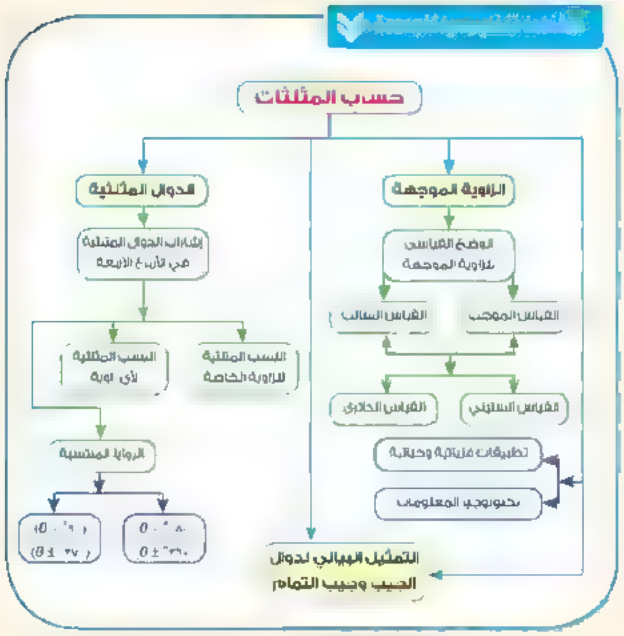

# ٤ - ١ الزاوية الموجهة

## Directed Angle

### سوف تتعلم

- مفهوم الزاوية الموجهة.
- الوضع القياسي للزاوية الموجهة.
- القياس الموجب والقياس السالب للزاوية الموجهة.
- موقع الزاوية الموجهة في المستوى الإحداثي المتعامد.
- مفهوم الزوايا المتكافئة

### المصطلحات الأساسية

- قياس ستيني Degree Measure
- زاوية موجهة Directed angle
- وضع قياسي Standard Position
- قياس موجب Positive measure
- قياس سالب Negative measure
- زاوية مكافئة Equivalent Angle
- زاوية ربعية Quadrantal Angle

### الأدوات والوسائل

- آلة حاسبة علمية.

**فكر و ناقش**

سبق لك أن تعرفت على أن الزاوية هي اتحاد شعاعين لهما نقطة بداية واحدة.

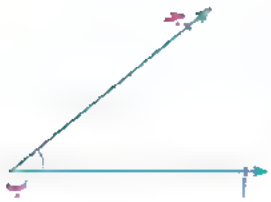


في الشكل المرسوم تسمى النقطة ب «رأس الزاوية».

والشعاعان $\overrightarrow{\text{ب أ}}$ ، $\overrightarrow{\text{ب جـ}}$ ضلعا الزاوية

أي أن: $\overrightarrow{\text{ب أ}}$ ∪ $\overrightarrow{\text{ب جـ}}$ = (∠ أ ب جـ)

وتكتب كذلك أ $\widehat{\text{ب}}$ جـ.

### القياس الستيني للزاوية Degree Measure System

علمت أن القياس الستيني يعتمد على تقسيم الدائرة إلى ٣٦٠ قوسًا متساوية في الطول.

وبالتالي فإن:

١- الزاوية المركزية التي ضلعاها يمران بنهايتي أحد هذه الأقواس يكون قياسها درجة واحدة (١°)

٢- تنقسم الدرجة إلى ٦٠ جزءًا، كلٌّ منها يسمى دقيقة، وترمز له بالرمز (١′)

٣- تنقسم الدقيقة إلى ٦٠ جزءًا، كلٌّ منها يسمى ثانية، وترمز له بالرمز (١″)

أي أن: ١° = ٦٠′ ، ١′ = ٦٠″

### الزاوية الموجهة Directed Angle

إذا راعينا ترتيب الشعاعين المكونين للزاوية فإنه يمكن كتابتهما على شكل الزوج المرتب ( $\overrightarrow{\text{و أ}}$ ، $\overrightarrow{\text{و ب}}$ ) حيث العنصر الأول $\overrightarrow{\text{و أ}}$ هو الضلع الابتدائي للزاوية، العنصر الثاني $\overrightarrow{\text{و ب}}$ هو الضلع النهائي للزاوية التي رأسها نقطة و كما بالشكل (١).

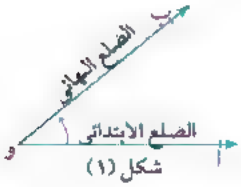

شكل (١)

أما إذا كان الضلع الابتدائي $\overrightarrow{\text{و ب}}$، الضلع النهائي $\overrightarrow{\text{و أ}}$ فتكتب عندئذ ( $\overrightarrow{\text{و ب}}$ ، $\overrightarrow{\text{و أ}}$ ) كما في شكل (٢).

شكل (٢)


دار الكتب الجامعية

**تعريف** الزاوية الموجهة هى زوج مرتب من شعاعين هما ضلعا الزاوية، لهما نقطة بداية واحدة هى رأس الزاوية.

**تفكير ناقد**

➢ هل ( $\overleftarrow{\text{و أ}}$ ، $\overleftarrow{\text{و ب}}$ ) = ( $\overleftarrow{\text{و ب}}$ ، $\overleftarrow{\text{و أ}}$ )؟ فسّر إجابتك.

## الوضع القياسى للزاوية الموجهة Standard position of the directed angle

تكون الزاوية فى وضع قياسى إذا كان رأس هذه الزاوية هو نقطة الأصل فى نظام إحداثى متعامد، وضلعها الابتدائى يقع على الجزء الموجب لمحور السينات.

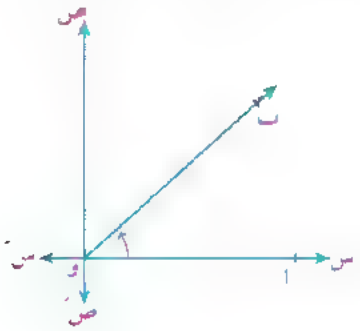


هل ∠ أ و ب الموجهة فى الوضع القياسى؟ فسّر إجابتك.

**تعبير شفهى**

أيٌّ من الأزواج المرتبة التالية يعبر عن زاوية موجهة في وضعها القياسى؟ فسّر إجابتك.

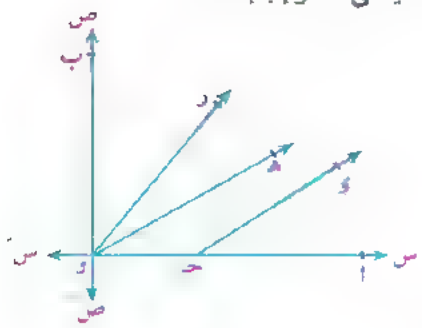


أ ( $\overleftarrow{\text{جـ أ}}$ ، $\overleftarrow{\text{جـ و}}$ )  ب ( $\overleftarrow{\text{و أ}}$ ، $\overleftarrow{\text{و هـ}}$ )

ج ( $\overleftarrow{\text{و هـ}}$ ، $\overleftarrow{\text{و أ}}$ )  د ( $\overleftarrow{\text{و أ}}$ ، $\overleftarrow{\text{و ز}}$ )

هـ ( $\overleftarrow{\text{و ب}}$ ، $\overleftarrow{\text{و ز}}$ )  و ( $\overleftarrow{\text{و أ}}$ ، $\overleftarrow{\text{و ب}}$ )

**حاول أن تحل**

(١) أى الزوايا الموجهة التالية فى وضعها القياسى؟ فسّر إجابتك.

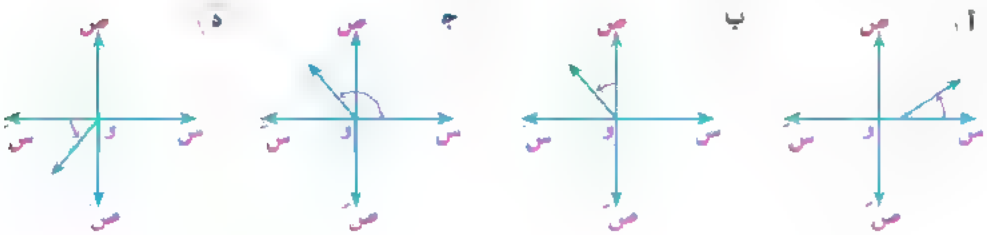

## القياس الموجب والقياس السالب للزاوية الموجهة:

**Positive and negative measures of a directed angle**

في شكل (١) يكون قياس الزاوية الموجهة موجبًا إذا كان الاتجاه من الضلع الابتدائي $\overrightarrow{\text{و أ}}$ إلى الضلع النهائي $\overrightarrow{\text{و ب}}$، في عكس اتجاه حركة عقارب الساعة.

في شكل (٢) يكون قياس الزاوية الموجهة سالبًا إذا كان الاتجاه من الضلع الابتدائي $\overrightarrow{\text{و أ}}$ إلى الضلع النهائي $\overrightarrow{\text{و ب}}$، هو نفس اتجاه حركة عقارب الساعة.

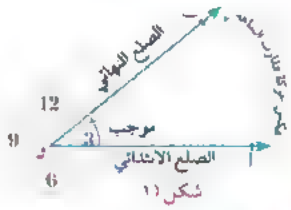

شكل (١)

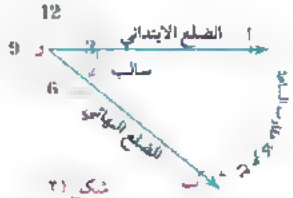

شكل (٢)

**مثال**

(١) أوجد قياس الزاوية الموجهة $\theta$ المشار إليها فى كل شكل من الأشكال الآتية:

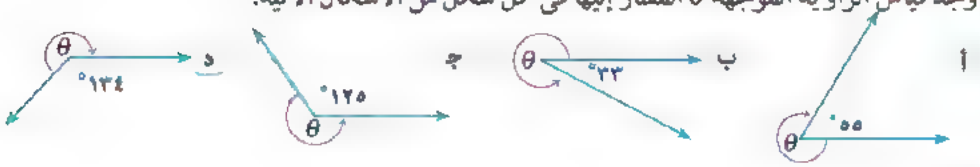


**الحل**

نعلم أن مجموع قياسات الزوايا المتجمعة حول نقطة يساوى °٣٦٠

أ $\theta = -(°٣٦٠ - °٥٥) = -°٣٠٥$ ب $\theta = °٣٦٠ - °٣٣ = °٣٢٧$

جـ $\theta = °٣٦٠ \quad °١٢٥ = °٢٣٥$ د $\theta = -(°٣٦٠ \quad °١٣٤) = -°٢٢٦$

**حاول أن تحل**

(٢) أوجد قياس الزاوية الموجهة (و) المشار إليها فى كل شكل من الأشكال الآتية:

## موقع الزاوية فى المستوى الإحداثى المتعامد: Angle's position in the orthogonal coordinate plane

➢ يقسم المستوى الإحداثى المتعامد إلى أربعة أرباع كما فى الشكل المقابل.

➤ إذا كانت ∠ أ و ب الموجهة في الوضع القياسي والتي قياسها الموجب هو ($\theta$) فإن ضلعها النهائي $\overleftarrow{\text{و ب}}$ يمكن أن يقع في أحد الأرباع:

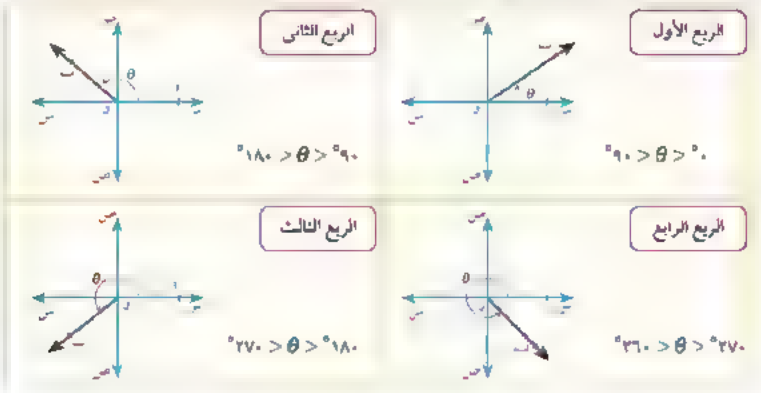


➤ إذا وقع الضلع النهائي $\overleftarrow{\text{و ب}}$ على أحد محوري الإحداثيات تسمى الزاوية في هذه الحالة **بالزاوية الربعية** (Quadrantal angle)، فتكون الزوايا التي قياساتها ٠°، ٩٠°، ١٨٠°، ٢٧٠°، ٣٦٠° هي زوايا ربعية.

## مثال

(٢) عين الربع الذي تقع فيه كل من الزوايا التي قياساتها كالآتي:

أ ٤٨° ب ٢١٧° جـ ١٣٥° د ٢٩٥° هـ ٢٧٠°

**الحل**

أ ٠° < ٤٨° < ٩٠° فهي تقع في الربع الأول.

ب ١٨٠° < ٢١٧° < ٢٧٠° فهي تقع في الربع الثالث.

جـ ٩٠° < ١٣٥° < ١٨٠° فهي تقع في الربع الثاني.

د ٢٧٠° < ٢٩٥° < ٣٦٠° فهي تقع في الربع الرابع.

هـ ٢٧٠° زاوية ربعية.

**حاول أن تحل**

(٣) عين الربع الذي تقع فيه كل من الزوايا التي قياساتها كالآتي:

أ ٨٨° ب ١٥٢° جـ ١٨٠° د ٣٠٠° هـ ١٩٦°

**ملاحظة:**

➤ إذا كان ($\theta$°) هو القياس الموجب لزاوية موجهة فإن القياس السالب لها يساوي ($\theta$° − ٣٦٠°)

➤ وإذا كان (−$\theta$°) هو القياس السالب لزاوية موجهة فإن القياس الموجب لها يساوي (−$\theta$° + ٣٦٠°)

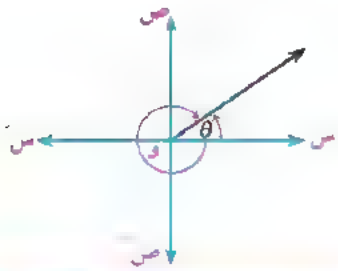

**مثال**

(٣) عين القياس السالب لزاوية قياسها ٢٧٥°.

**الحل**

القياس السالب للزاوية (٢٧٥°) = ٢٧٥° − ٣٦٠° = −٨٥°

التحقيق: |٢٧٥°| + |−٨٥°| = ٢٧٥° + ٨٥° = ٣٦٠°

**إيضاح مفاهيمي**

مجموع القيمة المطلقة لكل من القياسين الموجب والسالب للزاوية الموجهة يساوى ٣٦٠°

**حاول أن تحل**

(٤) عين القياس السالب للزاويا التي قياساتها كالآتي:

أ ٣٢° ب ٢٧٠° جـ ٣١٠° د ٣١٥°

**مثال**

(٤) عين القياس الموجب للزاوية −٢٣٥°

**الحل**

القياس الموجب للزاوية (−٢٣٥°) = ٣٦٠° − ٢٣٥° = ١٢٥°

التحقيق: |−٢٣٥°| + |١٢٥°| = ٢٣٥° + ١٢٥° = ٣٦٠°

**حاول أن تحل**

(٥) عين القياس الموجب لكل زاوية من الزوايا الآتية:

أ ٥٢° ب ١٢٦° جـ ٩٠° د ٣٢٠°

(٦) **الربط بالألعاب الرياضية:** يدور أحد لاعبى القرص بزاوية قياسها ١٥٠° ارسم هذه الزاوية في الوضع القياسى.

## الزوايا المتكافئة Equivalent angles

تأمل الأشكال الآتية وحدد الزاوية الموجهة ($\theta$) فى الوضع القياسى لكل شكل. ماذا تلاحظ؟

شكل (١) شكل (٢) شكل (٣) شكل (٤)

فى الأشكال (٢)، (٣)، (٤) نلاحظ أن الزاوية ($\theta$) والزاوية المرسومة معها لهما نفس الضلع النهائى $\overleftarrow{\text{و ب}}$.

شكل (١): الزاوية التى قياسها $\theta$ فى الوضع القياسى. شكل (٢): الزاويتان $\theta$ ، $\theta + ٣٦٠°$ متكافئتان.

شكل (٣): الزاويتان $\theta$ ، $\theta + ٢ \times ٣٦٠°$ متكافئتان.

شكل (٤): الزاويتان $\theta$ ، $-(٣٦٠° - \theta) = \theta - ٣٦٠°$ متكافئتان

**مما سبق نستنتج أن:**

عند رسم زاوية موجهة قياسها $\theta$ فى الوضع القياسى فإن جميع الزوايا التى قياساتها:

$\theta \pm ١ \times ٣٦٠°$ أو $\theta \pm ٢ \times ٣٦٠°$ أو $\theta \pm ٣ \times ٣٦٠°$ أو..... أو $\theta + ن \times ٣٦٠°$ حيث ن ∈ ص

يكون لها نفس الضلع النهائى، وتسمى **زوايا متكافئة**.

**مثال**

(٥) أوجد زاويتين إحداهما بقياس موجب والأخرى بقياس سالب مشتركتين فى الضلع النهائى لكل من الزاويتين الآتيتين:

أ ١٢٠° ب ٢٣٠°

**الحل**

أ زاوية بقياس موجب: ١٢٠° + ٣٦٠° = ٤٨٠° (بإضافة ٣٦٠°)

زاوية بقياس سالب: ١٢٠° − ٣٦٠° = −٢٤٠° (بطرح ٣٦٠°)

ب زاوية بقياس موجب: −٢٣٠° + ٣٦٠° = ١٣٠° (بإضافة ٣٦٠°)

زاوية بقياس سالب: ٢٣٠° − ٣٦٠° = −١٣٠° (بطرح ٣٦٠°)

**فكر:** هل توجد زوايا أخرى بقياس موجب، وأخرى بقياس سالب؟ اذكر بعض هذه الزوايا إن وجدت.

**حاول أن تحل**

(٧) أوجد زاويتين إحداهما بقياس موجب والأخرى بقياس سالب مشتركتين فى الضلع النهائى لكل من الزوايا الآتية:

أ ٤٠° ب ١٥٠° جـ −١٢٥° د −٢٤٠° هـ ١٨٠°

(٨) **اكتشف الخطأ:** جميع قياسات الزوايا التالية مكافئة للزاوية ٧٥° في الوضع القياسى ما عدا الإجابة.

أ −٢٨٥° ب −٦٤٥° جـ ٢٨٥° د ٤٣٥°

(١) عين الربع الذى تقع فيه كل زاوية من الزوايا التي قياساتها كالآتى:

أ ٥٦° ب ٣٢٥° جـ ٥٧٠° د ١٦٦° هـ ٣٩٠°

(٢) عين أحد القياسات السالبة لكل زاوية من الزوايا التى قياساتها كالآتى:

أ ٤٣° ب ٢١٤° جـ ١٢٥° د ٩٠° هـ ٣١٢°

(٣) عين أصغر قياس موجب لكل زاوية من الزوايا الآتية:

أ −٥٦° ب −٢١٥° جـ ٤٩٥° د ٩٣٠° هـ −٤٥٠°

## تمـــارين ٤ - ١

(١) أكمل:

أ تكون الزاوية الموجهة فى وضع قياسى إذا كان

ب يقال للزاوية الموجهة فى الوضع القياسى أنها متكافئة إذا كان .....

جـ تكون الزاوية موجبة إذا كان دوران الزاوية ..... وتكون سالبة إذا كان دوران الزاوية .....

د إذا وقع الضلع النهائى للزاوية الموجهة على أحد محاور الإحداثيات تسمى

هـ إذا كان $\theta$ قياس زاوية موجهة فى الوضع القياسى، ن ∈ ص فإن $(\theta + ن \times ٣٦٠°)$ تسمى بالزوايا

و أصغر قياس موجب للزاوية التى قياسها ٥٣٠° هو .....

ز الزاوية التى قياسها ٩٣٠° تقع فى الربع

ح أصغر قياس موجب للزاوية التى قياسها -٦٩٠° هو

(٢) أي من الزوايا الموجهة الآتية فى الوضع القياسي

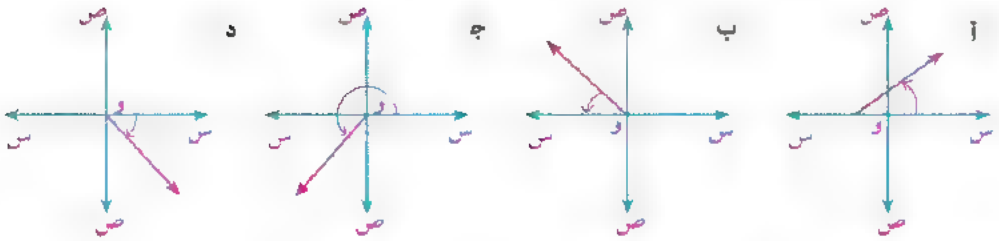


(٣) أوجد قياس الزاوية الموجهة $\theta$ المشار إليها فى كل شكل من الأشكال التالية:

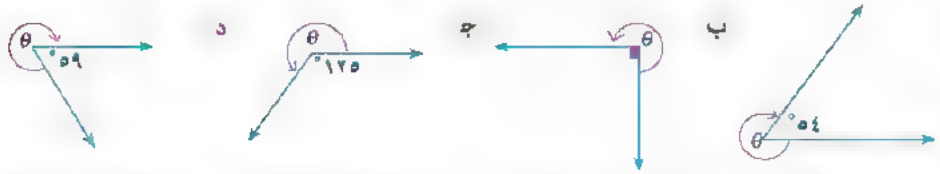


(٤) عين الربع الذى تقع فيه كل من الزوايا التى قياساتها كالآتى:

أ ٢٤° ب ٢١٥° جـ -٤٠° د -٢٢٠° هـ ٦٤٠°

⑤ ضع كلًّا من الزوايا الآتية فى الوضع القياسى، موضحًا ذلك بالرسم:

أ ٣٢° ب ١٤٠° جـ -٨٠° د -١١٠° هـ -٣١٥°

⑥ عين أحد القياسات السالبة لكل زاوية من الزوايا الآتية:

أ ٨٣° ب ١٣٦° جـ ٩٠°

د ٢٦٤° هـ ٩٦٤° و ١٠٧٠°

⑦ عين أصغر قياس موجب لكل زاوية من الزاويا الآتية:

أ -١٨٣° ب -٢١٧° جـ -٣١٥° د -٥٧٠°

⑧ فى الشكل المقابل: أيًّا من الأزواج المرتبة الآتية تعبر عن زاوية موجهة فى وضعها القياسى؟ لماذا؟

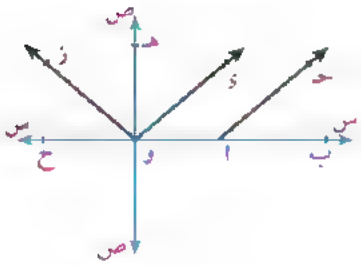


أ ( $\overrightarrow{وا}$ ، $\overrightarrow{وى}$ ) ب ( $\overrightarrow{وز}$ ، $\overrightarrow{وجـ}$ )

جـ ( $\overrightarrow{اب}$ ، $\overrightarrow{اجـ}$ ) د ( $\overrightarrow{وهـ}$ ، $\overrightarrow{وى}$ )

هـ ( $\overrightarrow{وى}$ ، $\overrightarrow{وز}$ ) و ( $\overrightarrow{وب}$ ، $\overrightarrow{وز}$ )

⑨ يدور أحد لاعبى الجمباز على جهاز الألعاب بزاوية قياسها ٢٠٠° ارسم هذه الزاوية فى الوضع القياسى

⑩ اكتشف الخطأ: اكتب قياس أصغر زاوية بقياس موجب وزاوية أخرى بقياس سالب تشتركان مع الضلع النهائى للزاوية ( ١٣٥° )

**إجابة كريم**

أصغر زاوية بقياس موجب = ١٣٥° + ١٨٠° = ٤٥°

أصغر زاوية بقياس سالب = -١٣٥° - ١٨٠° = ٣١٥°

**إجابة زياد**

أصغر زاوية بقياس موجب = -١٣٥° + ٣٦٠° = ٢٢٥°

أصغر زاوية بقياس سالب = -١٣٥° - ٣٦٠° = ٤٩٥°

أى الإجابتين صحيح ؟ فسر إجابتك.

# ٤ - ٢ القياس الستينى والقياس الدائرى لزاوية

## Degree Measure and Radian Measure of an Angle

**سوف تتعلم**

- مفهوم القياس الدائرى لزاوية.
- العلاقة بين القياس الستينى والقياس الدائرى.
- كيفية إيجاد طول قوس فى دائرة.

**المصطلحات الأساسية**

- قياس ستينى Degree Measure
- قياس دائرى Radian Measure
- زاوية نصف قطرية Radian Angle

**الأدوات والوسائل**

- آلة حاسبة علمية.

**فكر و ناقش**

سبق أن علمت أن القياس الستينى ينقسم إلى درجات ودقائق وثوان، وأن الدرجة الواحدة = ٦٠ دقيقة، وأن الدقيقة الواحدة = ٦٠ ثانية.

هل توجد قياسات أخرى للزاوية؟

## القياس الدائرى Radian Measure

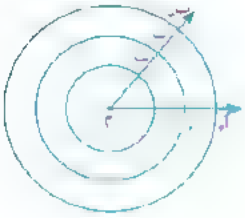


١- ارسم مجموعة من الدوائر المتحدة المركز كما فى الشكل المقابل.

٢- أوجد النسبة بين طول قوس أى زاوية مركزية وطول نصف قطر دائرتها المناظرة - ماذا تلاحظ؟

نلاحظ أن النسبة بين طول قوس أى زاوية مركزية، وطول نصف قطر دائرتها المناظرة تساوى مقدارًا ثابتًا.

أى أن: $\frac{\text{طول } \overset{\frown}{أ ب}}{\text{م أ}} = \frac{\text{طول } \overset{\frown}{أ ب،}}{\text{م أ،}} = \frac{\text{طول } \overset{\frown}{أ ب،،}}{\text{م أ،،}}$ = مقدار ثابت.

وهذا المقدار الثابت هو القياس الدائرى للزاوية.

القياس الدائرى لزاوية مركزية فى دائرة = $\frac{\text{طول القوس الذى تحصره هذه الزاوية}}{\text{طول نصف قطر هذه الدائرة}}$

ويرمز لها بالرمز ($\theta^c$)

**تعريف**

إذا كان $\theta^c$ هو قياس الزاوية المركزية لدائرة طول نصف قطرها نق تقابل قوسًا من الدائرة طوله ل فإن: $\boxed{\theta^c = \frac{ل}{نق}}$ من الزاوية نصف قطرية

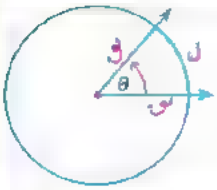


من التعريف نستنتج أن: $ل = \theta^c \times نق$ ، $نق = \frac{ل}{\theta^c}$

ووحدة قياس الزاوية في القياس الدائري هي الزاوية النصف قطرية، ويرمز لها بالرمز (١ᵣ) ويقرأ واحد دائري (راديان).

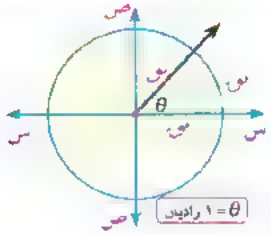


**تعريف** **الزاوية النصف قطرية Radian angle**

**هي الزاوية المركزية في الدائرة التي تحصر قوسًا طوله يساوي طول نصف قطر هذه الدائرة.**

**تفكير ناقد:** هل القياس الدائري لزاوية مركزية يتناسب مع طول القوس المقابل لها؟ فسِّر إجابتك.

**مثال**

(١١) دائرة طول نصف قطرها ٨ سم أوجد لأقرب رقمين عشريين طول القوس إذا كان قياس الزاوية المركزية التي تقابله يساوي $\frac{\pi ٥}{١٢}$

**الحل**

نستخدم صيغة طول القوس ل = $\theta^{ر}$ × نق

بالتعويض عن نق = ٨ سم ، $\theta = \frac{\pi ٥}{١٢}$ فيكون: ل = $\frac{\pi ٥}{١٢}$ × ٨ ∴ ل ≃ ١٠,٤٧سم

**حاول أن تحل**

(١) أوجد طول القوس الذي يحصر الزاوية المعلومة في كل من الدوائر الآتية مقربًا الناتج لأقرب جزء من عشرة.

## العلاقة بين القياس الستيني والقياس الدائري لزاوية:

**Relation between degree measure and radian measure of an angle**

نعلم أن قياس الزاوية المركزية لدائرة يساوي قياس قوسها.

أي أن: الزاوية المركزية التي قياسها الستيني ٣٦٠° يكون طول قوسها ٢ $\pi$ نق

وفي دائرة الوحدة

فإن: ٢$\pi$ (راديان) بالتقدير الدائري يكافئ ٣٦٠° بالتقدير الستيني.

أي أن: $\pi$ (راديان) يكافئ ١٨٠° ، ١ᵣ (راديان) = $\frac{١٨٠°}{\pi}$ ≃ ٥٧° ١٧َ ٤٥ً

إذا كان لدينا زاوية قياسها الدائري $\theta^{ر}$ وقياسها الستيني س° فإن:

$$\frac{\theta^{ر}}{\pi} = \frac{س°}{١٨٠°}$$

**هل تعلم؟**

إذا كان طول نصف قطر الدائرة يساوي الوحدة فإن الدائرة تسمى دائرة الوحدة.

**مثال**

(١٢) حول ٣٠° إلى قياس دائرى بدلالة $\pi$.

**الحل**

للتحويل إلى راديان نستخدم الصورة $\frac{\text{س}^\circ}{١٨٠^\circ} = \frac{\theta^ر}{\pi}$

$$\theta^ر = \frac{٣٠^\circ \times \pi}{١٨٠^\circ} = \frac{\pi}{٦}$$

**حاول أن تحل**

(٢) الشكل المقابل يمثل قياسات بعض الزوايا الخاصة أحدها كُتب بالراديان (خارج الدائرة) والآخر كتب بالدرجات (داخل الدائرة). اكتب قياسات زوايا الشكل المقابلة أمام كل قياس زاوية مناظرة لها.

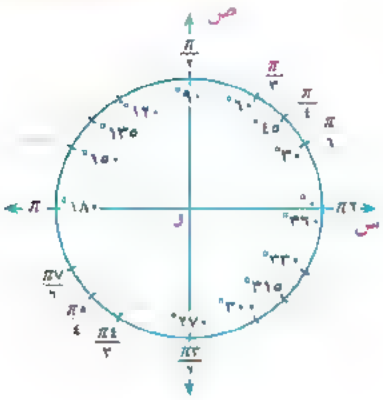


**مثال**

(١٣) حول قياس الزاوية ١,٢ ر إلى قياس ستينى.

**الحل**

$$\text{س}^\circ = \frac{١,٢ \times ١٨٠^\circ}{\pi}$$

$$\text{س}^\circ = ٦٨,٧٥٤٩٣٥٤٢^\circ = ٦٨^\circ\ ٤٥'\ ١٨''$$

وتستخدم الآلة الحاسبة على النحو التالى:

أبدأ ← 1 . 2 × 1 8 0 + $\pi$ = °''' ← 68° 45' 17.77''

**حاول أن تحل**

(٣) حول قياسات الزوايا التالية إلى قياس سيتينى مقربًا الناتج لأقرب ثانية:

أ ٠,٧ ر  ب ١,٦ ر  جـ ٢,٠٥ ر  د −١,٠٥ ر

**مثال**

(١٤) **للربط بالفضاء:** قمر صناعى يدور حول الأرض فى مسار دائرى دورة كاملة كل ٣ ساعات، إذا كان طول نصف قطر الأرض يبلغ تقريبًا ٦٤٠٠ كم وبعد القمر عن سطح الأرض ٣٦٠٠ كم. فأوجد المسافة التى يقطعها القمر خلال ساعة واحدة مقربًا الناتج لأقرب كيلومتر.

**معلومات**

يوجد وحدة أخرى لقياس الزاوية وهى الجراد (Grad) وتساوى $\frac{١}{٢٠٠}$ من قياس الزاوية المستقيمة.

إذا كانت س، $\theta$، ص هى قياسات ثلاث زوايا على التوالى بوحدات الدرجة، والراديان، والجراد فإن

$$\frac{\text{س}^\circ}{١٨٠^\circ} = \frac{\theta^ر}{\pi} = \frac{\text{ص}^ج}{٢٠٠}$$

**الحل**

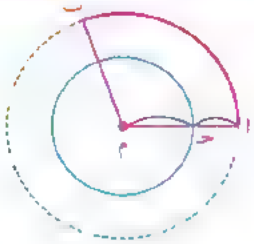


يبين الشكل المقابل المسار الدائرى لحركة القمر:

∵ طول نصف قطر دائرة مسار القمر م ا = م جـ + جـ ا

∴ م ا = ٦٤٠٠ + ٣٦٠٠ = ١٠٠٠٠ كم

∵ القمر يقطع المسار الدائرى (دورة كاملة) فى ٣ ساعات، وهذا يقابل زاوية مركزية = ٢ $\pi$

∴ القمر يقطع قوسًا طوله $\frac{١}{٣}$ محيط الدائرة فى الساعة الواحدة، وهذا يقابل زاوية مركزية = $\frac{٢\pi}{٣}$

نستخدم صيغة طول القوس: ل = $\theta^{ء}$ × نق

بالتعويض عن نق = ١٠٠٠٠ كم، $\theta^{ء} = \frac{٢\pi}{٣}$ ، ل = $\frac{٢\pi}{٣}$ × ١٠٠٠٠

ل ≃ ٢٠٩٤٤ كم

(١٥) **ألعاب رياضية:** يدور أحد لاعبى الجمباز على جهاز الألعاب بزاوية قياسها ٢٠٠°. ارسم هذه الزاوية فى الوضع القياسى وأوجد قياسها بالتقدير الدائرى.

**الحل**

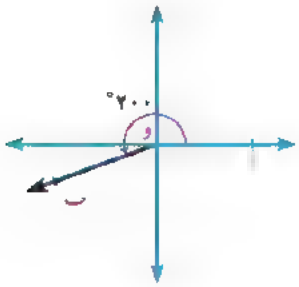


ارسم محورين لإنشاء مستوى إحداثى متعامد ومتقاطعين في النقطة و.

بفرض أن اللاعب يدور بزاوية موجهة أو ب حيث:

∠ (أ و ب) = ($\overleftarrow{و ا}$ ، $\overleftarrow{و ب}$) فيكون ق (∠ أ و ب) = ٢٠٠°.

∵ ١٨٠° < ٢٠٠° < ٢٧٠°

∴ الضلع النهائى للزاوية يقع في الربع الثالث.

٢٠٠° = $\frac{\pi \times ٢٠٠}{١٨٠}$ ≃ ٣,٤٩ $^{ء}$

**حاول أن تحل**

(٤) **الربط بالألعاب الرياضية:** لاعب اسكواش تحرك فى مسار على شكل قوس طول نصف قطر دائرته ١,٤ متر وزاوية دوران اللاعب ٨٠° أوجد لأقرب جزء من عشرة طول هذا القوس.

(١) **الصناعة:** يدور قرص آلة بزاوية قياسها −٣١٥° ارسم هذه الزاوية فى الوضع القياسى.

## تمـــارين ٤ - ٢

**أولاً: اختيار من متعدد:**

(١) الزاوية التى قياسها ٦٠° فى الوضع القياسى تكافئ الزاوية التى قياسها:

أ ١٢٠° ب ٢٤٠° جـ ٣٠٠° د ٤٢٠°

(٢) الزاوية التى قياسها $\frac{٣١\pi}{٦}$ تقع فى الربع:

أ الأول ب الثانى جـ الثالث د الرابع

(٣) الزاوية التى قياسها $\frac{٩\pi}{٤}$ تقع فى الربع:

أ الأول ب الثانى جـ الثالث د الرابع

(٤) إذا كان مجموع قياسات زوايا أى مضلع منتظم تساوى ١٨٠°(ن – ٢) حيث ن عدد الأضلاع، فإن قياس زاوية المخمس المنتظم بالقياس الدائرى تساوى:

أ $\frac{\pi}{٣}$ ب $\frac{٧\pi}{٢}$ جـ $\frac{٣\pi}{٥}$ د $\frac{٢\pi}{٣}$

(٥) الزاوية التى قياسها $\frac{٧\pi}{٣}$ قياسها الستينى يساوى:

أ ١٠٥° ب ٢١٠° جـ ٤٢٠° د ٨٤٠°

(٦) إذا كان القياس الستينى لزاوية هو ٤٨َ ٦٤ً فإن قياسها الدائرى يساوى:

أ ٠,١٨ء ب ٠,٣٦ء جـ ٠,١٨ $\pi$ د ٠,٣٦ $\pi$

(٧) طول القوس فى دائرة طول قطرها ٢٤ سم ويقابل زاوية مركزية قياسها ٣٠° يساوى:

أ ٢$\pi$ سم ب ٣$\pi$ سم جـ ٤$\pi$ سم د ٥$\pi$ سم

(٨) القوس الذى طوله ٥$\pi$سم فى دائرة طول نصف قطرها ١٥سم يقابل زاوية مركزية قياسها يساوى:

أ ٣٠° ب ٦٠° جـ ٩٠° د ١٨٠°

(٩) إذا كان قياس إحدى زوايا مثلث ٧٥° وقياس زاوية أخرى فيه $\frac{\pi}{٤}$ فإن القياس الدائرى للزاوية الثالثة يساوى:

أ $\frac{\pi}{٦}$ ب $\frac{\pi}{٤}$ جـ $\frac{\pi}{٣}$ د $\frac{٥\pi}{١٢}$

**ثانيًا: أجب عن الأسئلة الآتية:**

(١٠) أوجد بدلالة $\pi$ القياس الدائرى للزوايا التى قياساتها كالآتى:

أ ٢٢٥° ..... ب ٢٤٠°

جـ -١٣٥° ..... د ٣٠٠°

هـ ٣٩٠° ..... و ٧٨٠°

(١١) أوجد القياس الدائرى للزوايا التى قياساتها كالآتى، مقربًا الناتج لثلاثة أرقام عشرية:

أ ٥٦,٦° ب ١٨َ ٢٥° جـ ٤٨ً ٥٠َ ١٦٠°

(١٢) أوجد القياس الستينى للزوايا التى قياساتها كالآتى، مقربًا الناتج لأقرب ثانية.

أ ٠,٤٩ء ب ٢,٢٧ء جـ $\frac{١}{٣}$ء

(١٣) إذا كان $\theta$ قياس زاوية مركزية فى دائرة طول نصف قطرها نق وتحصر قوسًا طوله ل:

أ إذا كان نق = ٢٠ سم، $\theta$ = ٢٠ً ١٥َ ٧٨° أوجد ل. (لأقرب جزء من عشرة)

ب إذا كان ل = ٢٧,٣ سم، $\theta$ = ٢٤ً ٠َ ٧٨° أوجد نق. (لأقرب جزء من عشرة)

(١٤) زاوية مركزية قياسها ١٥٠° وتحصر قوسًا طوله ١١ سم، احسب طول نصف قطر دائرتها (لأقرب جزء من عشرة)

(١٥) أوجد القياس الدائرى والقياس الستينى للزاوية المركزية التى تقابل قوسًا طوله ٨,٧ سم فى دائرة طول نصف قطرها ٤ سم.

(١٦) الربط بالهندسة: مثلث قياس إحدى زواياه ٦٠° وقياس زاوية أخرى منه يساوى $\frac{\pi}{٤}$ أوجد القياس الدائرى والقياس الستينى لزاويته الثالثة.

(١٧) الربط بالهندسة: دائرة طول نصف قطرها ٤ سم، رسمت △ أ ب جـ المحيطية التى قياسها ٣٠° أوجد طول القوس الأصغر $\overset{\frown}{أجـ}$

(١٨) الربط بالهندسة: فى الشكل المقابل إذا كان مساحة المثلث م أ ب القائم الزاوية فى م = ٣٢ سم² فأوجد محيط الشكل المظلل مقربًا الناتج لأقرب رقمين عشريين

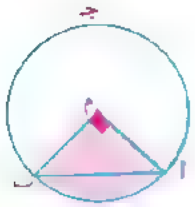

(١٩) **الربط بالهندسة:** $\overline{\text{أب}}$ قطر فى دائرة طوله ٢٤ سم ، رسم الوتر $\overline{\text{أجـ}}$ بحيث كان ق(∠ب أجـ) = ٥٠°
أوجد طول القوس الأصغر $\overset{\frown}{\text{أجـ}}$ مقربًا الناتج لأقرب رقمين عشريين.

(٢٠) **مساحات.** كم المسافة التى تقطعها نقطة على طرف عقرب الدقائق خلال ١٠ دقائق إذا كان طول هذا العقرب ٦ سم؟

(٢١) **فلك:** قمر صناعى يدور حول الأرض فى مسار دائرى دورة كاملة كل ٦ ساعات، فإذا كان طول نصف قطر مساره عن مركز الأرض ٩٠٠٠ كم، فأوجد سرعته بالكيلومتر فى الساعة.

(٢٢) **الربط بالهندسة:** فى الشكل المقابل:

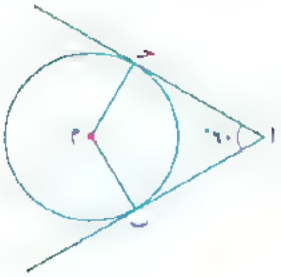


$\overline{\text{أب}}$ ، $\overline{\text{أجـ}}$ مماسان للدائرة م، ق (∠ جـ أ ب) = ٦٠° ، أ ب = ١٢ سم.
أوجد لأقرب عدد صحيح طول القوس الأكبر $\overset{\frown}{\text{ب جـ}}$.

(٢٣) **الربط بالزمن:** تستخدم المزولة الشمسية لتحديد الوقت أثناء النهار من خلال طول الظل الذى يسقط على سطح مدرج لإظهار الساعة وأجزائها، فإذا كان الظل يدور على القرص بمعدل ١٥° لكل ساعة.

أ أوجد قياس الزاوية بالراديان التى يدور الظل عنها بعد مرور ٤ ساعات.

ب بعد كم ساعة يدور الظل بزاوية قياسها $\frac{٢\pi}{٣}$ راديان؟

جـ مزولة طول نصف قطرها ٢٤ سم، أوجد بدلالة $\pi$ طول القوس الذى يصنعه دوران الظل على حافة القرص بعد مرور ١٠ ساعات.

(٢٤) **تفكير ناقد:** مستقيم يصنع زاوية قياسها $\frac{\pi}{٣}$ فى الوضع القياسى لدائرة الوحدة مع الاتجاه الموجب لمحور السينات. أوجد معادلة هذا المستقيم.

# ٤ - ٣ الدوال المثلثية

## Trigonometric Functions

### سوف تتعلم

- دائرة الوحدة.
- الدوال المثلثية الأساسية.
- معلومات الدوال المثلثية الأساسية.
- إشارات الدوال المثلثية.
- الدوال المثلثية لبعض الزوايا الخاصة.

### المصطلحات الأساسية

- دالة مثلثية Trigonometric Function
- جيب Sine
- جيب تمام Cosine
- ظل Tangent
- قاطع تمام Cosecant
- قاطع Secant
- ظل تمام Cotangent

### الأدوات والوسائل

- آلة حاسبة علمية.

**فكر و ناقش**

سبق أن درست النسب المثلثية الأساسية للزاوية الحادة.

وفى △أ ب جـ القائم الزاوية في ب نجد:

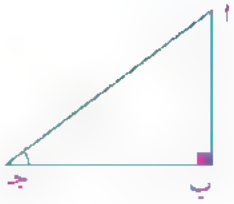


جا جـ = $\frac{\text{المقابل}}{\text{الوتر}}$ = $\frac{\text{أ ب}}{\text{أ جـ}}$

جتا جـ = $\frac{\text{المجاور}}{\text{الوتر}}$ = $\frac{\text{ب جـ}}{\text{أ جـ}}$

ظا جـ = $\frac{\text{المقابل}}{\text{المجاور}}$ = $\frac{\text{أ ب}}{\text{ب جـ}}$

١- في الشكل المقابل عبر عن جا جـ بثلاث نسب مختلفة.

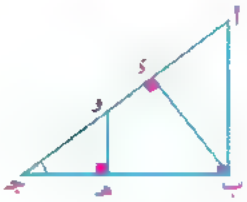


★ هل تتساوى هذه النسب؟ فسر إجابتك.

★ ماذا تستنتج؟

**لاحظ أن:**

المثلثات ب أ جـ ، هـ و جـ ، ء ب جـ متشابهه (لماذا)؟

ومن التشابه يكون: $\frac{\text{ب أ}}{\text{أ جـ}}$ = $\frac{\text{هـ و}}{\text{و جـ}}$ = $\frac{\text{ء ب}}{\text{ب جـ}}$ = جا جـ لماذا؟

أى أن: النسبة المثلثية للزاوية الحادة نسبة ثابتة لا تتغير إلا إذا تغيرت الزاوية نفسها.

٢- يبين الشكل المقابل ربع دائرة طول نصف قطرها نق سم

حيث: ق (∠ء و جـ) = $\theta$

جا $\theta$ = $\frac{\text{جـ ء}}{\text{نق}}$

وعندما يزداد ق (∠ء و جـ) إلى $\alpha$

فإن جا $\alpha$ = $\frac{\text{م ل}}{\text{نق}}$

أى أن النسبة المثلثية لزاوية تتغير بتغير قياس زاويتها،

وهذا ما يعرف بالدوال المثلثية.

## دائرة الوحدة The unit circle

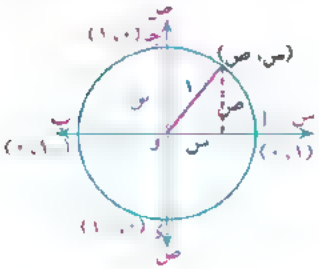


في أي نظام إحداثي متعامد تسمى الدائرة التي مركزها نقطة الأصل وطول نصف قطرها يساوي وحدة الأطوال بدائرة الوحدة.

★ دائرة الوحدة تقطع محور السينات في النقطتين أ (١، ٠)، ب (-١، ٠)، وتقطع محور الصادات في النقطتين جـ (٠، ١)، د (٠، -١).

★ إذا كان (س، ص) هما إحداثيا أي نقطة على دائرة الوحدة فإن:

س ∈ [-١، ١] ، ص ∈ [-١، ١].

حيث $س^٢ + ص^٢ = ١$ نظرية فيثاغورث

## الدوال المثلثية الأساسية للزاوية The basic trigonometric functions of an angle

لأي زاوية موجهة في الوضع القياسي وضلعها النهائي يقطع دائرة الوحدة في النقطة ب(س، ص) وقياسها $\theta$ يمكن تعريف الدوال الآتية:

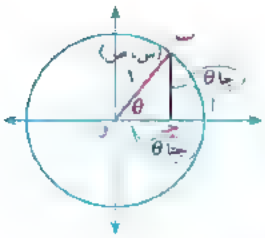


١- جيب تمام الزاوية $\theta$ = الإحداثي السيني للنقطة ب

أي أن $\boxed{جتا\ \theta = س}$

٢- جيب الزاوية $\theta$ = الإحداثي الصادي للنقطة ب

أي أن $\boxed{جا\ \theta = ص}$

٣- ظل الزاوية $\theta$ = $\frac{\text{الإحداثي الصادي للنقطة ب}}{\text{الإحداثي السيني للنقطة ب}}$

أي أن: $\boxed{ظا\ \theta = \frac{ص}{س}}$ حيث س ≠ ٠ ، $\boxed{ظا\ \theta = \frac{جا\ \theta}{جتا\ \theta}}$ حيث جتا $\theta$ ≠ ٠

**لاحظ أن:** يكتب الزوج المرتب (س، ص) لأي نقطة على دائرة الوحدة بالصورة (جتا $\theta$، جا $\theta$)

إذا كانت النقطة جـ $(\frac{٣}{٥}، \frac{٤}{٥})$ هي نقطة تقاطع الضلع النهائي لزاوية موجهه قياسها $\theta$ مع دائرة الوحدة

فإن: جتا $\theta = \frac{٣}{٥}$ ، جا $\theta = \frac{٤}{٥}$ ، ظا $\theta = \frac{٤}{٣}$

## مقلوبات الدوال الأساسية The reciprocals of the basic trigonometric functions

لأي زاوية موجهة في الوضع القياسي وضلعها النهائي يقطع دائرة الوحدة في النقطة ب(س، ص) وقياسها $\theta$ توجد الدوال الآتية:

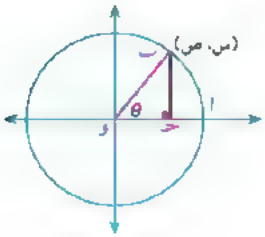


١- قاطع الزاوية $\theta$: قا $\theta = \frac{١}{س} = \frac{١}{جتا\ \theta}$ حيث س ≠ ٠

٢- قاطع تمام الزاوية $\theta$: قتا $\theta = \frac{١}{ص} = \frac{١}{جا\ \theta}$ حيث ص ≠ ٠

٣- ظل تمام الزاوية $\theta$: ظتا $\theta = \frac{س}{ص} = \frac{١}{ظا\ \theta}$ حيث ص ≠ ٠

## إشارات الدوال المثلثية The signs of The Trigonometric Functions

### الربع الأول

س > ٠

ص > ٠

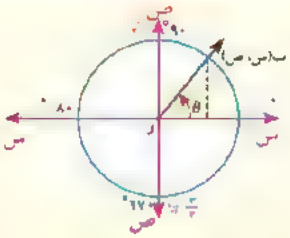

الضلع النهائى للزاوية يقع فى الربع الأول.
لذلك كل الدوال المثلثية للزاوية التى ضلعها النهائى $\overrightarrow{\text{و ب}}$ تكون موجبة

### الربع الثاني

س < ٠

ص > ٠

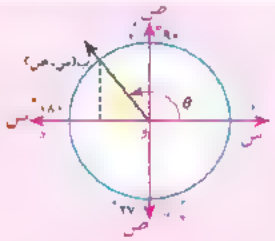

الضلع النهائى يقع فى الربع الثانى
لذلك دالة الجيب ومقلوبها تكونان موجبتين وباقى الدوال سالبة.

### الربع الرابع

س > ٠

ص < ٠

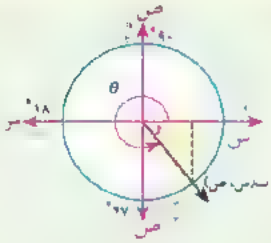

الضلع النهائى للزاوية يقع فى الربع الرابع
لذلك دالة جيب التمام ومقلوبها تكونان موجبتين، وباقى الدوال سالبة.

### الربع الثالث

س < ٠

ص < ٠

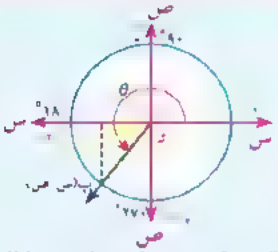

الضلع النهائى للزاوية يقع فى الربع الثالث
لذلك دالة الظل ومقلوبها تكونان موجبتين، وباقى الدوال سالبة.

ويمكن تلخيص إشارات الدوال المثلثية جميعها فى الجدول الآتى:

| الربع الذى يقع فيه الضلع النهائى للزاوية | الفترة التى يقع فيها قياس الزاوية | إشارات الدوال المثلثية: جا، قتا | جتا، قا | ظا، ظتا |
|---|---|---|---|---|
| الأول | $]٠ ، \frac{\pi}{٢}[$ | + | + | + |
| الثانى | $]\frac{\pi}{٢} ، \pi[$ | + | − | − |
| الثالث | $]\pi ، \frac{٣\pi}{٢}[$ | − | − | + |
| الرابع | $]\frac{٣\pi}{٢} ، ٢\pi[$ | − | + | − |

**مثال**

(١) عين إشارة كل من النسب المثلثية الآتية:

أ جا ١٣٠° ب ظا ٣١٥° جـ جتا ٦٥٠° د قا (−٣٠°)

**الحل**

أ الزاوية التى قياسها ١٣٠° تقع في الربع الثانى ∴ جا ١٣٠° موجبة

ب الزاوية التى قياسها ٣١٥° تقع في الربع الرابع ∴ ظا ٣١٥° سالبة

جـ الزاوية التى قياسها ٦٥٠° تكافىء زاوية قياسها ٦٥٠° - ٣٦٠° = ٢٩٠°

∴ الزاوية التى قياسها ٦٥٠° تقع في الربع الرابع ∴ جتا ٦٥٠° موجبة.

د الزاوية التى قياسها (-٣٠°) تكافىء زاوية قياسها - ٣٠° + ٣٦٠° = ٣٣٠°

الزاوية التى قياسها (-٣٠°) تقع في الربع الرابع ∴ قا (-٣٠°) موجبة.

**حاول أن تحل**

(١) عين إشارة كل من النسب المثلثية الآتية:

أ جتا ٢١٠° ب جا ٧٤٠° جـ ظا - ٣٠٠° د جا ١٢٣٠°

**مثال**

(٢) إذا كانت ∠ أ و ب فى وضعها القياسى وضلعها النهائى يقطع دائرة الوحدة فى النقطة ب وقياسها $\theta$.
أوجد النسب المثلثية الأساسية للزاوية أ و ب إذا كان إحداثيا النقطة ب هى:

أ (٠، -١) ب $(\frac{1}{\sqrt{2}}، ص)$ جـ (-س، س)

حيث س > ٠ ، ص > ٠

**الحل**

أ جتا $\theta$ = ٠ ، جا $\theta$ = -١ ، ظا $\theta$ = $\frac{1}{0}$ (غير معرف)

ب س$^2$ + ص$^2$ = ١ (دائرة الوحدة) ، بالتعويض عن س = $\frac{1}{\sqrt{2}}$

$(\frac{1}{\sqrt{2}})^2$ + ص$^2$ = ١ فيكون ص$^2$ = ١ - $\frac{1}{2}$ = $\frac{1}{2}$

∴ ص = $\frac{1}{\sqrt{2}}$ > ٠ ص = $\frac{1}{\sqrt{2}}$ < ٠ (مرفوض)

∴ جتا $\theta$ = $\frac{1}{\sqrt{2}}$ ، جا $\theta$ = $\frac{1}{\sqrt{2}}$ ، ظا $\theta$ = ١

جـ (س)$^2$ + (س)$^2$ = ١ ∴ ٢س$^2$ = ١ ∴ س = $\frac{1}{\sqrt{2}}$ لأن س > ٠

∴ س = $\frac{1}{\sqrt{2}}$ ، ص = $\frac{1}{\sqrt{2}}$

ويكون: جتا $\theta$ = -$\frac{1}{\sqrt{2}}$ ، جا $\theta$ = $\frac{1}{\sqrt{2}}$ ، ظا $\theta$ = -١

(٣) إذا كانت ٢٧٠° < $\theta$ < ٣٦٠° وكان جا $\theta$ = -$\frac{5}{13}$ أوجد جميع النسب المثلثية الأساسية للزاوية التى قياسها $\theta$

**الحل**

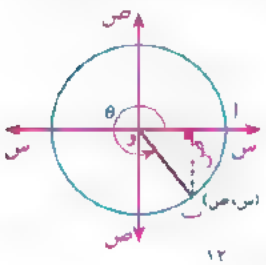


نفرض أن ق (∠ أ و ب) = $\theta$ حيث $\theta$ فى الربع الرابع

وأن إحداثيى النقطة ب هما (س، ص)

∵ ص = جا $\theta$ = -$\frac{5}{13}$ ، س = جتا $\theta$ حيث جتا $\theta$ > ٠

∵ س$^2$ + ص$^2$ = ١ ∴ جتا$^2$ $\theta$ + $(\frac{-5}{13})^2$ = ١

∴ جتا$^2$ $\theta$ = ١ - $\frac{25}{169}$ ∴ جتا$^2$ $\theta$ = $\frac{144}{169}$ جتا $\theta$ = $\frac{12}{13}$ أو جتا $\theta$ = -$\frac{12}{13}$

جتا $\theta = \frac{١٢}{١٣}$ (لماذا)؟ ظا $\theta = -\frac{١٢}{٥}$

**حاول أن تحل**

(٢) إذا كانت $٩٠° < \theta < ١٨٠°$، جا $\theta = -\frac{٤}{٥}$ أوجد جتا $\theta$، ظا $\theta$ حيث $\theta$ زاوية في وضعها القياسي في دائرة الوحدة.

**مثال**

(٤) إذا كانت الزاوية التي قياسها $\theta$ و المرسومة في الوضع القياسي، و ضلعها النهائي يقطع دائرة الوحدة في النقطة ب $(-\frac{٣}{٥}، \frac{٤}{٥})$. فأوجد جميع النسب المثلثية للزاوية $\theta$.

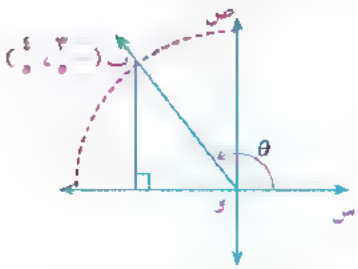


**الحل**

جا $\theta = \frac{٤}{٥}$ ، جتا $\theta = \frac{-٣}{٥} = -\frac{٣}{٥}$ ، ظا $\theta = \frac{٤}{-٣} = -\frac{٤}{٣}$

قتا $\theta = \frac{٥}{٤}$ ، قا $\theta = -\frac{٥}{٣} = -\frac{٥}{٣}$ ، ظتا $\theta = \frac{-٣}{٤} = -\frac{٣}{٤}$

**حاول أن تحل**

(٣) أوجد جميع النسب المثلثية للزاوية التي قياسها $\theta$ المرسومة في الوضع القياسي، و ضلعها النهائي يقطع دائرة الوحدة في النقطة ب حيث:

أ ب $(\frac{٥}{١٣}، \frac{١٢}{١٣})$ ب ب $(\frac{٣}{٥}، -\frac{٤}{٥})$ جـ ب $(-\frac{١٢}{١٣}، \frac{٥}{١٣})$

## الدوال المثلثية لبعض الزوايا الخاصة The trigonometric functions of some special angles

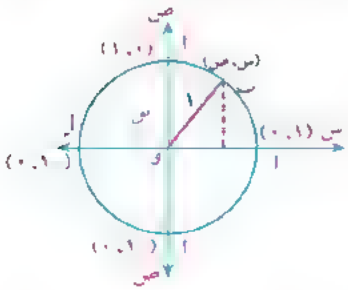


**في الشكل المقابل:** قطعت دائرة الوحدة محوري الإحداثيات في النقاط أ(١، ٠)، أ$_٢$(٠، ١)، أ$_٣$(-١، ٠)، أ$_٤$(٠، -١).

وكانت $\theta$ قياس الزاوية الموجهة أ و ب في وضعها القياسي، والذي يقطع ضلعها النهائي $\overleftarrow{\text{و ب}}$ دائرة الوحدة في ب.

**أولًا:** إذا كانت $\theta = ٠°$ أو $\theta = ٣٦٠°$ فإن: ب(١، ٠)

**ويكون:** جتا ٠° = جتا ٣٦٠° = ١ ، جا ٠° = جتا ٣٦٠° = صفر،

ظا ٠° = ظا ٣٦٠° = صفر

**ثانيًا** إذا كانت $\theta = ٩٠° = \frac{\pi}{٢}$ فإن: ب(٠، ١)

جتا ٩٠° = صفر ، جا ٩٠° = ١ ، ظا ٩٠° = $\frac{١}{٠}$ (غير معرف)

**ثالثًا:** إذا كانت $\theta = ١٨٠° = \pi$ فإن: ب(-١، ٠)

جتا ١٨٠° = -١ ، جا ١٨٠° = صفر ، ظا ١٨٠° = صفر

رابعًا إذا كانت $\theta = ٢٧٠° = \frac{٣\pi}{٢}$ فإن. ب(٠، -١)

جتا ٢٧٠° = ٠ ، جا ٢٧٠° = ١ ، طا ٢٧٠° = $\frac{١}{\text{صفر}}$ (غير معرف)

حاول أن تحل

(٤) في الأشكال التالية حدد إحداثيي النقطة ب لكل شكل واستنتج الدوال المثلثية لقياسات الزوايا ٣٠°، ٦٠°، ٤٥°

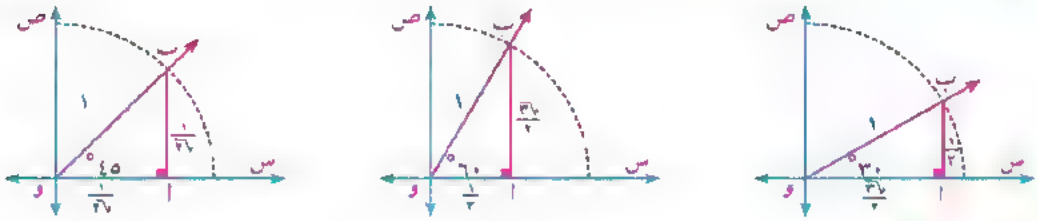


مثال

(٥) أثبت بدون استخدام الآلة الحاسبة أن: جا ٦٠° جتا ٣٠° - جتا ٦٠° جا ٣٠° = جا² $\frac{\pi}{٤}$

الحل

نعلم أن جا ٣٠° = $\frac{١}{٢}$ ، جتا ٣٠° = $\frac{\sqrt{٣}}{٢}$ ، جا ٦٠° = $\frac{\sqrt{٣}}{٢}$ ، جتا ٦٠° = $\frac{١}{٢}$

∴ الطرف الأيمن = $\frac{\sqrt{٣}}{٢} \times \frac{\sqrt{٣}}{٢} - \frac{١}{٢} \times \frac{١}{٢} = \frac{٣}{٤} - \frac{١}{٤} = \frac{١}{٢}$ (١)

∵ $\frac{\pi}{٤}$ = ٤٥° ، جا ٤٥° = $\frac{١}{\sqrt{٢}}$

الطرف الأيسر = جا² $\frac{\pi}{٤}$ = جا² ٤٥° = $\left(\frac{١}{\sqrt{٢}}\right)^٢ = \frac{١}{٢}$ (٢)

من (١)، (٢) ∴ الطرفان متساويان.

حاول أن تحل

(٥) أوجد قيمة: ٣ جا ٣٠° جا² ٦٠° - جتا ٠° قا ٦٠° + جا ٢٧٠° جتا² ٤٥°

(٦) تفكير ناقد: إذا كانت الزاوية التي قياسها $\theta$ مرسومة في الوضع القياسي، وكان جتا $\theta = \frac{-١}{٢}$ ، جا $\theta = \frac{\sqrt{٣}}{٢}$

هل من الممكن أن يكون $\theta$ = ٢٤٠°؟ وضح ذلك.

أثبت صحة كلٍّ من المتساويات التالية.

أ ١ - ٢جا² ٩٠° = جتا ١٨٠°  ب جتا $\frac{\pi}{٢}$ = جتا² $\frac{\pi}{٤}$ - جا² $\frac{\pi}{٤}$

## تمـــارين ٤ - ٣

**أولًا: الاختيار من متعدد:**

(١) إذا كان $\theta$ قياس زاوية في الوضع القياسي و ضلعها النهائي يقطع دائرة الوحدة في النقطة $(\frac{١}{٢}، \frac{\sqrt{٣}}{٢})$ فإن جا $\theta$ تساوي:

أ $\frac{١}{٢}$ ب $\frac{١}{\sqrt{٣}}$ جـ $\frac{\sqrt{٣}}{٢}$ د $\frac{٢}{\sqrt{٣}}$

(٢) إذا كانت جا $\theta = \frac{١}{٢}$ حيث $\theta$ زاوية حادة فإن $\theta$ تساوي

أ ٣٠° ب ٤٥° جـ ٦٠° د ٩٠°

(٣) إذا كانت جا $\theta = ١$، جتا $\theta = ٠$ فإن $\theta$ تساوي

أ $\frac{\pi}{٢}$ ب $\pi$ جـ $\frac{٣\pi}{٢}$ د $٢\pi$

(٤) إذا كانت قتا $\theta = ٢$ حيث $\theta$ قياس زاوية حادة فإن $\theta$ تساوي

أ ١٥° ب ٣٠° جـ ٤٥° د ٦٠°

(٥) إذا كانت جتا $\theta = \frac{١}{٢}$، جا $\theta = -\frac{\sqrt{٣}}{٢}$ فإن $\theta$ تساوي

أ $\frac{٢\pi}{٣}$ ب $\frac{٥\pi}{٦}$ جـ $\frac{٥\pi}{٣}$ د $\frac{١١\pi}{٦}$

(٦) إذا كانت ظا $\theta = ١$ حيث $\theta$ زاوية حادة موجبة فإن $\theta$ تساوي

أ ١٠° ب ٣٠° جـ ٤٥° د ٦٠°

(٧) ظا ٤٥° + ظتا ٤٥° − قا ٦٠° تساوي

أ صفرًا ب $\frac{١}{٢}$ جـ $\frac{\sqrt{٣}}{٢}$ د ١

(٨) إذا كانت جتا $\theta = \frac{\sqrt{٣}}{٢}$ حيث $\theta$ قياس زاوية حادة فإن جا $\theta$ تساوي

أ $\frac{١}{٢}$ ب $\frac{١}{\sqrt{٣}}$ جـ $\frac{٢}{\sqrt{٣}}$ د $\frac{\sqrt{٣}}{٢}$

**ثانيًا: أجب عن الأسئلة الآتية:**

(٩) أوجد جميع الدوال المثلثية لزاوية قياسها $\theta$ المرسومة في الوضع القياسي، وضلعها النهائي يقطع دائرة الوحدة في النقطة

أ $(\frac{٢}{٣}، \frac{\sqrt{٥}}{٣})$ ب $(-\frac{\sqrt{٢}}{٢}، \frac{\sqrt{٢}}{٢})$ جـ $(-\frac{\sqrt{٣}}{٢}، \frac{١}{٢})$ د $(-\frac{٣}{٥}، -\frac{٤}{٥})$

(١٠) إذا كان $\theta$ هو قياس زاويه موجهة فى الوضع القياسى، وضلعها النهائى يقطع دائرة الوحدة فى النقطة المعطاه فأوجد جميع الدوال المثلثية لهذه الزاوية فى الحالات الآتية:

أ (٣ أ، -٤أ) حيث أ > ٠

ب $(\frac{٣}{٢}أ، -٢أ)$ حيث $\frac{\pi ٣}{٢} < \theta < \pi ٢$

(١١) اكتب إشارات النسب المثلثية الآتية:

أ جا ٢٤٠° ب ظا ٣٦٥° جـ قتا ٤١٠°

د ظتا $\frac{\pi ٩}{٤}$ هـ قا $-\frac{\pi ٩}{٤}$ و ظا $\frac{-\pi ٢٠}{٩}$

(١٢) أوجد قيمة ما يأتى:

أ جتا $\frac{\pi}{٣}$ × جتا ٠ + جا $\frac{\pi ٣}{٢}$ × جا $-\frac{\pi}{٢}$

ب ظا$^{٢}$ ٣٠° + ٢ جا$^{٢}$ ٤٥° + جتا$^{٢}$ ٩٠°

(١٣) الربط بالفيزياء: عند سقوط أشعة الضوء على سطح شبه شفاف، فإنها تنعكس بنفس زاوية السقوط ولكن البعض منها ينكسر عند مروره خلال هذا السطح. كما فى الشكل المجاور:

إذا كان جا $\theta_{١}$ = ك جا$\theta_{٢}$، كانت ك = $\sqrt{٣}$، $\theta_{١}$ = ٦٠°

فأوجد قياس زاوية $\theta_{٢}$.

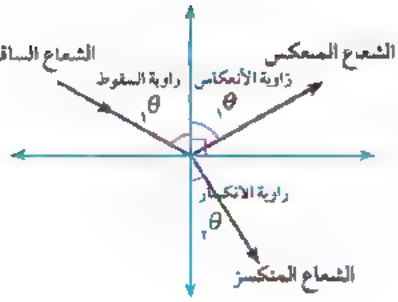


(١٤) اكتشف الخطأ: طلب المعلم من طلاب الفصل إيجاد ناتج ٢ جا ٤٥°.

إجابة كريم

٢ جا ٤٥° = جا ٢ × ٤٥°

= جا ٩٠° = ١

إجابة أحمد

٢ جا ٤٥ = ٢ × $\frac{١}{\sqrt{٢}}$ = $\frac{٢}{\sqrt{٢}}$ × $\frac{\sqrt{٢}}{\sqrt{٢}}$

= $\sqrt{٢}$

أى الإجابتين صحيح؟ولماذا؟

(١٥) تفكير ناقد: إذا كانت $\theta$ قياس زاوية مرسومة فى الوضع القياسى، حيث ظتا $\theta$ = -١، قتا $\theta$ = $\sqrt{٢}$. هل من الممكن أن يكون $\theta$ = $\frac{\pi ٣}{٤}$ ؟ فسر إجابتك.

# ٤ - ٤ الزاويا المنتسبة

## Related Angles

### سوف تتعلم

- العلاقة بين الدوال المثلثية للزويتين $\theta$، $180^\circ \pm \theta$
- العلاقة بين الدوال المثلثية للزويتين $\theta$، $360^\circ - \theta$
- العلاقة بين الدوال المثلثية للزويتين $\theta$، $90^\circ \pm \theta$
- العلاقة بين الدوال المثلثية للزويتين $\theta$، $270^\circ \pm \theta$
- الحل العام للمعادلات المثلثية التي هي الصورة.
  - جا $\alpha$ = جتا $\beta$
  - ظا $\alpha$ = قتا $\beta$
  - قا $\alpha$ = ظتا $\beta$

### المصطلحات الأساسية

- زاويتان منتسبتان Related Angles

### الأدوات والوسائل

- آلة حاسبة علمية

**فكر و ناقش**

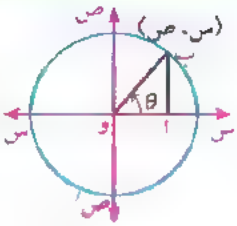


سبق أن درست الانعكاس وتعرفت على خواصه.

يبين الشكل المقابل الزاوية الموجهة ا و ب في الوضع القياسي وضلعها النهائي يقطع دائرة الوحدة في النقطة ب(س، ص). قياسها $\theta$ حيث $0^\circ < \theta < 90^\circ$

عيِّن النقطة ب′ صورة النقطة ب بالانعكاس حول محور الصادات، واذكر إحداثيها.

ما قياس ∠ ا و ب′؟ هل ∠ ا و ب′ في الوضع القياسي؟

## ١ - الدوال المثلثية لأى زاويتين قياسيهما $\theta$ ، $(180^\circ - \theta)$

من الشكل المقابل ب (س′، ص′) صورة النقطة ب(س،ص) بالانعكاس حول محور الصادات فيكون س′ = −س ، ص′ = −ص

لذلك فإن:

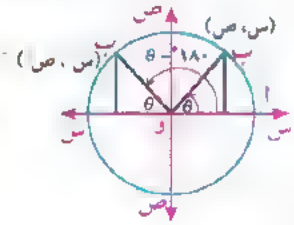


جا $(180^\circ - \theta)$ = جا $\theta$ ، قتا $(180^\circ - \theta)$ = قتا $\theta$

جتا $(180^\circ - \theta)$ = − جتا $\theta$ ، قا $(180^\circ - \theta)$ = − قا $\theta$

ظا $(180^\circ - \theta)$ = − ظا $\theta$ ، ظتا $(180^\circ - \theta)$ = − ظتا $\theta$

**فمثلًا:** جتا ١٢٠° = جتا (١٨٠° − ٦٠°) = − جتا ٦٠° = $-\frac{1}{2}$

جا ١٣٥° = جا (١٨٠° − ٤٥°) = جا ٤٥° = $\frac{1}{\sqrt{2}}$

**حاول أن تحل**

(١) أوجد ظا ١٣٥° ، جا ١٢٠° ، جتا ١٥٠°

**لاحظ أن:** $\theta + (180^\circ - \theta) = 180^\circ$

يقال إن الزاويتين $\theta$ ، $180^\circ - \theta$ زاويتان منتسبتان.

**تعريف** **الزاويتان المنتسبتان:** هما زاويتان الفرق بين قياسيهما أو مجموع قياسيهما يساوى عددًا صحيح من القوائم.

## ٢- الدوال المثلثية لأى زاويتين قياسيهما $\theta$ ، $(\theta + ١٨٠°)$

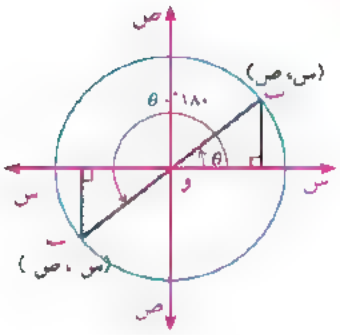


في الشكل المقابل نجد:

ب/(س/، ص/) صورة النقطة ب(س، ص) بالانعكاس فى نقطة الأصل و فيكون س/ = −س، ص/ = −ص

لذلك فإن:

| | |
|---|---|
| حا $(\theta + ١٨٠°)$ = − حا $\theta$ ، | قتا $(\theta + ١٨٠°)$ = − قتا $\theta$ |
| جتا $(\theta + ١٨٠°)$ = − جتا $\theta$ ، | قا $(\theta + ١٨٠°)$ = − قا $\theta$ |
| ظا $(\theta + ١٨٠°)$ = ظا $\theta$ ، | ظتا $(\theta + ١٨٠°)$ = ظتا $\theta$ |

**فمثلاً:**

جا ٢١٠° = جا (١٨٠° + ٣٠°) = − جا ٣٠° = $\frac{١}{٢}$

جتا ٢٢٥° = جتا (١٨٠° + ٤٥°) = − جتا ٤٥° = $-\frac{١}{\sqrt{٢}}$

ظا ٢٤٠° = ظا (١٨٠° + ٦٠°) = ظا ٦٠° = $\sqrt{٣}$

**حاول أن تحل**

(٢) أوجد جا ٢٢٥° ، جتا ٢١٠° ، قا ٦٠٠° ، ظتا ٢٢٥°.

## ٣- الدوال المثلثية لأى زاويتين قياسيهما $\theta$ ، $(٣٦٠° - \theta)$

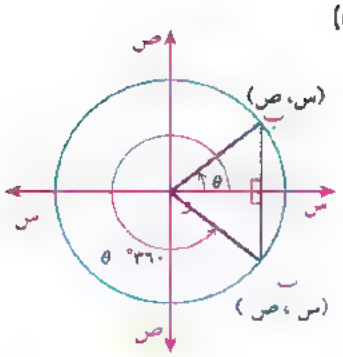


في الشكل المقابل:

ب/(س/، ص/) صورة النقطة ب(س، ص)

بالانعكاس حول محور السينات فيكون س/ = س ، ص/ = −ص

لذلك فإن:

| | |
|---|---|
| حا $(٣٦٠° - \theta)$ = − حا $\theta$ ، | قتا $(٣٦٠° - \theta)$ = − قتا $\theta$ |
| جتا $(٣٦٠° - \theta)$ = جتا $\theta$ ، | قا $(٣٦٠° - \theta)$ = قا $\theta$ |
| ظا $(٣٦٠° - \theta)$ = − ظا $\theta$ ، | ظتا $(٣٦٠° - \theta)$ = − ظتا $\theta$ |

**فمثلاً:**

جا ٣٣٠° = جا (٣٦٠° − ٣٠°) = − جا ٣٠° = $-\frac{١}{٢}$

جتا ٣١٥° = جتا (٣٦٠° − ٤٥°) = جتا ٤٥° = $\frac{١}{\sqrt{٢}}$

**لاحظ أن**

الدوال المثلثية للزاوية $(-\theta)$ هى نفسها الدوال المثلثية للزاوية $(٣٦٠° - \theta)$

**حاول أن تحل**

(٣) أوجد: جا ٣١٥° ، قتا ٣١٥° ، ظا ٣٣٠° ، ظا ٣٠٠°

**تفكير ناقد:** كيف يمكنك إيجاد جا (−٤٥°) ، جتا (−٦٠°) ، ظا(−٣٠°) ، جا ٦٩٠°.

**مثال**

(١) بدون استخدام الآله الحاسبة أوجد قيمة المقدار

جا ١٥٠° جتا ( ٣٠٠°) + جتا ٩٣٠° ظتا ٢٤٠°

**الحل**

جا ١٥٠° = جا (١٨٠° − ٣٠°) = جا ٣٠° = $\frac{١}{٢}$

جتا (−٣٠٠°) = جتا (−٣٠٠° + ٣٦٠°) = جتا ٦٠° = $\frac{١}{٢}$

جتا ٩٣٠° = جتا (٩٣٠° − ٢ × ٣٦٠°) = جتا ٢١٠° = $\frac{١}{٢}$

وتكون جتا ٢١٠° = جتا (١٨٠° + ٣٠°) = −جتا ٣٠° = $-\frac{\sqrt{٣}}{٢}$

ظتا ٢٤٠° = ظتا (١٨٠° + ٦٠°) = ظتا ٦٠° = $\frac{١}{\text{ظا ٦٠°}} = \frac{١}{\sqrt{٣}}$

المقدار = $\frac{١}{٢} \times \frac{١}{٢} + (-\frac{\sqrt{٣}}{٢}) \times \frac{١}{\sqrt{٣}}$

= $\frac{١}{٤} - \frac{١}{٢}$

**حاول أن تحل**

(٤) أثبت أن جا ٦٠٠° جتا (−٣٠°) + جا ١٥٠° جتا (−٢٤٠°) = −١

## ٤ - الدوال المثلثية لأى زاويتين قياسيهما $\theta$ ، $(٩٠° - \theta)$

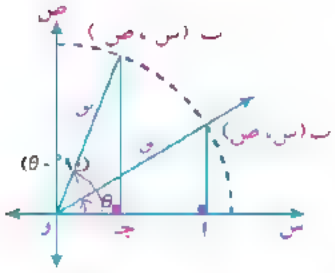


يبين الشكل المجاور جزءًا من دائرة مركزها و.

الزاوية التى قياسها $\theta$ مرسومة فى الوضع القياسى لدائرة طول نصف قطرها ن.

من تطابق المثلثين و أ ب ، و جـ ب/:

نجد أن: س/ = ص ، ص/ = س

لذلك يمكن استنتاج جميع الدوال المثلثية للزاويتين $\theta$ ، $(٩٠° - \theta)$

| | |
|---|---|
| جا (٩٠° − $\theta$) = جتا $\theta$ ، | قتا (٩٠° − $\theta$) = قا $\theta$ |
| جتا (٩٠° − $\theta$) = جا $\theta$ ، | قا (٩٠° − $\theta$) = قتا $\theta$ |
| ظا (٩٠° − $\theta$) = ظتا $\theta$ ، | ظتا (٩٠° − $\theta$) = ظا $\theta$ |

**مثال**

(١) إذا كانت الزاوية التى قياسها $\theta$ فى الوضع القياسى، ويمر ضلعها النهائى بالنقطة $(\frac{٣}{٥} ، \frac{٤}{٥})$

فأوجد الدوال المثلثية: جا (٩٠° − $\theta$) ، ظتا (٩٠° − $\theta$)

**الحل**

∵ جا (٩٠° − θ) = جتا θ ∴ جا (٩٠° − θ) = $\frac{٣}{٥}$

∵ ظتا (٩٠° − θ) = ظا θ ∴ ظتا (٩٠° − θ) = $\frac{٤}{٣}$

**دون أن تحل**

(٥) فى المثال السابق أوجد جتا (٩٠° − θ) ، قتا (٩٠° − θ)

## ٥- الدوال المثلثية لأى زاويتين قياسيهما θ ، (٩٠° + θ)

من تطابق المثلثين ب جـ و ، و جـ ب

نجد أن ص′ = س ، س′ = −ص

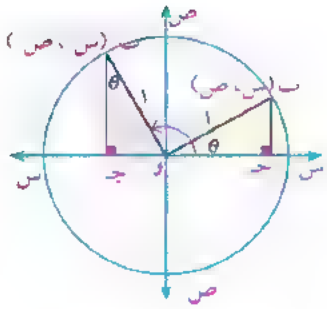


ومن ذلك يمكن استنتاج جميع الدوال المثلثية للزاويتين θ ، (٩٠° + θ) كالآتى:

| | |
|---|---|
| جا (٩٠° + θ) = جتا θ | قتا (٩٠° + θ) = قا θ |
| جتا (٩٠° + θ) = −جا θ | قا (٩٠° + θ) = −قتا θ |
| ظا (٩٠° + θ) = −ظتا θ | ظتا (٩٠° + θ) = −ظا θ |

**مثال**

(٢) إذا كانت الزاوية التى قياسها θ فى الوضع القياسى يمر ضلعها النهائى بالنقطة ($\frac{١}{٣}$ ، $\frac{\sqrt{٢}}{٣}$)
أوجد الدوال المثلثية ظا (٩٠° + θ) ، قتا (٩٠° + θ)

**الحل**

∵ ظا (٩٠° + θ) = −ظتا θ ∴ ظا (٩٠° + θ) = $\frac{١}{\sqrt{٢}}$ − = $\frac{\sqrt{٢}}{٤}$ −

∵ قتا (٩٠° + θ) = قا θ ∴ قتا (٩٠° + θ) = ٣

**دون أن تحل**

(٦) فى المثال السابق أوجد: جا (٩٠° + θ) ، قا (٩٠° + θ)

## ٦- الدوال المثلثية لأى لزاويتين قياسيهما $\theta$ ، $(٢٧٠° - \theta)$

من تطابق المثلثين ب/ جـ/ و ، و جـ ب

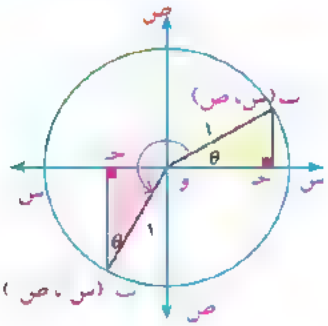


لذلك يمكن استنتاج جميع الدوال المثلثية للزاويتين $\theta$، $(٢٧٠° - \theta)$ كالآتي:

جا $(٢٧٠° - \theta)$ = − جتا $\theta$ ، قتا $(٢٧٠° - \theta)$ = − قا $\theta$

جتا $(٢٧٠° - \theta)$ = − جا $\theta$ ، قا $(٢٧٠° - \theta)$ = − قتا $\theta$

ظا $(٢٧٠° - \theta)$ = ظتا $\theta$ ، ظتا $(٢٧٠° - \theta)$ = ظا $\theta$

**مثال**

(٣) إذا كانت الزاوية التي قياسها $\theta$ المرسومة في الوضع القياسي يمر ضلعها النهائي بالنقطة $(\frac{\sqrt{٣}}{٢} ، \frac{١}{٢})$ فأوجد الدوال المثلثية: جتا $(٢٧٠° \theta)$ ، ظتا $(٢٧٠° \theta)$

**الحل**

∵ جتا $(٢٧٠° - \theta)$ = − جا $\theta$ ∴ جتا $(٢٧٠° - \theta) = -\frac{٢}{٤} = -\frac{١}{٢}$

∵ ظتا $(٢٧٠° - \theta)$ = ظا $\theta$ ∴ ظتا $(٢٧٠° - \theta) = \frac{٢}{\sqrt{٣}} = \frac{١}{\sqrt{٣}}$

**حاول أن تحل**

(٧) في المثال السابق أوجد ظا $(٢٧٠° - \theta)$، قتا $(٢٧٠° - \theta)$

## ٧- الدوال المثلثية لأى زاويتين قياسيهما $\theta$ ، $(٢٧٠° + \theta)$

من تطابق المثلثين: ب/ جـ/ و، و جـ ب

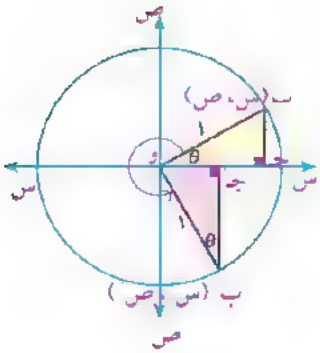


لذلك يمكن استنتاج جميع الدوال المثلثية للزاويتين $\theta$ ، $(٢٧٠° + \theta)$ كالآتي:

جا $(٢٧٠° + \theta)$ = − جتا $\theta$ ، قتا $(٢٧٠° + \theta)$ = − قا $\theta$

جتا $(٢٧٠° + \theta)$ = جا $\theta$ ، قا $(٢٧٠° + \theta)$ = قتا $\theta$

ظا $(٢٧٠° + \theta)$ = − ظتا $\theta$ ، ظتا $(٢٧٠° + \theta)$ = − ظا $\theta$

**مثال**

(٤) إذا كانت الزاوية التي قياسها $\theta$ في الوضع القياسي يمر ضلعها النهائي بالنقطة $(\frac{\sqrt{٥}}{٣} ، \frac{٢}{٣})$ فأوجد الدوال المثلثية:
جا $(٢٧٠° + \theta)$ ، قا $(٢٧٠° + \theta)$

الحل

∵ جا (٢٧٠° + θ) = − جتا θ ∴ جا (٢٧٠° + θ) = $-\frac{\sqrt{٥}}{٣}$

∵ قا (٢٧٠° + θ) = قتا θ ∴ قا (٢٧٠° + θ) = $\frac{٣}{٢}$

حاول أن تحل

(٨) في المثال السابق أوجد ظتا (٢٧٠° + θ) ، قتا (٢٧٠° + θ).

**الحل العام للمعادلات المثلثية التي على الصورة: (جا α = جتا β، قا α = قتا β، ظا α = ظتا β)**

**General solution of trigonometric equations as the form [tan(α) = cot(β), sec(α) = cscb(β), sin(α) = cos(β)]**

مكر ذهني

سبق أن درست أنه إذا كان α، β هما قياسا زاويتين متتامتين (أي مجموع قياسيهما ٩٠°) فإن جا α = جتا β، قا α = قتا β، ظا α = ظتا β ومن ذلك فإن α + β = ٩٠° حيث α، β زاويتان حادتان فإذا كانت جا θ = جتا ١٥° فما هي قيم زاوية θ المتوقعة؟

١- إذا كان جا α = جتا β (حيث α، β قياسا زاويتين متتامتين) فإن:

- جا α = جا($\frac{\pi}{٢}$ − β) ومن ذلك فإن: α = $\frac{\pi}{٢}$ − β أي α + β = $\frac{\pi}{٢}$
- جا α = جا($\frac{\pi}{٢}$ + β) ومن ذلك فإن: α = $\frac{\pi}{٢}$ + β أي α − β = $\frac{\pi}{٢}$

وبإضافة ٢πن (حيث ن ∈ ص) إلى الزاوية $\frac{\pi}{٢}$ فإن:

| | |
|---|---|
| عندما جا α = جتا β فإن α ± β = $\frac{\pi}{٢}$ + ٢πن | (حيث ن ∈ ص)، بالمثل: |
| عندما قتا α = قا β فإن α ± β = $\frac{\pi}{٢}$ + ٢πن | (حيث ن ∈ ص)، α ≠ ن π ، β ≠ (٢ن + ١) $\frac{\pi}{٢}$ |

٢- إذا كان ظا α = ظتا β (حيث α، β قياسا زاويتين متتامتين) فإن:

- ظا α = ظا($\frac{\pi}{٢}$ − β) ومن ذلك فإن: α = $\frac{\pi}{٢}$ − β أي α + β = $\frac{\pi}{٢}$
- ظا α = ظا($\frac{٣\pi}{٢}$ − β) ومن ذلك فإن: α = $\frac{٣\pi}{٢}$ − β أي α + β = $\frac{٣\pi}{٢}$

وبإضافة πن (حيث ن ∈ ص) إلى الزاويتين $\frac{\pi}{٢}$، $\frac{٣\pi}{٢}$ فإن:

| | |
|---|---|
| عندما ظا α = ظتا β فإن α + β = $\frac{\pi}{٢}$ + πن | (حيث ن ∈ ص)، α ≠ (٢ن + ١) $\frac{\pi}{٢}$ ، β ≠ ن π |

**مثال**

(٥) حل المعادلة: جا ٢ $\theta$ = جتا $\theta$

**الحل**

المعادلة: جا ٢ $\theta$ = جتا $\theta$

٢$\theta$ ± $\theta$ = $\frac{\pi}{٢}$ + ٢$\pi$ن (ن ∈ ص) من تعريف المعادلة

(١) إما ٢$\theta$ + $\theta$ = $\frac{\pi}{٢}$ + ٢$\pi$ن أي أن: ٣$\theta$ = $\frac{\pi}{٢}$ + ٢$\pi$ن

$\theta$ = $\frac{\pi}{٦}$ + $\frac{٢}{٣}$$\pi$ن بقسمة الطرفين على ٣

(٢) أو ٢$\theta$ − $\theta$ = $\frac{\pi}{٢}$ + ٢$\pi$ن أي أن: $\theta$ = $\frac{\pi}{٢}$ + ٢$\pi$ن

حل المعادلة هو: $\frac{\pi}{٦}$ + $\frac{٢}{٣}$$\pi$ن أو $\frac{\pi}{٢}$ + ٢$\pi$ن

**حاول أن تحل**

(٩) أوجد الحل العام لكل من المعادلات الآتية:

أ جا ٤ $\theta$ = جتا ٢ $\theta$ ب ٢جا($\frac{\pi}{٢}$ − $\theta$) = ١ جـ جتا٥ $\theta$ = جا $\theta$

(١٠) **اكتشف الخطأ**: في إحدى مسابقات الرياضيات طلب المعلم من كريم وزياد إيجاد قيمة حا($\theta$ − $\frac{\pi}{٢}$) فأيهما إجابته صحيحة؟ فسّر ذلك.

**إجابة كريم**

حا ($\theta$ − $\frac{\pi}{٢}$) = جا (٢$\pi$ + $\theta$ − $\frac{\pi}{٢}$)

= جا ($\theta$ + $\frac{٣\pi}{٢}$)

= − جتا $\theta$

**إجابة زياد**

جا ($\theta$ − $\frac{\pi}{٢}$) = جا [− ($\frac{\pi}{٢}$ − $\theta$)]

= − جا ($\theta$ − $\frac{\pi}{٢}$)

= − (− جتا $\theta$) = جتا $\theta$

**تحقق من فهمك**

أوجد جميع قيم $\theta$ حيث $\theta$ ∈ ]٠، $\frac{\pi}{٢}$[ والتي تحقق كل من المعادلات الآتية:

أ جا $\theta$ جتا $\theta$ = ٠ ب قتا ($\theta$ − $\frac{\pi}{٦}$) = قا$\theta$ جـ ٢جتا($\theta$ − $\frac{\pi}{٢}$) = ١

## تمـــاريـن ٤ - ٤

**أولًا: أكمل ما يأتي:**

(١) جتا (١٨٠° + $\theta$) = .....

(٢) ظا (١٨٠° − $\theta$) = .....

(٣) قتا (٣٦٠° − $\theta$) = .....

(٤) جا (٣٦٠° + $\theta$) = .....

(٥) جا (٩٠° + $\theta$) = .....

(٦) طتا (٩٠° − $\theta$) = .....

(٧) قا (٢٧٠° + $\theta$) = .....

(٨) جتا (٢٧٠° − $\theta$) = .....

**ثانيًا: أكمل كلًا مما يأتي بقياس زاوية حادة**

(٩) جا ٢٥° = جتا .....°

(١٠) جتا ٦٧° = جا .....°

(١١) ظا ٤٢° = ظتا .....°

(١٢) قتا ١٣° = قا .....°

(١٣) إذا كان ظتا ٢$\theta$ = طا $\theta$ حيث ٠° < $\theta$ < ٩٠° فإن ق (∠ $\theta$) = .....

(١٤) إذا كان جا ٥$\theta$ = جتا ٤$\theta$ حيث $\theta$ زاوية حادة موجبة فإن $\theta$ = .....°

(١٥) إذا كان قا $\theta$ = قا (٩٠° − $\theta$) فإن ظتا $\theta$ = .....

(١٦) إذا كان ظا ٢$\theta$ = ظتا ٣$\theta$ حيث $\theta \in ]٠ ، \frac{\pi}{٢}[$ فإن ق (∠ $\theta$) = ..... ء

(١٧) إذا كان جتا $\theta$ = جا ٢$\theta$ حيث $\theta$ زاوية حادة موجبة فإن جا ٣$\theta$ = .....

**ثالثًا: الاختيار من متعدد:**

(١٨) إذا كانت ظا (١٨٠° + $\theta$) = ١ حيث $\theta$ قياس أصغر زاوية موجبة فإن قياس $\theta$ يساوي

أ ٤٥° ب ٣٠° جـ ٦٠° د ١٣٥°

(١٩) إذا كان جتا ٢$\theta$ = جا $\theta$ حيث $\theta \in ]٠ ، \frac{\pi}{٢}[$ فإن جتا ٢$\theta$ تساوي

أ $\frac{١}{\sqrt{٢}}$ ب $\frac{١}{٢}$ جـ $\frac{\sqrt{٣}}{٢}$ د ١

(٢٠) إذا كان جا $\alpha$ = جتا $\beta$، حيث $\alpha$، $\beta$ زاويتان حادتان فإن ظا($\alpha + \beta$) تساوي

أ $\frac{١}{\sqrt{٣}}$ ب ١ جـ $\sqrt{٣}$ د غير معروف

(٢١) إذا كان جا ٢$\theta$ = جتا ٤$\theta$ حيث $\theta$ زاوية حادة موجبة فإن ظا(٩٠° − ٣$\theta$) تساوي

أ −١ ب $\frac{١}{\sqrt{٣}}$ جـ ١ د $\sqrt{٣}$

(٢٢) إذا كان جتا(٩٠° + $\theta$) = $\frac{١}{٢}$ حيث $\theta$ قياس أصغر زاوية موجبة فإن قياس $\theta$ يساوي

أ ١٥٠° ب ٢١٠° جـ ٢٤٠° د ٣٣٠°

**رابعًا: أجب عن الأسئلة الآتية**

(٢٣) أوجد إحدى قيم $\theta$ حيث $٠ \leq \theta < ٩٠°$ التي تحقق كلًّا من الآتي:

أ جا(٣$\theta$ + ١٥°) = جتا(٢$\theta$ − ٥°)

ب قا($\theta$ + ٢٥°) = قتا($\theta$ + ١٥°)

جـ ظا($\theta$ + ٢٠°) = ظتا (٣$\theta$ + ٣٠°)

د جتا $\frac{\theta + ٢٠°}{٢}$ = جا $\frac{\theta + ٤٠°}{٢}$

(٢٤) أوجد قيمة كل مما يأتي:

أ جا ١٥٠° ب قتا ٢٢٥ جـ قا ٣٠٠° د ظا ٧٨٠°

هـ قتا $\frac{١١\pi}{٦}$ و جا $\frac{٧\pi}{٤}$ ز ظتا $\frac{-٢\pi}{٣}$ ح جتا $\frac{-٧\pi}{٤}$

(٢٥) إذا كان الضلع النهائي لزاوية قياسها $\theta$ والمرسومة في الوضع القياسي وضلعها النهائي يقطع دائرة الوحدة في النقطة ب $(-\frac{٣}{٥}، \frac{٤}{٥})$ فأوجد:

أ جا(١٨٠° + $\theta$) ب جتا $(\theta - \frac{\pi}{٢})$

جـ ظا (٣٦٠° − $\theta$) د قتا $(\theta - \frac{٣\pi}{٢})$

(٢٦) اكتشف الخطأ: جميع الإجابات التالية صحيحة ماعدا إجابة واحدة فقط خطأ، فما هي:

١- جتا $\theta$ تساوي

أ جا (٢٧٠° − $\theta$) ب جا (٢٧٠° − $\theta$) جـ جتا (٣٦٠° − $\theta$) د جتا (٣٦٠° + $\theta$)

٢- جا $\theta$ تساوي

أ جتا $(\frac{\pi}{٢} - \theta)$ ب جا ($\pi - \theta$) جـ جتا $(\theta + \frac{٣\pi}{٢})$ د جا $(\theta + \frac{\pi}{٢})$

٣- ظا $\theta$ تساوي

أ ظتا (٩٠° − $\theta$) ب ظتا (٢٧٠° − $\theta$) جـ ظا (٢٧٠° − $\theta$) د ظا (١٨٠° + $\theta$)

(٢٧) **الربط بالتكنولوجيا:** عند استخدام كريم حاسوبه المحمول كانت زاوية ميله مع الأفقى ١٣٢° كما هو موضح بالشكل المقابل.

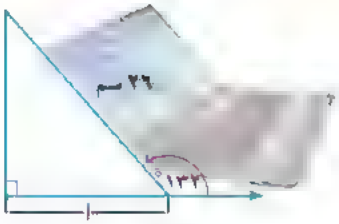


أ ارسم الشكل السابق فى المستوى الإحداثى، بحيث تكون الزاوية ١٣٢° فى الوضع القياسى ثم أوجد زاويتها المنتسبة.

ب اكتب دالة مثلثية يمكن استخدامها فى إيجاد قيم أ، ثم أوجد قيمة أ لأقرب سنتيمتر.

**ألعاب:** تنتشر لعبة العجلة الدوارة فى مدينة الملاهى، وهى عبارة عن عدد من الصناديق تدور فى قوس دائرى يبلغ نصف قطره ١٢ مترًا، فإذا كان قياس الزاوية المشتركة مع الضلع النهائى فى الوضع القياسى $\frac{\pi ٥}{٤}$.

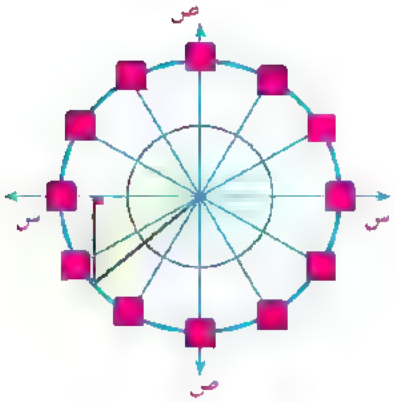


أ ارسم الزاوية التى قياسها $\frac{\pi ٥}{٤}$ فى الوضع القياسى.

ب اكتب دالة مثلثية يمكن استخدامها فى إيجاد قيمة أ ثم أوجد قيمة أ بالمتر لأقرب رقمين عشريين.

(٢٨) **تفكير ناقد.**

أ إذا كان $\theta$ قياس زاوية مرسومة فى الوضع القياسى، حيث ظتا $\theta$ = -١ ، قتا $\theta$ = $\sqrt{٢}$ . فهل يمكن أن يكون ق (∠$\theta$) = $\frac{\pi ٣}{٤}$؟ فسر إجابتك؟

ب إذا كان جتا ($\frac{\pi ٣}{٢}$ - $\theta$) = $\frac{\sqrt{٣}}{٢}$ ، جا ($\frac{\pi}{٢}$ + $\theta$) = $\frac{١}{٢}$ فأوجد أصغر قياس موجب للزاوية $\theta$.

# ٤ - ٥ التمثيل البيانى للدوال المثلثية

## Graphing Trigonometric Functions

### سوف تتعلم

سوف تتعلم:
- رسم دالة الجيب واستنتاج خواصها.
- رسم دالة جيب التمام و استنتاج خواصها.

### المصطلحات الأساسية

- دالة الجيب Sine Function
- دالة جيب التمام Cosine Function
- قيمة عظمى Maximum Value
- قيمة صغرى Minimum Value

### الأدوات والوسائل

- آلة حاسبة رسومية
- حاسب آلى
- برامج رسومية

**فكر و ناقش**

تعتمد الموجات فوق الصوتية على ترددات عالية تختلف فى طول الموجة. كما تستخدم فى التصوير الطبى، وتستخدمها الغواصات كجهاز رادار يعمل فى أعماق المحيطات .وعند تمثيل هذه الموجات بمخططات بيانية لتعرف خواص دالة الجيب وجيب التمام قم أنت وزملاؤك بالأعمال التعاونية التالية:

### التمثيل البيانى لدالة الجيب Represent sine function graphically

**نشاط**

١ أكمل الجدول التالى بالاشتراك مع زملائك:

| $\theta$ | ٠ | $\frac{\pi}{٦}$ | $\frac{\pi ٣}{٦}$ | $\frac{\pi ٥}{٦}$ | $\pi$ | $\frac{\pi ٧}{٦}$ | $\frac{\pi ٩}{٦}$ | $\frac{\pi ١١}{٦}$ | $\pi ٢$ |
|---|---|---|---|---|---|---|---|---|---|
| جا $\theta$ | ٠ | ٠,٥ | | | | | | | |

٢ ارسم المنحنى بتوصيل جميع نقاطه.

٣ أنشئ جدولا آخر مستخدما قيم المعكوس الجمعى للقيم الموجودة فى الجدول السابق.

٤ عين جميع النقاط التى حصلت عليها على شبكة الإحداثيات.

٥ أكمل رسم المنحنى بتوصيل جميع نقاطه.

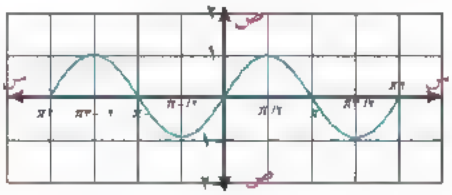


٦ هل لاحظت وجود قيم عُظمى أو قيم صُغرى لهذا المنحنى. فسِّر إجابتك؟

## خواص دالة الجيب — Properties of the sine function

في الدالة د حيث د($\theta$) = جا $\theta$ فإن:

★ مجال دالة الجيب هو ]−∞، ∞[ ، ومداها [−١، ١]

★ دالة الجيب دالة دورية ذات دورة $\pi$٢ أى أنه يمكن إزاحة المنحنى فى الفترة [٠، $\pi$٢] إلى اليمين أو اليسار $\pi$٢ وحدة، $\pi$٤ وحدة، $\pi$٦ وحدة، ... وهكذا.

★ القيمة العظمى لدالة الجيب تساوى ١ وتحدث عند النقاط $\theta = \frac{\pi}{٢} + ٢$ ن $\pi$ ن ∈ ص

★ القيمة الصغرى لدالة الجيب تساوى −١ وتحدث عند النقاط $\theta = \frac{٣\pi}{٢} + ٢$ ن $\pi$ ن ∈ ص

## التمثيل البيانى لدالة جيب التمام — Represent cosine function graphically

١ أكمل الجدول التالى بالاشتراك مع زملائك:

| $\theta$ | ٠ | $\frac{\pi}{٦}$ | $\frac{\pi٣}{٦}$ | $\frac{\pi٥}{٦}$ | $\pi$ | $\frac{\pi٧}{٦}$ | $\frac{\pi٩}{٦}$ | $\frac{\pi١١}{٦}$ | $\pi$ ٢ |
|---|---|---|---|---|---|---|---|---|---|
| جتا $\theta$ | ١ | ٠,٨ | | | | | | | |

٢ ارسم المنحنى بتوصيل جميع نقاطه.

٣ أنشئ جدولًا آخر مستخدمًا قيم المعكوس الجمعى للقيم الموجودة فى الجدول السابق.

٤ عين جميع النقاط التى حَصلت عليها على شبكة الإحداثيات.

٥ أكمل رسم المنحنى بتوصيل جميع نقاطه.

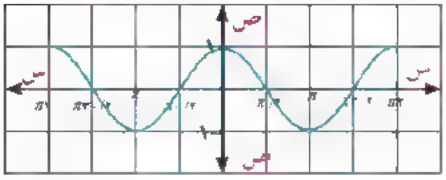


## خواص دالة جيب التمام — Properties of cosine function

في الدالة د حيث د($\theta$) = جتا $\theta$ فإن:

★ مجال دالة جيب التمام هو ]−∞، ∞[ ، ومداها [−١، ١]

★ دالة جيب التمام دورية ذات دورة $\pi$٢، أى أنه يمكن إزاحة المنحنى فى الفترة [٠، $\pi$٢] إلى اليمين أو اليسار $\pi$٢ وحدة، $\pi$٤ وحدة ، $\pi$٦ وحدة ، ... وهكذا.

★ القيمة العظمى لدالة جيب التمام تساوى ١ وتحدث عند النقاط $\theta = \pm ٢ن\pi$ ن ∈ ص

★ القيمة الصغرى لدالة جيب التمام تساوى ١ وتحدث عند النقاط $\theta = \pi \pm ٢\pi ن$ ن ∈ ص

**مثال**

(١) **الربط بالفيزياء** يمكن لإحدى السفن الدخول إلى الميناء إذا كان مستوى المياه مرتفعًا نتيجة حركة المد والجذر، بحيث لا يقل عمق المياه عن ١٠ أمتار، وكانت حركة المد والجذر في ذلك اليوم تخضع للعلاقة ف = ٦ جا (١٥ ن)° + ١٠ حيث ن هو الزمن الذى ينقضى بعد منتصف الليل بالساعات تبعًا لنظام حساب الوقت بـ ٢٤ ساعة. أوجد عدد المرات التى يبلغ فيها عمق المياه فى الميناء ١٠ أمتار تمامًا.
ارسم مخططًا بيانيًا يبين كيف يتغير عمق المياه مع تغير حركة المد والجذر أثناء اليوم.

**الحل**

العلاقة بين الزمن (ن) بالساعات وعمق المياه (ف) بالأمتار هى

من العلاقة: ف = ٦ جا (١٥ ن)° + ١٠

عندما ن = ٠ ف = ٦ جا (١٥ × ٠)° + ١٠ = ٦ جا ٠ + ١٠ = ١٠

عندما ن = ٦ ف = ٦ جا (١٥ × ٦)° + ١٠ = ٦ جا ٩٠° + ١٠ = ١٦

عندما ن = ١٢ ف = ٦ جا (١٥ × ١٢)° + ١٠ = ٦ جا ١٨٠° + ١٠ = ١٠

عندما ن = ١٨ ف = ٦ جا (١٥ × ١٨)° + ١٠ = ٦ جا ٢٧٠° + ١٠ = ٤

عندما ن = ٢٤ ف = ٦ جا (١٥ × ٢٤)° + ١٠ = ٦ جا ٣٦٠° + ١٠ = ١٠

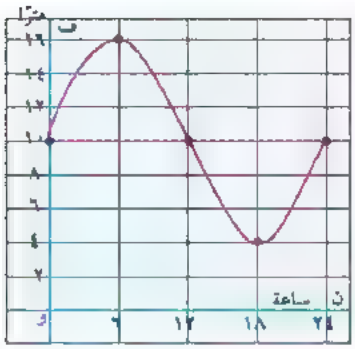


| ن الساعات | ٠ | ٦ | ١٢ | ١٨ | ٢٤ |
|---|---|---|---|---|---|
| ف بالأمتار | ١٠ | ١٦ | ١٠ | ٤ | ١٠ |

من الجدول نجد أن: عمق المياه تبلغ ١٠ أمتار

عندما ن = ١٠، ١٢، ٢٤ ساعة

**حاول أن تحل**

(١) في المثال السابق أوجد عدد الساعات خلال اليوم التى تستطيع فيها السفينة الدخول إلى الميناء؟

**تدرب**

(١) ارسم منحنى الدالة ص = ٣جاس حيث س ∈ [٠، ٢$\pi$]

(٢) ارسم منحنى الدالة ص = ٢جتاس حيث س ∈ [٠، ٢$\pi$]

## تمـــاريـــن ٤ – ٥

**أولًا: أكمل ما يأتي:**

(١) مدى الدالة د حيث د($\theta$) = جا$\theta$ هو .....

(٢) مدى الدالة د حيث د($\theta$) = ٢ جا$\theta$ هو .....

(٣) القيمة العظمى للدالة ع حيث ع($\theta$) = ٤جا$\theta$ هي .....

(٤) القيمة الصغرى للدالة هـ حيث هـ($\theta$) = ٣جتا$\theta$ هي .....

**ثانيًا: اكتب قاعدة كل دالة مثلثية بجوار الشكل المناظر لها.**

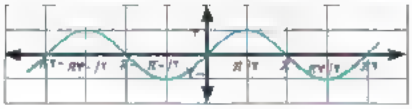

شكل (١) القاعدة هي: .....



شكل (٢) القاعدة هي: .....

**ثالثًا: أجب عن الأسئلة الآتية:**

(٥) أوجد القيمة العظمى والقيمة الصغرى، ثم احسب المدى لكل دالة من الدوال الآتية:

أ ص = جا$\theta$

ب ص = ٢ جتا$\theta$

جـ ص = $\frac{٣}{٢}$ جا$\theta$

(٦) مثل كل من الدوال ص = ٤ جتا$\theta$ ، ص = ٣ جا$\theta$ باستخدام الآلة الحاسبة الرسومية أو بأحد برامج الحاسوب الرسومية ومن الرسم أوجد:

أ مدى الدالة.

ب القيم العظمى والقيم الصغرى للدالة.

# ٤ - ٦ إيجاد قياس زاوية بمعلومية إحدى نسبها المثلثية

## Finding the Measure of an Angle Given the value of one of its Trigonometric Ratios

**سوف تتعلم**

- إيجاد قياس زاوية بمعلومية دالة مثلثية

**فكر و ناقش**

علمت أنه إذا كانت ص = جا $\theta$ فإنه يمكن إيجاد قيمة ص بمعلومية الزاوية $\theta$، وعندما تعطى قيمة ص فهل يمكنك إيجاد قيمة $\theta$ ؟

**نعلم**

إذا كانت ص = جا $\theta$

فإنه يمكن إيجاد قيم $\theta$ إذا علمت قيمة ص.

**مثال**

**المصطلحات الأساسية**

- دالة مثلثية. Trigonometric Function

١ أوجد $\theta$ حيث $٠° < \theta < ٣٦٠°$ والتى تحقق كلًّا مما يأتى:

أ جا $\theta$ = ٠,٦٣٢٥ ب ظتا $\theta$ = (−١,٦٢٠٤)

**الحل**

أ ∵ جيب الزاوية > ٠

∴ الزاوية تقع فى الربع الأول أو الثانى.

**وباستخدام الآلة الحاسبة:**

ابدأ ← SHIFT sin⁻¹ 0 . 6 3 2 5 = °'''

الربع الأول: $\theta$ = ٣٩° ١٤' ٦"

الربع الثانى: $\theta$ = ١٨٠° − ٣٩° ١٤' ٦" = ١٤٠° ٤٥' ٥٤"

**الأدوات والوسائل**

- آلة حاسبة علمية

ب ∵ ظل تمام الزاوية < ٠

∴ الزاوية تقع فى الربع الثانى أو الرابع:

**وباستخدام الآلة الحاسبة:**

ابدأ ← SHIFT tan⁻¹ 1 . 6 2 0 4 x⁻¹ = °'''

الربع الثانى: $\theta$ = ١٨٠° − ٣١° ٤٠' ٤٨" = ١٤٨° ١٩' ١٢"

الربع الرابع: $\theta$ = ٣٦٠° − ٣١° ٤٠' ٤٨" = ٣٢٨° ١٩' ١٢"

هل يمكنك التحقق من صحة الحل باستخدام الآلة الحاسبة؟

حاول أن تحل

(١) أوجد $\theta$ حيث $٠ < \theta < ٣٦٠°$ والتى تحقق كلًا مما يأتى:

أ حتا $\theta$ = ٠,٦٢٠٥ ب ظا $\theta$ = (-٢,٣٦١٥) جـ قتا $\theta$ = (-٢,١٠٣٦)

## ٥

(١) الربط بالألعاب الرياضية: توجد لعبة التزحلق فى مدينة الألعاب، فإذا كان ارتفاع إحدى اللعبات ١٠ أمتار وطولها ١٦ مترًا كما فى الشكل المجاور. فاكتب دالة مثلثية يمكن استخدامها لإيجاد قيمة الزاوية $\theta$ ثم أوجد قيمة هذه الزاوية بالدرجات. لأقرب جزء من ألف.




(٢) سيارات: يهبط كريم بسيارته أسفل منحدر طوله ٦٥ متر وارتفاعه ٨ أمتار، فإذا كان المنحدر يصنع مع الأفقى زاوية قياسها $\theta$. أوجد $\theta$ بالتقدير الستينى.




(٣) اكتشف الخطأ: بسبب الرياح انكسرت نخلة طولها ٢٠ مترًا، بحيث تأخذ الشكل المجاور، فإذا كان طول الجزء الرأسى منها ٧ أمتار، والجزء المائل ١٣ مترًا وكانت $\theta$ هى الزاوية التى يصنعها الجزء المائل مع الأفقى. فأوجد $\theta$ بالتقدير الستينى.

إجابة كريم

∵ قتا $\theta = \frac{١٣}{٧}$

∴ $\theta$ = ٣٢° ٣٤َ ٤٤ً

إجابة عمر

∵ ظا $\theta = \frac{١٣}{٧}$

∴ $\theta$ = ٥٧° ٢٥َ ١٦ً

(٤) التفكير الناقد: الشكل المجاور يمثل قطعة مستقيمة تصل بين النقطتين أ(٣، ٠)، ب (٧، ٣) أوجد قياس الزاوية المحصورة بين $\overline{أب}$ ومحور السينات.

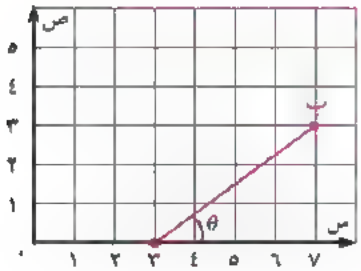

## تمـــاريـــن ٤ - ٦

**أولًا: الاختيار من متعدد:**

(١) إذا كان جا $\theta$ = ٠,٤٣٢٥ حيث $\theta$ زاوية حادة موجبة فإن ق ∠ ($\theta$) تساوى

أ ٢٥,٦٢٦° ب ٦٤,٣٤٧° جـ ٣٢,٣٨٨° د ٤٦,٣١٦°

(٢) إذا كان ظا $\theta$ = ١,٨ وكانت ٩٠° ≤ $\theta$ ≤ ٣٦٠° فإن ق ∠ ($\theta$) تساوى

أ ٦٠,٩٤٥° ب ١١٩,٠٥٥° جـ ٢٤٠,٩٤٥° د ٢٩٩,٠٥٥°

**ثانيًا: أجب عن الأسئلة الآتية:**

(١) إذا قطع الضلع النهائى لزاوية قياسها $\theta$ فى الوضع القياسى دائرة الوحدة فى النقطة ب، فأوجد كلًّا من جتا $\theta$، جا $\theta$ فى الحالات الآتية:

أ ب $(\frac{١}{٢}، \frac{\sqrt{٣}}{٢})$ ب ب $(\frac{١}{\sqrt{٢}}، \frac{١}{\sqrt{٢}})$ جـ ب $(-\frac{٦}{١٠}، \frac{٨}{١٠})$

(٢) إذا قطع الضلع النهائى لزاوية قياسها $\theta$ فى الوضع القياسى دائرة الوحدة فى النقطة ب، فأوجد كلًّا من قا$\theta$، قتا$\theta$ فى الحالات الآتية:

أ ب $(\frac{\sqrt{٢}}{٢}، \frac{\sqrt{٢}}{٢})$ ب ب $(\frac{١}{\sqrt{٥}}، \frac{٢}{\sqrt{٥}})$ جـ ب $(-\frac{٥}{١٣}، -\frac{١٢}{١٣})$

(٣) إذا قطع الضلع النهائى لزاوية قياسها $\theta$ فى الوضع القياسى دائرة الوحدة فى النقطة ب، فأوجد كلًّا من ظا $\theta$، ظتا $\theta$ فى الحالات الآتية:

أ ب $(\frac{١}{\sqrt{١٠}}، -\frac{٣}{\sqrt{١٠}})$ ب ب $(\frac{٣}{\sqrt{٣٤}}، \frac{٥}{\sqrt{٣٤}})$ جـ ب $(-\frac{٤}{٥}، -\frac{٣}{٥})$

(٤) إذا قطع الضلع النهائى لزاوية قياسها $\theta$ فى الوضع القياسى دائرة الوحدة فى النقطة ب فأوجد: ق($\angle\theta$) حيث ٠° < $\theta$ < ٣٦٠° عندما:

أ ب $(\frac{١}{٢}، \frac{\sqrt{٣}}{٢})$ ب ب $(-\frac{١}{\sqrt{٣}}، \frac{١}{\sqrt{٢}})$ جـ ب $(\frac{٦}{١٠}، \frac{٨}{١٠})$

(٥) أوجد بالقياس الستيني أصغر زاوية موجبة تحقق كلًّا من:

أ جا⁻¹ ٠,٦ ب جتا⁻¹ ٠,٤٣٦ جـ ظا⁻¹ ١,٤٥٥٢

د قا⁻¹ (-٢,٢٣٦٤) هـ ظتا⁻¹ ٣,٦٢١٨ و قتا⁻¹ (-١,٦٠٠٤)

(٦) إذا كانت ٠° ≤ θ ≤ ٣٦٠° فأوجد قياس زاوية θ لكل مما يأتي:

أ جا⁻¹ (٠,٢٣٥٦) ب جتا⁻¹ (-٠,٦٤٢) جـ ظا⁻¹ (-٢,١٤٥٦)

(٧) إذا كان جا θ = $\frac{١}{٢}$ وكانت ٩٠° ≤ θ ≤ ١٨٠°

أ احسب قياس زاوية θ لأقرب ثانية

ب أوجد قيمة كلٍّ من: جتا θ ، ظا θ ، قا θ.

(٨) سلالم: سلم طوله ٥ أمتار يستند على جدار فإذا كان ارتفاع السلم عن سطح الأرض يساوي ٣ أمتار فأوجد بالراديان زاوية ميل السلم على الأفقي.

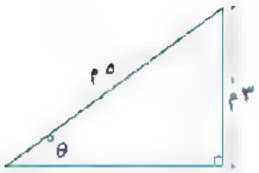


(٩) أوجد قياس زاوية θ بالقياس الستيني في كل شكل من الأشكال الآتية:

أ)

ب

جـ



# ملخص الوحدة

١ **الزاوية الموجهة:** هي زوج مرتب من شعاعين ( $\overrightarrow{\text{و أ}}$ ، $\overrightarrow{\text{و ب}}$ ) هما ضلعا الزاوية، لهما نقطة بداية واحدة هي رأس الزاوية، ويسمى $\overrightarrow{\text{و أ}}$ الضلع الابتدائي، $\overrightarrow{\text{و ب}}$ الضلع النهائي للزاوية:

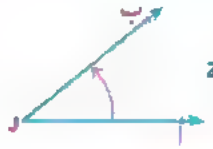


قياس موجب
ضد اتجاه حركة
عقارب الساعة

قياس سالب
مع اتجاه حركة
عقارب الساعة

٢ **الوضع القياسي للزاوية:** في نظام إحداثي متعامد تكون رأس الزاوية هي نقطة الأصل، وضلعها الابتدائي يقع على الجزء الموجب لمحور السينات .

٣ **الزوايا المتكافئة:** هي الزوايا التي قياساتها على الصورة ($\theta$ + ن × ٣٦٠°) حيث ن ∈ ص، يكون لها نفس الضلع النهائي.

٤ **الزاوية النصف قطرية:** هي الزاوية المركزية في الدائرة وتقابل قوسًا طوله يساوي طول نصف قطر الدائرة.

٥ **العلاقة بين القياس الستيني والدائري:** إذا كانت لدينا زاوية قياسها الستيني يساوي س° وقياسها الدائري يساوي $\theta^{ء}$ فإن:

$$\theta^{ء} = \text{س}^{\circ} \times \frac{\pi}{١٨٠^{\circ}} \quad ، \quad \text{س}^{\circ} = \theta^{ء} \times \frac{١٨٠^{\circ}}{\pi}$$

٦ **طول القوس:** إذا كان $\theta^{ء}$ هو قياس الزاوية المركزية لدائرة طول نصف قطرها نق تقابل قوسًا من الدائرة طوله ل فإن: ل = $\theta^{ء}$ × نق

٧ **الزاوية الربعية:** هي زاوية في الوضع القياسي، بحيث يقع ضلعها النهائي على أحد المحورين س أو ص.

٨ **دائرة الوحدة:** هي دائرة مرسومة في المستوى الإحداثي، ومركزها نقطة الأصل، وطول نصف قطرها وحدة واحدة.

٩ **النسبة المثلثية:** هي نسبة بين طولي ضلعين من أضلاع المثلث القائم الزاوية.

١٠ **اشارات الدوال المثلثية:**

لاحظ أن:

| الربع الأول: | الربع الثاني: | الربع الثالث: | الربع الرابع: |
|---|---|---|---|
| ٠° < $\theta$ < ٩٠° | ٩٠° < $\theta$ < ١٨٠° | ١٨٠° < $\theta$ < ٢٧٠° | ٢٧٠° < $\theta$ < ٣٦٠° |
| كل الدوال المثلثية موجبة | جا $\theta$، قتا $\theta$ موجبتان وباقي الدوال سالبة. | ظا $\theta$، ظتا $\theta$ موجبتان وباقي الدوال سالبة. | جتا $\theta$، قا $\theta$ موجبتان وباقي الدوال سالبة. |

**١١** الدوال المثلثية للزاويا التي قياساتها:

أولاً: $(١٨٠° - \theta)$

جا $(١٨٠° - \theta)$ = جا $\theta$ ، قتا $(١٨٠° - \theta)$ = قتا $\theta$

جتا $(١٨٠° - \theta)$ = − جتا $\theta$ ، قا $(١٨٠° - \theta)$ = − قا $\theta$

ظا $(١٨٠° - \theta)$ = − ظتا $\theta$ ، ظتا $(١٨٠° - \theta)$ = − ظتا $\theta$

ثانيًا $(١٨٠° + \theta)$

جا $(١٨٠° + \theta)$ = − جا $\theta$ ، قتا $(١٨٠° + \theta)$ = − قتا $\theta$

جتا $(١٨٠° + \theta)$ = − جتا $\theta$ ، قا $(١٨٠° + \theta)$ = − قا $\theta$

ظا $(١٨٠° + \theta)$ = ظا $\theta$ ، ظتا $(١٨٠° + \theta)$ = ظتا $\theta$

ثالثًا: $(٣٦٠° - \theta)$

جا $(٣٦٠° - \theta)$ = − جا $\theta$ ، قتا $(٣٦٠° - \theta)$ = − قتا $\theta$

جتا $(٣٦٠° - \theta)$ = جتا $\theta$ ، قا $(٣٦٠° - \theta)$ = قا $\theta$

ظا $(٣٦٠° - \theta)$ = − ظا $\theta$ ، ظتا $(٣٦٠° - \theta)$ = − ظتا $\theta$

رابعًا: $(٩٠° - \theta)$

جا $(٩٠° - \theta)$ = جتا $\theta$ ، قتا $(٩٠° - \theta)$ = قا $\theta$

جتا $(٩٠° - \theta)$ = جا $\theta$ ، قا $(٩٠° - \theta)$ = قتا $\theta$

ظا $(٩٠° - \theta)$ = ظتا $\theta$ ، ظتا $(٩٠° - \theta)$ = ظا $\theta$

خامسًا: $(٩٠° + \theta)$

جا $(٩٠° + \theta)$ = جتا $\theta$ ، قتا $(٩٠° + \theta)$ = قا $\theta$

جتا $(٩٠° + \theta)$ = − جا $\theta$ ، قا $(٩٠° + \theta)$ = − قتا $\theta$

ظا $(٩٠° + \theta)$ = − ظتا $\theta$ ، ظتا $(٩٠° + \theta)$ = − ظا $\theta$

سادسًا: $(٢٧٠° - \theta)$

جا $(٢٧٠° - \theta)$ = − جتا $\theta$ ، قتا $(٢٧٠° - \theta)$ = − قا $\theta$

جتا $(٢٧٠° - \theta)$ = − جا $\theta$ ، قا $(٢٧٠° - \theta)$ = قتا $\theta$

ظا $(٢٧٠° - \theta)$ = ظتا $\theta$ ، ظتا $(٢٧٠° - \theta)$ = ظا $\theta$

سابعًا $(٢٧٠° + \theta)$

جا $(٢٧٠° + \theta)$ = − جتا $\theta$ ، قتا $(٢٧٠° + \theta)$ = − قا $\theta$

جتا $(٢٧٠° + \theta)$ = جا $\theta$ ، قا $(٢٧٠° + \theta)$ = قتا $\theta$

ظا $(٢٧٠° + \theta)$ = − ظتا $\theta$ ، ظتا $(٢٧٠° + \theta)$ = − ظا $\theta$

**١٢** خواص كل من دالتى الجيب وجيب التمام

| الخاصية | دالة الجيب د$(\theta)$ = جا $\theta$ | دالة جيب التمام د$(\theta)$ = جتا $\theta$ |
|---|---|---|
| المجال والمدى | المجال هو $]-\infty ، \infty[$ ، المدى هو $[-١ ، ١]$ | المجال هو $]-\infty ، \infty[$ ، المدى هو $[-١ ، ١]$ |
| القيمة العظمى | تساوى ١ عند س = $\frac{\pi}{٢}$ + ٢ن $\pi$ ، ن $\in$ ص | تساوى ١ عند س = ± ٢ ن $\pi$ ، ن $\in$ ص |
| القيمة الصغرى | تساوى −١ عند $\pi$ = $\frac{٣\pi}{٢}$ + ٢ن $\pi$ ، ن $\in$ ص | تساوى −١ عند س = $\pi$ ± ن $\pi$ ، ن $\in$ ص |

**١٣** إذا قطع الضلع النهائى للزاوية $\theta$ المرسومة في الوضع القياسى دائرة الوحدة في النقطة ب(س، ص) فإن س = جتا $\theta$ ، ص = جا $\theta$ وتعرف بالدوال الدائرية.

**معلومات إثرائية**

قم بزيارة المواقع الآتية:

# اختبارات عامة

## الاختبار الأول (الجبر وحساب المثلثات)

**السؤال الأول : أختر الإجابة الصحيحة من بين الإجابات المعطاة:**

(١) إذا كان ل، م جذرى المعادلة س$^{٢}$ − ٧س + ٣ = ٠ فإن ل$^{٢}$ + م$^{٢}$ =

أ ٧ ب ٣ جـ ٥٨ د ٧٩

(٢) إذا كانت جا $\theta$ = −١ ، جتا $\theta$ = ٠ فإن $\theta$ تساوى

أ $\frac{\pi}{٢}$ ب $\pi$ جـ $\frac{٣\pi}{٢}$ د $٢\pi$

(٣) المعادلة التربيعية التى جذراها ٢ − ٣ت ، ٢ + ٣ ت هى

أ س$^{٢}$ + ٤س + ١٣ = ٠ ب س$^{٢}$ − ٤س + ١٣ = ٠ جـ س$^{٢}$ + ٤س − ١٣ = ٠ د س$^{٢}$ − ٤س − ١٣ = ٠

(٤) إذا كان أحد جذرى المعادلة س٢ − (م+٢) س+٣ = ٠ معكوسًا جمعيًا للجذر الآخر فإن م تساوى

أ ٣ ب ٢ جـ ٢ د ٣

**السؤال الثانى: أكمل**

أ الدالة د : حيث د(س) = − (س − ١) (س + ٢) موجبة فى الفترة

ب الزاوية التى قياسها ٩٣٠ تقع فى الربع

جـ إذا كان جتا $\theta$ = $\frac{١}{٢}$، جا $\theta$ = $\frac{\sqrt{٣}}{٢}$ فإن $\theta$ تساوى

د المعادلة التربيعية التى جذراها ضعف جذرى المعادلة ٢س$^{٢}$ − ٨ س + ٥ = ٠ هى

**السؤال الثالث:**

أ ضع العدد $\frac{٢ - ٣ت}{٣ + ٢ت}$ فى صورة عدد مركب. حيث ت٢ = −١.

ب إذا كان ٤ جا أ − ٣ = ٠ أوجد ق (∠أ) حيث أ ∈ ]٠، $\frac{\pi}{٢}$[

**السؤال الرابع:**

أ إذا كانت د : ح ⟵ ح حيث د(س) = − س$^{٢}$ + ٨ س − ١٥

**أولًا:** ارسم منحنى الدالة فى الفترة [١، ٧] **ثانيًا:** عين من الرسم إشارة هذه الدالة.

ب إذا كان س = ٣ + ٢ت، ص = $\frac{٤ - ٢ت}{١ - ت}$ فأوجد س + ص فى صورة عدد مركب.

**السؤال الخامس:**

أ أوجد مجموعة حل المتباينة س٢ + ٣س − ٤ ≥ ٠

ب إذا كان ظا ب = $\frac{٣}{٤}$ حيث ١٨٠° < ب < ٢٧٠° فأوجد قيمة: جتا (٣٦٠° − ب) − جتا (٩٠° − ب)

## الاختبار الثانى (الجبر وحساب المثلثات)

**السؤال الأول: أكمل ما يأتى**

(١) أبسط صورة للعدد التخيلى $ت^{٤٢}$ =

(٢) إذا كان جذرا المعادلة س٢ − ٦س + ل = ٠ حقيقيان ومتساويان فإن ل =

(٣) إذا كان $٠° < \theta < ٩٠°$ وكان جا٢$\theta$ = جتا ٣$\theta$ فإن ق($\measuredangle \theta$) .....

(٤) مدى الدالة د حيث د($\theta$) = $\frac{٣}{٢}$ جا $\theta$ هو

**السؤال الثانى: أختر الإجابة الصحيحة من بين الاجابات المعطاة :**

(١) المعادلة: $س^{٣}$(س − ١) (س + ١) = ٠ من الدرجة:

أ الأولى ب الثانية ج الثالثة د الرابعة

(٢) إذا كان جذرا المعادلة س٢ + ٣س − م = ٠ حقيقيان ومختلفان فإن م تساوى :

أ ١ ب ٢ ج ٣ د ٤

(٣) إذا كان مجموع قياسات زوايا أى مضلع منتظم تساوى ١٨٠° (ن − ٢) حيث ن عدد الأضلاع فإنقياس زاوية المثمن المنتظم بالقياس الدائرى تساوى:

أ $\frac{\pi}{٣}$ ب $\frac{\pi}{٢}$ ج $\frac{٣\pi}{٤}$ د $\frac{٢\pi}{٣}$

(٤) إذا كان ٢جتا $\theta$ = $\sqrt{٣}$ ، $\pi < \theta < \frac{٣}{٢}\pi$ فإن ق($\measuredangle \theta$) يساوى

أ $\frac{\pi}{٣}$ ب $\frac{٦\pi}{٧}$ ج $\frac{٤\pi}{٣}$ د $\frac{٧\pi}{٦}$

**السؤال الثالث :**

أ أوجد قيمة ك التى تجعل أحد جذرى المعادلة : ٤ك $س^{٢}$ + ٧س + $ك^{٢}$ + ٤ = ٠ هو المعكوس الضربى للجذر الآخر.

ب إذا كان جا$\theta$ = جا ٧٥٠° جتا ٣٠٠° + جا(− ٦٠°) ظتا ١٢٠° حيث $٠° < \theta < ٣٦٠°$ فأوجد ق($\measuredangle \theta$) .

**السؤال الرابع:**

أ أولا: أوجد قيمتى أ ، ب اللتين تحققان المعادلة : ١٢ + ٣أ ت = ٤ب − ٢٧ ت

ثانيا: أوجد فى ح مجموعة حل المتباينة: س (س + ١) − ٢ ≥ ٠

ب زاوية مركزية قياسها $\theta$ مرسومة فى دائرة طول نصف قطرها ١٨ سم وتحصر قوسا طوله ٢٦ سم . أوجد $\theta$ بالقياس الستينى.

**السؤال الخامس:**

أ إذا كان مجموع الأعداد الصحيحة المتتالية (١ + ٢ + ٣ + ..... + ن) يعطى بالعلاقة حـ = $\frac{ن}{٢}$ (١ + ن) فكم عددا صحيحا متتاليا بدءا من العدد ١ يكون مجموعها مساويا ٢١٠

ب إذا كان جاس = $\frac{٤}{٥}$ حيث $٩٠° < س < ١٨٠°$ فأوجد جا(١٨٠° − س) + ظا(٣٦٠° − س) + ٢ جا(٢٧٠° − س).

## الاختبار الثالث (الهندسة)

**السؤال الأول: أكمل ما يأتى**

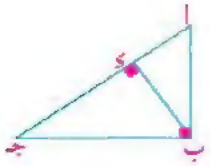


(١) المضلعان المشابهان لثالث يكونان .....

(٢) فى الشكل المقابل :

أولا: $(\text{أب})^2 = \text{أء} \times$ ..... ، $(\text{جـب})^2 = \text{جـأ} \times$ .....

ثانيا: $\text{ء أ} \times \text{ء جـ} =$ .....

ثالثا: $\text{أب} \times \text{ب جـ} =$ ..... × .....

**السؤال الثانى: أختر الإجابة الصحيحة من بين الاجابات المعطاة :**

(١) مستطيلان متشابهان الأول طوله ٥ سم والثانى طوله ١٠ سم ، فإن النسبة بين محيط الأول إلى محيط الثانى يساوى:

أ ١ : ٥ ب ١ : ٣ جـ ١ : ٢ د ٢ : ١

(٢) أى من المثلثين الآتيين متشابهين؟

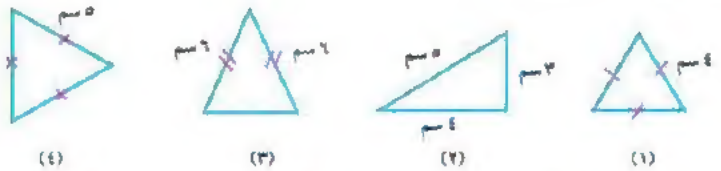


أ (١) ، (٤) ب (٢) ، (٤) جـ (١) ، (٣) د (٢) ، (٤)

(٣) إذا كانت النسبة بين محيطى مثلثين متشابهين ١ : ٤ فإن النسبة ين مساحتى سطحيهما تساوى

أ ١ : ٢ ب ١ : ٤ جـ ١ : ٨ د ١ : ١٦

(٤) فى الشكل المقابل: كل التعبيرات الرياضية التالية صحيحه ماعدا العبارة :

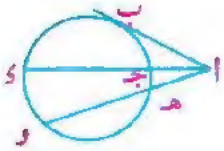


أ $(\text{أب})^2 = \text{أجـ} \times \text{أو}$ ب $(\text{أب})^2 = \text{أهـ} \times \text{أو}$

جـ $\text{أجـ} \times \text{أو} = \text{أهـ} \times \text{أو}$ د $\text{أجـ} \times \text{جـء} = \text{أهـ} \times \text{هـو}$

**السؤال الثالث :**

أ فى الشكل المقابل: $\triangle$ أء هـ ~ $\triangle$ أب جـ أثبت أن: $\overline{\text{ء هـ}} // \overline{\text{ب جـ}}$

وإذا كان: أء = ٤ سم ، ء ب = ٢ سم ، هـ جـ = ١,٥ سم، ب جـ = ٥ سم.

أوجد طول كل من $\overline{\text{أهـ}}$ ، $\overline{\text{ء هـ}}$

ب أب جـ مثلث، ء $\in \overline{\text{ب جـ}}$ بحيث ب ء = ٥ سم ، ء جـ = ٣ سم ، هـ $\in \overline{\text{أجـ}}$ بحيث أهـ = ٢ سم ، جـ هـ = ٤ سم.

أثبت أن $\triangle$ ء هـ جـ ~ $\triangle$ أ ب جـ ، ثم أوجد النسبة بين مساحتى سطحيهما

**السؤال الرابع :**

أ) في الشكل المقابل: ق(∠ أ د هـ) = ق(∠ جـ)

أ د = ٤ سم ، أ هـ = ٥ سم ، د هـ = ٦ سم ، هـ جـ = ٣ سم

أوجد طول كل من : $\overline{\text{د ب}}$ ، $\overline{\text{ب جـ}}$




ب) $\overline{\text{جـ ب}}$ ∩ $\overline{\text{و هـ}}$ = {أ}

أ ب = ٣ سم ، ب جـ = ٢ سم ، أ و = ٧,٥ سم

أوجد طول $\overline{\text{هـ و}}$

**السؤال الخامس :**

أ) أ د متوسط في المثلث أ ب جـ ، نصفت ∠ أ د ب بمنصف قطع $\overline{\text{أ ب}}$ في هـ ، نصفت ∠ أ د جـ بمنصف قطع $\overline{\text{أ جـ}}$ في و، ورسم $\overline{\text{هـ و}}$ ، أثبت أن $\overline{\text{هـ و}}$ // $\overline{\text{ب جـ}}$

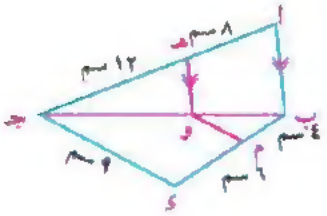


ب) في الشكل المقابل:

$\overline{\text{أ ب}}$ // $\overline{\text{هـ و}}$ ، أ هـ = ٨ سم، جـ هـ = ١٢ سم، جـ و = ٩ سم ،

ب م = ٤ سم ، د م = ٦ سم

أولا: أوجد طول $\overline{\text{ب و}}$

ثانيا: أثبت أن : $\overline{\text{و م}}$ // $\overline{\text{جـ د}}$

## الاختبار الرابع (الهندسة)

**السؤال الأول : أكمل ما يأتي**

١) أي مضلعين منتظمين لهما نفس عدد الأضلاع يكونان .....

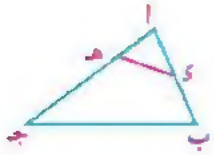


٢) في الشكل المقابل:

إذا كان المثلث △ أ د هـ ~ △ أ جـ ب

فإن ق(∠ أ د هـ) = ق(∠ .....)

٣) إذا تقاطع المستقيمان الحاويان للوترين $\overline{\text{د هـ}}$ ، $\overline{\text{س ص}}$ في نقطة ن فإن: ن د . ن هـ = .....

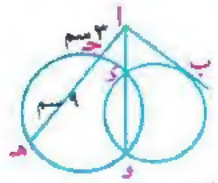


٤) في الشكل المقابل: إذا كان أ جـ = ٣ سم ، جـ هـ = ٩ سم فإن أ ب = .....

**السؤال الثاني: أختر الإجابة الصحيحة من بين الاجابات المعطاة:**

١) أي من المضلعين الآتيين متشابهين؟

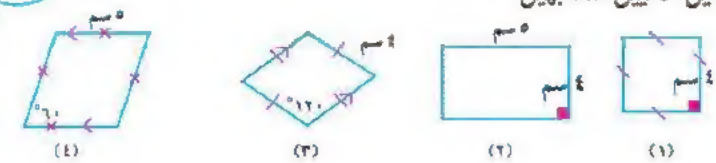


(١) (٢) (٣) (٤)

أ المضلعان (١) ، (٢)  ب المضلعان (١) ، (٣)  ج المضلعان (٣) ، (٤)  د المضلعان (٢) ، (٤)

(٢) إذا كانت النسبة بين مساحتى سطحى مضلعين متشابهين ١٦ : ٢٥ فإن النسبة بين طولى ضلعين متناظرين فيهما تساوى : أ ٢ : ٥  ب ٤ : ٥  ج ١٦ : ٢٥  د ١٦ : ٤١

(٣) فى الشكل المقابل: جميع التعبيرات الرياضية التالية صحيحة ماعدا التعبير :

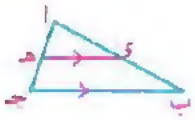


أ $\frac{\text{اء}}{\text{ءب}} = \frac{\text{اهـ}}{\text{هـجـ}}$  ب $\frac{\text{اء}}{\text{ءب}} = \frac{\text{ءهـ}}{\text{بجـ}}$

ج $\frac{\text{اء}}{\text{اب}} = \frac{\text{اهـ}}{\text{اجـ}}$  د $\frac{\text{اب}}{\text{بء}} = \frac{\text{اجـ}}{\text{هـجـ}}$

(٤) فى الشكل المقابل: طول $\overleftrightarrow{\text{مع}}$ تساوى :

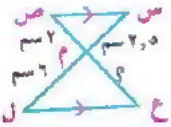


أ ٣,٦ سم  ب ٤ سم  ج ٤,٢ سم  د ٤,٨ سم

**السؤال الثالث :**

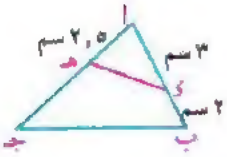


أ فى الشكل المقابل: △ اب جـ ~ △ ا هـ ء

أثبت أن الشكل ب جـ هـ ء رباعى دائرى وإذا كان اء = ٣ سم ، ب ء = ٢ سم ، ا هـ = ٢,٥ سم . أوجد طول هـ جـ.

ب ا ب جـ ء شكل رباعى تقاطع قطراه فى هـ . رسم $\overleftarrow{\text{هـو}}$ // $\overleftarrow{\text{جـب}}$ ويقطع $\overline{\text{اب}}$ فى و رسم $\overleftarrow{\text{هـم}}$ // $\overleftarrow{\text{جـء}}$ ويقطع $\overline{\text{اء}}$ فى م . أثبت أن $\overleftarrow{\text{وم}}$ // $\overleftarrow{\text{بء}}$ .

**السؤال الرابع :**

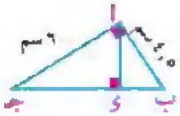


أ فى الشكل المقابل: و(∠ ب ا جـ) = ٩٠° ، $\overline{\text{اء}}$ ⊥ $\overline{\text{بجـ}}$ ، اب = ٤,٥ سم ، ا جـ = ٦ سم. أوجد طول كل من $\overline{\text{بء}}$ ، $\overline{\text{ءجـ}}$ ، $\overline{\text{اء}}$

ب ا ب جـ ء شكل رباعى فيه ب جـ = ٢٧ سم ، ا ب = ١٢ سم ، اء = ٨ سم ، ء جـ = ١٢ سم ، اجـ = ١٨ سم ، أثبت أن △ ب ا جـ ~ △ ا ء جـ وأوجد النسبة بين مساحتى سطحيهما .

**السؤال الخامس :**

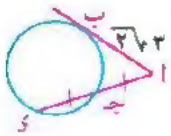


أ فى الشكل المقابل: $\overline{\text{اب}}$ مماس للدائرة ، جـ منتصف $\overline{\text{اء}}$

ا ب = ٣√٢ أوجد طول $\overline{\text{اجـ}}$

ب ا ب جـ مثلث فيه ا ب = ٨ سم ، اجـ = ١٢ سم ، ب جـ = ١٥ سم ، $\overleftarrow{\text{اء}}$ ينصف ∠ ا ويقطع $\overline{\text{بجـ}}$ فى ء ، ثم رسم $\overline{\text{ء هـ}}$ // $\overline{\text{با}}$ ويقطع $\overline{\text{اجـ}}$ فى هـ ، أوجد طول كل من $\overline{\text{بء}}$ ، $\overline{\text{جـهـ}}$

| | |
|---|---|
| المقاس | ٨٢ × ٥٧ $\frac{١}{٨}$ |
| عدد الصفحات بالغلاف | ١٧٢ صفحة |
| ورق المتن | ٧٠ جرام |
| ورق الغلاف | كوشيه ١٨٠ جم |
| ألوان المتن | ٤ لـــــون |
| ألوان الغلاف | ٤ لـــــون |
| رقم الكتـــــــــاب | ٤١٢/١٠/٣/١١/١/٣٠ |

http://elearning.moe.gov.eg

مطابع دار الكتب الجامعية